نافس تدريبات نافس 7 غير محلول

تم تحميل هذا الملف من موقع المناهج السعودية	
موقع المناهج ⇦ المناهج السعودية ⇦ الصف السادس ⇦ رياضيات ⇦ الفصل الثاني ⇦ ملفات متنوعة ⇦ الملف	
تاريخ إضافة الملف على موقع المناهج: 13-03-2026 03:37:53	
المزيد من مادة رياضيات:	ملفات ا كتب للمعلم ا كتب للطالب ا اختبارات الكترونية ا اختبارات ا حلول ا عروض بوربوينت ا أوراق عمل منهج انجليزي ا ملخصات وتقارير ا مذكرات وبنوك ا الامتحان النهائي ا للمدرس
	إعداد: مجموعة رفعة

التواصل الاجتماعي بحسب الصف السادس					
صفحة المناهج السعودية على فيسبوك					
المواد على تلغرام	التربية الاسلامية	اللغة العربية	اللغة الانجليزية	الرياضيات	

المزيد من الملفات بحسب الصف السادس والمادة رياضيات في الفصل الثاني	
1	نافس تدريبات نافس 6 غير محلول
2	نافس تدريبات نافس 5 التحويلات الهندسية في المستوى الإحداثي غير محلول
3	نافس تدريبات نافس 4 غير محلول
4	نافس تدريبات نافس 3 العمليات على الكسور العشرية غير محلول
5	نافس تدريبات نافس 2 غير محلول

الصف السادس

المادة رياضيات

تدريبات نافس

معارف ومهارات أساسية لابد من إتقانها

مدرسة:

تدريب رقم (٧)

الاسم: .....

الفصل ١ ٢ ٣

اختر الاجابة الصحيحة فيما يلي وظلل في المكان المخصص:

الدرجة

١

من خلال التمثيل البياني التالي ، الطالبة التي يقل مستواها عن ٧ درجات هي :

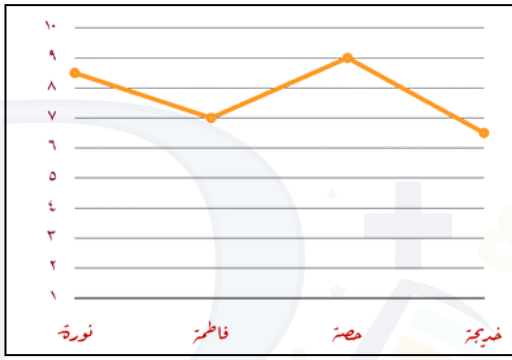

أ - نورة ب- فاطمة

ج - حصة د - خديجة

٢

التمثيل المجاور يوضح درجات ستة طلاب في مادة العلوم الطالب الذي درجته تساوي متوسط درجتي محمد وعلي هو :

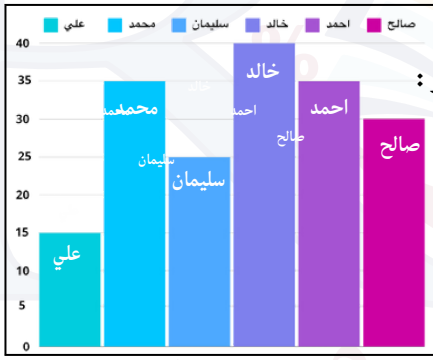

أ - صالح ب- أحمد

ج - سليمان د - خالد

٣

التمثيل التالي يبين عدد الأطفال في كل لعبة .إذا كانت كل لعبة تتسع لـ ٥٠ طفلاً،فكم طفلًا إضافيا يمكن أن تستوعب اللعبة رقم ٢؟

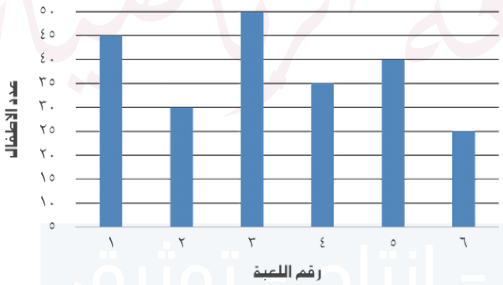

أ - ٤٠ ب- ٣٠

ج - ٢٥ د - ٢٠

٤

بإستعمال التمثيل بالنقاط ، كم عدد الأشخاص الذين تجاوزت أوزانهم ٤٠ كجم؟

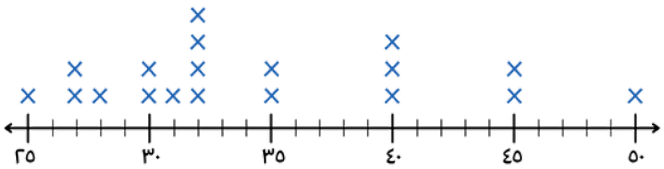

أ - ١ ب- ٢

ج - ٣ د - ٤

٥

القطاع الدائري أدناه يبين توزيع ١٢٠ طالباً يمارسون الرياضة.وقياس الزوايا ١ ، ٢ ، ٣ متساوٍ أي من الأعمدة البيانية التالية يمثل هذا القطاع ؟

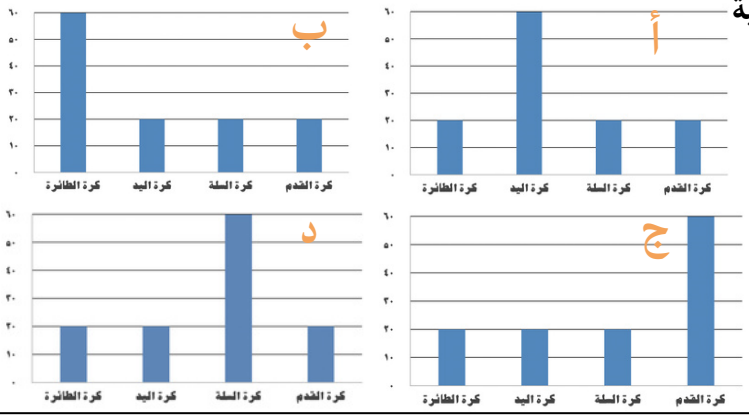

المؤشرات

١- يجمع بيانات كمية ونوعية واقعية، وينظمها في جداول تكرارية ويمثلها باستخدام النقاط والخطوط البيانية، والأعمدة، والقطاعات الدائرية.

٢- يقرأ البيانات الممثلة بالنقاط، والخطوط البيانية، والأعمدة، والقطاعات الدائرية، ويفسرها.

٣- يقارن بين التمثيلات المختلفة للبيانات، ويحدد التمثيل الأنسب لبيانات معطاة.

التظليل

الاسم

الفصل

1 2 3 4 5 6 7 8

ZIPGRADE.COM

تدريب نافس (7576)

@moth_vip