أسئلة التهيئة والاستعداد للاختبارات المركزية مع نموذج الإجابة 1446ه الطائف صباحي

تم تحميل هذا الملف من موقع المناهج السعودية

موقع المناهج ⇦ المناهج السعودية ⇦ الصف السادس ⇦ رياضيات ⇦ الفصل الثاني ⇦ ملفات متنوعة ⇦ الملف

تاريخ إضافة الملف على موقع المناهج: 26-05-2026 09:49:24

المزيد من مادة رياضيات:	ملفات ا كتب للمعلم ا كتب للطالب ا اختبارات الكترونية ا اختبارات ا حلول ا عروض بوربوينت ا أوراق عمل منهج انجليزي ا ملخصات وتقارير ا مذكرات وبنوك ا الامتحان النهائي ا للمدرس

التواصل الاجتماعي بحسب الصف السادس

صفحة المناهج السعودية على فيسبوك					
المواد على تلغرام	التربية الاسلامية	اللغة العربية	اللغة الانجليزية	الرياضيات	

المزيد من الملفات بحسب الصف السادس والمادة رياضيات في الفصل الثاني

1	أسئلة التهيئة والاستعداد للاختبارات المركزية مع نموذج الإجابة 1446ه الطائف صباحي
2	خرائط مفاهيم القياس المحيط والمساحة والحجم
3	نموذج إجابة الاختبار المركزي الدور الأول 1445ه ملف1
4	اختبار الدور الأول 1445ه غير محلول نموذج أول حائل
5	نموذج إجابة أسئلة اختبار الدور الأول 1445ه تبوك

المملكة العربية السعودية
وزارة التعليم
الإدارة العامة للتعليم بمنطقة جازان
الشؤون التعليمية
إدارة تقويم التحصيل المعرفي والمهاري

وزارة التعليم
Ministry of Education

المادة: رياضيات
الصف: السادس الابتدائي
الفترة: الاولى
اليوم: الثلاثاء التاريخ: ٢٧/ ١١/ ١٤٤٥هـ
الزمن: ساعتان
عدد الأوراق: ٥

أسئلة اختبار مادة الرياضيات الفصل الدراسي (الثالث) الدور (الأول) للعام الدراسي ١٤٤٥هـ

اسم الطالب	.....		مكتب التعليم	.....	
المدرسة	.....	الفصل	.....	رقم الجلوس	.....

السؤال	س١	س٢	س٣	المجموع
الدرجة رقمًا				
الدرجة كتابة				

اسم المصحح		اسم المراجع		اسم المدقق	
التوقيع		التوقيع		التوقيع	

السؤال الأول: اختر الإجابة الصحيحة من بين البدائل أدناه بوضع دائرة على رمز البديل الصحيح:

٢٠	

١ قِيمة س فِي الشَّكْل التَّالي هِي:

(أ) ٨٠ (ب) ١٠٠ (ج) ١٣٠ (د) ١٥٠

٢ يَأْخُذ مريض لِتْرًا مِن السَّوائل كُلَّ ٨ ساعات . اِسْتعْمل جَدوَل النِّسْبة لِإيجَاد عدد السَّاعات اَلتِي يَحْتاج إلَيْهَا اَلمريض لِأخذ ٦ لِتْرَات مِن السَّوائل بِهَذا اَلمُعدل.

السوائل (لتر)	١	٦
الزمن(ساعات)	٨	

(أ) ٤٠ (ب) ٤٨ (ج) ٥٠ (د) ٥٥

٣ تُكتَب النِّسْبة المئويَّة ٦٠ % فِي صُورَة كَسْر اِعْتياديٍ فِي أبسَط صُورَة .....

(أ) $\frac{٦}{١٠٠}$ (ب) $\frac{٦٠}{١٠}$ (ج) $\frac{٣}{١٠}$ (د) $\frac{٣}{٥}$

٤ تُقدّم إحْدى حَمَلات اَلحَج خِدْمَات مُتَنوعَة كمَا فِي الجدْول المجاور .
ما العدد اَلكُلي لِلنَّواتج الممْكنة لِاخْتيار وَسِيلَة السَّفر وَمَكان اَلمُخيم ؟

وسيلةُ السفر	مكان المخيم
طائرة	منطقة أ
حافلة	منطقة ب
سيارة	منطقة ج
	منطقة د

(أ) ٣ (ب) ٤ (ج) ٦ (د) ١٢

اقلب الصفحة

تعليم ريادي MOE.SA.JAZ MOE_JZN
almanahj.com/sa 2026 2025

اسم الطالب / ..... رقم الجلوس/ .....

تابع السؤال الأول: اختر الإجابة الصحيحة من بين البدائل أدناه بوضع دائرة على رمز البديل الصحيح:

٥ تُكتَب النِّسْبة المئويَّة ٧٦٪ فِي صُورَة كَسْر عَشري .....

(أ)	٧٦	(ب)	٧,٦	(ج)	٠,٧٦	(د)	٠,٠٧٦

٦ صَمَّم سَلْمان شِعارًا لِمَحل تِجاريٍ مِن الورق اَلمُقوى على شَكْل مُتَوازي أَضلَاع مِساحَته ١٧٥٠سم^{٢}، وَطُول قاعدَته ٥٠ سم ، فأوْجد اِرتِفاع الشِّعَار بالسنتيمتر .

(أ)	٤٢	(ب)	٤٠	(ج)	٣٦	(د)	٣٥

٧ قَدْر مُحيط الدَّائرة التِي طُول قُطْرِها ٩ سم ؟

(أ)	٢١	(ب)	٢٥	(ج)	٢٧	(د)	٢٩

٨ أكتُب $\frac{٩}{٢٠}$ فِي صُورَة نِسْبَة مِئويَّة .

(أ)	٤٥٪	(ب)	٤٠٪	(ج)	٣٥٪	(د)	٣٠٪

٩ تَقدِير قِيَاس الزَّاوية المجاورة هُو . . .

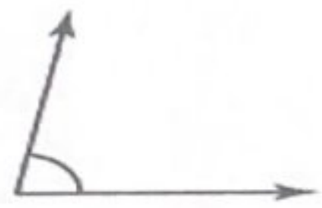

(أ)	٣٠	(ب)	٨٠	(ج)	٩٠	(د)	١٢٠

١٠ مُحيط دَائِرة قُطْرِها ١٥م . مُقَربا إلى أقرَب جُزْء مِن عَشرَة هُو :

(أ)	٤,٧١	(ب)	٤٧	(ج)	٤٧,١	(د)	٤٧١

١١ بِحَسب الجدْول المجاور ، أيْ مِمَّا يَأتِي يُكَافِئ ثمن الطَّماطم ؟

خضروات البيت		
بطاطس	٦ كجم ثمنُها	١٥ريالاً
خيار	٩ كجم ثمنُها	٣٢ ريالاً
طماطم	٦ كجم ثمنُها	٢٤ ريالاً

(أ)	١٥ كجم ثمنها ٦٠ ريالاً	(ب)	١٢كجم ثمنها ٣٦ ريالاً	(ج)	٨كجم ثمنها ٣٠ ريالاً	(د)	٤كجم ثمنها ٢٠ريالاً

١٢ تبيعُ إحدِى المكتباتِ كُرّاساتِ؛ طولُ الواحدةِ منها ١٣ سم ،وعرضُها ٦سم ، وارتفاعُها ٢.٥ سم ، أوجدْ حجمَ الكراسةِ بالسنتيمتر المكعب .

(أ)	١٩٠	(ب)	١٩٣	(ج)	١٩٥	(د)	١٩٧

١٣ يَدُق قَلْب فَاطِمة ٤٢٠ مَرَّة فِي ٤ دَقائِق . فكم مُرَّة يَدُق قَلبُها فِي الدَّقيقة الواحدة بِهَذا اَلمُعدل ؟

(أ)	١٠٣	(ب)	١٠٥	(ج)	١٠٧	(د)	١٠٩

١٤ إذَا كان قِيَاس زاويتيْنِ فِي مُثلَّث هُو ٢٥° ، ٦٠° فَإن قِيَاس الزَّاوية الثَّالثة هُو :

(أ)	٩٥°	(ب)	٩٠°	(ج)	٨٥°	(د)	٨٠°

اقلب الصفحة

MOE_JZN MOE.SA.JAZ تعليم ريادي
almanahj.com/sa

اسم الطالب / ..... رقم الجلوس/ .....

تابع السؤال الأول: اختر الإجابة الصحيحة من بين البدائل أدناه بوضع دائرة على رمز البديل الصحيح:

١٥	دَائِرة قُطْرِها ٢٦ سم ، مَا طُول نِصْف قُطْرِها بِالْسنْتميتْر ؟							
	(أ)	٥	(ب)	٧	(ج)	١١	(د)	١٣
١٦	مَجمُوع قِيَاس الزَّاويتَان المتتامَّتَان هُو.....							
	(أ)	٧٠°	(ب)	٧٥°	(ج)	٨٠°	(د)	٩٠°
١٧	الشَّكْل الرُّباعيّ اَلذِي جميع أضْلاعه مُتطابقة وجميع زوايَاه قَوائِم وأضْلاعه المتقابلة مُتوازية هُو.....							
	(أ)	المعين	(ب)	المربع	(ج)	المستطيل	(د)	شبة المنحرف
١٨	هُنَاك سِتَّة نَواتِج مُتساوية الاحْتمال عِنْد رَمْي مُكعَّب أرقَام تَحمُل أوَجهه الأرْقام مِن ١ إلى ٦ أوجَد احتِمال ظُهُور الرَّقْم ٢ أو ٣ أو ٤ فِي أبسَط صُورَة .							
	(أ)	$\frac{١}{٢}$	(ب)	$\frac{١}{٣}$	(ج)	$\frac{١}{٤}$	(د)	$\frac{١}{٥}$
١٩	تَحتَفِظ مَيمُونة بِمجوْهراتهَا فِي عُلبَة على شَكْل مُتَوازِي مُسْتطيلات طُولهَا ١٨ سم، وَعَرضهَا ١٥ سم، وارْتفاعهَا ١٢ سم، فَإن مِساحة سَطْح هَذِه اَلعُلبة بِالْسنْتميتْر اَلمُربع هُو							
	(أ)	١٣٣٠	(ب)	١٣٣٢	(ج)	١٣٣٤	(د)	١٣٣٦
٢٠	إذَا كَانَت قِطْعَة بَسكوِيت على شَكْل مُثلَّث اِرْتفاعه ٤ سم وَطُول قاعدَته ٥ سم، فَإن مِساحتهَا بِالْسنْتميتْر اَلمُربع هِي							
	(أ)	١٠	(ب)	٨	(ج)	٦	(د)	٤

	١٢

السؤال الثاني: أكمل الفراغات الاتية مستعينا بالشكل المجاور:

١ يبيّن الجدْول المجاور أسعَار تَذاكِر الدُّخول لِحديقة الحيوانات فِي جُدَّة . فَإن أسعَار التَّذاكر لدُّخول أسرَة مُكَونَة مِن أب وَأم وَخَال وَأربعَة أطفَال هِي .....

الشخص	الكبار	الصغار
سعر التذكرة (ريال)	١٠	٥

٢ يُبيّن التَّمْثيل بِالْأعْمدة عدد أنواع الفطائر الموْجودة فِي مَخبِز مَا . فَإن مَجمُوع فَطائِر الدَّجَاج والْكَرز يُسَاوِي .....

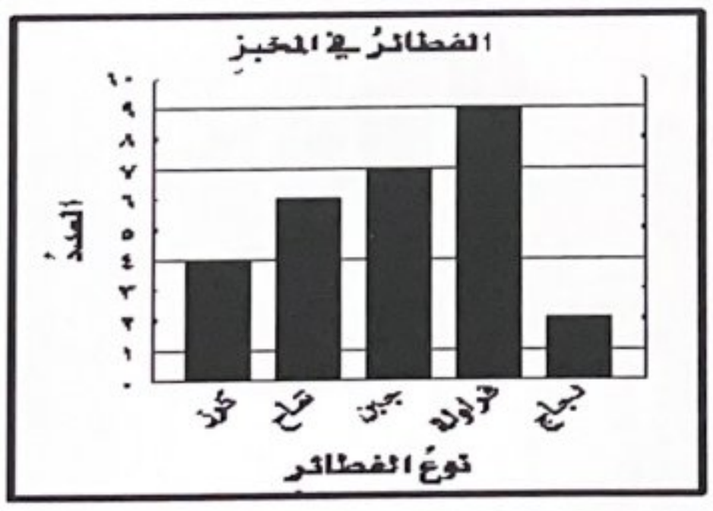

٣ مِن الشَّكْل المجاور طُول الضِّلْع الأطْول فِي اَلمُثلث يُسَاوِي طُول الضِّلْع اَلأقصر . . . . . مَرَّة

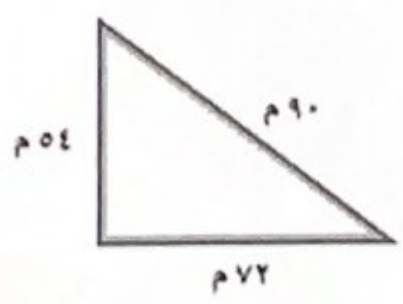

اقلب الصفحة

MOE_JZN MOE.SA.JAZ تعليم ريادي
almanahj.com/sa 2026 2025

اسم الطالب / ..... رقم الجلوس/ .....

تابع السؤال الثاني: أكمل الفراغات الاتية مستعينا بالشكل المجاور:

٤	قِيمة س فِي مُتَوازِي الأضْلاع المجاور هِي.....	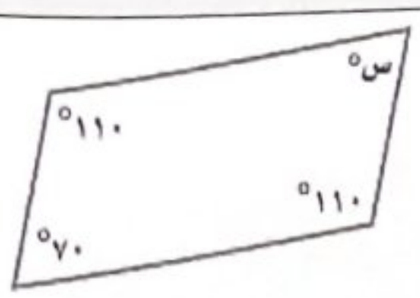
٥	يُصنِّف اَلمُثلث وَفْق زواياهَا بِأنه مُثلَّث.....	
٦	مِساحة مُتَوازِي الأضْلاع هِي .....وَحدَة مُرَبعَة .	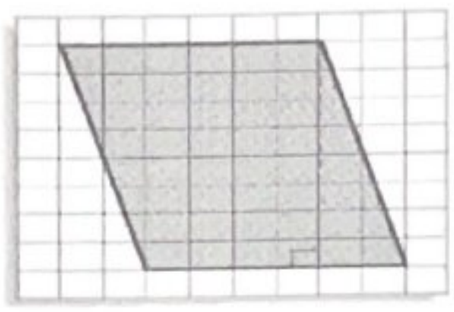
٧	مِساحة اَلمُثلث هِي ..... وَحدَة مُرَبعَة .	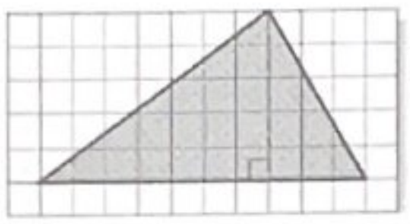

ب) فِي المتوسِّط تَحتَوِي ثَلاثَة تُفَّاحَات على ١٨٠ سُعْرًا حَرارِيا ، فكم تُفَّاحة فِي المتوسِّط تَحتَوِي على ٣٦٠ سُعْر حَرارِي ؟

.....

.....

.....

.....

ج) تمَّ اِختِيار ثَلاثَة طُلَّاب فَيصِل وَعلَى وَماجِد لِتمْثِيل اَلصَّف السَّادس فِي رِحْلَة مَدرسِية . ويرْغب هؤلاء الطُّلَّاب فِي أن يجْلسوا مُتجاورين فِي الحافلة . فَبكُم طَرِيقَة مُختلفَة يُمْكنهم اَلجُلوس ؟

.....

.....

.....

.....

.....

اقلب الصفحة

MOE_JZN MOE.SA.JAZ تعليم ريادي

اسم الطالب / ..... رقم الجلوس/ .....

	٨

السؤال لثالث: أجب عن الفقرات التالية حسب المطلوب من كل مسألة:

أ) اتَّفق ١٢ شخْصًا على القيَام بِرحْلة جَماعِية إلى البَر، فجمعوا لِذَلك ٨٠٠ رِيَال ، إذَا بَقِي مَعهُم بَعْد دَفْع التَّكاليف كَافَة ٢٠ رِيالا ، فكم رِيالا تَكلِفة الشَّخْص الواحد ؟

.....

.....

.....

.....

ب) فِي زَهرِية مَجمُوعة وَرَدات ، ٨ مِنهَا زَرْقاء و ٦ خَضْراء و ٤ صَفْراء و ٩ حَمْراء ، وَأراد خَالِد اِختِيار وَردَة دُون النَّظر إلى الوردات ، فمَا احتِمال **أَلَّا** تَكُون الورْدة حَمْراء فِي أَبسَط صُورَة ؟

.....

.....

.....

.....

ج) يُضَاف ٤ أكواب مِن السُّكَّر لِكلِّ ١٢ أكُوابَ مِن التُّوتِ لِصناعة مُربَّى التُّوتِ . اِسْتعْمل جَدوَل النِّسْبة لِتَجد كَميَّة السُّكَّر اَلتِي تُضَاف إلى ٣ أكوَاب مِن التُّوتِ لِصنْع اَلمُربى .

سكر(كوب)	٤		
توت(كوب)	١٢		٣

.....

.....

.....

.....

انتهت الأسئلة

مع خالص الدعوات بدوام التوفيق والسداد

MOE_JZN MOE.SA.JAZ تعليم ريادي
almanahj.com/sa 2026 2025