إجابة الاختبار النهائي الفترة الدراسية الثانية 1447ه

تم تحميل هذا الملف من موقع المناهج السعودية
موقع المناهج ⇦ المناهج السعودية ⇦ الصف الخامس ⇦ علوم ⇦ الفصل الثاني ⇦ ملفات متنوعة ⇦ الملف
تاريخ إضافة الملف على موقع المناهج: 20-05-2026 17:50:50
المزيد من مادة علوم: ملفات ا كتب للمعلم ا كتب للطالب ا اختبارات الكترونية ا اختبارات ا حلول ا عروض بوربوينت ا أوراق عمل منهج انجليزي ا ملخصات وتقارير ا مذكرات وبنوك ا الامتحان النهائي ا للمدرس
إعداد: وداد الحربي

التواصل الاجتماعي بحسب الصف الخامس					
صفحة المناهج السعودية على فيسبوك					
المواد على تلغرام	التربية الاسلامية	اللغة العربية	اللغة الانجليزية	الرياضيات	

المزيد من الملفات بحسب الصف الخامس والمادة علوم في الفصل الثاني	
1	إجابة نموذج اختبار نهاية الفصل 1445ه
2	الدليل الارشادي ونموذج إجابة اختبار 1445ه
3	جدول مواصفات اختبار الفترة الثانية
4	شرح درس الضوء وخصائصه
5	اختبار المادة الصوت الطقس الغلاف الجوي الكيمياء الفيزياء الضوء

المملكة العربية السعودية	(بسم الله الرحمن الرحيم)	الصف الخامس الإبتدائي
(وزارة التعليم)		المادة : علوم
الإدارة العامة للتعليم بمنطقة		الزمن : ساعتان
المدرسة الابتدائية		التاريخ : / / ١٤٤٨

((الاختبار النهائي لمادة العلوم للصف الخامس الابتدائي

الفترة الدراسية الثانية / ١٤٤٧ /١٤٤٨)) -(الدور الأول)

اسم الطالب/ة :.....((نموذج إجابة)).....رقم الجلوس :.....

رقم السؤال	الدرجة المستحقة		اسم المصحح/ة	اسم المراجع/ة	اسم المدقق/ة
	رقماً	كتابة			
السؤال الأول (١٥)					
السؤال الثاني (١٥)					
السؤال الثالث (١٠)					
المجموع					

السؤال الأول : اختار/ي الإجابة الصحيحة : (١٥درجة)

١-أصغر وحده في المادة وتحمل صفات العنصر :			
الجزيء	العنصر	المركب	الذرة
٢-عدد مرات اهتزاز جسم ما خلال ثانية واحدة .			
انعكاس الصوت	الصدى	وحدة الصوت	التردد
٣- من أنواع العواصف المطيرة التي تتميز بحدوث البرق والرعد			
الاعصار القمعي	التيار المائي	العواصف الرملية	العاصفة الرعدية
٤- أي التغيرات التالية تغير كيميائي :			
انصهار الجليد	ذوبان الملح	هطول المطر	حرق الخشب
٥- في أي طبقات الغلاف الجوي تحدث تقلبات الطقس			
الستراتوسفير	الميزوسفير	الثيروسفير	التروبوسفير
٦-أي المواد التالية يستعمل للقضاء على البكتيريا			
الكلور	الصوديوم	النيتروجين	الكالسيوم
٧- تسمى الدرجة التي تنصهر عندها المادة :			
درجة الانصهار	درجة الغليان	تمدد حراري	انكماش
٨- متوسط الحالة الجوية في مكان ما خلال فترة زمنية طويلة .			
المناخ	الطقس	الضغط	الجو
٩- عاصفة كبيرة دوارة ذات كبيرة ذات ضغط منخفض في مركزها			
إعصار قمعي	عاصفة ثلجية	تياراً مائياً	عاصفة رملية
١٠- في أي مما يلي تكون سرعة الصوت أكبر :			
الماء	الحديد	الزيت	الهواء
١١- عند سقوط كرة من ارتفاع ما فإنها تكتسب طاقة			
كيميائية	حركية	ضوئية	وضع
١٢-أي مما يلي ليس شكل من أشكال الهطول الصلب :			
الثلج	المطر	البرد	المطر المتجمد
١٣- ما لذي يحدث عند ارتفاع درجة حرارة جسم ما :			
تكثف	تمدد	انكماش	تجمد
١٤- ما السطح المائل الذي يلتف حول الأسطوانة:			
الوتد	البرغي	العجلة والمحور	البكرة
١٥- القوة المبذولة لتحريك جسم ما مسافة معينة			
القوة	الشغل	الاحتكاك	الحركة

almanahj.com/ae 2025 2026

١٥

السؤال الثاني : أ)_صل/ي كل كلمة بما يناسبها : (٥ درجات)

١-المركب .	(٤)	جهاز يستخدم لقياس الضغط الجوي .
٢- ظل المطر	(١)	مادة نقية تتألف من اتحاد عنصرين أو أكثر .
٣-الفوتون	(٢)	منطقة من الجبل تقع في الجانب غير المواجه للريح .
٤- البارومتر	(٥)	كمية الطاقة المستعملة لإيجاد عمل ما.
٥- الشغل	(٣)	أصغر جزء من الطاقة الضوئية يوجد بشكل مستقل .

ب) – ضعي علامة (صح) أو علامة (خطأ) أمام العبارات التالية : (١٠ درجات)

١	تقع الفلزات في الجانب الأيمن من الجدول الدوري .	(خطأ)
٢	الأجسام الشفافة هي أجسام لا ينفذ الضوء من خلالها .	(خطأ)
٣	المواد الناتجة هي المواد الاصلية التي توجد قبل بدء التفاعل الكيميائي.	(خطأ)
٤	الإلكترونات جسيمات موجبة الشحنة توجد داخل النواة.	(خطأ)
٥	الطول الموجي هو المسافة بين قمتين متتاليتين او قاعين متتاليين للموجة .	(صح)
٦	منطقة التقاء الكتل الهوائية المختلفة يسمى الجبهات الهوائية .	(صح)
٧	يقل الضغط الجوي في المناطق المرتفعة ، ويزداد عند مستوى سطح البحر.	(صح)
٨	عندما تجتمع أكثر من آلة بسيطة معاً نحصل على آلة مركبة .	(صح)
٩	قدرة المادة على إعادة التشكيل يسمى القابلية للطرق والسحب .	(صح)
١٠	الحركة المستمرة لمياه المحيط تسمى (التيار المائي).	(صح)

almanahj.com/sa 2025 2026

١٠

السؤال الثالث : أ)- اكمل/ي الفراغات بما يناسبها : (٤درجات)

**عددي اثنين من أنواع الآلات البسيطة .....البكرة.....و.....البرغي.....

**عددي اثنين من أنواع الغيوم .....ريشية.....و.....ركامية.....

ب) اكمل/ي البيانات على الصور : (٦ درجات)

نوع الغيوم الذي في الشكل غيوم....ركامية....

العاصفة في الشكل عاصفة ...رملية..

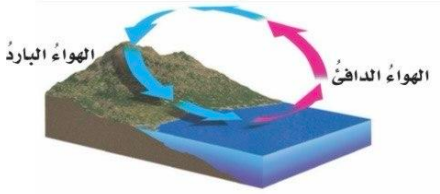

نوع الرياح المحلية في الشكل ..نسيم البر...

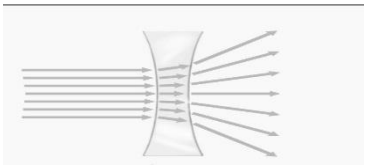

العدسة في الشكل هي عدسة ...مقعره....

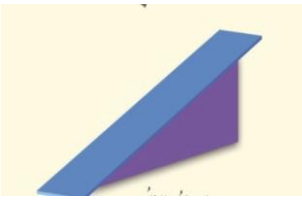

نوع الآلة البسيطة في الشكل هي السطح المائل

الظاهرة في الشكل هي ظاهرة انكسار الضوء..

(انتهت الأسئلة)

خالص دعواتي الصادقة بالتوفيق والسداد ،،،،،،، معلمة المادة/ وداد الحربي

almanahj.com/sa 2025 2026