نموذج مقترح لتطبيق اختبارات مركزية 1145ه مع نموذج الإجابة

تم تحميل هذا الملف من موقع المناهج السعودية

موقع المناهج ⇦ المناهج السعودية ⇦ الصف الثالث ⇦ رياضيات ⇦ الفصل الثاني ⇦ ملفات متنوعة ⇦ الملف

تاريخ إضافة الملف على موقع المناهج: 25-05-2026 14:26:17

المزيد من مادة رياضيات:	ملفات ا كتب للمعلم ا كتب للطالب ا اختبارات الكترونية ا اختبارات ا حلول ا عروض بوربوينت ا أوراق عمل منهج انجليزي ا ملخصات وتقارير ا مذكرات وبنوك ا الامتحان النهائي ا للمدرس

التواصل الاجتماعي بحسب الصف الثالث

صفحة المناهج السعودية على فيسبوك					
المواد على تلغرام	التربية الاسلامية	اللغة العربية	اللغة الانجليزية	الرياضيات	

المزيد من الملفات بحسب الصف الثالث والمادة رياضيات في الفصل الثاني

1	نموذج مقترح لتطبيق اختبارات مركزية 1145ه مع نموذج الإجابة
2	أوراق عمل ملخصات الأشكال المستوية والمجسمات والأنماط الهندسية والتماثل والإحتمال
3	إجابة ورقة عمل الأسبوع الرابع عشر تفسير التمثيل بالأعمدة الاحتمال
4	ورقة عمل الأسبوع الرابع عشر تفسير التمثيل بالأعمدة الاحتمال غير محول
5	إجابة ورقة عمل الأسبوع الثالث عشر خطة حل المسألة التمثيل بالأعمدة

المملكة العربية السعودية
وزارة التعليم
الإدارة العامة للتعليم بمحافظة جدة
الشؤون التعليمية
إدارة أداء التعليم
قسم الإشراف التربوي

وزارة التعليم
Ministry of Education

نموذج أسئلة (أساسي)		
المادة	:	رياضيات
الصف	:	الثالث الابتدائي
الزمن	:	ساعتان
عدد الصفحات	:	٤
الدور الأول الفترة الصباحية		

الأسئلة المركزية لمادة الرياضيات للصف الثالث الابتدائي الفصل الدراسي الثالث للعام ١٤٤٥ هـ

- بيانات الطالب/ـة

مكتب التعليم	.....	اسم المدرسة	.....
القطاع	○ بنين ○ بنات		
اسم الطالب/ـة رباعياً			
.....			
الصف الثالث	.....	رقم الجلوس	.....
يوم الاختبار		تاريخ الاختبار	

- بيانات التصحيح والمراجعة

رقم السؤال	الدرجة المستحقة للطالب /ـة		المصحح/ـة		المراجع/ـة	
	رقماً	كتابةً	الاسم	التوقيع	الاسم	التوقيع
الأول						
الثاني						
الثالث						
الرابع						
المجموع						

جمعه/ته: الاسم _____ التوقيع _____

راجعه/ته : الاسم _____ التوقيع _____

almanahj.com/sa
2026 2025
موقع المناهج السعودية

السُّؤال الأول: أَخْتارُ الإجَابَة الصَّحِيحَة بِتَظلِيل (الحَرْف) الْمُناسِب لَهَا:

١.	**أَيٌّ مِمَّا يَلِي لَيسَت مِن خَطَوَاتِ حَلِّ الْمَسْأَلَةِ؟** أ- أَحِل ب- أَتَدَرَّب ج- أُخَطِّط د- أَفْهَم
٢.	**يُسَمَى المُجَسَّمُ المُجَاوِر:** 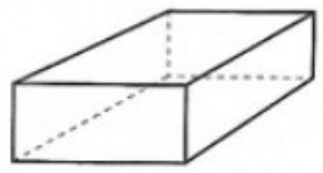 أ- هَرَم ب- أُسْطُوانَة ج- مُتَوَازِي مُسْتَطِيلَات د- مُكَعَّب
٣.	**عَدَدُ زَوَايَا الشَّكْل الْخُمَاسِيِّ:** أ- ٤ زَوَايَا ب- ٥ زَوَايَا ج- ٦ زَوَايَا د- ٧ زَوَايَا
٤.	**يُسمَّى الرَّقْمُ (٨) فِي الْكَسْرِ $\frac{٣}{٨}$:** أ- الْبَسْط ب- المكَافِئ ج- الْعَدَدُ الأَقَل د- الْمَقَام
٥.	**الشَّكْلُ العَاشِر عِنْدَ تَكْرَار النَّمَط الْمُجَاوِر هُو:** □ (١) △ (٢) ▽ (٣) ○ (٤) أ- △ ب- □ ج- ○ د- ▽
٦.	**مِنْ وَحَدَاتِ السَّعَةِ المِتْرِيَةُ:** أ- الكِيلُو جِرَام (كجم) ب- المَتْر (م) ج- السَّنْتِمِتْر (سم) د- الْمِلِّلتْر (مل)
٧.	**إِذَا كَانَ مِفْتَاح الرَّسْم يُوضِّح أَنَّ كُلَّ رَمْز ✈ يُمَثِّل ٣ رِحْلات طَيَران فَإِنَّ التَّمْثِيل الصَّحِيح لـــ ٩ رِحْلات طَيَران:** أ- ✈ ✈ ب- ✈ ✈ ✈ ج- ✈ ✈ ✈ ✈ د- ✈ ✈ ✈ ✈
٨.	**إِذَا كان عَقرَب الدَّقائق يُشِيرُ إِلَى الرَّقْم ٨ فِي سَاعَة العَقَارب فَإِنَّ عَدَد الدَّقَائِق التِي يُشِير إِلَيْهَا** أ- ٤٥ دَقِيقَة ب- ٤٠ دَقِيقَة ج- ٣٥ دَقِيقَة د- ٢٥ دَقِيقَة
٩.	**إِذَا كان مُحِيطُ الشَّكْلِ المُجَاوِر ١٥ سم فَإِنَّ طُول الضِّلْع المجْهُول** 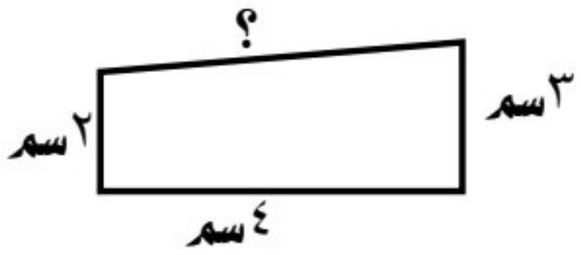 أ- ٧ سم ب- ٦ سم ج- ٥ سم د- ٤ سم
١٠.	**الْكَسْر الَّذِي يُمثِّل عَدَد الأَحْصِنَة هُوَ:** أ- $\frac{١}{٣}$ ب- $\frac{١}{٢}$ ج- $\frac{٢}{٣}$ د- $\frac{٣}{٣}$
١١.	**يُسمَّى الجُزْء المُشَار إِلَيه فِي الشَّكْل المُجَاوِر:** 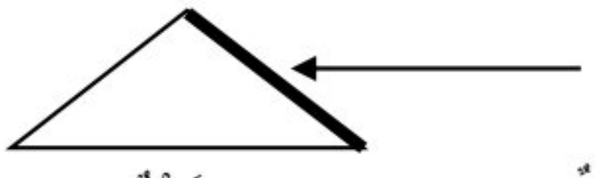 أ- ضِلْعٌ ب- حَرْفٌ ج- زَاوِيَةٌ د- وَجْهٌ

يتبع ≪

almanahj.com/sa 2026 2025 موقع المناهج السعودية

١٢.	**السَّاعَةُ الرقمية الَتِي تُشِير إلى الثَّانِية عَشْر وَثَلاثَة وخمْسُون دَقِيقَة** أ- ١٠ : ٥٣ ب- ١٢ : ٣٥ ج- ٥٣ : ١٢ د- ١٢ : ٥٣
١٣.	**اَلْكُسُور اَلْمَرْتَبَةِ تَصَاعُدِيًّا مِنْ الأَصْغَرِ إِلَى الأَكْبَرِ فِيمَا يَلِي هِيَ :** أ- $\frac{٣}{٦}$ ، $\frac{١}{٦}$ ، $\frac{٤}{٦}$ ب- $\frac{١}{٦}$ ، $\frac{٤}{٦}$ ، $\frac{٣}{٦}$ ج- $\frac{٤}{٦}$ ، $\frac{١}{٦}$ ، $\frac{٣}{٦}$ د- $\frac{١}{٦}$ ، $\frac{٣}{٦}$ ، $\frac{٤}{٦}$
١٤.	**حَجْم اَلْمُجَسّم المُجَاوِر:** 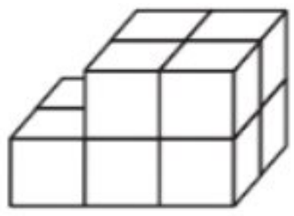 أ- ٦ وَحَدَاتٍ مُكَعَّبَة ب- ١٠ وَحَدَاتٍ مُكَعَّبَة ج- ١٥ وَحَدَاتٍ مُكَعَّبَة د- ١٨ وَحَدَاتٍ مُكَعَّبَة
١٥.	**أَيُّ الأَشْيَاءِ الآتِيةِ كُتْلَتَه أَكْبَرَ؟** أ- فُرْشَاة أَسْنَان ب- تُفَّاحَة وَاحِدَة ج- طَاوِلَةُ الصَف د- كِتَابُ اَلرِّيَاضِيَّات
١٦.	**مُجسَّم لَيْس لَه أَوجُه :** أ- مُكَعَّب ب- هَرَم ج- مَخْرُوط د- كُرَة

السُّؤال الثَّاني:

أ) أقْرِنُ العَمُودَ الأولَ بما يُنَاسِبُه من العَمُودِ الثَّانِي باخْتِيارِ الحَرْفِ المُنَاسِبِ ثمَّ أظلِلُ في وَرَقَةِ الإجَابَةِ:

	العمود الأول	الحرف المناسب
١	طُولُ الإطَارِ الخَارجيِّ لِشَكْل.	.....
٢	عَدَدُ الوَحَدَاتِ الْمُرَبَّعَةِ اللازِمَة لِتَغْطِيَةِ شَكْلٍ مَا مِنْ غَيْرِ تَدَاخُل.	.....
٣	رَسْمٌ مُنظَّمٌ يَعْرِضُ مَجْمُوعَةَ الْبَيَانَاتِ، ويُبَيِّنُ كَيْفَ يرتَبِط بَعْضُها بِبَعْض.	.....
٤	خطٌّ يُقسِّم الشَّكْل إلى قِسْمَيْن مُتطابقين.	.....
٥	شَكْلٌ مُسْتَوٍ مُغلَقٌ مُكَوَّنٌ مِنْ ثَلاث زَوَايَا أو أَكْثَر، وَثَلاث قِطَعٍ مُسْتَقِيمَةٍ أو أَكْثَر	.....

	العمود الثاني
أ	التَّمْثِيلُ الْبَيَانِيُّ
ب	مِحْوَر التَّماثل
ج	المُضلع
د	الْمُحِيطُ
هـ	الاحتمال
و	الْمِسَاحَةُ

أ) أَضعُ عَلامَة (✓) أَمَام العِبَارة الصَّحيحة وَعَلامَة (✗) أَمَام الخاطئة.

١- ٢ لِتْر (ل) ، هُو التَّقْدِير الْمُنَاسِب لِسَعَةِ مِلْعَقَة الطَّعَام. ( )

٢- يُعَدّ اَلْمَسْحُ طَرِيقَةً لِجَمْعِ اَلْبَيَانَاتِ عَنْ طَرِيقِ طَرْحِ سُؤَالٍ أَوْ مَجْمُوعَةٍ مِنْ الأسئلة. ( )

٣- التَّقْدِيرُ الْمُنَاسِب لِطُول أُصبُع اَليَد هُوَ ٨ مِلِّمِتْر (ملم) . ( )

٤- حَجْمُ الصُّنْدوق اَلْمُكَعَّبِ اَلَّذِي طُول حَرفِهِ وحدة واحدة، يُسَاوِي ٣ وَحَدَات مُكَعَّبَة. ( )

٥- الطَّرِيقَةُ الصَّحِيحَةُ لِتمْثِيل الرَّقْم ٧ فِي لَوحَةِ الإشَارَاتِ هِيَ : ( )

يتبع <<

almanahj.com/sa 2026 2025 موقع المناهج السعودية

السؤال الثالث: أُكملُ الفَرَاغَاتِ بِمَا هُوَ مَطْلُوب

(١) عَدَدُ مَحَاوِرِ التَّمَاثُلِ لِلشَّكْلِ تَساوِي

.....

(٢) يُكتَب الكَسْر (ثَلاثَة أَعْشَار) بِالصُّورَة:

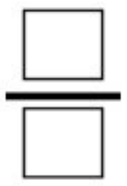

(٣) أُكْمِلُ لأَحْصُلَ عَلَى كَسْرَيْنِ مُتَكَافِئَيْنِ

$\frac{\square}{٤} = \frac{١}{٢}$

(٤)

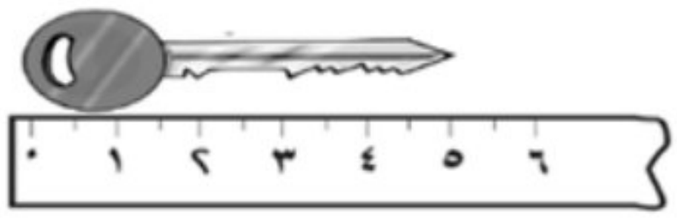

طُولُ المفتاح على مِسْطَرَةِ القِيَاس = ... سم

(٥) أَسْتَعْمِلُ إِحْدى العبارات التالية (مُسْتَحِيلٌ -أَقَلُّ احْتِمَالاً -أَكْثَرُ احْتِمَالاً -أَكِيدٌ)

لِوَصْفِ اِحْتِمَالِ اِخْتِيَارِ مُثَلَّثًا بِشَكْلٍ عَشْوَائِيٍّ مِنْ الْكِيسِ الْمُجَاوِرِ: .....

(٦) أُقَارِنُ بَيْنَ الكسْرَيْنِ مُسْتَعْمِلاً الإِشَارَةَ المُنَاسِبَة (<، =، >)



$\frac{١}{٣}$ ○ $\frac{١}{٦}$

السؤال الثالث: أجِيبُ عَنْ الأَسْئِلَةِ التَّالِيَةِ:-

١) التَّمْثِيلُ المُجَاوِرِ يُبيِّن المُدن المفضَّلة لَدى مَجمُوعة مِن الأشْخاص لِقَضَاء إجَازَتِهم.

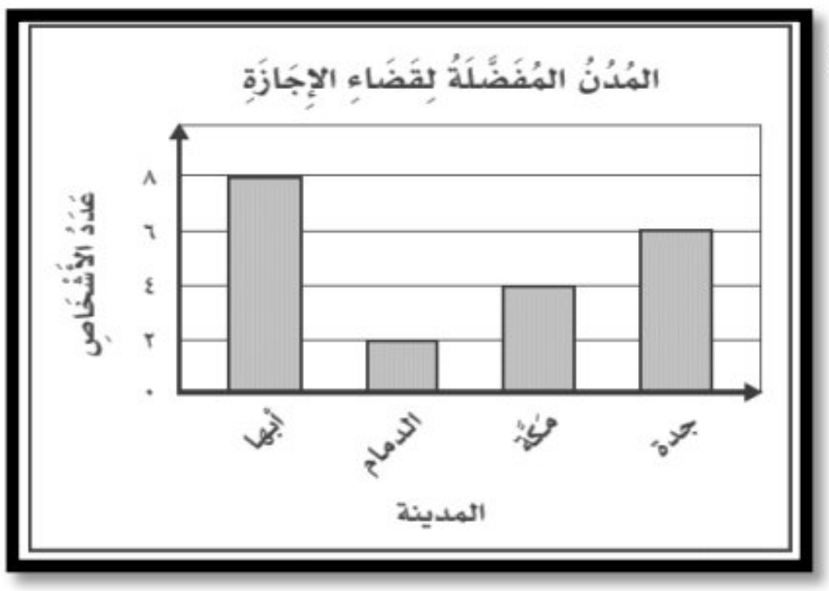

أ - مَا عَدَد الأشْخاص الَّذين يُفضِّلُون مَدِينَة جُدَّة لِقضَاء إجَازَتِهم ؟

.....

ب- أيْ مَدِينَة يُفَضلهَا أقلَّ عدد مِن الأشْخَاص لِقضاء إجَازَتِهم ؟

.....

٢) اِشترَى فَوَّاز عُلْبَتَي عَصِير بُرْتُقال وقَارُورَةَ ماءٍ وَاحِدة وَثَلاث عُلَب حَلِيب، فَكَمْ رِيَال دَفْعَ ثمنًا لِمشْتَرَيَاتِه وفْقًا لِقائِمة الأسْعَار المجاورة؟

قائمة الأسعار

الصنف	السعر
علبة عصير البرتقال	٥ ريال
قارورة الماء	٢ ريال
علبة الحليب	٤ ريال

.....

.....

.....

٣) يُوجَدُ فِي مَزْرَعَةِ خَالِد ١٨ شَجرَة، إذَا كَانَ نِصْفهَا مِن النخِيل، و ٥ أَشجَار مَانجو، وَبَاقِي الأشْجَار مِن الزَّيْتُون، مَا عَدَد أَشجَار الزَّيْتون فِي مَزْرَعَةِ خَالِد؟

.....

.....

.....

.....

٤) إذَا كان طُول لَيلَى ١٢٤ سم، وَطُول يَاسَمِين ٩٠ سم، وَ طُول سَارَة ١م، وَطُول خَدِيجَة ١٠٧ سم. رتِّب الفَتَيَات مِن الأطْول إلى الأقْصَر؟

..... ، ..... ، ..... ، .....

انتهت الأسئلة،،،

almanahj.com/sa
موقع المناهج السعودية 2025