إجابة الاختبار النهائي لدرس الطقس دورة الماء المادة والمخاليط التغيرات الفيزيائية والكيميائية القياس الكهرباء

تم تحميل هذا الملف من موقع المناهج السعودية

موقع المناهج ⇦ المناهج السعودية ⇦ الصف الثالث ⇦ علوم ⇦ الفصل الثاني ⇦ ملفات متنوعة ⇦ الملف

تاريخ إضافة الملف على موقع المناهج: 17-05-2026 14:54:00

المزيد من مادة علوم:	ملفات ا كتب للمعلم ا كتب للطالب ا اختبارات الكترونية ا اختبارات ا حلول ا عروض بوربوينت ا أوراق عمل منهج انجليزي ا ملخصات وتقارير ا مذكرات وبنوك ا الامتحان النهائي ا للمدرس
	إعداد: وداد الحربي

التواصل الاجتماعي بحسب الصف الثالث

صفحة المناهج السعودية على فيسبوك					
المواد على تلغرام	التربية الاسلامية	اللغة العربية	اللغة الانجليزية	الرياضيات	

المزيد من الملفات بحسب الصف الثالث والمادة علوم في الفصل الثاني

1	الاختبار النهائي لدرس الطقس دورة الماء المادة والمخاليط التغيرات الفيزيائية والكيميائية القياس الكهرباء
2	مطوية درس الكهرباء من حولنا وتحولاتها
3	أنواع الكهرباء ودوائرها
4	درس الكهرباء من حولنا والدوائر الكهربائية
5	الوحدة السادسة القوى والطاقة درس الضوء والرؤية

المملكة العربية السعودية وزارة التعليم ادارة التعليم بمنطقة ..... المدرسة:	بسم الله الرحمن الرحيم وزارة التعليم Ministry of Education	الصف :	الثالث الابتدائي .
		المادة :	علوم
		الزمن :	ساعتان
		التاريخ :	/ / ١٤٤٨

((الاختبار النهائي لمادة العلوم للصف الثالث الابتدائي

الفترة الدراسية الثانية / ١٤٤٧ /١٤٤٨)) (الدور الأول)

اسم الطالب/ة :.....((نموذج الإجابة)).....رقم الجلوس :.....

رقم السؤال	الدرجة المستحقة		اسم المصحح/ة	اسم المراجع/ة	اسم المدقق/ة
	رقماً	كتابة			
السؤال الأول (١٢)					
السؤال الثاني (٢٠)					
السؤال الثالث (٨)					
المجموع (٤٠)					

almanahj.com/sa 2025 2026

السؤال الأول : اختار/ي الإجابة الصحيحة : (١٢ درجات)

١٢

١	أي الأدوات التالية تُستخدم لقياس درجة الحرارة؟			
	أ) مقياس المطر	ب) دوارة الرياح	ج) الثرمومتر	د) البارومتر
٢	أي الأصوات التالية صوته (حاد)؟			
	أ) زئير الأسد	ب) هديل الحمام	ج) صياح الديك	د) نباح الكلب
٣	أي أداة تُستخدم لتحديد اتجاه الرياح؟			
	أ) الأنيمومتر	ب) مقياس المطر	ج) دوارة الرياح	د) البارومتر
٤	ما هي العاصفة التي تحمل فيها الرياح كميات من الرمل والغبار في الهواء؟			
	أ) العاصفة الرعدية	ب) العاصفة الرملية	ج) العاصفة الثلجية	د) الإعصار القمعي
٥	ما العملية التي يتحول فيها الماء من الحالة السائلة إلى الحالة الغازية؟			
	أ) التكثف	ب) التبخر	ج) الهطول	د) التجمد
٦	أي من أشكال الهطول التالية يتكون من قطع ثلجية صلبة وتصاحب العواصف الرعدية؟			
	أ) المطر	ب) البرد	ج) الندى	د) الثلج
٧	أي مما يلي يُعد مثالاً على المخلوط؟			
	أ) سلطة الفواكه	ب) الماء النقي	ج) عنصر الذهب	د) غاز الأكسجين
٨	الأداة المناسبة لفصل مشابك الورق الحديدية عن قطع البلاستيك هي:			
	أ) المغناطيس	ب) المصفاة	ج) التبخير	د) الترشيح
٩	أي من التغيرات التالية يُعتبر تغيراً كيميائياً ؟			
	أ) الحرق	ب) الثني	ج) التمزيق	د) القص
١٠	يمكن قياس كتلة جسم ما باستعمال ؟			
	أ) الشريط المتري	ب) المخبار المدرج	ج) الميزان ذو الكفتين	د) المسطرة
١١	ما الوحدة المستخدمة لقياس حجم السوائل؟			
	أ) المتر	ب) الكيلوجرام	ج) اللتر	د) الجرام
١٢	أي مما يلي يصف خصائص المادة الصلبة بشكل صحيح؟			
	أ) لها حجم ثابت وشكل غير ثابت	ب) ليس لها حجم ثابت وشكل ثابت	ج) لها حجم ثابت وشكل ثابت	د) تأخذ شكل الإناء الذي توضع فيه

almanahj.com/sa 2025 2026

السؤال الثاني :أ)ضع/ي علامة (صح) أو علامة (خطأ) أمام العبارات التالية : (١٢ درجة)

٢٠

١	الطقس هو حالة الجو في مكان معين خلال يوم أو عدة أيام.	(صح)
٢	الحجم يحدد الحيز الذي يشغله جسم ما .	(صح)
٣	يستخدم العلماء بالونات الطقس والأقمار الاصطناعية لجمع بيانات	(صح)
٤	العاصفة الرعدية هي عاصفة مصحوبة بالرعد والبرق .	(صح)
٥	الرافعة قضيب يتحرك حول محور يسمى نقطة الارتكاز.	(صح)
٦	المصباح الكهربائي هو الجهاز الذي يستهلك الطاقة ويزودنا بالضوء .	(صح)
٧	المناخ هو حالة الطقس في مكان معين لفترة قصيرة جداً.	(خطأ)
٨	عند تمزيق ورقة، تتغير المادة المكونة لها وتصبح مادة جديدة.	(خطأ)
٩	يمكن فصل الملح عن الماء باستخدام طريقة التبخير.	(صح)
١٠	التغير الكيميائي ينتج عنه مواد جديدة تختلف في خواصها عن المواد الأصلية.	(صح)
١١	الاهتزاز حركة سريعة في اتجاهين متعاكسين .	(صح)
١٢	العناصر هي وحدات البناء الأساسية للمادة.	(صح)

ب)- اكمل /ي الفراغات بما يناسبها :

(الشغل – خريطة الطقس -المخلوط – التبخر – الأجسام الشفافة _ الثلجية _ سخونة _ أقل)

١	. تحول السائل إلى غاز يُسمى .....التبخر.....
٢	تُبين .....خريطة الطقس.....حالة الطقس في منطقة ما وفي وقت محدد باستخدام الرموز.
٣	. درجة الحرارة هي مقياس مدى .....سخونة.....الشيء أو برودته.
٤	. العاصفة .....الثلجية..... هي عاصفة مصحوبة بالثلج وتكون درجات الحرارة منخفضة.
٥	. تصبح درجة الحرارة .....أقل ..... كلما ارتفعنا في الغلاف الجوي.
٦	. خليط مكون من مادتين مختلفتين أو أكثر مع احتفاظ كل مادة بخواصها الأصلية يسمى .....المخلوط.....
٧	. ..... الأجسام الشفافة ..... تسمح بنفاذ الضوء من خلالها فنرى الاجسام بوضوح .
٨	. .....الشغل ..... القوى المبذولة لتحريك جسم ما مسافة معينة.

almanahj.com/sa 2025 2026

السؤال الثالث : أ)-صل/ي كل كلمة بما يناسبها : (٥ درجات)

	العمود (أ)		العمود (ب)
١	دورة الماء	(٢)	أداة تستخدم لإنجاز الاعمال بسهولة .
٢	الآلة البسيطة	(١)	حركة الماء المستمرة بين سطح الأرض.
٣	الإعصار الحلزوني	(٥)	وزن الهواء الذي يضغط على الأشياء ،فيغير حالة الطقس
٤	التيار الكهربائي	(٣)	عاصفة كبيرة مصحوبة برياح قوية وأمطار غزيرة
٥	الضغط الجوي	(٤)	المسار المغلق الذي يسمح بمرور التيار الكهربائي من خلاله .

ب) اكتب /ي البيانات على الرسم : (٣ درجات)

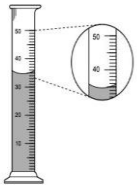

يستخدم لقياس ....الحجم....

يستخدم لقياس ....الكتلة.....

يستخدم لقياس ....الحرارة.....

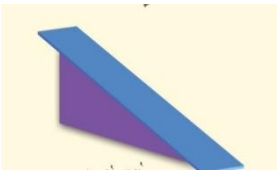

الآلة البسيطة التالية تسمى السطح المائل

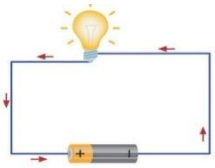

الشكل التالي يمثل .دائرة كهربائية

الشكل التالي يمثل انكسار الضوء

(انتهت الأسئلة)

مع خالص دعواتي بالتوفيق والنجاح،،،،،،،،،،، معلمة المادة / وداد الحربي

almanahj.com/sa 2025 2026