تدريبات علاجية وواجبات محلولة لمادة الدراسات الاجتماعية

almanahj.com/qa
2026 2027
موقع المناهج القطرية

تم تحميل هذا الملف من موقع المناهج القطرية

موقع المناهج ⇦ المناهج القطرية ⇦ الصف التاسع ⇦ اجتماعيات ⇦ ⇦ ملفات متنوعة ⇦ الملف

تاريخ إضافة الملف على موقع المناهج: 2026-09-25 20:06:53

المزيد من مادة اجتماعيات:	ملفات ا كتب للمعلم ا كتب للطالب ا اختبارات الكترونية ا اختبارات ا حلول ا عروض بوربوينت ا أوراق عمل منهج انجليزي ا ملخصات وتقارير ا مذكرات وبنوك ا الامتحان النهائي ا للمدرس
	إعداد: مدرسة مسيعيد الابتدائية الإعدادية الثانوية للبنين

التواصل الاجتماعي بحسب الصف التاسع

صفحة المناهج القطرية على فيسبوك					
المواد على تلغرام	التربية الاسلامية	اللغة العربية	اللغة الانجليزية	الرياضيات	

المزيد من الملفات بحسب الصف التاسع والمادة اجتماعيات في

1	أوراق مراجعة للوحدة الثالثة الهوية والثقافة العالمية
2	أوراق مراجعة للوحدة السادسة الأمن الوطني
3	أوراق مراجعة للوحدة الخامسة (الاستعمار الأوروبي وحركات التحرير) الدرس الثاني الاستعمار الفرنسي والبريطاني للوطن العربي
4	مراجعة الوحدة الرابعة (نحن والبيئة) الدرس الأول مشكلات بيئية
5	إجابة مراجعة الوحدة الرابعة (نحن والبيئة) الدرس الأول مشكلات بيئية

العام الدراسي
2027-2026

الصف التاسع
9

مادة الدراسات الاجتماعية



تدريبات علاجية – واجبات - محلولة

منهاج منتصف الفصل الدراسي الأول
الوحدة الأولى + الوحدة الثانية + الوحدة الثالثة

اسم الطالب: .....

الصف: التاسع .....

ملحوظة هامة: هذه الأسئلة إثرائية ولا تغني عن الكتاب المدرسي وهو المصدر الرئيس للتعلم

الأسبوع	الدرس	التاريخ
1	العوامل الباطنية البطيئة المؤثرة في تشكيل سطح الأرض	من 30 / 8 الي 3/09/ 2026م

تعليمات اختر الإجابة الصحيحة لكل من الأسئلة من 1 إلى 4 وذلك بوضع علامة × داخل المربع المجاور للإجابة الصحيحة.

1- (شق يحدث في الصخور الصلبة للقشرة الأرضية بسبب قوى شد أو ضغط رأسية)

يشير التعريف السابق لمفهوم:

- ☐ الالتواء
- ☐ **الانكسار**
- ☐ البراكين
- ☐ الزلازل

2- يشير الشكل المقابل لأحد أنواع الانكسارات وهو:

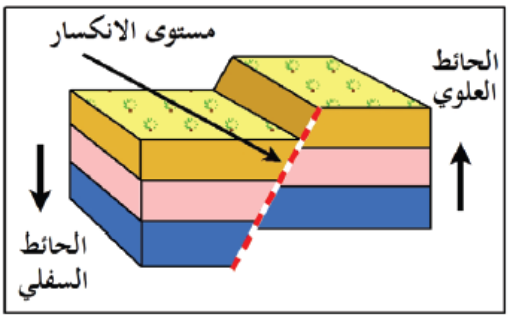

- ☐ السلمي
- ☐ المعكوس
- ☐ **صدع الشد**
- ☐ صدع الضغط

3- أي الجبال الآتية تمثل أحد الجبال الانكسارية شرق البحر الأحمر؟

- ☐ **الحجاز**
- ☐ أطلس
- ☐ زاجروس
- ☐ دراكنزبرج

4- (ثني الطبقات الصخرية اللينة الرسوبية وتقوسها إلى أعلى أو أسفل نتيجة لحركات الضغط الأفقي من الجانبين)

يشير التعريف السابق لمفهوم:

- ☐ **الالتواء**
- ☐ الانكسار
- ☐ البراكين
- ☐ الزلازل

تعليمات عند الإجابة على الأسئلة من 05 إلى 08، اكتب إجابتك في الفراغ المخصص للإجابة:

5	قارن بين الأشكال التضاريسية الناتجة عن كل من الالتواءات والانكسارات.	

الأشكال التضاريسية الناتجة عن الالتواءات	الأشكال التضاريسية الناتجة عن الانكسارات
1- الجبال الالتوائية الكبرى (الهيمالايا – أطلس – الألب – الروكي – الانديز – الألب الأسترالية – دراكنزبرج) **2- الهضاب الالتوائية** (التبت – المكسيك – الشطوط)	**1- الجبال الانكسارية:** الحجاز وعسير واليمن والبحر الأحمر **2- الحافات الانكسارية:** شرق أفريقيا **3- الأغوار المنخفضة:** غور الأردن وخليج العقبة **4- الخوانق العميقة:** خانق نهر كولورادو

6	اذكر أهم الجبال الانكسارية شرق البحر الأحمر.	

الإجابة:

1- الحجاز

2- عسير

3- اليمن

7	عدد أنواع الانكسارات.	

الإجابة:

1- عادي

2- سلمي

3- معكوس

almanahj.com/qa موقع المناهج القطرية

8	أمامك خريطة صماء للعالم حدد عليها الجبال الآتية.	

(1- الانديز 2– دراكنزبرج 3– أطلس 4– الروكي 5– الهيمالايا 6 – الألب)

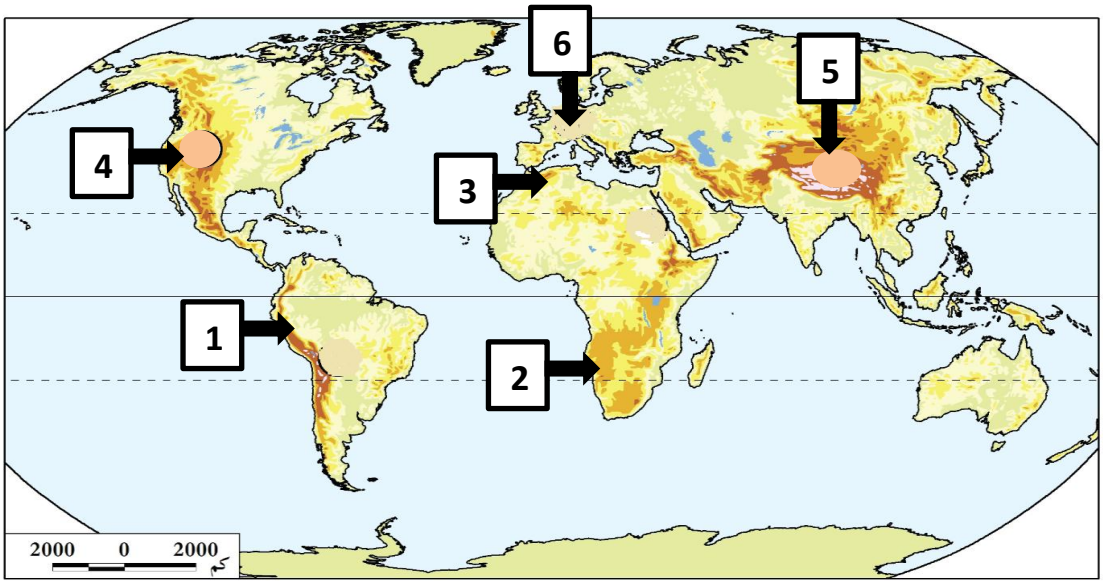

الأسبوع	الدرس	التاريخ
2	العوامل الباطنية البطيئة والسريعة المؤثرة في تشكيل سطح الأرض	6 – 10/09/ 2026م

تعليمات اختر الإجابة الصحيحة لكل من الأسئلة من 1 إلى 4 وذلك بوضع علامة × داخل المربع المجاور للإجابة الصحيحة.

1- أي الأشكال التضاريسية الآتية تمثل الخوانق الأرضية العميقة؟

- ☐ خليج العقبة
- ☐ غور الأردن
- ☐ الخليج العربي
- ☐ **نهـر كولورادو**

2- الهضبة الالتوائية الممتدة في قارة أمريكا الشمالية:

- ☐ التبت
- ☐ الشطوط
- ☐ **المكسيك**
- ☐ الأناضول

3- (هزات أرضية سريعة تصيب أجزاء من القشرة الأرضية، وتنتشر على شكل موجات أفقية)

يشير التعريف السابق لمفهوم:

- ☐ الالتواء
- ☐ الانكسار
- ☐ البراكين
- ☐ **الزلازل**

4- يبدأ نطاق البحر المتوسط الآسيوي للزلازل من:

- ☐ إيران
- ☐ تركيا
- ☐ اندونيسيا
- ☐ **جزر الأزور**

almanahj.com/qa موقع المناهج القطرية 2025 2026

تعليمات عند الإجابة على الأسئلة من 05 إلى 10، اكتب إجابتك في الفراغ المخصص للإجابة:

5 **قارن بين الالتواء المحدب والمقعر.**

الالتواء المحدب	الالتواء المقعر
التواء الطبقات الصخرية إلى أعلى في شكل مقوس	التواء الطبقات الصخرية إلى أسفل في شكل مقوس

6 **عدد أنواع الزلازل.**

الإجابة:

1- التكتونية

2- البركانية

7 **ما الآثار المترتبة على الزلازل.**

الإجابة:

1- شقوق في القشرة الأرضية

2- الانهيارات الجليدية

3- أمواج تسونامي

4- ظهور جزر جديدة 5- ارتفاع مناطق وانخفاض أخرى من الأرض

8	**أمامك شكل يوضح الأجزاء التي يتكون منها البركان؛ اكتب الأجزاء المشار إليها بالأرقام الآتية:**	

الإجابة:

1- فوهة البركان

2- قصبة البركان

3- المخروط البركاني

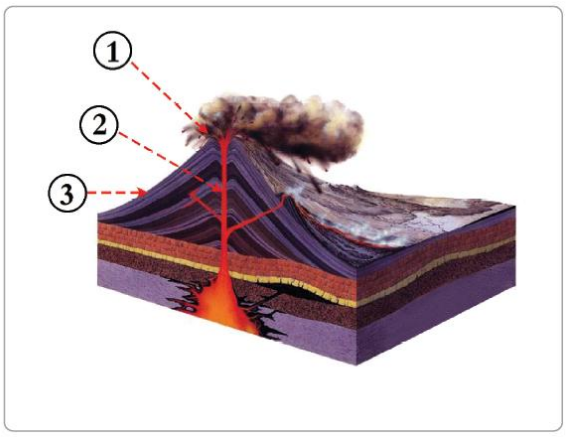

9	**حدد طرق التعامل مع أخطار الزلازل حال وقوعها في الأماكن الآتية:**	

داخل مبنى:

1- الابتعاد عن النوافذ

2- اختبئ أسفل الأثاث

3- اقطع الغاز والكهرباء

4- لا تستخدم السلالم والمصاعد

في الشارع:

1- قف في مكان واسع

2- ابتعد عن الشواطئ

3- ابق داخل السيارة

4- استمع للمذياع

10	**اذكر نطاقات توزيع الزلازل.**	

الإجابة:

1- **البحر المتوسط الآسيوي**: يبدأ من جزر الأزور – البحر المتوسط – تركيا – إيران – الهيمالايا – اندونيسيا

2- **الحلقة النارية:** السواحل الشرقية والغربية للمحيط الهادي

almanahj.com/qa
موقع المناهج القطرية

الأسبوع	الدرس	التاريخ
3	العوامل الباطنية السريعة المؤثرة في تشكيل سطح الأرض	13 – 17/09/ 2026م

تعليمات اختر الإجابة الصحيحة لكل من الأسئلة من 1 إلى 4 وذلك بوضع علامة × داخل المربع المجاور للإجابة الصحيحة.

1- أي الجبال الآتية تمثل أحد الجبال البركانية في اليابان؟

- ☐ **فيجي**
- ☐ كلمنجارو
- ☐ سانت هيلين
- ☐ مـونت بيليه

2- تعد بحيرة تال أحد البحيرات البركانية في:

- ☐ إثيوبيا
- ☐ **الفلبين**
- ☐ اليابان
- ☐ تركيـا

3- البراكين التي لا يعرف إذا كانت ستثور مرةً ثانية:

- ☐ الميتة
- ☐ النشطة
- ☐ **الخامدة**
- ☐ المتقطعة

4- الهضبة البركانية التي توجد في جنوب غرب آسيا:

- ☐ إيران
- ☐ **اليمن**
- ☐ الحبشة
- ☐ سيبيريا

تعليمات عند الإجابة على الأسئلة من 05 إلى 07، اكتب إجابتك في الفراغ المخصص للإجابة:

5	**عدد أنواع البراكين حسب الثوران.**	

الإجابة:

1- نشطة

2- خامدة

3- متقطعة

4- ميتة

6	**ما الأشكال التضاريسية الناتجة عن البراكين.**	

الإجابة:

1- **الجبال البركانية:** جبل فيجي باليابان – جبل كلمنجارو بأفريقيا

2- **الهضاب البركانية:** هضبة اليمن وهضبة الحبشة

3- **البحيرات البركانية:** بحيرة تال بالفلبين

4- **الجزر البركانية:** جزر هاواي

7	**وضح طرق التعامل مع أخطار البراكين.**	

الإجابة:

1- مغادرة المبنى

2- ركوب السيارة والاتجاه عكس سحابة الدخان

3- حماية الجهاز التنفسي بقناع

4- الاستماع لإرشادات الدفاع المدني

almanahj.com/qa موقع المناهج القطرية 2025 2026

الأسبوع	الدرس	التاريخ
4	نشأة الحضارة اليونانية	20 – 24/09/ 2026م

تعليمات اختر الإجابة الصحيحة لكل من الأسئلة من 1 إلى 4 وذلك بوضع علامة × داخل المربع المجاور للإجابة الصحيحة.

1- أي الجزر الآتية تعد المعبر الرئيس للاتصال الحضاري بين حضارات الشرق القديم والحضارة اليونانية القديمة؟

- ☐ **كريت وقبرص**
- ☐ قبرص وسردينيا
- ☐ رودس وصقلية
- ☐ صقلية وسردينيا

2- المدينة التي تميزت بنظامها العسكري الصارم هي:

- ☐ أثينا
- ☐ **أسبرطة**
- ☐ طروادة
- ☐ مقدونيا

3- المدينة التي تميزت بنظامها الديمقراطي هي:

- ☐ **أثينا**
- ☐ أسبرطة
- ☐ طروادة
- ☐ مقدونيا

4- السبب في انقسام الإمبراطورية اليونانية عام 323 ق م هو:

- ☐ **وفاة الاسكندر**
- ☐ غزو الرومان
- ☐ قيام دولة المدينة
- ☐ تولي فيليب المقدوني الحكم

تعليمات عند الإجابة على الأسئلة من 05 إلى 07، اكتب إجابتك في الفراغ المخصص للإجابة:

5	وضح عوامل قيام الحضارة اليونانية.	

الإجابة:

1- **الموقع الجغرافي:** ساهم في اقتباس العديد من منجزات الحضارات الأخرى

2- **المناخ المعتدل:** ساهم في استقرار الانسان وقيام الحضارة

3- **التضاريس:** قيام نظام دولة المدينة 4- **حرية التفكير:** تمسك الإغريق بحقوقهم وحريتهم

6	رتب الأحداث التاريخية الآتية في الحضارة اليونانية ترتيباً زمنياً صحيحاً من الأقدم إلى الأحدث على الخط الزمني التالي:	

الأحدث: (إقامة الإمبراطورية اليونانية – تأسيس دولة المدينة – انقسام الإمبراطورية اليونانية)

الإجابة:

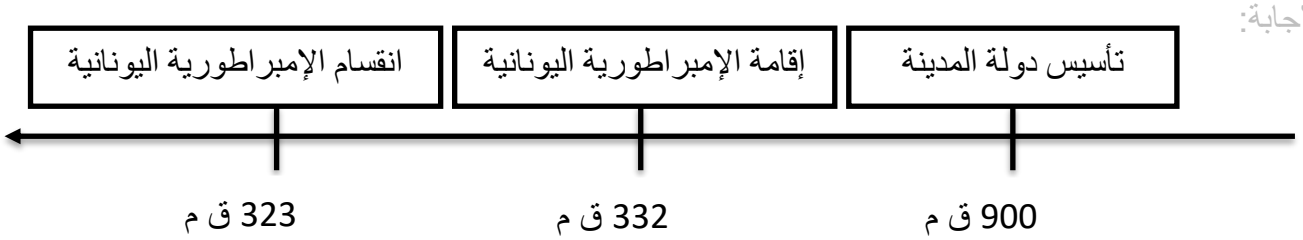

7	قارن بين حضارتي مدينة أسبرطة ومدينة أثينا اليونانيتين؛ من حيث نظامها واهتماماتها:	

وجه المقارنة	مدينة أسبرطة	مدينة أثينا
النظام المتبع فيها	عسكري	ديمقراطي
اهتماماتها	اهتمت بالجيش على حساب إرثها الحضاري	اهتمت بحرية الفكر والابداع

الأسبوع	الدرس	التاريخ
5	مظاهر الحضارة اليونانية	27/ 9 – 1/10/ 2026م

تعليمات اختر الإجابة الصحيحة لكل من الأسئلة من 1 إلى 5 وذلك بوضع علامة × داخل المربع المجاور للإجابة الصحيحة.

1- كبير الآلهة عند الإغريق هو:

- ☐ آمون
- ☐ **زيوس**
- ☐ جوبيتر
- ☐ آريـس

2- تم اشتقاق الحروف اليونانية من الحروف:

- ☐ الهندية
- ☐ الصينية
- ☐ اللاتينية
- ☐ **الفينيقية**

3- أول من كتب في التاريخ ولُقب بأبي التاريخ:

- ☐ سقراط
- ☐ بطليموس
- ☐ فيثاغورث
- ☐ **هيرودوتس**

4- أبو الطب البشري الذي وضع قسماً فرضه على كل من أراد أن يمارس مهنة الطب:

- ☐ **أبقراط**
- ☐ سقراط
- ☐ بطليموس
- ☐ فيثاغورث

5- أبو الجغرافيا الذي من أفكاره أن الأرض كروية ثابتة:

- ☐ سقراط
- ☐ **بطليموس**
- ☐ فيثاغورث
- ☐ هيرودوتس

تعليمات عند الإجابة على الأسئلة من 06 إلى 14، اكتب إجابتك في الفراغ المخصص للإجابة:

6	**اذكر المراحل التي مر بها نظام الحكم في الحضارة اليونانية.**	

الإجابة:

1- الملكي الوراثي
2- الديمقراطي
3- الامبراطوري
4- الملكي

7	**عرف مفهوم الدولة المدينة.**	

الإجابة:

ـ كيان سياسي مستقل محوره مدينة رئيسة تتبعها مجموعة من القرى والنواحي

8	**عدد أقسام الأراضي الزراعية في بلاد اليونان قديماً.**	

الإجابة:

1- إقطاعات كبيرة
2- أراضي للأفراد
3- أراضي للمراعي

9	**اذكر أشهر الصناعات التي قامت في بلاد اليونان قديماً.**	

الإجابة:

1- زيت الزيتون
2- السفن
3- الأواني الفخارية والمعدنية

almanahj.com/qa
موقع المناهج القطرية 2025 2026

10	قارن بين الصادرات والواردات في بلاد اليونان قديماً.	

الإجابة:

الصادرات	الواردات
الرخام – المعادن – الزيوت	الحبوب – الأقمشة

11	وضح الفئات التي تشكل منها المجتمع في بلاد اليونان قديماً.	

الإجابة:

1- **المواطنون**: ممارسة الحقوق السياسية

2- **الأجانب**: الإعفاء من بعض الضرائب

3- **العبيد**: ليس لهم أي حقوق

12	دلل على براعة اليونانيين في المجالات الآتية:	

الإجابة:

العمارة	الفلسفة	الملاعب الرياضية
معبد البارثينون	سقراط وأفلاطون	مدينة أولمبيا

almanahj.com/qa موقع المناهج القطرية

13	بم تفسر:	

أ - لم تسهم أسبرطة بقسط كبير في الحضارة الإغريقية.

- بسبب اهتمامهم بالجيش على حساب إرثهم الحضاري

ب - برع اليونانيون في صناعة السفن.

- لطبيعة بلادهم الساحلية

ج - تميز النحت الإغريقي بالدقة والجمال.

- بسبب اهتمامهم بالحركة وتفاصيل الأشياء

د - تسمية الألعاب الأولمبية بهذا الاسم.

- نسبةً إلى مدينة أولمبيا اليونانية

14	اذكر عملاً تاريخياً للشخصيات الآتية:	

أ/ الاسكندر المقدوني:

ـ سيطر على بلاد اليونان – كون إمبراطورية واسعة

ب/ هيرودوتس:

ـ أول من كتب في التاريخ " أبو التاريخ "

ج / أبقراط:

ـ وضع قسماً فرضه على كل من أراد أن يمتهن مهنة الطب " أبو الطب "

د / فيثاغورث:

ـ برع في الرياضيات في مجال المتوازيات والمثلثات

هـ/ بطليموس:

ـ من أفكاره أن الأرض كروية ثابتة " أبو الجغرافيا "

almanahj.com/qa موقع المناهج القطرية 2025 2026

الأسبوع	الدرس	التاريخ
6	أشكال الديمقراطية ومظاهرها	4 – 10/8/ 2026م

تعليمات اختر الإجابة الصحيحة لكل من الأسئلة من 1 إلى 8 وذلك بوضع علامة × داخل المربع المجاور للإجابة الصحيحة.

1- تم إصدار الدستور الدائم لدولة قطر عام:

- ☐ 2002
- ☐ 2003
- ☐ **2004**
- ☐ 2005

2- عدد أعضاء المجلس البلدي المركزي نحو:

- ☐ 19
- ☐ **29**
- ☐ 39
- ☐ 49

3- ساعد على حرية الرأي والتعبير بدولة قطر:

- ☐ إنشاء مجلس الوزراء
- ☐ إنشاء الديوان الأميري
- ☐ إنشاء مجلس الشـورى
- ☐ **إلغاء الرقابة على وسائل الإعلام**

4- عدد أعضاء مجلس الشورى الذين يعينهم سمو الأمير:

- ☐ 10
- ☐ **15**
- ☐ 20
- ☐ 25

5- المدة الزمنية التي يستمر خلالها الأعضاء في المجلس البلدي المركزي:

- ☐ عام
- ☐ عامين
- ☐ ثلاثة أعوام
- ☐ **أربعة أعوام**

6- أي مما يلي يمثل الديمقراطية شبه المباشرة في دولة قطر؟

- ☐ مجلس النواب
- ☐ مجلس الوزراء
- ☐ **البرلمان الطلابي**
- ☐ المجلس البلدي المركزي

7- يرجع تاريخ تأسيس مجلس الشورى في دولة قطر إلى عام:

- ☐ 1970
- ☐ 1971
- ☐ **1972**
- ☐ 1973

8- عدد الأعضاء الذين يتألف منها مجلس الشورى:

- ☐ 40
- ☐ **45**
- ☐ 50
- ☐ 55

almanahj.com/qa
موقع المناهج القطرية

تعليمات عند الإجابة على الأسئلة من 09 إلى 13، اكتب إجابتك في الفراغ المخصص للإجابة:

9	عدد أشكال الديمقراطية.	

الإجابة:

1- المباشرة

2- غير المباشرة " النيابية "

3- شبه المباشرة

10	دلل على تطبيق الديمقراطية بدولة قطر.	

الإجابة:

1. الاستفتاء على الدستور 2003 م
2. إصدار الدستور الدائم 2004 م
3. مجلس الشورى
4. المجلس البلدي المركزي

11	اذكر مهام مجلس الشورى بدولة قطر.	

الإجابة:

1- يتولى سلطة التشريع

2- إقرار الموازنة العامة

3- الرقابة على السلطة التنفيذية

almanahj.com/qa
موقع المناهج القطرية

12	**وضح أهمية الدستور الدائم لدولة قطر؟**

الإجابة:

1- استكمال أسباب الحكم الديمقراطي

2- يضمن الحقوق والحريات

3- المشاركة الشعبية في اتخاذ القرار

13	**قارن بين أشكال الديمقراطية الآتية:**

الإجابة:

المباشرة	الغير المباشرة	شبه المباشرة
يكون فيها الشعب مصدر السلطات	ينتخب فيها الشعب نواباً ينوبون عنه في اتخاذ القرارات.	يحتفظ فيها الشعب بحقه في اتخاذ القرارات

almanahj.com/qa موقع المناهج القطرية