تم تحميل هذا الملف من موقع المناهج القطرية

موقع المناهج ⇦ المناهج القطرية ⇦ الصف السابع ⇦ رياضيات ⇦ الفصل الثاني ⇦ ملفات متنوعة ⇦ الملف

تاريخ إضافة الملف على موقع المناهج: 23-05-2026 18:16:38

المزيد من مادة رياضيات:	ملفات ا كتب للمعلم ا كتب للطالب ا اختبارات الكترونية ا اختبارات ا حلول ا عروض بوربوينت ا أوراق عمل منهج انجليزي ا ملخصات وتقارير ا مذكرات وبنوك ا الامتحان النهائي ا للمدرس

التواصل الاجتماعي بحسب الصف السابع

صفحة المناهج القطرية على فيسبوك					
المواد على تلغرام	التربية الاسلامية	اللغة العربية	اللغة الانجليزية	الرياضيات	

المزيد من الملفات بحسب الصف السابع والمادة رياضيات في الفصل الثاني

1	اختبار الوحدة (السابعة)
2	إجابة اختبار الوحدة السابعة
3	اختبار الوحدة (الثامنة) الإجابة
4	فهم الإمكانية والاحتمال
5	فهم الإمكانية و الاحتمال

مدرسة الأندلس الخاصة للبنات

العام الأكاديمي 2026/2025

الفصل الدراسي الثاني

اختبار الوحدة (الثامنة)

مادة الرياضيات

الصف السابع الاعدادي

اسم الطالبة/.....

الصف والشعبة /.....

أنت كفووووو ثقي بنفسك ثقي بنفسك

السؤال الأول: الأسئلة الموضوعية:
اختر الإجابة الصحيحة

1	طول حديقة مستطيلة الشكل على الخريطة $8cm$ ، اذا كان مقياس الرسم $1cm = 3m$. ما طول الحديقة الفعلي؟		2	مساحة غرفة في رسم المنزل $6\ cm^2$ ، اذا كان مقياس الرسم $1cm^2 = 5m^2$. ما مساحة الغرفة الفعلية؟	
2	A	1	2	A	$1\ m^2$
	B	3		B	$5\ m^2$
	C	8		C	$6\ m^2$
	D	24		D	$30\ m^2$
3	ما محيط الدائرة طول قطرها 20 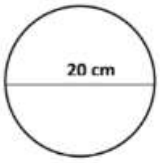		4	اوجد مساحة دائرة، نصف قطرها 4cm علما بان π تساوي 3.14	
	A	20π		A	9
	B	10π		B	12
	C	9π		C	13
	D	5π		D	15
5	اوجد محيط دائرة، نصف قطرها 4cm ، علما بان π تساوي 3.14		6	<QOR زاويتان متقابلتان بالرأس . ماقيمة X <MON 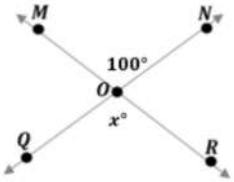	
2	A	3.14 cm	2	A	200
	B	4.12 cm		B	150
	C	25.12 cm		C	100
	D	50.24 cm		D	50

50.24

الأسئلة المقالية:

السؤال الثاني

استعمل الرسم لايجاد قيمة x :

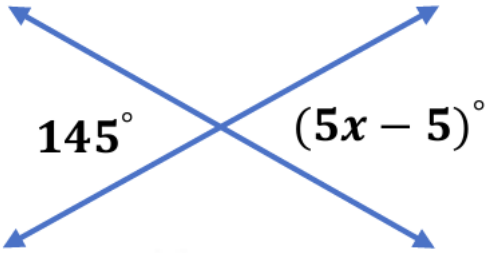

وضح خطوات الحل في المستطيل أدناه

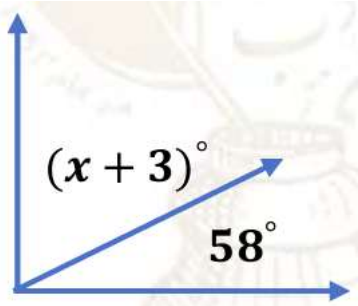

وضح خطوات الحل في المستطيل أدناه

السؤال الثالث

استعمل الرسم لإيجاد قيمة x :

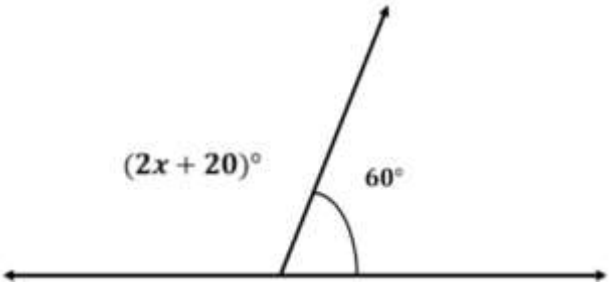

وضح خطوات الحل في المستطيل أدناه

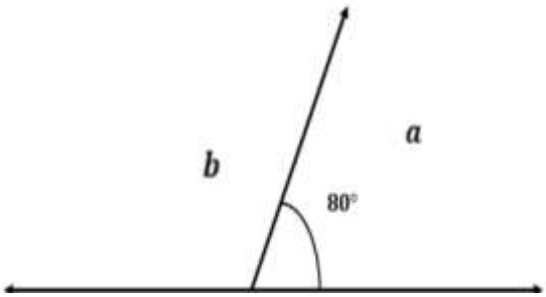

وضح خطوات الحل في المستطيل أدناه

السؤال الرابع

أوجد محيط الدائرة إذا كان طول نص قطرها يساوي28 :

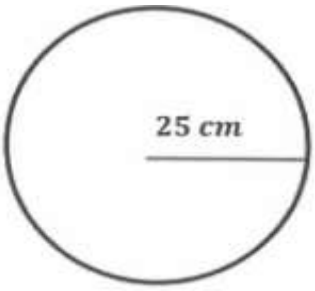

وضح خطوات الحل في المستطيل أدناه

الدائرة محيطها يساوي 60 أوجد طول نصف قطرها ؟

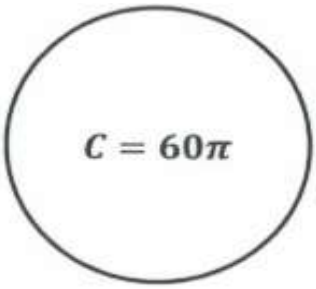

وضح خطوات الحل في المستطيل أدناه

السؤال الخامس

جد المساحة السطحية للاشكال ادناه :

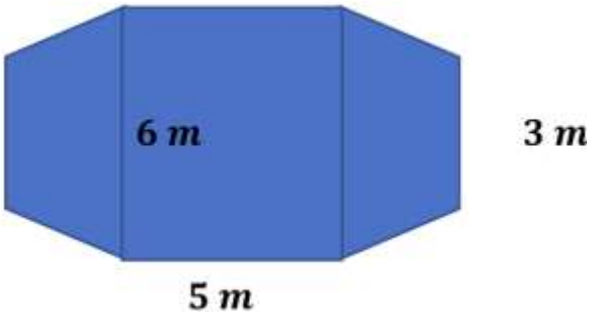

وضح خطوات الحل في المستطيل أدناه

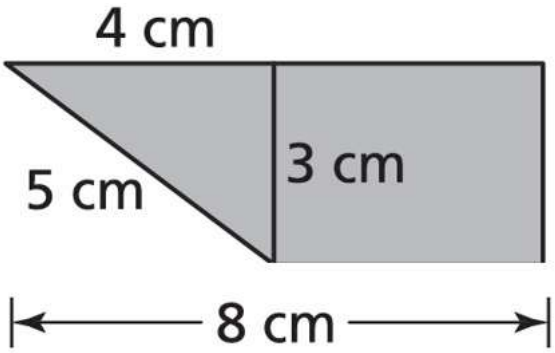

وضح خطوات الحل في المستطيل أدناه

السؤال السادس

اوجد حجم كل منشور ادناه:

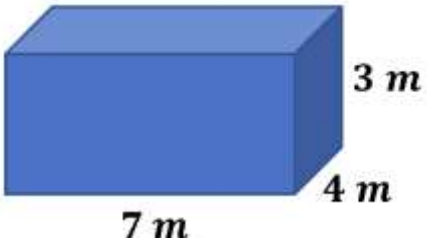

وضح خطوات الحل بالمستطيل أدناه

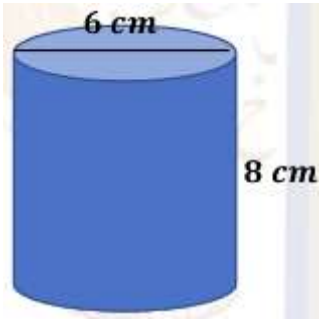

وضح خطوات الحل بالمستطيل أدناه

مع تحيات قسم الرياضيات