اختبار الوحدة الأولى (محلول)

تم تحميل هذا الملف من موقع المناهج القطرية

موقع المناهج ⇦ المناهج القطرية ⇦ الصف السادس ⇦ اجتماعيات ⇦ الفصل الأول ⇦ ملفات متنوعة ⇦ الملف

تاريخ إضافة الملف على موقع المناهج: 16-10-2026 01:47:35

المزيد من مادة اجتماعيات: ملفات ا كتب للمعلم ا كتب للطالب ا اختبارات الكترونية ا اختبارات ا حلول ا عروض بوربوينت ا أوراق عمل منهج انجليزي ا ملخصات وتقارير ا مذكرات وبنوك ا الامتحان النهائي ا للمدرس

إعداد: مدرسة الأندلس الخاصة للبنات

التواصل الاجتماعي بحسب الصف السادس

صفحة المناهج القطرية على فيسبوك

المواد على تلغرام | التربية الاسلامية | اللغة العربية | اللغة الانجليزية | الرياضيات

المزيد من الملفات بحسب الصف السادس والمادة اجتماعيات في الفصل الأول

1	تدريبات علاجية وواجبات محلولة
2	تدريبات علاجية في الدراسات الاجتماعية
3	أوراق العمل الإثرائية
4	إجابة اختبار الوحدة الأولى لمادة الدراسات الاجتماعية
5	اختبار الوحدة الثانية لمادة الدراسات الاجتماعية

تحميل تطبيق المناهج للهواتف الذكية	
تطبيق المناهج على Store App (آبل)	تطبيق المناهج على Play Google (أندرويد)

مدرسة الأندلس الخاصة للبنات

العام الأكاديمي 2026/2027



اختبار الوحدة الأولى لمادة الدراسات الاجتماعية

منتصف الفصل الدراسي الأول

الصف السادس

مجابة

2026/2027

اسم الطالبة/.....

الصف والشعبة /.....

أنت كفووووو
ثقي بنفسك

السؤال الأول اختر الإجابة الصحيحة بين البدائل التالية .

1	تُسمى أنصاف دوائر وهمية تصل بين القطبين :	
	A	دوائر العرض
	B	خطوط الطول
	C	دائرة الاستواء
	D	مدار السرطان

2	عدد النطاقات الزمنية في العالم :	
	A	36
	B	30
	C	24
	D	12

3	أي من التالي يقسم الكرة الأرضية إلى قسمين شمالي وجنوبي ؟	
	A	دوائر العرض
	B	خطوط الطول
	C	دائرة الاستواء
	D	مدار السرطان

4	**تحتل الجزائر من حيث المساحة المركز :**	
	A	الأول
	B	الثانـي
	C	الـثـالث
	D	الـرابــع

5	**تمتد سهول تهامة على ساحل :**	
	A	بحر العرب
	B	البحر المتوسط
	C	البحر الأحمر
	D	الخليج العربي

6	**يحيط بالوطن العربي غربا :**	
	A	بحر عمان
	B	بحر العرب
	C	البحر المتوسط
	D	المحيط الأطلنطي

7	**تقع في وسط شبه الجزيرة العربية هضبة :**	
	A	نجد
	B	الشطوط
	C	حضرموت
	D	بـادية الـشـام

الأسئلة المقالية:

اجب عن الأسئلة التالية:

السؤال الأول: -	
"الموقع الصحيح على سطح الأرض يمكن تعينه بتحديد خط الطول ودائرة العرض " في ضوء العبارة السابقة أجب عن الأسئلة التالية . عرف خطوط الطول . أنصاف دوائر وهمية تصل بين القطبين -ما أهمية خطوط الطول ودوائر العرض ؟ 1 – تحديد المواقع على سطح الأرض بدقة. 2 – التعرف على حالة المُناخ. 3 – معرفة الزمن وفروق التوقيت بين مختلف البلدان	

السؤال الثاني :	
-أكمل مخطط موارد المياه في الوطن العربي . 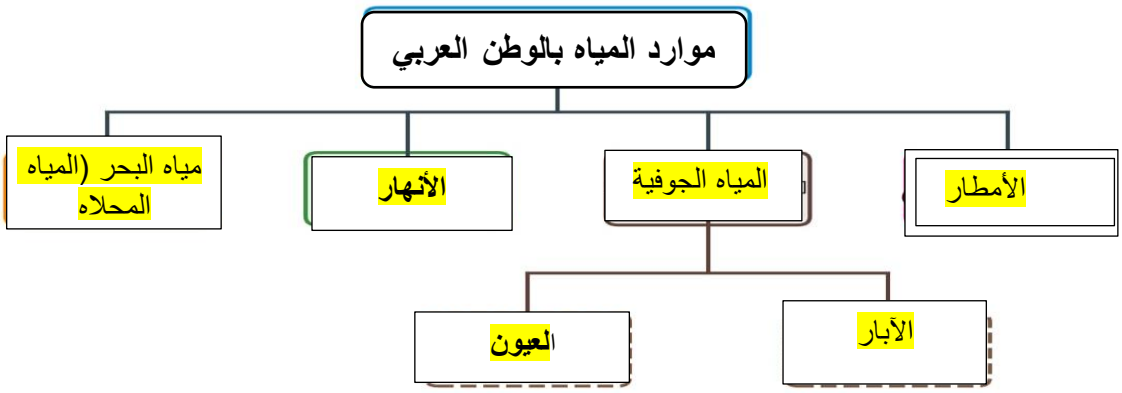 	

السؤال الثالث: يحفظ ثلاثة فقط من جهة

-عدد أهم هضاب وجبال الوطن العربي في الجدول التالي .

أهم جبال الوطن العربي	أهم هضاب الوطن العربي
1-جبال الحجاز	1-نجد
2-جبال عسير	2-الصمان
3-جبال أطلس	3--حضرموت
4-الجبل الأخضر	4 -الجلف الكبير
5-جبال اليمن	5-بادية الشام
6-جبال الأحجار	6-الشطوط
7-جبال البحر الأحمر	7-مرمريكا
8-جبل العوينات	8-ادارار

السؤال الرابع :-

❖- بم تفسر اتجهت دول الوطن العربي إلى تحلية مياه البحر ؟

1. قلة موارد المياه العذبة .
2. زيادة عدد السكان .
3. وفرة مصادر الطاقة لتشغيل محطات التحلي

السؤال الخامس :

حدد على خريطة الوطن العربي الصماء(الجبال) المشار إليها بالأسهم في المربعات المخصصة لها

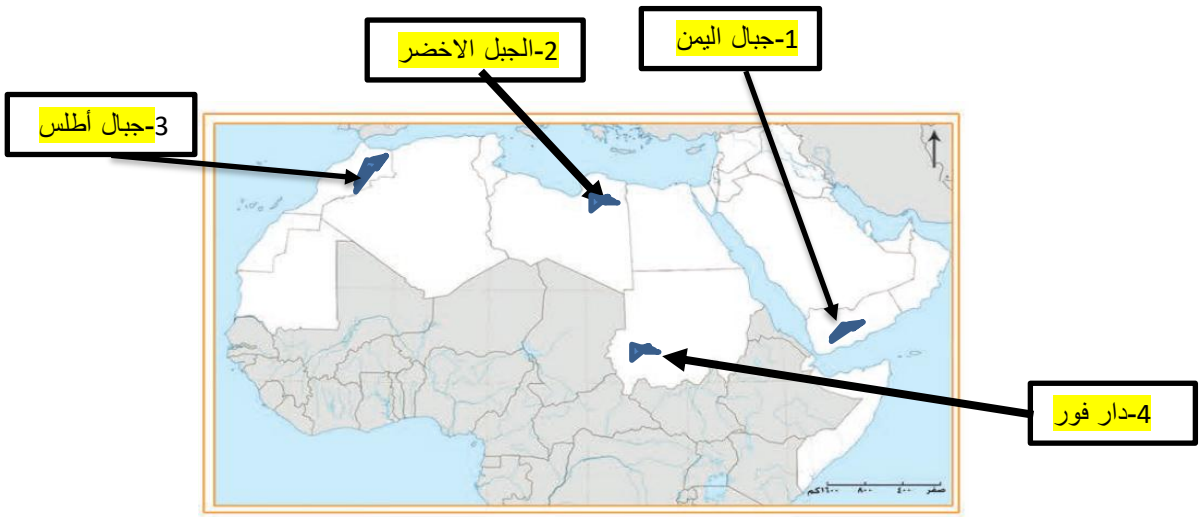

يعتمد/ مديرة المدرسة

مي محمد العيلة