تدريبات إثرائية للوحدة الأولى والثانية (محلول)

تم تحميل هذا الملف من موقع المناهج القطرية
موقع المناهج ⇦ المناهج القطرية ⇦ الصف الخامس ⇦ اجتماعيات ⇦ الفصل الأول ⇦ ملفات متنوعة ⇦ الملف
تاريخ إضافة الملف على موقع المناهج: 16-10-2026 15:26:26

المزيد من مادة اجتماعيات:	ملفات ا كتب للمعلم ا كتب للطالب ا اختبارات الكترونية ا اختبارات ا حلول ا عروض بوربوينت ا أوراق عمل منهج انجليزي ا ملخصات وتقارير ا مذكرات وبنوك ا الامتحان النهائي ا للمدرس

التواصل الاجتماعي بحسب الصف الخامس					
صفحة المناهج القطرية على فيسبوك					
المواد على تلغرام	التربية الاسلامية	اللغة العربية	اللغة الانجليزية	الرياضيات	

المزيد من الملفات بحسب الصف الخامس والمادة اجتماعيات في الفصل الأول	
1	تدريبات إثرائية مجابة لمنهج منتصف الفصل الدراسي الأول
2	تدريبات إثرائية وواجبات منهج منتصف الفصل الدراسي الأول
3	أوراق العمل الإثرائية للمناخ وتضاريس شبه الجزيرة العربية
4	اختبار الوحدة الأولى (الأرض من حولي)
5	إجابة اختبار الوحدة الأولى (الأرض من حولي)

تحميل تطبيق المناهج للهواتف الذكية	
تطبيق المناهج على Store App (آبل)	تطبيق المناهج على Play Google (أندرويد)

تدريبات اثرائية لطلاب الصف الخامس الوحدة الأولى ف1

التاريخ 2026-9-10 **الوحدة الأولى**

1 **- يحد شبه الجزيرة العربية من الشمال دولة:**

أ - لبنان

ب - سوريا

✓ - الأردن

د - فلسطين

2 **- " وزن عمود من الهواء على مساحة ما من الأرض " يشير التعريف السابق الى مفهوم**

أ - الرِّياح.

ب - الأمطار

ج - المُناخ.

✓ - الضغط الجوي.

3 **- المصدر الرئيسي للمياه على سطح الأرض؟**

أ - الرياح

ب - الحرارة

✓ - الأمطار

د - الضغط الجوي

5 **- أكبر دول شبه الجزيرة العربية مساحة :**

أ - اليمن

ب - البحرين

✓ - السعودية

د - سلطنة عمان

almanahj.com/qa

6 - **تهب رياح الكوس على دولة:**

- قطر
- ب - اليمن
- ج - السعودية
- د - سلطنة عمان

7 - **أهم العناصر المُناخية التي تؤثّر على باقي عناصر المُناخ:**

- الحرارة.
- ب - الأمطار.
- ج - الرّياح.
- د - الضغط الجوي.

8 - **كم يبلغ عدد دوائر العرض التي تقطع شبه الجزيرة العربية؟**

- أ - 19
- 20
- ج - 21
- د - 22

9 **"وَصْف حالة الجو في منطقة معيَّنة خلال فترة زمَنيَّة قصيرة " يشير التعريف السابق الى مفهوم**

- الطقس
- ب - المناخ
- ج - الرياح
- د - نسم البر والبحر

10- اكتب ما تشير إليه الأحرف على خريطة شبه الجزيرة العربية الصماء التي أمامك:

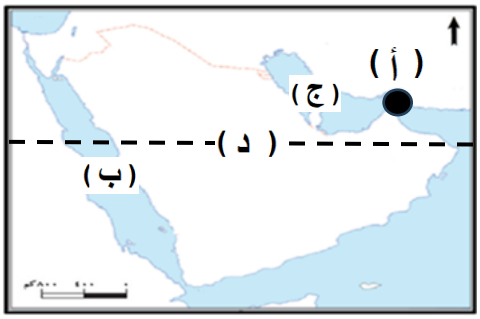

أ- مضيق هرمز

ب- البحر الأحمر

ج- الخليج العربي

د- مدار السرطان

11 - عدِّد أهم الجبال والهضاب في شبه الجزيرة العربية.

أهم الجبال	أهم الهضاب
عسير وشمر	نجد - الصمان
اليمن و عمان	حضرموت
النبى شعيب و مدين - الحجاز	الحماد و الحجرة

12-وضح أهمية موقع شبه الجزيرة العربية

أ- تُطِلُّ على مسطحات مائية مهمَّة مثل: الخليج العربي

ب- تُشْرِف على مضائق مهمة، مثل: مضيق هرمز

ج- أهمية دينية

د- وسط القارات

13- بم تفسر تعتبر الحرارة أهم عناصر المناخ؟

لأنها تؤثر في باقي العناصر

14- عدد عناصر المناخ.

أ- الحرارة

ب- الأمطار

ج- الضغط الجوي

د- الرياح

15- عدد أنواع الرياح.

أ- الدائمة

ب- الموسمية

ج- اليومية

د- اليومية

16

11 - اكتب مدلولات الأرقام على الخريطة

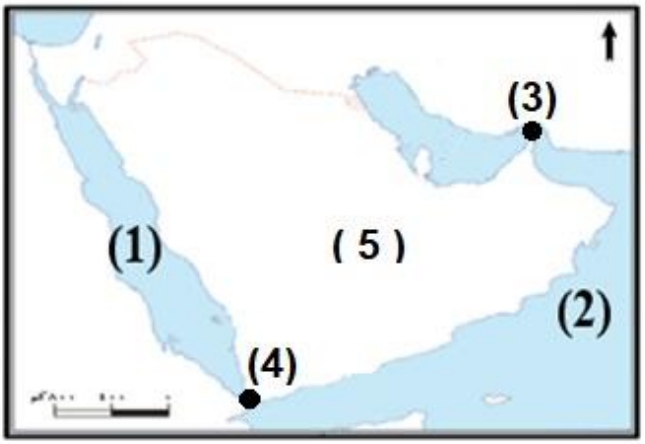

1 - البحر الأحمر

2- بحر العرب

3- مضيق هرمز

4- مضيق باب المندب

5- هضبة نجد

17-رتب الدول التالية تنازليا من الأكبر مساحة للأقل

(البحرين - اليمن - السعودية)

السعودية — اليمن — البحرين

الأكبر (2 مليون كم2) — (550 الف كم2) — (770 كم2) الأصغر

18- عدد موارد المياه العذبة:

أ- .. **الأمطار** .....

ب- ..... **المياه المحلاة** .....

ج- ..... **المياه الجوفية (الأبار و العيون)** .....

19- العوامل المؤثرة في مناخ شبه الجزيرة العربية :

أ- مظاهر السطح

ب- توزيع اليابس والماء

ج- الموقع الفلكي

20- عدد أنواع النبات الطبيعي في شبه الجزيرة العربية:

أ- الحشائش المعتدلة (الإستبس)

ب- الحشائش الحارة (السافانا)

ج- النباتات الصحراوية

د- الغابات المدارية

انتهت الأسئلة

almanahj.com/ae

تدريبات اثرائية لطلاب الصف الخامس الوحدة الثانية التاريخ 2026-10-4

أجب عن جميع الأسئلة الاتية:

1 **" كل ما أنجزه الانسان في جميع مجالات الحياة " يشير التعريف السابق إلى مفهوم:**

أ **التراث**

ب **الأصالة**

ج **العادات**

✓ **الحضارة**

2 - **عاصمة مملكة سبأ هي:**

أ **الفاو**

✓ **مأرب**

ج **الجوف**

د **ريدان**

3 **قامت مملكة كندة في غرب هضبة:**

✓ **نجد**

ب **اليمن**

ج **الاحساء**

د **الحجاز**

4 **من أشهر ملوك كندة:**

أ **طرفة بن العبد**

✓ **الحارث بن عمرو**

ج **النعمان بن المنذر**

د **الحارث الثاني بن جبلة**

almanahj.com/qa

5 الحرفة الرئيسية لسكان شبه الجزيرة العربية قديماً:

- ✓ الرعي
- ب التجارة
- ج الزراعة
- د الصناعة

6 ضمت الطبقة الدنيا في المجتمع العربي قديماً:

- ✓ العبيد
- ب صغار التجار
- ج كبار الموظفين
- د أصحاب الأراضي الواسعة

7 يسود شبه الجزيرة العربية المناخ:

- أ البارد
- ب المعتدل
- ج الموسمي
- ✓ الصحراوي

8 يرجع انهيار سد مأرب الى:

- أ زلزال قوي
- ✓ سيل شديد
- ج ظهور بركان
- د حروب داخلية

almanahj.com/ae 2026 2025

9- رتب ممالك شبه الجزيرة العربية على الخط الزمني الآتي.

(حمير- معين - كندة - سبأ)

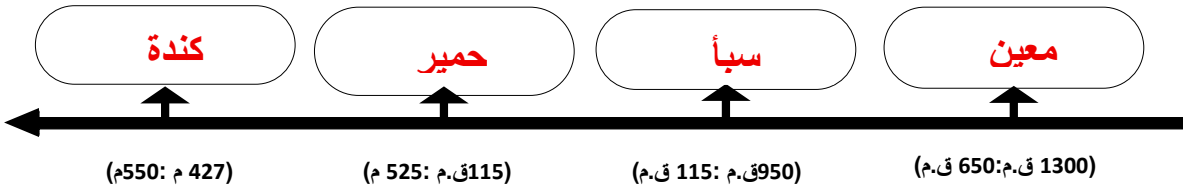

10- بم تفسر سقوط مملكة سبأ؟

أ- انهيار سد مأرب
ب- سيطرة دولة الأنباط على التجارة البرية.

11- عدد المحاصيل الزراعية في شبه الجزيرة العربية

أ- النخيل

ب- الخضروات

ج- الفاكهة

د- القمح

و- الشعير

12-وضح مكانة المرأة في حضارات العرب القديمة

وقت السِّلم تساعد زوجها في أعمال
1- الزراعة
2- الرعي
3- غزل النسيج والصوف
4- بالتجارة
5- أصبحت ملكة مثل بلقيس.

almanahj.com/ps

13 - وضح طبقات المجتمع في حضارات شبه الجزيرة العربية قديماً.
(الملك – العبيد – الصناع)

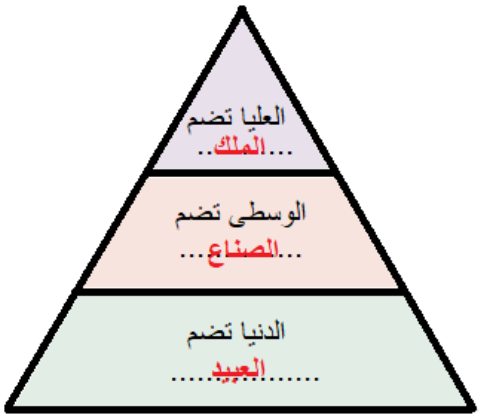

14- وضح العوامل الطبيعية لقيام الحضارة في شبه الجزيرة العربية قديماً.

1- الموقع الجغرافي – مثل طول السواحل - تجارة بحرية
2- المناخ – مثل صحراوي – رعي
3- موارد المياه - مثل جوفية يثرب و الامطار اليمن
4- الموارد الطبيعية مثل الصخور مثل المعادن صناعة الأسلحة

15- عدد أهم الصناعات في حضارات شبه الجزيرة العربية قديماً.

1- صناعة الأسلحة
2- الأواني الفخارية
3- صناعة الحلي
4 - العملات المعدنية
5- دبغ الجلود
6- صناعة الحرير والكتان

انتهت الأسئلة

almanahj.com/ae