تم تحميل هذا الملف من موقع المناهج القطرية

موقع المناهج ⇦ المناهج القطرية ⇦ الصف الثالث الابتدائي ⇦ رياضيات ⇦ الفصل الثاني ⇦ ملفات متنوعة ⇦ الملف

تاريخ إضافة الملف على موقع المناهج: 23-05-2026 01:51:40

المزيد من مادة رياضيات:	ملفات ا كتب للمعلم ا كتب للطالب ا اختبارات الكترونية ا اختبارات ا حلول ا عروض بوربوينت ا أوراق عمل منهج انجليزي ا ملخصات وتقارير ا مذكرات وبنوك ا الامتحان النهائي ا للمدرس

التواصل الاجتماعي بحسب الصف الثالث الابتدائي

صفحة المناهج القطرية على فيسبوك					
المواد على تلغرام	التربية الاسلامية	اللغة العربية	اللغة الانجليزية	الرياضيات	

المزيد من الملفات بحسب الصف الثالث الابتدائي والمادة رياضيات في الفصل الثاني

1	إختبار الوحدة الحادية عشر
2	إختبار الوحدة العاشرة لنهاية الفصل الدراسي الثاني

مدرسة الأندلس الخاصة للبنات

العام الأكاديمي 2025/2026

إختبار الوحدتين (12+13)

لنهاية الفصل الدراسي الثاني

مادة الرياضيات

الصف الثالث الابتدائي

اسم الطالبة/.....

الصف والشعبة /.....

الوحدتين (13 + 12)

خصائص الأشكال الثنائية الأبعاد

حل مسائل عن المحيط

الوحدة الثانية عشر

(12-1) وصف الأشكال

(12-2) تصنيف الأشكال

الوحدة الثالثة عشر

(13-1) فهم المحيط

(13-2) محيط الأشكال المعروفة

(13-3) المحيط وأطوال الأضلاع المجهولة

وباقي الدروس الغير مذكورة دروس اثرائية
غير مطلوبة في مادة الاختبار



الأسئلة الموضوعية :

1	ما وجه الشبه بين الأشكال أدناه؟	
---/1	جميعها مقعرة	A
	جميعها محدبة	B
	جميعها رباعية	C

2	أي شكل لهُ 4 زوايا قائمة وجميع أضلاعه متساوية في الطول؟	
---/1	المُربع 	A
	المُستطيل 	B
	المُعيّن 	C

3	ماذا يسمى الشكل أدناه؟	
---/1	A مستطيل	
	B شبه منحرف	
	C متوازي الأضلاع	

4	اختر احد خواص الشكل الموجود أدناه :	
---/1	A له زوج واحد فقط من الأضلاع المتوازية	
	B جميع أضلاعه متساوية	
	C أربع زوايا قائمة	

5	ما محيط المضلع التالي؟	
---/1	A 12 cm	
	B 20 cm	
	C 24 cm	

6	ما محيط المضلع التالي؟ 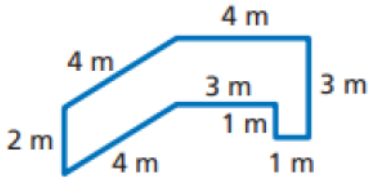	
A	20 m	---/1
B	21 m	
C	22 m	

7	ما محيط المستطيل التالي؟ 	
A	7 m	---/1
B	10 m	
C	14 m	

8	ما محيط المثلث متطابق الأضلاع التالي؟	
A	3 cm	---/1
B	6 cm	
C	9 cm	

9	ما محيط متوازي الأضلاع التالي؟	
---/1	A	12 m
	B	24 m
	C	32 m

10	أوجد محيط الشكل التالي:	
---/1	A	11 cm
	B	13 cm
	C	16 cm

الأسئلة المقالية :

السؤال الاول :	4/

A. صل كل شكل بالوصف الذي يناسبه.

الوصف	الشكل
لي 4 زوايا قائمة، وجميع أضلاعي متساوية في الطول	
لي زوج واحد فقط من الأضلاع المتوازية	

B. أوجد محيط الشكل أدناه.

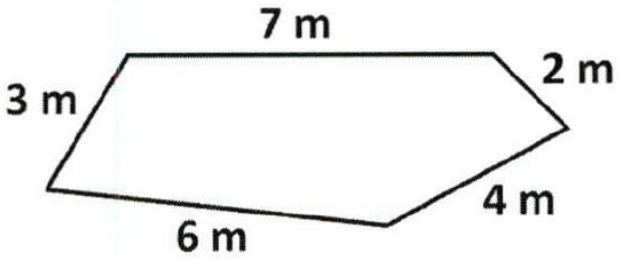

السؤال الثاني :	3/

A. أي الأشكال أدناه له زوج واحد فقط من الأضلاع المتوازية؟

المعين شبه المنحرف المربع

الإجابة: _____

B. أوجد محيط المستطيل أدناه.

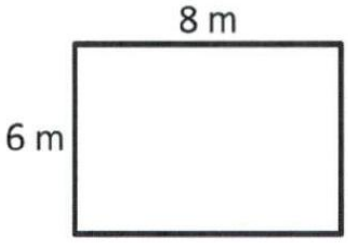

وضّح عملك هنا.

السؤال الثالث :	2/

أوجد محيط المُضَلّع أدناه.

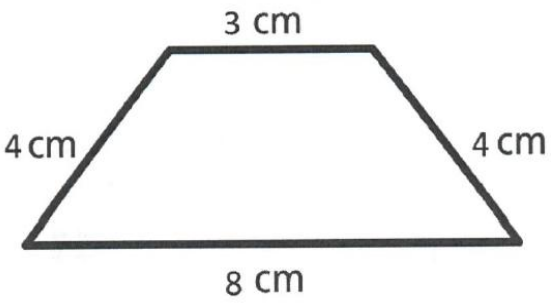

وضِّح عملك هنا.

وصف الأشكال

السؤال الأول	/8

لِبَعْضِ الْأَشْكَالِ الرُّبَاعِيَّةِ أَسْمَاءٌ خاصَّةٌ.

شِبْهُ الْمُنْحَرِفِ

زَوْجٌ واحِدٌ فَقَطْ مِنَ **الْأَضْلاعِ الْمُتَوازِيَةِ**، أَيْ أَضْلَاعٌ لا تَلْتَقِي أَبَدًا

مُتَوازِي الْأَضْلاعِ

زَوْجانِ مِنَ الْأَضْلاعِ الْمُتَوازِيَةِ

الْأَضْلاعُ الْمُتَقابِلَةُ لَها نَفْسُ الطُّولِ.
الزَّوايا الْمُتَقابِلَةُ لَها نَفْسُ الْقِياسِ.

مُسْتَطِيلٌ

أَرْبَعُ **زَوايا قائِمَةٍ**، أَوْ أَرْكانٌ مُرَبَّعَةٌ

الْمُسْتَطِيلُ حالَةٌ خاصَّةٌ مِنْ *مُتَوازِي الْأَضْلاعِ*.



مُعَيَّنٌ

جَمِيعُ الْأَضْلاعِ مُتَساوِيَةٌ فِي الطُّولِ

الْمُعَيَّنُ حالَةٌ خاصَّةٌ مِنْ *مُتَوازِي الْأَضْلاعِ*.



مُرَبَّعٌ

أَرْبَعُ زَوايا قائِمَةٍ وَجَمِيعُ الْأَضْلاعِ مُتَساوِيَةٌ فِي الطُّولِ

الْمُرَبَّعُ حالَةٌ خاصَّةٌ مِنْ *مُتَوازِي الْأَضْلاعِ*.

هَذِهِ مُضَلَّعاتٌ **مُحَدَّبَةٌ**. جَمِيعُ زَوايَاهَا تَتَّجِهُ إِلَى الْخارِجِ.

هَذِهِ مُضَلَّعاتٌ **مُقَعَّرَةٌ**. واحِدَةٌ أَوْ أَكْثَرُ مِنْ زَوايَاهَا تَتَّجِهُ إِلَى الدَّاخِلِ.

أكتب اسم كل شكل رباعي من الأشكال التالية :

1.

2.

3.

4.

5.

السؤال الأول	8/

فِي التَّمارِينِ 1-5، أَقْرَأُ الْوَصْفَ وَأُحَوِّطُ الشَّكْلَ الرُّبَاعِيَّ الصَّحِيحَ، ثُمَّ أَكْتُبُ الِاسْمَ.

1. لِي 4 زَوَايَا قَائِمَةٍ وَجَمِيعُ أَضْلَاعِي مُتَسَاوِيَةٌ فِي الطُّولِ.
أَنَا _____.

2. لِي زَوْجٌ وَاحِدٌ فَقَطْ مِنَ الْأَضْلَاعِ الْمُتَوَازِيَةِ.
أَنَا _____.

3. لِي أَرْبَعُ زَوَايَا قَائِمَةٍ لَكِنَّ أَضْلَاعِي الْمُتَقَابِلَةَ فَقَطْ مُتَسَاوِيَةٌ.
أَنَا _____.

4. كُلُّ أَضْلَاعِي مُتَسَاوِيَةٌ فِي الطُّولِ، لَكِنْ لَيْسَ لِي زَوَايَا قَائِمَةٌ.
أَنَا _____.

للاستزادة يرجى الرجوع لصفحات الكتاب (369-374)

تصنيف الأشكال

السؤال الأول	/4

في التَّمارينِ 7-11، أَستَعمِلُ المَجمُوعَتَينِ أَدنَاهُ.

المَجمُوعَةُ 2

المَجمُوعَةُ 1

7. مَا وَجهُ الاختِلافِ بَينَ الأَشكالِ فِي المَجمُوعَةِ 1 وَالأَشكالِ فِي المَجمُوعَةِ 2؟

8. مَا وَجهُ الشَّبَهِ بَينَ المَجمُوعَتَينِ؟

أَصِلُ كُلًّا مِنَ الخَصائِصِ بِالمَجمُوعَةِ المُناسِبَةِ.

المَجمُوعَةُ 2	المَجمُوعَةُ 1

4 زَوايا | زَوجَانِ مِنَ الأَضلاعِ المُتَوازِيَةِ | أَضلاعٌ مُختَلِفَةُ الطُّولِ | 4 أَضلاعٍ | مُحَدَّبٌ

فهم المحيط

السؤال الأول	/8

في التَّمارينِ 5-7، أُوجِدُ مُحيطَ كُلِّ مُضلَّعٍ.

5.

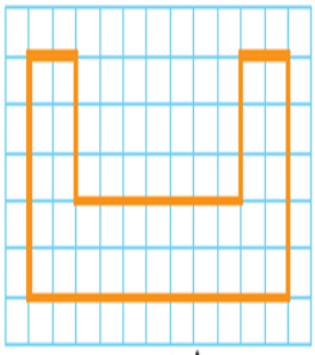

الْمِقْياسُ: 1 m = ⊢

6.

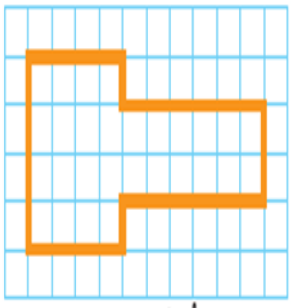

الْمِقْياسُ: 1 m = ⊢

7.

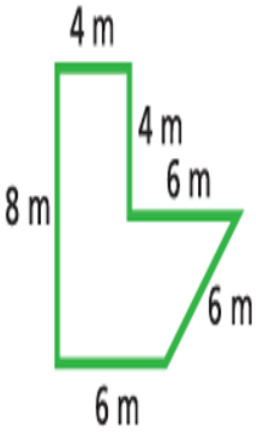

14. يَحْتاجُ ماجِدٌ إِلى إيجادِ مُحيطِ الْفِناءِ الْمُجاوِرِ.

مَا مُحيطُ الْفِناءِ؟

كَيْفَ يُمْكِنُ لِماجِدٍ إيجادُ الْمُحيطِ؟

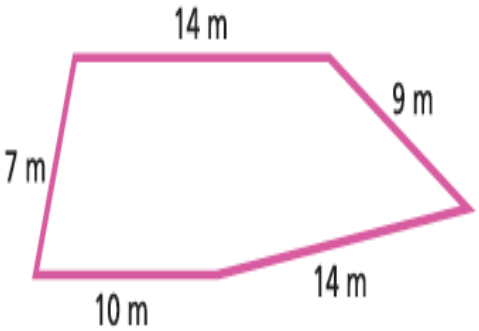

محيط الأشكال المعروفة

السؤال الأول	/9

في التَّمارين 1-9، أوجِدْ مُحيطَ كُلِّ مُضلَّعٍ.

1. مُرَبَّعٌ

2. مُستَطيلٌ

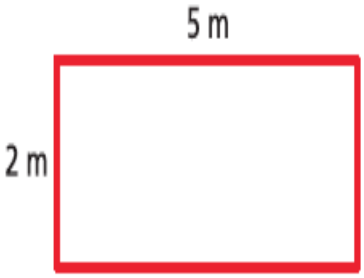

3. مُثلَّثٌ مُتَطابِقُ الأَضلاعِ

4. مُتَوازِي أَضلاعٍ

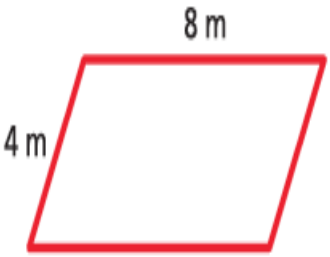

5. مُستَطيلٌ

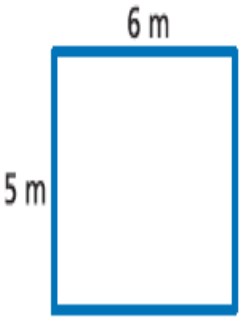

6. مُثلَّثٌ مُتَطابِقُ الأَضلاعِ

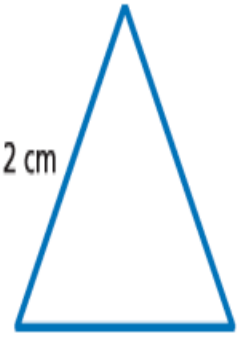

للاستزادة يرجى الرجوع لصفحات الكتاب (411-416)

المحيط وأطوال الأضلاع المجهولة

السؤال الأول	/6

في التّمارين **1-6**، أُوجِدُ طُولَ الضِّلعِ المَجهولِ في كُلِّ مُضَلّعٍ.

1. المُحيطُ = 29 cm

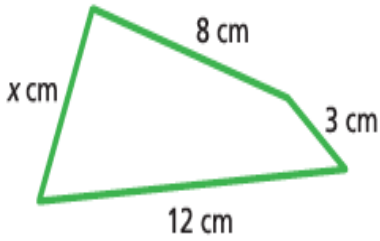

2. المُحيطُ = 55 m

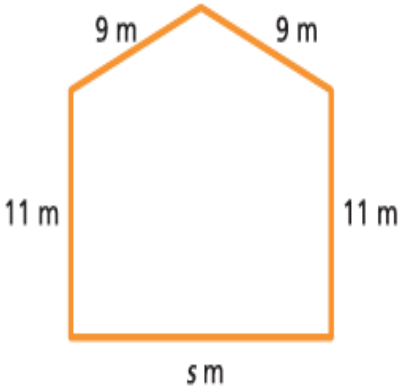

3. المُحيطُ = 30 cm

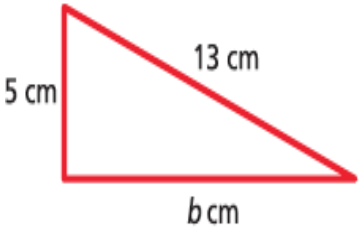

في التّمارينِ **5-10**، أُوجِدُ طُولَ الضِّلعِ المَجهُولِ في المُضَلّعِ بِحَيثُ يَكُونُ لَهُ المُحيطُ المُوَضَّحُ.

5. المُحيطُ = 24 cm

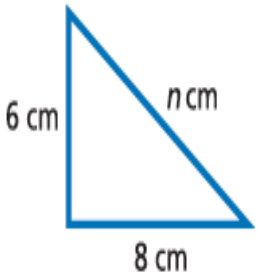

6. المُحيطُ = 30 m

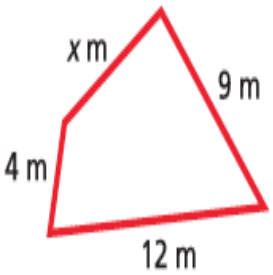

7. المُحيطُ = 37 m

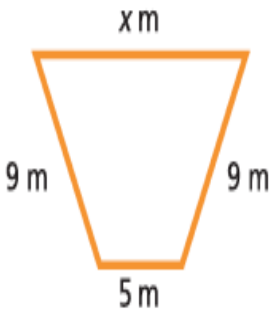

انتهت الاسئلة