| | |
|---|---|
| | |

تم تحميل هذا الملف من موقع المناهج القطرية

موقع المناهج ⇦ المناهج القطرية ⇦ الصف الحادي عشر الأدبي ⇦ جغرافيا ⇦ الفصل الثاني ⇦ ملفات متنوعة ⇦ الملف

تاريخ إضافة الملف على موقع المناهج: 23-05-2026 02:24:36

| | |
|---|---|
| المزيد من مادة جغرافيا: | ملفات ا كتب للمعلم ا كتب للطالب ا اختبارات الكترونية ا اختبارات ا حلول ا عروض بوربوينت ا أوراق عمل منهج انجليزي ا ملخصات وتقارير ا مذكرات وبنوك ا الامتحان النهائي ا للمدرس |

التواصل الاجتماعي بحسب الصف الحادي عشر الأدبي

| | | | | | |
|---|---|---|---|---|---|
| صفحة المناهج القطرية على فيسبوك | | | | | |
| المواد على تلغرام | التربية الاسلامية | اللغة العربية | اللغة الانجليزية | الرياضيات | |

المزيد من الملفات بحسب الصف الحادي عشر الأدبي والمادة جغرافيا في الفصل الثاني

| | |
|---|---|
| 1 | مراجعة الوحدة الثانية: قارة أمريكا الجنوبية |
| 2 | مراجعة الوحدة الثالثة :قارة أستراليا |
| 3 | مراجعة الوحدة الثالثة: قارة أستراليا |
| 4 | الخطة الفصلية المعدلة للفصل الثاني اخر تحديث 9 أبريل |
| 5 | الخطة الفصلية للفصل الثاني |

# مدرسة الأندلس الخاصة للبنات

## العام الأكاديمي2026/2025



الوحدة الثانية

(مراجعة الوحدة الثانية :قارة أمريكا الجنوبية)

(مجابة)

**مادة الجغرافيا**

الصف الحادي عشر أدبي

اسم الطالبة/.....

الصف والشعبة /.....

أنت كفوووو
ثقي بنفسك

# الوحدة الثانية: قارة أمريكا الجنوبية

## (الخصائص الطبيعية في قارة أمريكا الجنوبية)

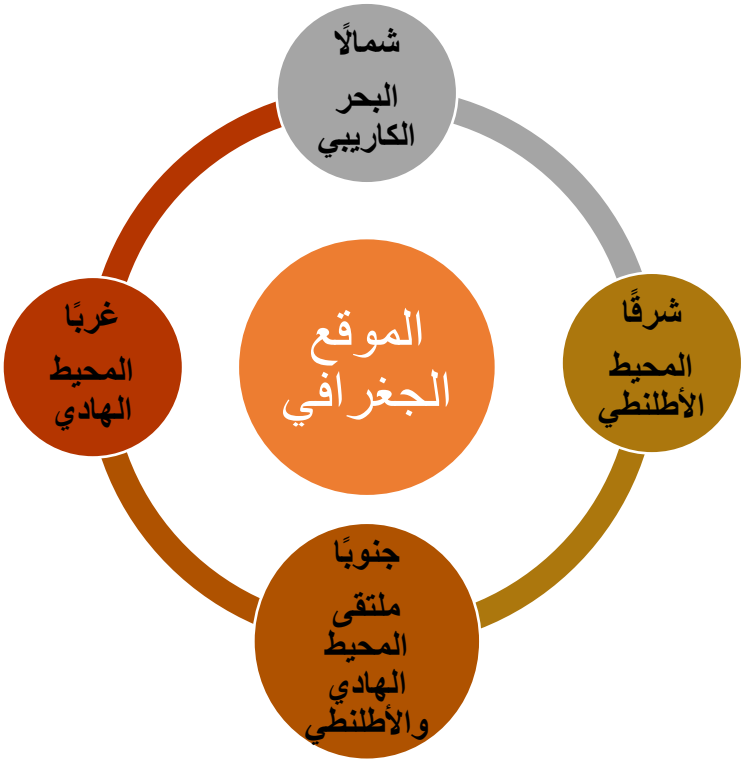

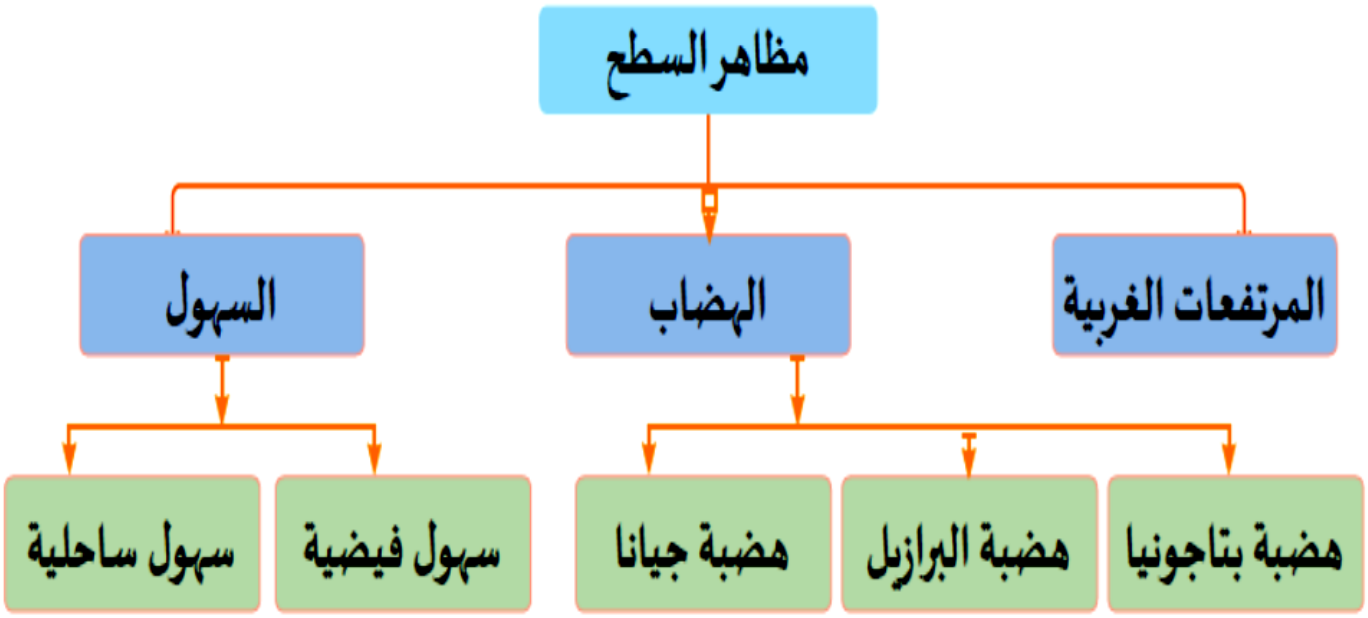
مظاهر السطح
المرتفعات الغربية
الهضاب
السهول
هضبة بتاجونيا
هضبة البرازيل
هضبة جيانا
سهول فيضية
سهول ساحلية

## 3- السهول

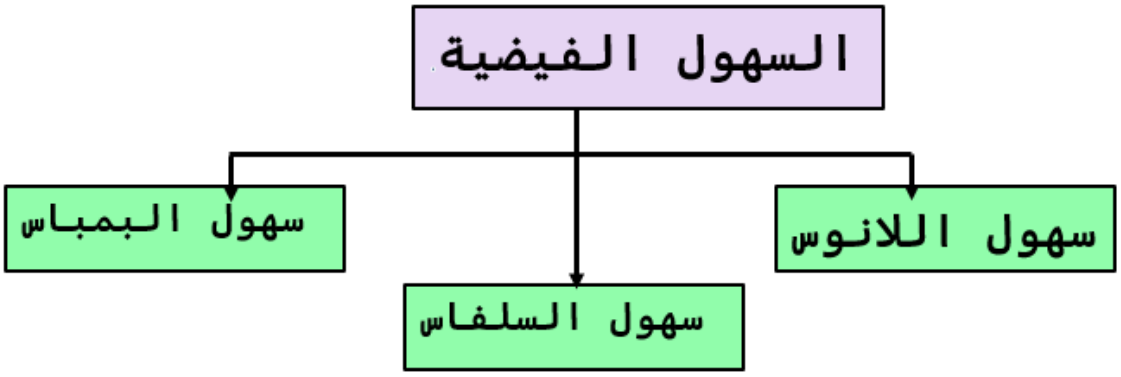
السهول الفيضية
سهول اللانوس
سهول البمباس
سهول السلفاس

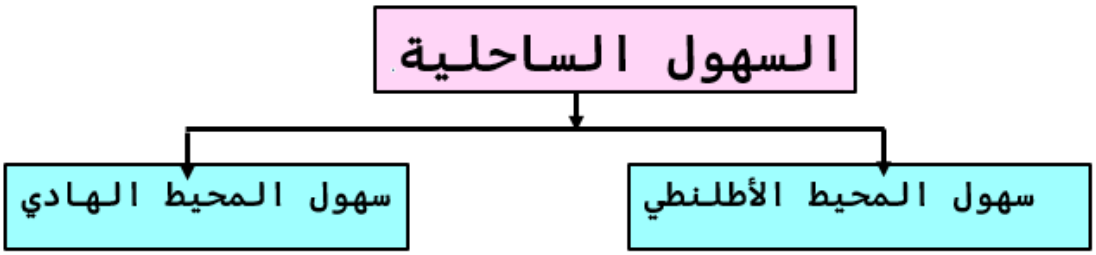
السهول الساحلية
سهول المحيط الأطلنطي
سهول المحيط الهادي

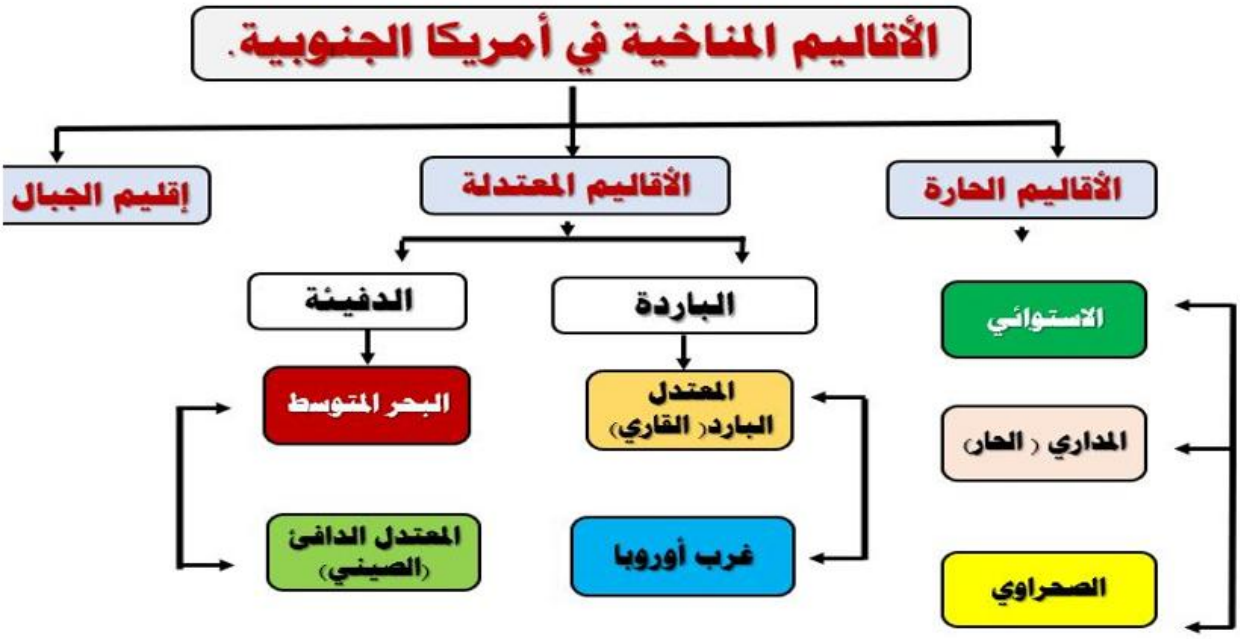


## الهضاب في قارة أمريكا الجنوبية

| وجه المقارنة | هضبة جيانا | هضبة البرازيل | هضبة بتاجونيا |
|---|---|---|---|
| الإمتداد | تمتد شمال القارة | تمتد شرق القارة | تمتد جنوب شرق القارة |
| الخصائص | 1-تتميز بأنها هضبة قليلة الارتفاع<br>2-تفصل بين حوض نهر الأورينوكو شمالاً والأمازون في الجنوب | 1-أكثر الهضاب ارتفاعاً واتساعاً<br>2-تقطعها العديد من الأنهار<br>3-يعيش بها عدد كبير من سكان البرازيل؛ نظراً لاستوائها واعتدال مناخها نتيجة الارتفاع | 1-تُعد أقل هضاب القارة اتساعاً وارتفاعاً وأشدها جفافاً؛ لوقوعها في منطقة ضغط مرتفع لا تجذب الرياح الممطرة إليها. |

## السهول في قارة أمريكا الجنوبية

| سهول اللانوس | سهول السلفاس | سهول نهر لابلاتا (البمباس) |
|---|---|---|
| 1-تمتد أقصى شمال القارة<br>2-يجري بها نهر الأورينوكو وروافده، ويصب في المحيط الأطلنطي. | 1-تُعد أوسع السهول الفيضية في العالم<br>2-يجري بها نهر الأمازون الذي ينبع من جبال الإنديز ويصب في المحيط الأطلنطي<br>3-تتميز بوجود أكبر غابة استوائية في العالم. | 1-تمتد في جنوب القارة<br>2-تشغل معظم مساحة الأرجنتين وتجري بها أنهار (بارانا - بارجواي - لابلاتا)<br>3-تتميز بقيمتها الاقتصادية الكبرى؛ لانتشار المراعي بها |

# الوحدة الثانية: قارة أمريكا الجنوبية

## (السكان في قارة أمريكا الجنوبية)

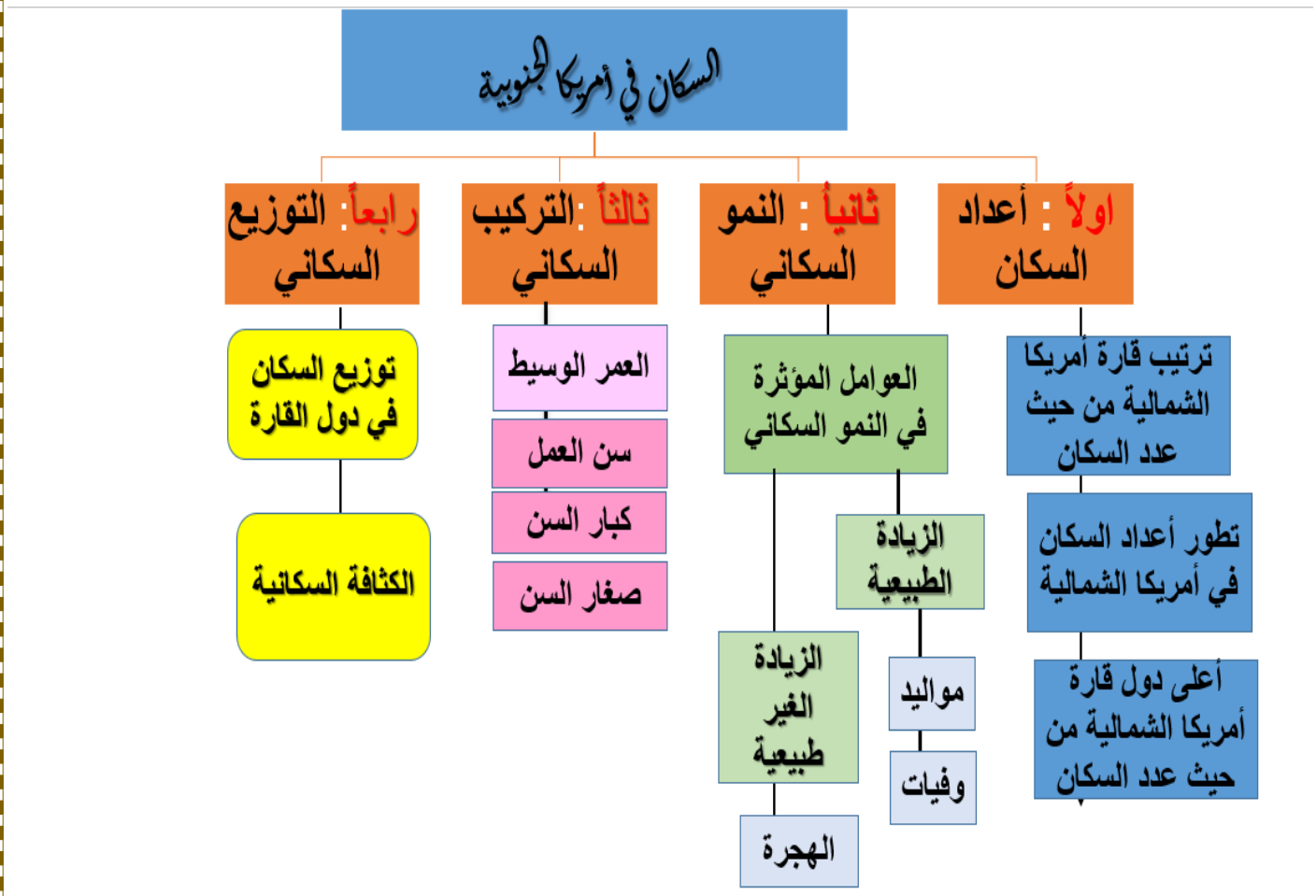

# الوحدة الثانية: قارة أمريكا الجنوبية

## (الأنشطة الاقتصادية في قارة أمريكا الجنوبية)

**قارن بين أنماط الزراعة في قارة أمريكا الجنوبية**

| وجه المقارنة | الزراعة التجارية | زراعة البحر المتوسط | الزراعة الانتقالية |
|---|---|---|---|
| الموقع | يتركَّز هذا النمط من الزراعة في الأرجنتين | ينتشر هذا النمط من الزراعة في المناطق الواقعة بين دائرتي عرض 30 : 40 درجة غرب قارة أمريكا الجنوبية في وادي تشيلي الأوسط. | تنتشر في المناطق الاستوائية والمدارية في القارة |
| الخصائص | يتخذ شكل هلال حول مصب نهر لابلاتا، وكذلك في مساحات متفرقة على سواحل شرق وشمال القارة | أهم المحاصيل الزراعية في هذا النمط:<br>القمح والشعير شتاءً.<br>الخضراوات والذرة والأرز صيفاً.<br>أشجار الزيتون والموالح والتين والجوز واللوز والبندق وأشجار النخيل. | هي زراعة بدائية بسيطة تهدف إلى تحقيق الاكتفاء الذاتي |

أنت كفووووو
ثقي بنفسك

السؤال الأول :اخترالإجابة الصحيحة بين البدائل التالية :-

| | | |
|---|---|---|
| 1 | من الدول الشريطية في قارة أمريكا الجنوبية: | |
| | A | تشيلي |
| | B | الأرجواي |
| | C | الأرجنتين |
| | D | كولومبيا |

| | | |
|---|---|---|
| 2 | دائرة العرض الرئيسية التي تمر جنوب قارة أمريكا الجنوبية: | |
| | A | مدار الجدي |
| | B | خط الاستواء |
| | C | مدار السرطان |
| | D | القطب الشمالي |

| | | |
|---|---|---|
| 3 | يحد قارة أمريكا الجنوبية جنوباً التقاء مياه المحيطين الأطلنطي والمحيط: | |
| | A | الهندي |
| | B | الهادي |
| | C | المتجمد الشمالي |
| | D | المتجمد الجنوبي |

| | | |
|---|---|---|
| 4 | كانت أمريكا الجنوبية جزءاً من قارة: | |
| | A | آسيا |
| | B | إفريقيا |
| | C | أوروبا |
| | D | أمريكا الشمالية |

| | | |
|---|---|---|
| 5 | أكبر دول أمريكا الجنوبية مساحة دولة: | |
| | A | تشيلي |
| | B | البرازيل |
| | C | كولومبيا |
| | D | الأرجنتين |

| | | |
|---|---|---|
| 6 | تُعد اللغة الإسبانية اللغة الرسمية لجميع دول القارة عدا دولة: | |
| | A | غويانا |
| | B | البرازيل |
| | C | الأرجنتين |
| | D | أوروجواي |

| | | |
|---|---|---|
| 7 | أكثر السهول اتساعاً في قارة أمريكا الجنوبية سهول: | |
| | A | البمباس |
| | B | السلفاس |
| | C | اللانوس |
| | D | بتاجونيا |

**الأسئلة المقالية:**

**اجب عن الأسئلة التالية:**

**السؤال الأول: - ما أهمية غابات الأمازون.**

**1-توفّر خُمس غاز الأوكسجين للكرة الأرضية.**

**2-تمتص نسبةً وافرةً من الملوثات والكربون، والتي تعتبر «حيوية» لمواجهة ظاهرة الاحتباس الحراري**

**السؤال الثاني: - وضح الأهمية الاقتصادية لسهول البمباس.**

**بسبب انتشار المراعي بها**

**السؤال الثالث:- ما النتائج المترتبة على؟**

**1. الموقع بالنسبة لدوائر العرض لقارة أمريكا الجنوبية.**

**1-. وقوع معظم أجزاء القارة في النصف الجنوبي، بينما تقع أجزاءها الشمالية في النصف الشمالي.**

**2- مرور دائرتا عرض رئيسيتان بالقارة وهما دائرة الاستواء ومدار الجدي؛ مما أدى إلى تنوع المناخ وتنوع الغطاء النباتي والحيواني فيها.**

**السؤال الرابع:- ما النتائج المترتبة على ارتفاع جبال الإنديز.**

**1-إعاقة حركة النقل والمواصلات**

**2- صعوبة التبادل التجاري**

السؤال الخامس:- وضح الجهود الدولية للمحافظة على الغابات في قارة أمريكا الجنوبية

1- تقديم مساعدات مادية للمساهمة في المحافظة على غابات الأمازون، وفق قرارات قمة المناخ 2019م.

2-استخدام الأقمار الصناعية العالمية لمراقبة الغابات الاستوائية ورصد الحرائق بها فور حدوثها.

3- مشاركة جميع دول العالم في جهود إطفاء حرائق الغابات الاستوائية.

4- تشجيع الدول في أمريكا الجنوبية على الاستثمار وبناء المدن بعيدًا عن الغابات الاستوائية.

5- اتخاذ قرارات دولية بمعاقبة دول القارة التي لا تحافظ على الغابات الاستوائية.

السؤال السادس : قارني بين السهول الفيضية في قارة أمريكا الجنوبية من حيث:
( الموقع – النهر الرئيس )

| الانواع | البمباس | اللانوس |
|---|---|---|
| الموقع | جنوب القارة وتشغل معظم مساحة الأرجنتين | أقصى شمال القارة |
| النهر الرئيس | بارانا – باراجواي - لابالاتا | الأورينكو |

**السؤال السابع:- اذكر العوامل المؤثرة في مناخ قارة أمريكا الجنوبية**

1-شكل القارة

2-مظاهر السطح

3-الموقع بالنسبة لدوائر العرض

**السؤال الثامن :- أمامك خريطة صماء لقارة أمريكا الجنوبية ؟أكتب ماتدل علية الأرقام الموضحة عليها:**

1- المحيط الأطلنطي

2- دائرة الاستواء

3- مدار الجدي

4- مضيق ماجلان

5- هضبة جيانا

6- جبال الإنديز

7- صحراء أتكاما

8- نهر الأمازون

9- سهول البمباس

السؤال الأول :اخترالإجابة الصحيحة بين البدائل التالية :-

| | | |
|---|---|---|
| 1 | الدولة التي تحتل المرتبة الأولى من حيث عدد السكان في قارة أمريكا الجنوبية: | |
| | A | بيرو |
| | B | تشيلي |
| | C | بوليفيا |
| | D | البرازيل |

| | | |
|---|---|---|
| 2 | المرتبة التي تحتلها قارة أمريكا الجنوبية بين قارات العالم من حيث عدد السكان: | |
| | A | الثانية |
| | B | الثالثة |
| | C | الرابعة |
| | D | الخامسة |

| | | |
|---|---|---|
| 3 | تتجه معدلات المواليد في قارة أمريكا الجنوبية بشكل عام نحو: | |
| | A | الثبات |
| | B | التطابق |
| | C | الارتفاع |
| | D | الانخفاض |

| | | |
|---|---|---|
| 4 | بلغ العمر الوسيط في قارة أمريكا الجنوبية نحو: | |
| | A | 25 سنة |
| | B | 45 سنة |
| | C | 30.5سنة |
| | D | 40.5 سنة |

| | | |
|---|---|---|
| 5 | بلغت نسبة سكان أمريكا الجنوبية الذين في سن العمل(15-64)من إجمالي سكان القارة: | |
| | A | ربع |
| | B | ثلث |
| | C | نصف |
| | D | ثلثي |

| | | |
|---|---|---|
| 6 | الدولة التي تحتل المرتبة الخامسة عالمًيا من حيث عدد السكان: | |
| | A | تشيلي |
| | B | البرازيل |
| | C | كولومبيا |
| | D | الأرجنتين |

**الأسئلة المقالية:**

**اجب عن الأسئلة التالية:**

**السؤال الأول: - بم تفسر:إختلاف معدل المواليد بين دول قارة أمريكا الجنوبية.**

**1-اختلاف نوع المهاجرين لكل دولة بدول القارةفهناك مهاجرون أوروبيون لا يُقبلون على الإنجاب، عكس المهاجرين الأفارقة، يُقبلون على إنجاب العديد من الأطفال.**

**2-اختلاف مستوى تمكين الشباب والمرأة بين دول القارة.**

**3-.تباين الدخل القومي بين الدول، وبالتالي اختلاف مستويات المعيشة، فقد سجلت دولة تشيلي أعلى دخل قومي على مستوى القارة، بينما جاء أدنى مستويات الدخول في بوليفيا.**

**4-ارتفاع معدل وفيات الأطفال بالدول ذات معدلات المواليد المرتفعة مثل دولة بوليفيا.**

**السؤال الثاني: - بم تفسر إنخفاض الكثافة السكانية في حوض الأمازون.**

**1- ارتفاع درجات الحرارة**

**2- وجود غابات كثيفة**

**السؤال الثالث:- ما العلاقة بين الهجرة والنمو السكاني في قارة أمريكا الجنوبية؟**

**لعبت الهجرة دورًا كبيرًا في نمو سكان قارة أمريكا الجنوبية؛ حيث استقبلت قارة أمريكا الجنوبية تيارات هجرة عديدة**

| | |
|---|---|
| السؤال الرابع:- أمامك خريطة صماء لقارة أمريكا الجنوبية أكتب مدلول الأرقام عليها: | |

1-دولة البرازيل أولى دول القارة من حيث عدد السكان

2-دولة كولومبيا ثاني دول القارة من حيث عدد السكان

3-دولة الارجنتين ثالث دول القارة سكاناً

4-منطقة ذات كثافة سكانية منخفضة حوض الأمازون

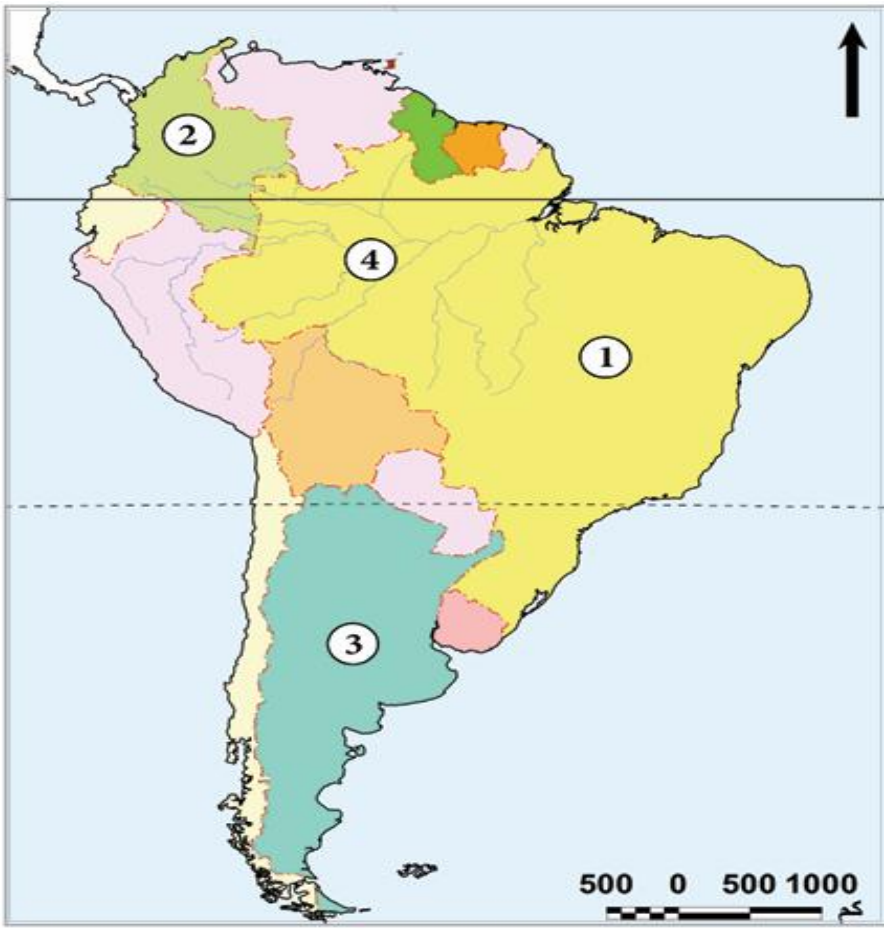

أنت كفوووو
ثقي بنفسك

السؤال الأول :اخترالإجابة الصحيحة بين البدائل التالية :-

| | | |
|---|---|---|
| 1 | توجد الزراعة التجارية في قارة أمريكا الجنوبية حول مصب نهر: | |
| | A | أورينكو |
| | B | الأمازون |
| | C | لابالاتا |
| | D | المسيسيبي |

| | | |
|---|---|---|
| 2 | أولى دول قارة أمريكا الجنوبيةفي زراعة الأرز: | |
| | A | تشيلي |
| | B | بوليفيا |
| | C | البرازيل |
| | D | الأرجنتين |

| | | |
|---|---|---|
| 3 | أكثر دول قارة أمريكا الجنوبية في إنتاج الأسماك: | |
| | A | بيرو |
| | B | تشيلي |
| | C | البرازيل |
| | D | باراجواي |

| | | |
|---|---|---|
| 4 | تحتل البرازيل المركز الأول بقارة أمريكا الجنوبية في انتاج معدن: | |
| | A | الحديد |
| | B | النحاس |
| | C | المنجنيز |
| | D | الفوسفات |

| | | |
|---|---|---|
| 5 | ما هي الدولة الأولى في قارة أمريكا الجنوبية في إنتاج القطن: | |
| | A | بيرو |
| | B | تشيلي |
| | C | البرازيل |
| | D | بوليفيا |

| | | |
|---|---|---|
| 6 | تُعد كولومبيا أولى دول قارة أمريكا الجنوبية إنتاجًا ل : | |
| | A | الفحم |
| | B | البترول |
| | C | الغاز الطبيعي |
| | D | الطاقة الكهرومائية |

**الأسئلة المقالية:**

اجب عن الأسئلة التالية:

| السؤال الأول: - اذكر جهود دول قارة أمريكا الجنوبية لحل مشكلات الرعي والثروة الحيوانية. |
|---|
| 1-حفر الآبار لتوفير المياه لري المراعي، وخاصة في المناطق الجافة<br>2-اتباع النظم الرعوية المستدامة المتكاملة كما في كولومبيا<br>3-توفير الأعلاف، سواء من خلال التوسع في زراعة محصولي الذرة وفول الصويا، أو إصلاح المراعي الطبيعية<br>4-تحسين السلالات، وتوفير الرعاية البيطرية. |

| السؤال الثاني: اذكر أنواع النقل والمواصلات قارة أمريكا الجنوبية. |
|---|
| 1-النقل البري<br>2-النقل المائي<br>3-النقل الجوي |

| السؤال الثالث:- ما أسباب تطور الصناعة في قارة أمريكا الجنوبية؟ |
|---|
| 1-اتساع مساحة القارة وتنوُّع مواردها الطبيعية وثرواتها المعدنية.<br>2-كثرة عدد السكان بالقارة، والذين يمثلون ثروة بشرية ساعدت على نمو اقتصاد القارة |

**السؤال الرابع:- عدد أهم المعادن التي تدخل بالصناعة بقارة أمريكا الجنوبية.**

1- المنجنيز

2- الرصاص والزنك

**السؤال االخامس:- اذكري جهود دول قارة أمريكا الجنوبية لتحقيق التنمية الزراعية المستدامة.**

1-تحسين الري وإنشاء نظم ري حديثة، وكذلك تحسين شبكات الصرف.

2-بناء السدود الصغيرة للتغلب على مشكلة نقص المياه في بعض المناطق كما في بيرو.

3-تطبيق تكنولوجيا علم الوراثة الجديدة، واستخدام الآلات الزراعية الحديثة، والاستفادة من نتائج البحوث العلمية في مجال الزراعة وتنمية مهارات وبناء قدرات الفلاحين، لتطبيق الأساليب الزراعية الحديثة كما في تشيلي.

4-إدارة التربة من خلال اتباع نظام الدورات الزراعية، واستخدام الأسمدة، واستخدام بذور جيدة في الزراعة.

5-دعم المنظمات الدولية للقطاع الزراعي في بعض دول القارة لتنفيذ خطط التنمية الزراعية بالتعاون مع وزارات الزراعة بتلك الدول كما في بيرو والبرازيل

6-دعم الشباب الريفيين، والعمل على تحسين مستوى معيشتهم؛ لتشجيعهم على عدم ترك العمل بالزراعة-

7-تشجيع المشروعات الصغيرة والمتوسطة من خلال توفير المساعدات التقنية والمادية، والتدريب لتحسين إنتاجية واستدامة المزارع الأسرية.

| | |
|---|---|
| السؤال السادس :- أمامك خريطةلقارة أمريكا الجنوبية صماء حدد عليها مايلى: | |

1- ميناء ساوباولو

2- دولة منتجة لنخيل الزيت كولومبيا

3- دولة منتجة للنحاس تشيلي

4- أولى الدول في انتاج الأسماك بيرو

5- دولة نتنشر بها المراعي الطبيعية الأرجنتين

6- ثاني الدول المنتجة للبترول فنزويلا.