اختبار الوحدة الرابعة عشر (مع الإجابة)

تم تحميل هذا الملف من موقع المناهج القطرية

موقع المناهج ⇦ المناهج القطرية ⇦ الصف الأول ⇦ رياضيات ⇦ الفصل الأول ⇦ ملفات متنوعة ⇦ الملف

تاريخ إضافة الملف على موقع المناهج: 22-05-2026 19:03:25

المزيد من مادة رياضيات:	ملفات ا كتب للمعلم ا كتب للطالب ا اختبارات الكترونية ا اختبارات ا حلول ا عروض بوربوينت ا أوراق عمل منهج انجليزي ا ملخصات وتقارير ا مذكرات وبنوك ا الامتحان النهائي ا للمدرس

التواصل الاجتماعي بحسب الصف الأول

صفحة المناهج القطرية على فيسبوك					
المواد على تلغرام	التربية الاسلامية	اللغة العربية	اللغة الانجليزية	الرياضيات	

المزيد من الملفات بحسب الصف الأول والمادة رياضيات في الفصل الأول

1	أوراق عمل مدرسة أبي أيوب الأنصاري نهاية الفصل غير مجابة
2	أوراق عمل مدرسة أبي أيوب الأنصاري نهاية الفصل مع الإجابة النموذجية
3	أوراق عمل إثرائية نهاية الفصل غير مجابة
4	أوراق عمل مدرسة كمال ناجي نهاية الفصل غير مجابة
5	أوراق عمل مجمع الفرقان نهاية الفصل غير مجابة

مدرسة الأندلس الخاصة للبنات

العام الأكاديمي 2025/2026

اختبار الوحدة الرابعة عشر

الإجابة

مادة الرياضيات

الصف الأول الابتدائي

اسم الطالبة/.....

الصف والشعبة /.....

تعليمات: اختر الإجابة الصحيحة لكل من الأسئلة من 1 إلى4، وذلك بوضع علامة × في المربع المجاور للإجابة الصحيحة:

السؤال رقم (1)			

ما الشَّكلُ الذي له 4 أضلاع متساوية ؟

A

B

C 

السؤال رقم (2)	

أي الأشكال ثلاثية الأبعاد ليس له أسطح مستوية أو حروف أو رؤوس ؟

A	كرة
B	أسطوانة
C	مكعب

السؤال رقم (3)			

ما الشَّكلُ الذي له 3 أضلاع؟

A

B

C 

السؤال (4)	

أي الأشكال ثلاثية الأبعاد لها 8 رؤوس و6 أوجه ؟

A	
B	
C	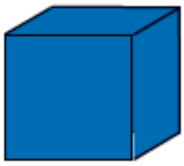

تعليمات: عند الإجابة على الأسئلة من 5 إلى 12، اكتب إجاباتك في المساحات المخصصة لذلك.

السؤال رقم (5)			

أي مما يلي شكل مغلق ؟

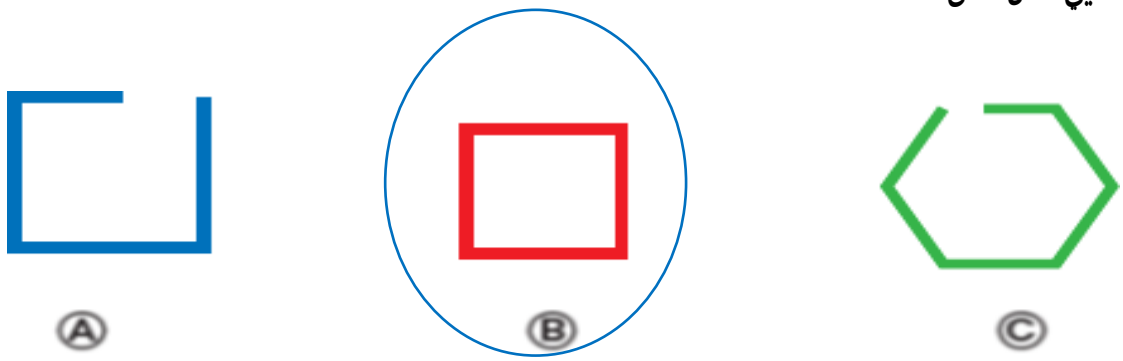

السؤال رقم (6)			

ما الشكل الثلاثي الأبعاد الذي لا يحتوي على رأس؟

السؤال رقم (7)		

اختر الإجابة الصحيحة :

1. أُحَوِّطُ الشَّكْلَ الَّذِي لَهُ 4 أَضْلَاعٍ مُسْتَقِيمَةٍ وَ 4 رُؤُوسٍ.

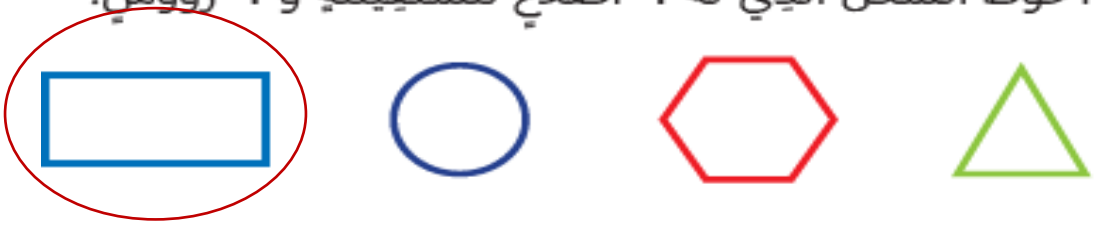

2. أُحَوِّطُ الشَّكْلَ الَّذِي لَهُ 0 مِنَ الرُّؤُوسِ.



السؤال رقم (8)		

أذكر ما إذا الشكل مغلقا أم لا. ثم اذكر عدد أضلاعه وعدد رؤوسه .

هَلِ الشَّكْلُ مُغْلَقٌ؟ نعم

عَدَدُ أَضْلَاعِهِ: 3

عَدَدُ رُؤُوسِهِ: 3

السؤال رقم (10)		

ارسم دائرة اذكر شيئاً واحداً عن الدائرة .

- لها .....0..... أضلاع

- لها .....0..... رؤوس

- مغلق ؟ ..... (نعم أم لا)

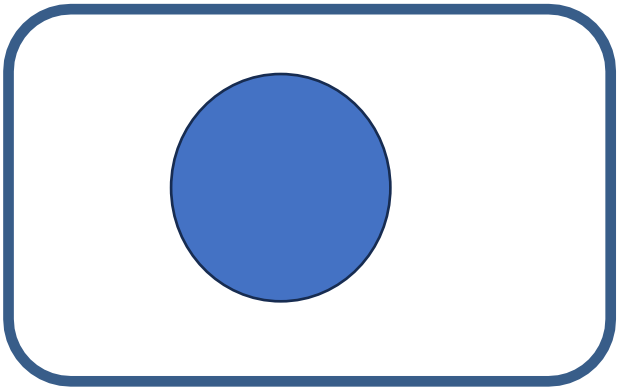

السؤال رقم (11)		

اذكر ما إذا كان الشكل مغلقا أم لا ثم أذكر عدد أضلاعه وعدد رؤوسه .

.1 مغلق؟ نعم
الدائرة لها 0 من الأضلاع المستقيمة و 0 من الرؤوس.

.2 مغلق؟ نعم
المستطيل له 4 أضلاع مستقيمة و 4 رؤوس.

.3 مغلق؟ نعم
الشكل السداسي له 6 أضلاع مستقيمة و 6 رؤوس.

12	حوط الخصائص التي تنطبق على جميع المكعبات .	



لَهَا 12 حَرْفًا.

لَهَا 8 رُؤُوسٍ.

حَمْرَاءُ.

يُمْكِنُ دَحْرَجَتُهَا.