اختبار الوحدة الحادية عشر استعمال النماذج والاستراتيجيات لطرح العشرات

تم تحميل هذا الملف من موقع المناهج القطرية
موقع المناهج ⇦ المناهج القطرية ⇦ الصف الأول ⇦ رياضيات ⇦ الفصل الأول ⇦ ملفات متنوعة ⇦ الملف
تاريخ إضافة الملف على موقع المناهج: 22-05-2026 19:15:07

المزيد من مادة رياضيات:	ملفات ا كتب للمعلم ا كتب للطالب ا اختبارات الكترونية ا اختبارات ا حلول ا عروض بوربوينت ا أوراق عمل منهج انجليزي ا ملخصات وتقارير ا مذكرات وبنوك ا الامتحان النهائي ا للمدرس

التواصل الاجتماعي بحسب الصف الأول					
صفحة المناهج القطرية على فيسبوك					
المواد على تلغرام	التربية الاسلامية	اللغة العربية	اللغة الانجليزية	الرياضيات	

المزيد من الملفات بحسب الصف الأول والمادة رياضيات في الفصل الأول	
1	إجابة اختبار الوحدة الحادية عشر استعمال النماذج والاستراتيجيات لطرح العشرات
2	اختبار الوحدة الثانية عشر (قياس الطوال)
3	إجابة اختبار الوحدة الثانية عشر (قياس الطوال مع الإجابة)
4	اختبار الوحدة الثالثة عشر
5	اختبار الوحدة الثالثة عشر مع الإجابة

مدرسة الأندلس الخاصة للبنات

العام الأكاديمي 2025/2026

اختبار الوحدة الحادية عشر

مادة الرياضيات

الصف الأول الابتدائي

اسم الطالبة/.....

الصف والشعبة /.....

الرؤية: تعلم عصري ملهم بهوية وطنية وقيم إسلامية.

almanahj.com

أنت كفووووو ثقي بنفسك

الوحدة الحادية عشر :استعمال النماذج والاستراتيجيات لطرح العشرات

- طرح العشرات باستعمال النماذج
- طرح العشرات باستعمال لوحة المئة
- استعمال الجمع لطرح العشرات

almanahj.com

تعليمات: اختر الإجابة الصحيحة لكل من الأسئلة من 1 إلى4، وذلك بوضع علامة × داخل المربع المجاور للإجابة الصحيحة:

السؤال (1)	
ما ناتج الطرح؟  $70 - 10 =$ _____	
A	60
B	10
C	30

السؤال (2)	
عرض متجر 20 دبًا للبيع.في اليوم التالي باع صاحب المتجر 10 دببه ما عدد الدببة التي بقيت في المتجر ؟	
A	40
B	10
C	30

السؤال (3)	

أستعمل الجزء من لوحة المئة لطرح العشرات

$40 - 30 = __$

1	2	3	4	5	6	7	8	9	10
11	12	13	14	15	16	17	18	19	20
21	22	23	24	25	26	27	28	29	30
31	32	33	34	35	36	37	38	39	40
41	42	43	44	45	46	47	48	49	50

A	20
B	10
C	30

السؤال (4)	

ما جملة الطرح العددية التي يمثلها الشكل ؟

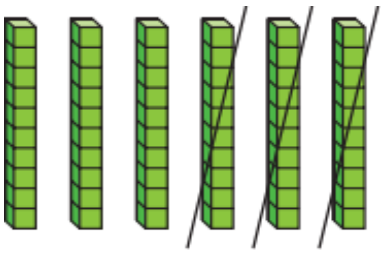

A	50-20=30
B	60-30=30
C	60-20=40

السؤال (5)	
أي من جمل الجمع التالية يمكنني استعمالها لمساعدتي على حل مسألة الطرح الاتية ؟ $70 - 20 = __$	
A	20+10=30
B	20+70=90
C	20+50=70

السؤال (6)	
أعد خباز 50 كعكة ، باع منها 10 كعكات ،كم كعكة بقي لدى الخباز؟	
A	10
B	40
C	20

تعليمات: عند الإجابة على الأسئلة من 7 إلى 10 ، اكتب إجاباتك في المساحات المخصصة لذلك.

السؤال (7)	

أستعمل الجمع لحل مسألة الطرح. أوضح كيفية إيجاد العدد المضاف الناقص على خط الاعداد المفتوح

20 + _____ = 60 .

إذن،

60 − 20 = _____

السؤال (8)	

أستعمل الجمع لحل مسألة الطرح. أوضح كيفية إيجاد العدد المضاف الناقص على خط الاعداد المفتوح

30 + _____ = 80

إذن،

80 − 30 = _____

السؤال (9)	
أجد ناتج الطرح مستعملا النماذج (اشطب القوالب إذا لزم الأمر).	
(A	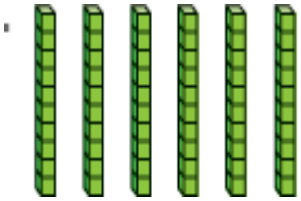 60 – 40 = _____
(B	 50 – 20 = _____

السؤال (9)	
أكتب الاعداد لإكمال الجملة العددية :	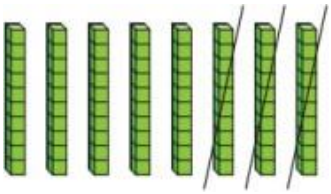 _____عشرات = _____عشرات - _____عشرات
	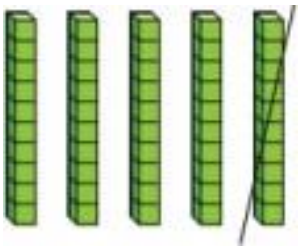 _____عشرات = _____عشرات - _____عشرات
	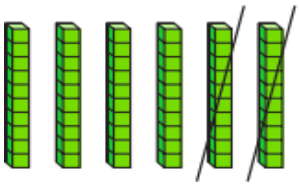 _____عشرات = _____عشرات - _____عشرات

السؤال (10)	

استعمل جزء من لوحة المئة لحل المسائل :

41	42	43	44	45	46	47	48	49	50
51	52	53	54	55	56	57	58	59	60
61	62	63	64	65	66	67	68	69	70
71	72	73	74	75	76	77	78	79	80

$80 - 20 = __$

$70 - 10 = __$

السؤال (11)	

اشترت فاطمة آلة لتدوير 70 علبة، إذا قامت بتدوير 20 علبة منها ،فما عدد العلب التي لا يزال على فاطمة إعادة تدويرها ؟

وضح عملك هنا

_____ = _____ ◯ _____