أوراق عمل الأندلس في نمو الكائنات الحية، أنواع القوى، وإرشادات السلامة والبيئة

تم تحميل هذا الملف من موقع المناهج القطرية

موقع المناهج ⇦ المناهج القطرية ⇦ الصف الأول ⇦ علوم ⇦ الفصل الثاني ⇦ ملفات متنوعة ⇦ الملف

تاريخ إضافة الملف على موقع المناهج: 2026-05-22 21:52:01

المزيد من مادة علوم:	ملفات ا كتب للمعلم ا كتب للطالب ا اختبارات الكترونية ا اختبارات ا حلول ا عروض بوربوينت ا أوراق عمل منهج انجليزي ا ملخصات وتقارير ا مذكرات وبنوك ا الامتحان النهائي ا للمدرس
	إعداد: مدرسة الأندلس

التواصل الاجتماعي بحسب الصف الأول

صفحة المناهج القطرية على فيسبوك					
المواد على تلغرام	التربية الاسلامية	اللغة العربية	اللغة الانجليزية	الرياضيات	

المزيد من الملفات بحسب الصف الأول والمادة علوم في الفصل الثاني

1	أوراق عمل في نمو الكائنات الحية، أنواع القوى، وإرشادات السلامة والبيئة
2	أوراق عمل في الوحدة السادسة أجزاء النبات، التكاثر، والمواطن البيئية مع الإجابة النموذجية
3	أوراق عمل في الوحدة السادسة أجزاء النبات، التكاثر، والمواطن البيئية
4	تدريبات في الوحدة السابعة القوى والحركة والسلامة مع الإجابة النموذجية
5	تدريبات في الوحدة السابعة القوى والحركة والسلامة

مادة العلوم

العام الأكاديمي 2025 / 2026

الفصل الدراسي الثاني

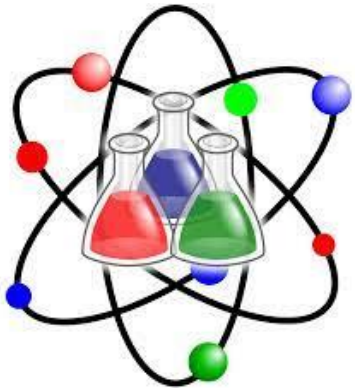

أوراق العمل الإثرائية

النصف الثاني - الفصل الدراسي الثاني

الصف الأول الابتدائي

اسم الطالب	.....
الصف والشعبة	الأول / .....

هذه الأسئلة مُساعدة ولا تُغني عن الكتاب المدرسي أو تدريبات الكتاب المدرسي

almanahj.com/qa
موقع المناهج القطرية

ورقة عمل (1)

السؤال الأول: اختر الإجابة الصحيحة.

1) ما وظيفة جزء النبات الظاهر في الصورة؟		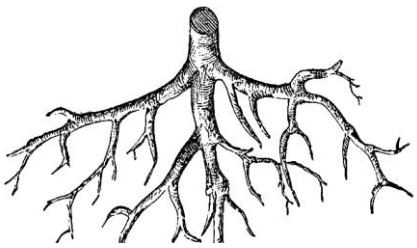
A	صناعة الغذاء	
B	امتصاص الماء	
C	القيام بعملية التكاثر	

2) لماذا تخرج الحيوانات الفضلات؟		
A	لتتنفس	
B	لتصنع الغذاء	
C	لتتخلص من السموم	

3) ماذا يسمى صغير الضفدع؟		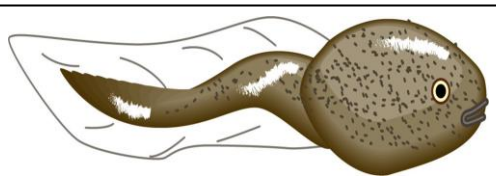
A	فرخ	
B	يرقة	
C	أبوذنيبة	

4) كم عامل يجب تغييره لتكون التجربة عادلة؟	
A	عامل واحد (1)
B	عاملان اثنان (2)
C	ثلاث عوامل (3)

5) أي من الأشياء التالية نحتاجها جميعاً كي نبقى على قيد الحياة؟	
A	الهواء
B	الهاتف الجوال
C	العاب الحاسوب

6) ما اسم جزء النبات الظاهر في الصورة؟		
A	ساق	
B	جذر	
C	أزهار	

7) ما جزء النبات الذي يساعده على صنع الغذاء؟	
A	الساق
B	الأوراق
C	الأزهار



8) ماذا يحتاج الطفل في الصورة ليبقى على قيد الحياة؟	
A	الماء
B	الهواء
C	الغذاء

9) كيف يتكاثر الكائن الحي الموجود في الصورة؟	
A	الولادة
B	البيض
C	البذور

السؤال الثاني : اختر الاجابة الصحيحة واكتبها في المكان المناسب.

1 – يتغذى الفيل على ..... . (النباتات , اللحوم)

2 – يتكاثر الجمل بـ ..... (البيض , الولادة)

السؤال الثالث : - أكمل العبارات الآتية بالكلمات المناسبة من صندوق الكلمات :-	
فراشة , الفضلات , نضر	
-1	يُخرج كل من الإنسان والحيوان ..... .
-2	تنمو اليرقة لتصبح ..... بالغة . 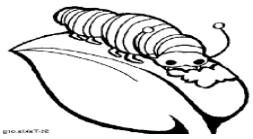

ورقة عمل (2)

السؤال الأول: اختر الإجابة الصحيحة.

1) ماذا يطلق على المكان الذي يتوافر فيه الماء والطعام والمأوى؟	
A	الموطن
B	السيارة
C	البلاستيك

2) مادة تسبب التلوث وتسبب الأذى للكائنات الحية؟	
A	الأشجار
B	الزيت
C	الخشب

3) أي الحيوانات التالية يتغذى على النباتات واللحوم ؟	
A	**الفيل**
B	**الدب**
C	**الأسد**

4) ما الكائن الحي الذي يجب التعامل معه بحذر؟	
A	النحل
B	البط
C	العصفور

5) أي مما يلي موطن السمكة؟	
A	البحر
B	الصحراء
C	الغابة

6) ماذا يسمى صغير الفراشة؟	
A	فرخ
B	يرقة
C	أبو ذنيبة

السؤال الثاني : صل العبارات من العمود (أ) مع الصور التي تناسبها من العمود (ب).

العمود (أ)	العمود (ب)
1) صغير الضفدع	
2) ينمو من البذرة	
3) كائن حي يتكاثر بالولادة	
4) كائن حي يمكن أن يؤذينا	

السؤال الثالث :-

أكمل الجمل التالية باستخدام الكلمات الموجودة في صندوق الكلمات:

السموم – أصغر – اللحوم – حزام – الموطن

1- يتغذى الأسد على (----------).
2- صغير الحيوان (----------) حجمًا من الحيوان البالغ.
3- الحيوانات تطرح الفضلات لتتخلص من (----------).
4- يوفر (----------) الغذاء والماء والمأوى للكائن الحي.
5- أجلس في المقعد الخلفي للسيارة وأرتدي (----------) الأمان.

السؤال الرابع

ضع علامة (√) أمام العبارة الصحيحة، وعلامة (X) أمام العبارة الخاطئة.

1) من الممكن صناعة النوافذ من الخشب. (----------)

2) يتغذى الدب على النباتات واللحوم. (----------)

3) النفايات البلاستيكية تسبب التلوث في البحر. (----------)

4) موطن الأسد هو النهر. (----------)

السؤال الخامس

أ)أكتب طريقة تكاثر كل كائن حى تحت الصورة.

.....	.....

ورقة عمل (3)

السؤال الأول: اختر الإجابة الصحيحة.

1) ما نوع القوة في الصورة المجاورة؟		
A	دفع	
B	رفع	
C	سحب	

2) أي مما يلي يتحرك بسرعة ؟	
A	الفهد
B	الحلزون
C	الريشة

3) عند التأثير بقوة كبيرة على كرة فإنها؟	
A	تبقى ساكنة
B	تتحرك بسرعة مسافة كبيرة
C	تتحرك ببطء مسافة قصيرة

4) عند التأثير بقوة صغيرة على كرة فانها؟	
تبقى ساكنة	A
تتحرك بسرعة مسافة كبيرة	B
تتحرك ببطء مسافة قصيرة	C

5) أي مما يلي يمثل سلوك صحيح أثناء قيادة السيارة؟	
	A
	B
	C

6) أي من السيارات تشكل خطرا اكبر عندما تكون متحركة بنفس السرعة؟	
سيارة صغيرة	A
شاحنة	B
سكوتر	C

7) ماذا يجب أن ارتدي عند ركوب الدراجة؟	
A	خوذة
B	ثوب
C	حزام الأمان

السؤال الثاني : اختر الاجابة الصحيحة واكتبها في المكان المناسب.

1 – الدفع والسحب نوعان من ..... (القوة , الموطن)

2 – الأشياء التي تتحرك بسرعة..... خطرًا من الأشياء التي تتحرك ببطء

(أكثر , أقل)

3- أستطيع أن أجعل شيئًا ما يتحرك بشكل أسرع بواسطة دفعه بقوة .....

(أكبر , أصغر)

السؤال الثالث : - ضع علامة (√) أمام العبارة الصحيحة، وعلامة (X) أمام العبارة الخاطئة :-		
-1	أجلس في المقعد الخلفي للسيارة وأرتدي حزام الأمان	(.....)
-2	لا أتبع تعليمات السلامة عند عبور الطريق	(.....) .
-3	أرتدي خوذة عند ركوب الدراجة الهوائية	(.....) .
-4	جميع الأشياء تتحرك بسرعة	(.....) .
-5	يؤثر مقدار كتلة شيء في سرعة حركته	(.....) .

السؤال الرابع: يدفع أحد الطلاب سيارة لعبةً ثلاث مرات. يستخدم في كل مرة مقدار قوة (دفع) مختلف.

الدفع	سرعة الانطلاق (السرعة التي تتحرك بها السيارة)
(أ)	7
(ب)	0
(ت)	1

1) أي سيارة تحرَكت أسرع؟

.....

1) في أي من المرات لم تطبق قوة على السيارة؟

.....

3) أسجل القوى بالترتيب من الأصغر إلى الأكبر

أقل قوة ←		أكبر قوة
----------	----------	----------

السؤال الخامس : صل بخط بين الكلمة والصورة المناسبة :

قوة الدفع

قوة السحب

انسخ الكلمات التالية بخط جميل

يلد	يبيض	ماء	غذاء

جذر	ورقة	موطن	مأوى

almanahj.com/qa 2026 2023

دفع	سحب	قوة	خطر