أوراق عمل الأندلس غير مجابة تحضيرية لاختبار منتصف الفصل

تم تحميل هذا الملف من موقع المناهج القطرية

موقع المناهج ⇦ المناهج القطرية ⇦ الصف الأول ⇦ علوم ⇦ الفصل الثاني ⇦ ملفات متنوعة ⇦ الملف

تاريخ إضافة الملف على موقع المناهج: 12-03-2026 01:11:24

المزيد من مادة علوم: ملفات ا كتب للمعلم ا كتب للطالب ا اختبارات الكترونية ا اختبارات ا حلول ا عروض بوربوينت ا أوراق عمل منهج انجليزي ا ملخصات وتقارير ا مذكرات وبنوك ا الامتحان النهائي ا للمدرس

إعداد: مدرسة الأندلس

التواصل الاجتماعي بحسب الصف الأول

صفحة المناهج القطرية على فيسبوك

المواد على تلغرام | التربية الاسلامية | اللغة العربية | اللغة الانجليزية | الرياضيات

المزيد من الملفات بحسب الصف الأول والمادة علوم في الفصل الثاني

1	أوراق عمل لاختبار منتصف الفصل من مدرسة الفرقان غير مجابة
2	الاختبار النهائي نهاية الفصل
3	مراجعة هامة جدا ومتوقعة لاختبار نهاية الفصل مع الإجابة
4	مراجعة هامة جدا ومتوقعة لاختبار نهاية الفصل
5	التدريبات الإثرائية التحضيرية لاختبار نهاية الفصل

العام الأكاديمي 2026/2025

منتصف الفصل الدراسي الثاني

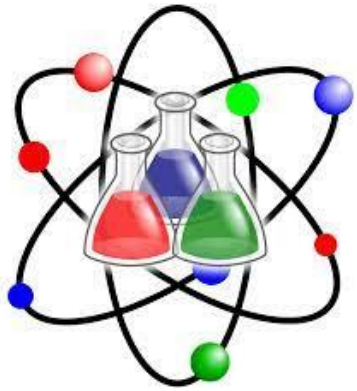

أوراق العمل الإثرائية

مادة العـــلوم

الصف الأول الابتدائي

اسم الطالب	
الصف والشعبة	الأول/

هذه الأوراق مُساعِدة ولا تُغني عن الكتاب المدرسي وتدريبات الكتاب المدرسي

almanahj.com/qa 2026 2025 موقع المناهج القطرية

الاسم: ---------- الشعبة: ------- ورقة عمل (1) التاريخ: .... / يناير / 2026

السؤال الأول: اختر الإجابة الصحيحة:

1) ماهي الطريقة التي يتم بها حفظ الطعام الطازج في الصورة؟	
A	التبريد
B	التغليف
C	التنظيف

2) أي مما يلي يبقي الطعام طازجاً لمدة أطول؟	
A	تبريده
B	تركه متسخ
C	تركه مكشوفًا

3) أي مما يلي يعبر عن طعام غير طازج؟	
A	
B	
C	

4) ماذا تسمى الأطعمة المحافظة على لونها وملمسها ورائحتها ولم تفسد؟	
A	المتعفنة
B	الطازجة
C	الغير طازجة

5) ماذا يحدث للفراولة الطازجة إذا تُركت فترة من الزمن؟	
A	تتعفن
B	لا تتغير
C	تبقى طازجة

السؤال الثاني: أكمل الجمل التالية باستخدام صندوق الكلمات التالي

تسممًا - طيبة - التغليف

1	ألوان الأطعمة الطازجة زاهية ورائحتها .....
2	..... أحد طرق حفظ الطعام الطازج.
3	يسبب تناول الطعام المتعفن ..... غذائياً.

almanahj.com/qa 2026 2025 موقع المناهج التعليمية

السؤال الثالث: ضع علامة (√) أمام العبارة الصحيحة، وعلامة (X) أمام العبارة الخاطئة.

1	يتناول الإنسان نوعًا واحدًا فقط من الطعام.	(----------)
2	ألوان الأطعمة الطازجة زاهية ورائحتها طيبة.	(----------)
3	الطعام المتعفن ذات رائحة طيبة.	(----------)
4	يمكن إبقاء الأطعمة طازجة لمدة أطول عبر تبريدها.	(----------)

السؤال الرابع: اكتب طريقة إبقاء الطعام طازجًا لمدة أطول والتي تظهر بالصور.

التبريد – التنظيف - التغليف

(----------)

(----------)

(----------)

almanahj.com/qa 2026 2025 موقع المناهج القطرية

الاسم: ---------- الشعبة: ------- ورقة عمل (2) التاريخ: .... / يناير / 2026

السؤال الأول: اختر الإجابة الصحيحة:

1) أي مما يلي تعتبر فاكهة طازجة؟	
A	
B	
C	

2) كيف تبقي الثلاجة الأطعمة طازجة؟	
A	حارة
B	دافئة
C	باردة

3)أين يتم تبريد الطعام ليبقى طازجًا لمدة أطول؟	
A	الحقيبة
B	الثلاجة
C	الفرن

4) ماذا ينتج عن تناول الطعام الفاسد؟	
A	القوة
B	النشاط
C	التسمم الغذائي

5) أي مما يلي يجب تخزينه في الثلاجة؟	
A	
B	
C	

السؤال الثاني: ضع علامة (√) أمام العبارة الصحيحة، وعلامة (X) أمام العبارة الخاطئة.

1	نتجنب التسمم الغذائي بغسل الطعام الطازج جيداً قبل تناوله.	(----------)
2	كل المواد ملمسها خشن.	(----------)
3	من أعراض الإصابة بالتسمم الغذائي ارتفلع درجة الحرارة.	(----------)
4	نتناول الطعام غير المطهو جيدًا.	(----------)

almanahj.com/qa 2026 2025 موقع المناهج القطرية

السؤال الثالث: أكتب طريقة حفظ الطعام الظاهرة في كل صورة.

التجفيف – التعليب – التخليل - التجميد

1)..... حفظ الطعام في محلول من الماء والملح.

2)..... حفظ الطعام عبر إزالة بعض السوائل منه.

3)..... يخفض درجة حرارة الطعام.

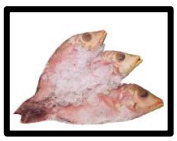

4)طريقة حفظ الطعام في هذه الصورة.....

السؤال الرابع: صل بين العبارة بالعمود الأول والصورة المناسبة لها بالعمود الثاني.

العمود الأول	العمود الثاني
1)طعام طازج	
2)طعام متعفن	
3)طعام متجمد	

almanahj.com/qa موقع المناهج الكويتية 2025 2026

السؤال الخامس: صنف الأطعمة التالية إلى أطعمة طازجة وغير طازجة بكتابة رقم صورة الطعام في الجدول التالي.



أطعمة طازجة	أطعمة غير طازجة

طازج	غير طازج	عفن	تسمّم

almanahj.com/qa 2026 2025 موقع المناهج القطرية

الاسم: ---------- الشعبة: ------- ورقة عمل (3) التاريخ: .... / فبراير / 2026

السؤال الأول: اختر الإجابة الصحيحة:

1)أي مما يلي يُعتبر شيء شفاف؟	
A	
B	
C	

2)أي مما يلي من المواد الطرية؟	
A	الطاولة
B	الملابس
C	الجرة

3)ما الوصف الصحيح للمادة المصنوع منها المفتاح؟	
A	طرية
B	قاسية
C	باهتة

almanahj.com/qa 2026 2025 موقع المناهج القطرية

4)أي مما يلي يعتبر شيء معتم؟	
A	
B	
C	

5)أي مما يلي يعتبر شيء لامع؟	
A	
B	
C	

6)ما هو ملمس الريش؟	
A	خشن
B	قاسٍ
C	ناعم

7)أي مما يلي يعتبر شيء باهت؟	
A	
B	
C	

السؤال الثاني: أكمل الجمل التالية باستخدام صندوق الكلمات التالي

طرية - قاسية - لامعة

1	تُصنع المرآة من مادة .....
2	تصنع الطاولة من مادة .....
3	تُصنع الملابس من مادة .....

almanahj.com/qa 2026 2025 موقع المناهج القطرية

السؤال الثالث: صل بين العبارة بالعمود الأول والصورة المناسبة لها بالعمود الثاني.

العمود الأول	العمود الثاني
1) شيء لامع	
2) شيء شفاف	
3) مصنوع من البلاستيك	

السؤال الرابع: ضع علامة (√) أمام العبارة الصحيحة، وعلامة (X) أمام العبارة الخاطئة.

1	تُستخدم المواد الشفافة لنصنع منها أشياء نحتاج أن نرى من خلالها.	(----------)
2	المعدن مادة قاسية ولذلك نستخدمه في المباني والجسور.	(----------)
3	يستخدم الورق في صنع الكتب لأنه مادة طرية.	(----------)
4	نستطيع أن نرى من خلال المواد المعتمة.	(----------)
5	الدجاج المُجمد ملمسه طري.	(----------)

almanahj.com/qa 2026 2025 موقع المناهج الفلسطينية

السؤال الخامس: أكمل بكتابة الكلمة المناسبة من صندوق الكلمات.

يطفو - يغوص



هذا الشئ .....

هذا الشئ .....

almanahj.com/qa
موقع المناهج القطرية
2025 2026

الاسم: ---------- الشعبة: ------- ورقة عمل (4) التاريخ: .... / فبراير / 2026

1) ما الوصف الصحيح للمادة التي تصنع منها الملابس ؟	
A	خشن
B	ناعم
C	لامع

2) لماذا يتم صنع المقعد من الخشب ؟	
A	طري
B	لامع
C	قاسي

almanahj.com/qa موقع المناهج القطرية 2025 2026

3) ما المادة التي صنع منها الشيء في الصورة ؟	
A	الورق
B	الخشب
C	الزجاج

4) ما الوصف الصحيح للمادة التي صنعت منها المكعبات ؟	
A	طري
B	معتم
C	شفاف

almanahj.com/qa 2026 2025 موقع المناهج القطرية

5) ما المواد التي صنع منها الشيء في الصورة ؟	
A	البلاستيك ومعدن
B	الخشب والمطاط
C	القماش والورق

6) ما الوصف الصحيح للمادة التي صنعت منها المطرقة؟	
A	لينة
B	طرية
C	قاسية

almanahj.com/qa 2026 2025 موقع المناهج القطرية

7) ما الوصف الصحيح للمادة التي صنعت منها الدمية؟	
A	طرية
B	خشنة
C	قاسية

8) ماذا يحدث عند وضع قطعة نقود معدنية في الماء؟	
A	تطفو
B	تغوص
C	طرية

almanahj.com/qa 2026 2025 موقع المناهج القطرية

السؤال الثاني : ضع اشارة √ امام العبارة الصحيحة وإشارة X أمام العبارة الخاطئة.

1 – تصنع الستاره من القماش لانه معتم . ( )

2 – يمكن وصف الحجر بانه مادة طرية . ( )

3 – نستخدم القماش في صناعة الملابس لانه طري ومريح . ( )

السؤال الثالث

أكمل الجمل التالية باستخدام الكلمات الموجودة في صندوق الكلمات:

مختلفة – ناعم - خشنة

1. يمكن صنع الملاعق من مواد (----------).

2- للريشة ملمس (----------).

almanahj.com/qa 2026 2025 موقع المناهج القطرية

السؤال الخامس : أ) حدد المادة التي صنع منها الشيء بكتابة الرقم تحت الكلمة المناسبة :-

خشب	زجاج
----------	----------

1	2

ب) اكتب على النقاط ملمس الشيء أسفل الصورة المناسبة :-

ناعم , خشن

----------	----------

almanahj.com/qa موقع المناهج القطرية 2025 2026

يطفو	يغوص	طري	قاسٍ
خشن	ناعم	لامع	باهت

almanahj.com/qa
موقع المناهج القطرية
2025 2026