أوراق عمل الأندلس غير مجابة تحضيرية لاختبار منتصف الفصل

تم تحميل هذا الملف من موقع المناهج القطرية

موقع المناهج ⇦ المناهج القطرية ⇦ الصف الأول ⇦ رياضيات ⇦ الفصل الثاني ⇦ ملفات متنوعة ⇦ الملف

تاريخ إضافة الملف على موقع المناهج: 12-03-2026 01:13:16

المزيد من مادة رياضيات: ملفات ا كتب للمعلم ا كتب للطالب ا اختبارات الكترونية ا اختبارات ا حلول ا عروض بوربوينت ا أوراق عمل منهج انجليزي ا ملخصات وتقارير ا مذكرات وبنوك ا الامتحان النهائي ا للمدرس

إعداد: مدرسة الأندلس

التواصل الاجتماعي بحسب الصف الأول

صفحة المناهج القطرية على فيسبوك

المواد على تلغرام | التربية الاسلامية | اللغة العربية | اللغة الانجليزية | الرياضيات

المزيد من الملفات بحسب الصف الأول والمادة رياضيات في الفصل الثاني

1	أوراق عمل لاختبار منتصف الفصل من مدرسة الفرقان غير مجابة
2	الاختبار النهائي نهاية الفصل
3	أوراق عمل الوحدة العاشرة غير مجابة
4	مجمع أوراق عمل الوحدة العاشرة
5	التدريبات الإثرائية التحضيرية لاختبار نهاية الفصل غير مجابة

العام الدراسي 2026/2025

منتصف الفصل الدراسي الثاني



أوراق العمل الإثرائية

مادة الرياضيات

الصف الأول الابتدائي

اسم الطالب	
الصف والشعبة	الأول/ .....

هذه الأوراق مُساعِدة ولا تُغني عن الكتاب المدرسي وتدريبات الكتاب المدرسي

almanahj.com/qa 2026 2022 موقع المناهج القطرية

تعليمات اختر الإجابة الصحيحة بوضع علامة × داخل المربع المجاور للإجابة الصحيحة :

السؤال رقم (1)

ما الجملتان العدديتان الصحيحتان اللتان توضحان كيفية الحل بتكوين 10 بلوحتي العشرة ؟

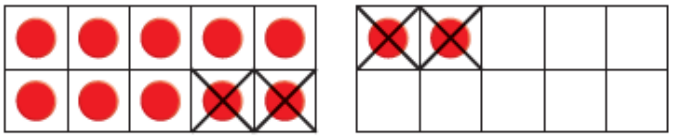

A **13 - 3 = 10 , 10 - 1 = 9**

B **12 - 2 = 10 , 10 - 2 = 8**

C **14 - 4 = 10 , 10 - 3 = 7**

السؤال رقم (2)

أي مما يلي يمثل الأعداد الناقصة في لوحة الأعداد ؟

1	2	3	4	5	6	7	8	9	10
11	12		14	15	16	17	18	19	20
21	22		24	25	26	27	28	29	30

A **23 و 13**

B **29 و 19**

C **30 و 10**

almanahj.com/qa موقع المناهج القطرية 2026 2022

السؤال رقم (3)

أي مما يلي يمثل الأعداد الناقصة في لوحة الأعداد ؟

1	2	3	4	5	6	7	8	9	10
11	12	13	14	15	16	17	18		20
21	22	23	24	25	26	27	28		30

A 28 و 18

B 29 و 19

C 30 و 20

السؤال رقم (4)

ما العدد الذي تمثله المكعبات ؟



A 57

B 60

C 67

السؤال رقم (5)

ما العدد الذي تمثله الخرزات ؟

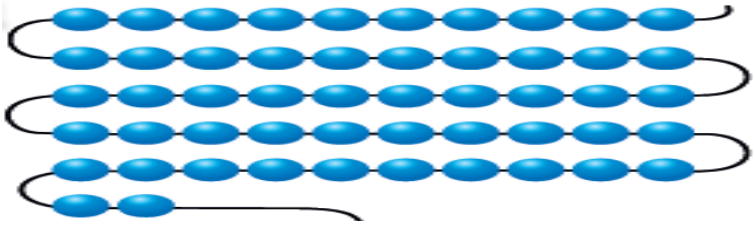

A 52

B 62

C 63

almanahj.com/qa موقع المناهج القطرية 2026

السؤال رقم (6)

ما الجملتان العدديتان الصحيحتان اللتان توضحان كيفية الحل بتكوين 10 بلوحتي العشرة ؟

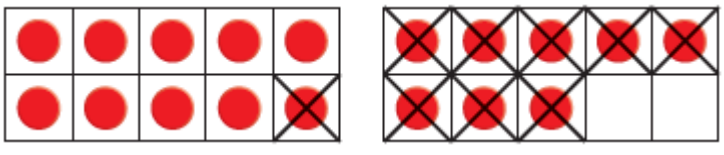

A **18 - 8 = 10 , 10 - 1 = 9**

B **17 - 7 = 10 , 10 - 2 = 8**

C **16 - 6 = 10 , 10 - 6 = 4**

السؤال رقم (7)

ما الأعداد الناقصة في النمط التالي ؟

10 , 20 , 30 , 40, ... , 60, 70 , ... , 90 , 100

A **30 , 40**

B **50 , 80**

C **50 , 90**

almanahj.com/qa موقع المناهج القطرية 2026 2025

تعليمات أجب عن الأسئلة التالية في المساحات المخصصة لذلك مع توضيح خطوات الحل:

السؤال رقم (8)

A. استعمل خط الأعداد لإيجاد ناتج الطرح.

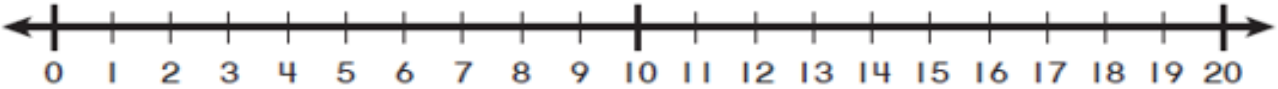

12 - 6 = ...

B. كون 10 للطرح ، ثم أكمل حقيقة الطرح :

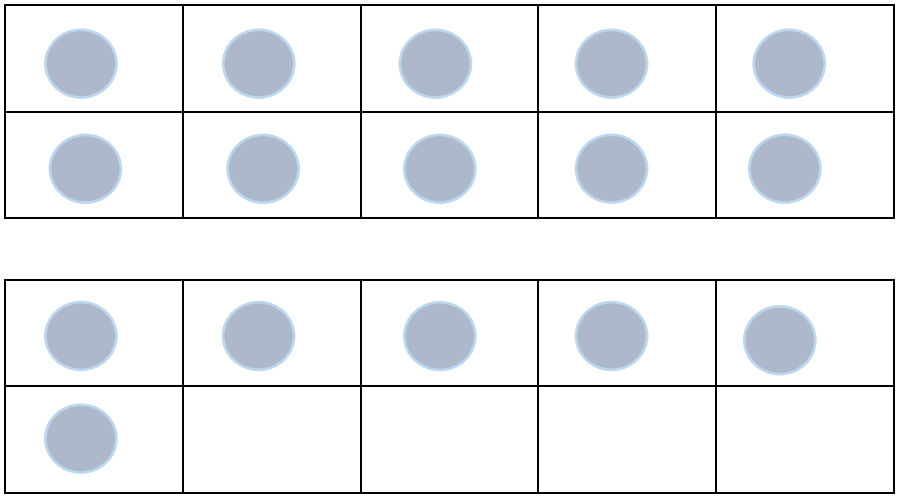

16 - 7 = ...

almanahj.com/qa موقع المناهج القطرية 2026 2025

السؤال رقم (9)

A. استعمل خط الأعداد لإيجاد ناتج الطرح.

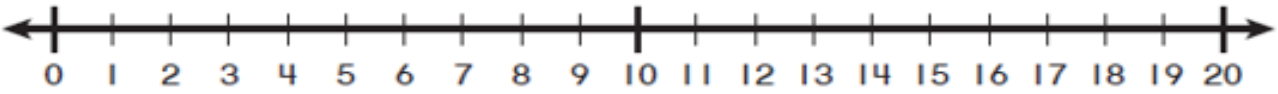

18 - 4 = ...

B. كون 10 للطرح ، ثم أكمل حقيقة الطرح :

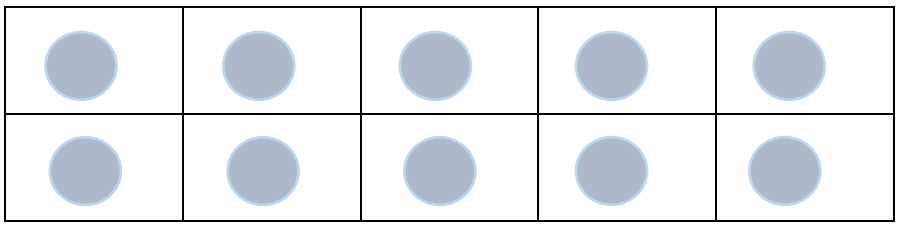

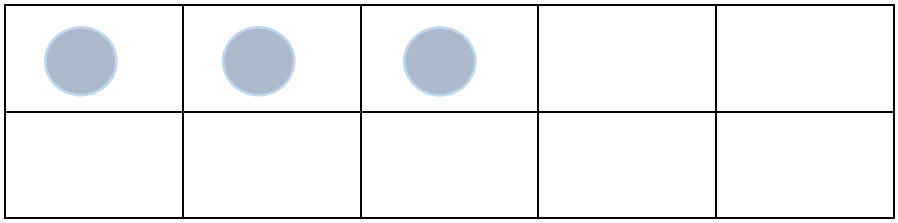

13 - 5 = ...

almanahj.com/qa موقع المناهج القطرية 2026 2025

السؤال رقم (10)

A. أكمل النموذج ، ثم أكمل الجملة العددية
ارسم دوائر أو اكتب العدد في لوحة الأجزاء .

13 - 9 = ?

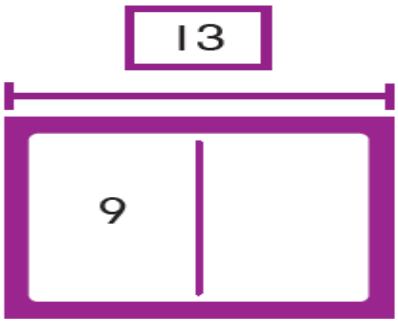

الإجابة : 13 = ... + 9

B. أكتب جملة جمع وجملة طرح من عائلة الحقائق للأعداد التالية :

11 و 6 و 5

..... = ... + ...

..... = ... - .....

almanahj.com/qa 2026 2025 موقع المناهج القطرية

السؤال رقم (11)

A. أكمل النموذج ، ثم أكمل الجملة العددية
ارسم دوائر أو اكتب العدد في لوحة الأجزاء .

15 - 7 = ?

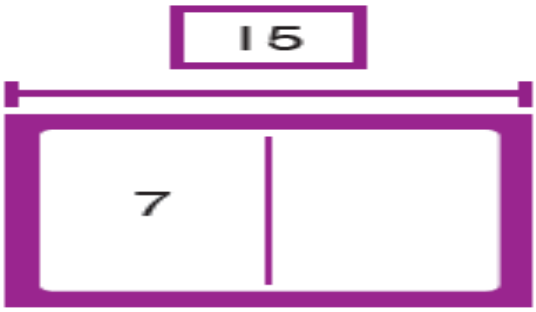

الإجابة : **7 + ... = 15**

B. أكتب جملة جمع وجملة طرح من عائلة الحقائق للأعداد التالية :

5 و 9 و 14

..... = ... + ...

..... = ... - .....

almanahj.com/qa
موقع المناهج القطرية

السؤال رقم (12)

انظر إلى لوحة الأعداد، ثم أجب عن الأسئلة.

A. اكتب الأعداد الناقصة في لوحة الأعداد.

1	2	3	4	.....	6	7	8	9	10
11	.....	13	14	15	16	17	.....	19	20
21	22	.....	24	25	26	27	28	29	30
31	32	33	.....	.....	36	37	38	39	.....
41	42	43	44	45	46	47	48	.....	50
51	52	53	54	55	56	57	58	59	60

B. ما رقم العشرات المتشابه الذي يتكرر في الصف الأخير ؟

الإجابة : .....

C. ما رقم الآحاد الذي يتكرر في العمود الأول ؟

الإجابة : .....

D. ما رقم العشرات المتشابه الذي يتكرر في الصف المُظلل باللون الأسود؟

الإجابة: .....

almanahj.com/qa موقع المناهج القطرية 2026 2022

السؤال رقم (13)

A. عد بالعشرات، ثم اكتب العدد.

الإجابة : .....

B. عد بالعشرات وبالآحاد ، ثم اكتب العدد الكلي للمكعبات .



الإجابة : .....

C. اكتب الأعداد الناقصة في النمط التالي :

10 , ... , 30 , 40 , 50 , ... , 70 , 80, ... , 100

almanahj.com/qa موقع المناهج القطرية 2026 2025

السؤال رقم (14)

A. عد بالعشرات، ثم اكتب العدد.



الإجابة : .....

B. عد بالعشرات وبالآحاد ، ثم اكتب العدد الكلي للمكعبات .



الإجابة : .....

C. اكتب الأعداد الناقصة في النمط التالي :

10 , ... , 30 , ... , 50 , ... , 70 , ... , ... , 100

almanahj.com/qa موقع المناهج القطرية 2026 2025

السؤال رقم (15)	

A . اكتب الأعداد الناقصة .

خمسة عشر :

15 هو ..... آحاد و ..... عشرات

السؤال رقم (16)	

A . اكتب الأعداد الناقصة .

ثمانية عشر

18 هو ..... آحاد و ..... عشرات

السؤال رقم (17)	

A . اكتب الأعداد الناقصة .

ثلاثة عشر

13 هو ..... آحاد و ..... عشرات

almanahj.com/qa 2026 2025 موقع المناهج القطرية

السؤال رقم (18)

عد بالأحاد بدءًا من العدد الذي حوله دائرة وصولًا إلى العدد الأخر الذي حوله دائرة.

1	2	3	4	5	6	7	8	9	10
11	12	13	14	15	16	17	18	19	20
21	22	23	24	25	26	27	28	29	30
31	32	33	34	35	36	37	38	39	40
41	42	43	44	45	46	47	48	49	50
51	52	53	54	55	56	57	58	59	60
61	62	63	64	65	66	67	68	69	70
71	72	73	74	75	76	77	78	79	80
81	82	83	84	85	86	87	88	89	90
91	92	93	94	95	96	97	98	99	100

الإجابة: .....

السؤال رقم (19)

A. اكتب العدد في صورة 1 من العشرات وبعض الآحاد.

(ستة عشر)

هو ..... آحاد و 1 عشرات.

B. أكتب العدد الناقص.

العدد (31) هو ..... مجموعات من 10 والباقي 1.

almanahj.com/qa موقع المناهج القطرية 2026 2025

اتقن مهارة العد وأكمل الجدول بكتابة الأرقام المفقودة بوضوح

العد حتي مئة 100

0	1	2	3	4	5	6	7	8	9	10
10	11			14	15					
20			23							
30	31					36		38		
40										
50									59	
60		62				66				
70							77			
80					85					
90	91							98		

almanahj.com/qa 2026 2022 موقع المناهج القطرية

اكتب الأرقام من 1 الي 100 على لوحة المئة بدون أخطاء

لوحة المئة

almanahj.com/qa
موقع المناهج القطرية
2026 2025