اختبار قصير في مصادر البيانات السكانية

تم تحميل هذا الملف من موقع المناهج العمانية	
موقع فايلاتي ⇦ المناهج العمانية ⇦ الصف التاسع ⇦ اجتماعيات ⇦ الفصل الأول ⇦ ملفات متنوعة ⇦ الملف	
تاريخ إضافة الملف على موقع المناهج: 23-10-2026 17:49:22	
ملفات ا كتب للمعلم ا كتب للطالب ا اختبارات الكترونية ا اختبارات ا حلول ا عروض بوربوينت ا أوراق عمل منهج انجليزي ا ملخصات وتقارير ا مذكرات وبنوك ا الامتحان النهائي ا للمدرس	المزيد من مادة اجتماعيات:

التواصل الاجتماعي بحسب الصف التاسع					
صفحة المناهج العمانية على فيسبوك					

المزيد من الملفات بحسب الصف التاسع والمادة اجتماعيات في الفصل الأول	
اختبار قصير أول	1
التواريخ المهمة في المنظمات الدولية	2
تدريبات امتحانية 2026	3
ملخص درس الملامح الحضارية للتواجد العماني في شرقي أفريقيا	4
ملخص وشرح درس العمانيون في شرقي أفريقيا	5

تحميل تطبيق المناهج للهواتف الذكية	
تطبيق المناهج على Store App (آبل)	تطبيق المناهج على Play Google (أندرويد)

الدراسات الاجتماعية

الاختبار القصير الأول
أكاديمية إصرار

الصف التاسع

الفصل الدراسي الأول

ESRAR إصرار
Fileae.com/om 2026 2025 موقع فايلاتي العمانية

السؤال الأول: اختر رمز الإجابة الصحيحة من بين البدائل المعطاة فيما يلي:

1. **الصورة التي أمامك تمثل نموذجًا لأحد مصادر الحصول على البيانات السكانية:**
   - أ- المسح بالعينة
   - ب- التسجيل الحيوي
   - ج- التعداد
   - د- سجلات المدارس

2. **عملية جمع البيانات عن عينة ممثلة للمجتمع يقصد بها:**
   - أ- التعداد
   - ب- المسح بالعينة
   - ج- التسجيل الحيوي
   - د- السجل المدرسي

3. **الصورة التي أمامك تمثل نموذجًا من مصادر الحصول على البيانات السكانية:**

   - أ- التعداد
   - ب- سجلات أهلية
   - ج- المسح بالعينة
   - د- التسجيل الحيوي

4. **العلم الذي يهتم بدراسة السكان وخصائصهم يقصد به:**
   - أ- جغرافية السكان
   - ب- نمو السكان
   - ج- بنية السكان
   - د- تركيب السكان

5. **إذا علمت أن معدل عدد الهجرة الداخلية في مجتمع ما (360) نسمة وعدد الهجرة الخارجية (120) نسمة، فإن صافي الهجرة يكون:**
   - أ- 40 نسمة
   - ب- 480 نسمة
   - ج- 240 نسمة
   - د- 180 نسمة

السؤال الثاني: أجب عن الأسئلة التالية:

1. أكمل الشكل التالي بما يناسبه:

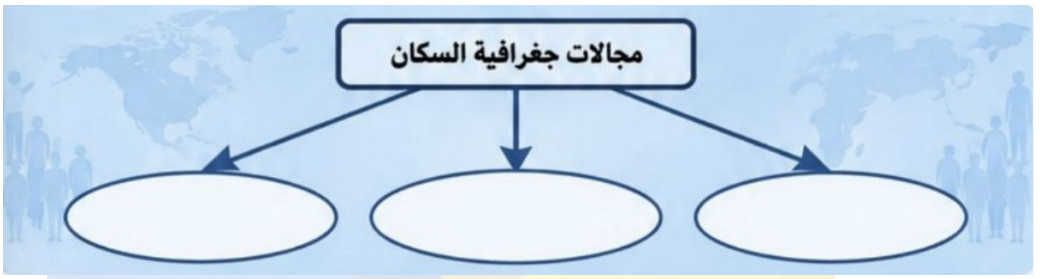

2. اكتب أبرز ما يتناوله التسجيل الحيوي.

3. عدد إيجابيات استخدام المسح بالعينة.

السؤال الثالث: أجب عن الأسئلة التالية:

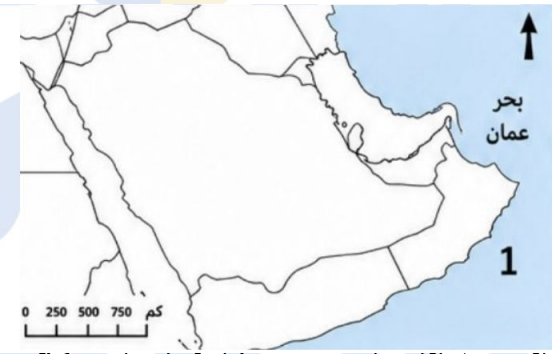

1. ظلل الدولة العربيه التي اجري فيها اول تعداد سكاني عام 1993؟

2. ما البحر الذي يشير إليه الرقم (1)؟

1. **صنف في الجدول التالي مصادر الحصول على البيانات السكانية حسب تصنيفها:**

(التعداد - سجلات المدارس - التسجيل الحيوي - سجلات المستشفيات)

المصادر الأساسية	المصادر الثانوية

ESRAR إصرار

Fileae.com/om موقع فايلاتي العمانية 2025 2026

الدراسات الاجتماعية

الاختبار القصير الأول
أكاديمية إصرار

الصف التاسع

الفصل الدراسي الأول

ESRAR إصرار
Fileae.com/om 2026 2025 موقع فايلاتي العمانية

السؤال الأول: اختر رمز الإجابة الصحيحة من بين البدائل المعطاة فيما يلي:

1. **الصورة التي أمامك تمثل نموذجًا لأحد مصادر الحصول على البيانات السكانية:**
   - أ- المسح بالعينة
   - ب- التسجيل الحيوي
   - **ج- التعداد**
   - د- سجلات المدارس

2. **عملية جمع البيانات عن عينة ممثلة للمجتمع يقصد بها:**
   - أ- التعداد
   - **ب- المسح بالعينة**
   - ج- التسجيل الحيوي
   - د- السجل المدرسي

3. **الصورة التي أمامك تمثل نموذجًا من مصادر الحصول على البيانات السكانية:**

   - أ- التعداد
   - ب- سجلات أهلية
   - ج- المسح بالعينة
   - **د- التسجيل الحيوي**

4. **العلم الذي يهتم بدراسة السكان وخصائصهم يقصد به:**
   - **أ- جغرافية السكان**
   - ب- نمو السكان
   - ج- بنية السكان
   - د- تركيب السكان

5. **إذا علمت أن معدل عدد الهجرة الداخلية في مجتمع ما (360) نسمة وعدد الهجرة الخارجية (120) نسمة، فإن صافي الهجرة يكون:**
   - أ- 40 نسمة
   - ب- 480 نسمة
   - **ج- 240 نسمة**
   - د- 180 نسمة

السؤال الثاني: أجب عن الأسئلة التالية:

1. **أكمل الشكل التالي بما يناسبه:**

2. **اكتب أبرز ما يتناوله التسجيل الحيوي.**

- كل الأحداث الحيوية التي تطرأ على حياة الإنسان منذ ولادته وحتى وفاته مثل: الزواج والطلاق و مكان الإقامة.

3. **عدد إيجابيات استخدام المسح بالعينة.**

- توفير الوقت والجهد
- خفض التكاليف
- دقة أعلى

السؤال الثالث: أجب عن الأسئلة التالية:

1. **ظلل الدولة العربية التي أجري فيها أول تعداد سكاني عام 1993؟**

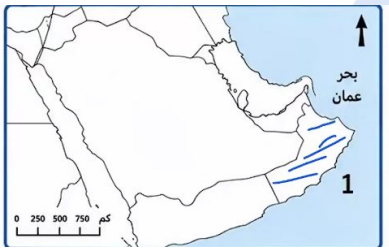

2. **ما البحر الذي يشير إليه الرقم (1)؟**

- بحر العرب

1. **صنف في الجدول التالي مصادر الحصول على البيانات السكانية حسب تصنيفها:**

(التعداد - سجلات المدارس - التسجيل الحيوي - سجلات المستشفيات)

المصادر الأساسية	المصادر الثانوية
التعداد	سجلات المدارس
التسجيل الحيوي	سجلات المستشفيات

ESRAR إصرار