اختبار قصير في للنباتات والمفاصل والعضلات

تم تحميل هذا الملف من موقع المناهج العمانية

موقع فايلاتي ⇦ المناهج العمانية ⇦ الصف السابع ⇦ علوم ⇦ الفصل الأول ⇦ ملفات متنوعة ⇦ الملف

تاريخ إضافة الملف على موقع المناهج: 23-10-2026 14:41:43

المزيد من مادة علوم: ملفات ا كتب للمعلم ا كتب للطالب ا اختبارات الكترونية ا اختبارات ا حلول ا عروض بوربوينت ا أوراق عمل منهج انجليزي ا ملخصات وتقارير ا مذكرات وبنوك ا الامتحان النهائي ا للمدرس

إعداد: أكاديمية إصرار

التواصل الاجتماعي بحسب الصف السابع

صفحة المناهج العمانية على فيسبوك

المزيد من الملفات بحسب الصف السابع والمادة علوم في الفصل الأول

1	اختبار قصير
2	تحليل نص ماذا لو اختفت أسماك القرش
3	شرح درس الكواشف والرقم الهيدروجيني pH
4	ملف اختبارات الشاملة
5	نموذج إجابة الامتحان النهائي الرسمي للفترة الصباحية الدور الأول

تحميل تطبيق المناهج للهواتف الذكية

تطبيق المناهج على Store App (آبل) | تطبيق المناهج على Play Google (أندرويد)

ESRAR
إصرار

العلوم

الاختبار القصير الأول
أكاديمية إصرار

الصف السابع

الفصل الدراسي الأول

ESRAR إصرار

Fileae.com/om 2026 2025 موقع فايلاتي العمانية

السؤال الأول

- ظلل الإجابة الصحيحة من بين البدائل المعطاة:

1. في الشكل المقابل ما رمز العضو المسؤول عن تثبيت النبات وامتصاص الماء والأملاح المعدنية؟

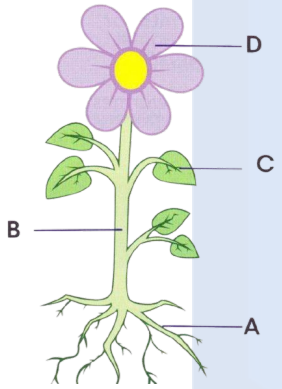

- ☐ A
- ☐ B
- ☐ C
- ☐ D

2. يوضح الشكل الآتي تركيب الزهرة.

ما وظيفة الجزء المشار له بالرمز (ص)؟

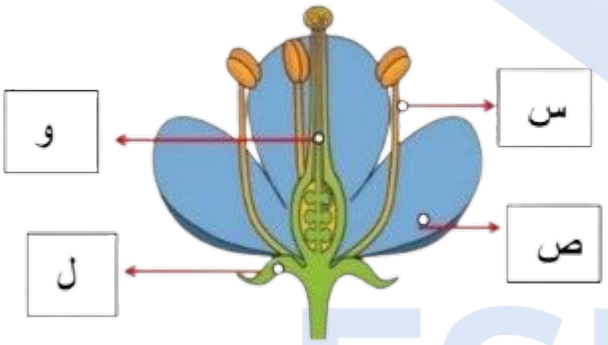

- ☐ إنتاج حبوب اللقاح
- ☐ إنتاج البويضات
- ☐ جذب الحشرات والطيور
- ☐ صنع الغذاء للنبات

- ضع علامة (✓) أمام العبارة بما يناسبها في الجدول التالي:

	العبارة	صح	خطأ
أ	التلقيح هي عملية انتقال حبوب اللقاح من المتك إلى الميسم		
ب	تتحول البويضات بعد الإخصاب إلى بذور		
ج	يتم انتاج حبوب اللقاح في ميسم الزهرة		

السؤال الثاني

يوضح الشكل الآتي مراحل غير مرتبة لعملية الإخصاب:

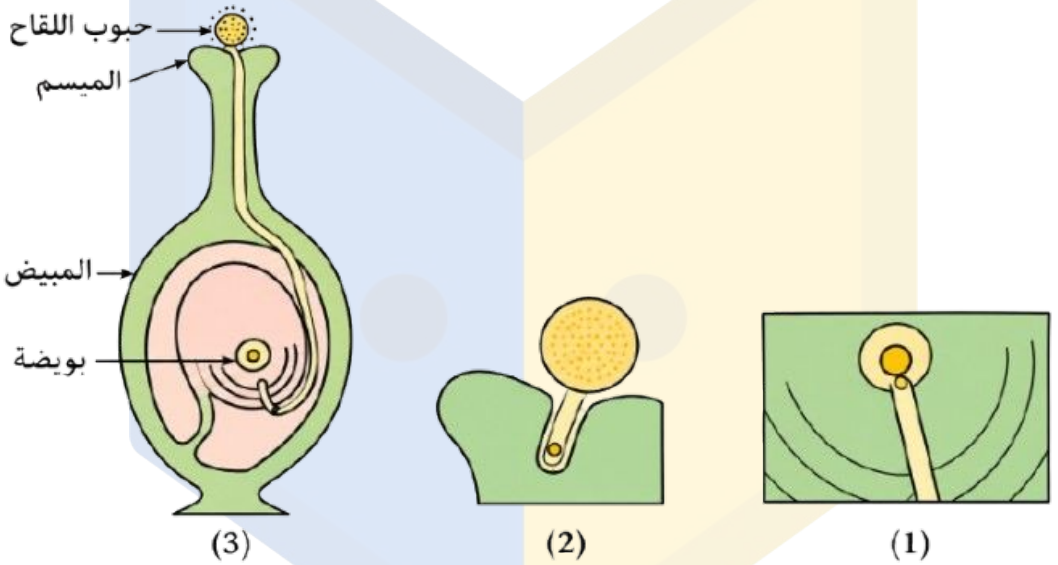

أ. رتب ترتيبًا صحيحًا المراحل الموضحة في الشكل السابق لمرحلة الإخصاب.

☐ ← ☐ ← ☐

ب. يتحول المبيض بعد عملية الإخصاب إلى : (اختر الإجابة الصحيحة)

- ☐ زهرة
- ☐ بويضة
- ☐ ثمرة
- ☐ شجرة

ج. ما اسم الخلية الناتجة عن اندماج نواة المشيج الذكري مع نواة المشيج الأنثوي؟

.....

السؤال الثالث

- من خلال دراستك للمفاصل، اكتب نوع المفصل فيما يلي:

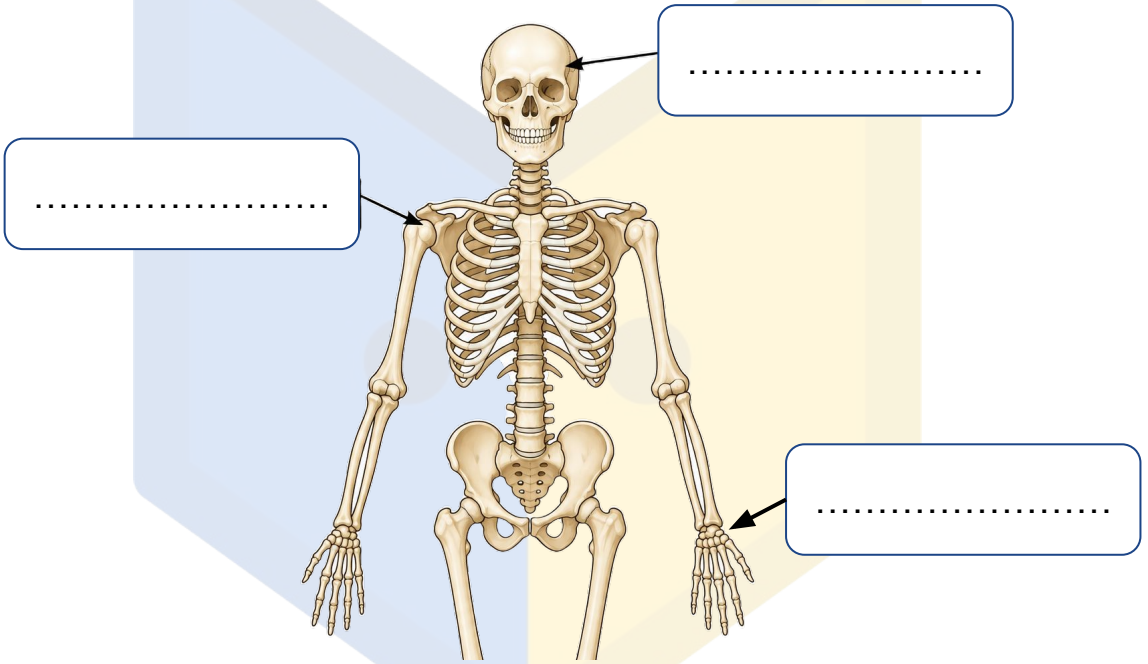

- الشكل الآتي يوضح العضلة الهيكلية للذراع:

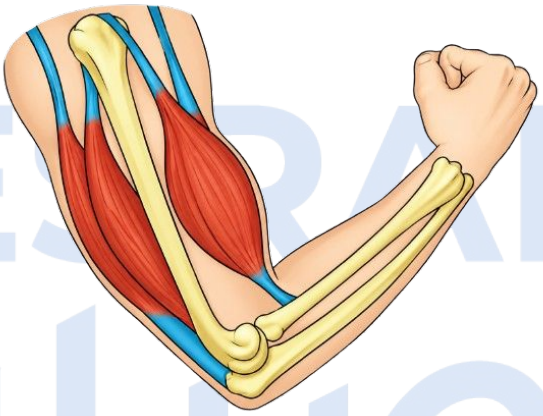

أ) من خلال الشكل ما اسم العضلة المنقبضة؟

.....

ب) عندما تكون العضلة في حالة انبساط فإنها تصبح ..... (أطول / أقصر).

ESRAR
إصرار

العلوم

الاختبار القصير الأول
أكاديمية إصرار

الصف السابع

الفصل الدراسي الأول

ESRAR إصرار

Fileae.com/om 2026 2025 موقع فايلاتي العمانية

السؤال الأول

- ظلل الإجابة الصحيحة من بين البدائل المعطاة:

1. في الشكل المقابل ما رمز العضو المسؤول عن تثبيت النبات وامتصاص الماء والأملاح المعدنية؟

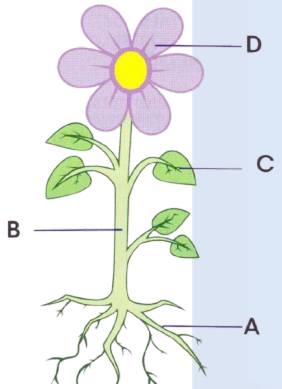

- ■ A
- ☐ B
- ☐ C
- ☐ D

2. يوضح الشكل الآتي تركيب الزهرة.

ما وظيفة الجزء المشار له بالرمز (ص)؟

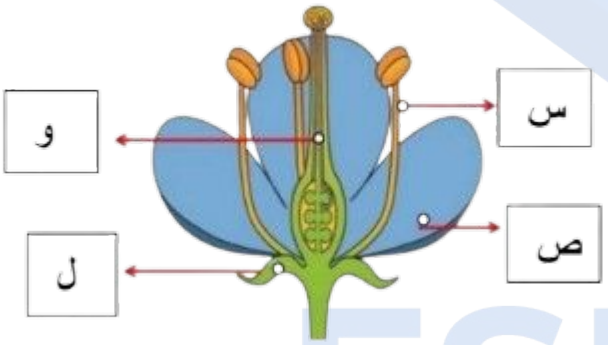

- ☐ إنتاج حبوب اللقاح
- ☐ إنتاج البويضات
- ■ جذب الحشرات والطيور
- ☐ صنع الغذاء للنبات

- ضع علامة (✓) أمام العبارة بما يناسبها في الجدول التالي:

	العبارة	صح	خطأ
أ	التلقيح هي عملية انتقال حبوب اللقاح من المتك إلى الميسم	✓	
ب	تتحول البويضات بعد الإخصاب إلى بذور	✓	
ج	يتم انتاج حبوب اللقاح في ميسم الزهرة		✓

السؤال الثاني

يوضح الشكل الآتي مراحل غير مرتبة لعملية الإخصاب:

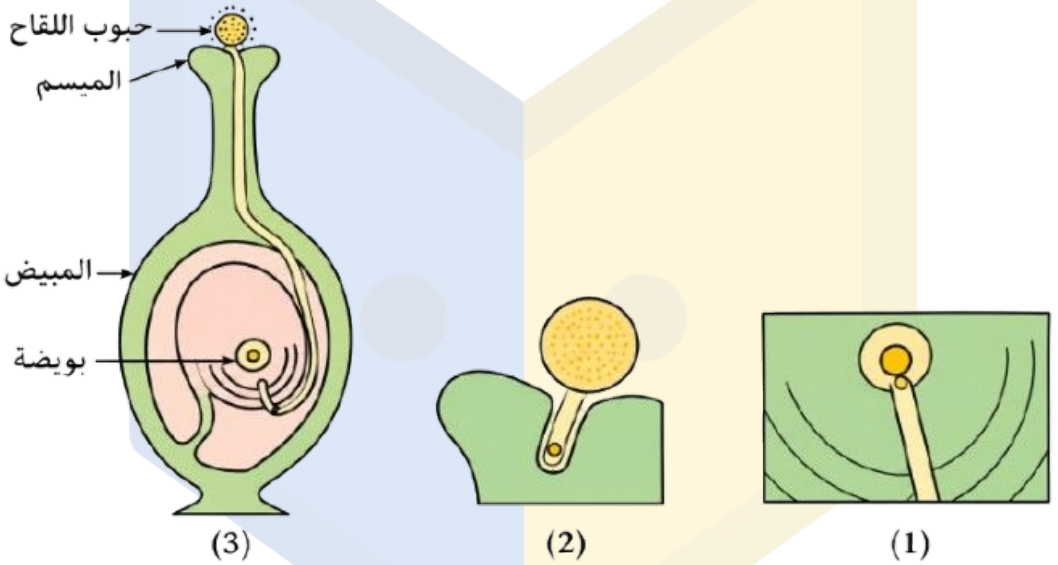

أ. رتب ترتيبًا صحيحًا المراحل الموضحة في الشكل السابق لمرحلة الإخصاب.

2 ← 3 ← 1

ب. يتحول المبيض بعد عملية الإخصاب إلى : (اختر الإجابة الصحيحة)

- [ ] زهرة
- [ ] بويضة
- [x] ثمرة
- [ ] شجرة

ج. ما اسم الخلية الناتجة عن اندماج نواة المشيج الذكري مع نواة المشيج الأنثوي؟

الزيجوت

السؤال الثالث

- من خلال دراستك للمفاصل، اكتب نوع المفصل فيما يلي:

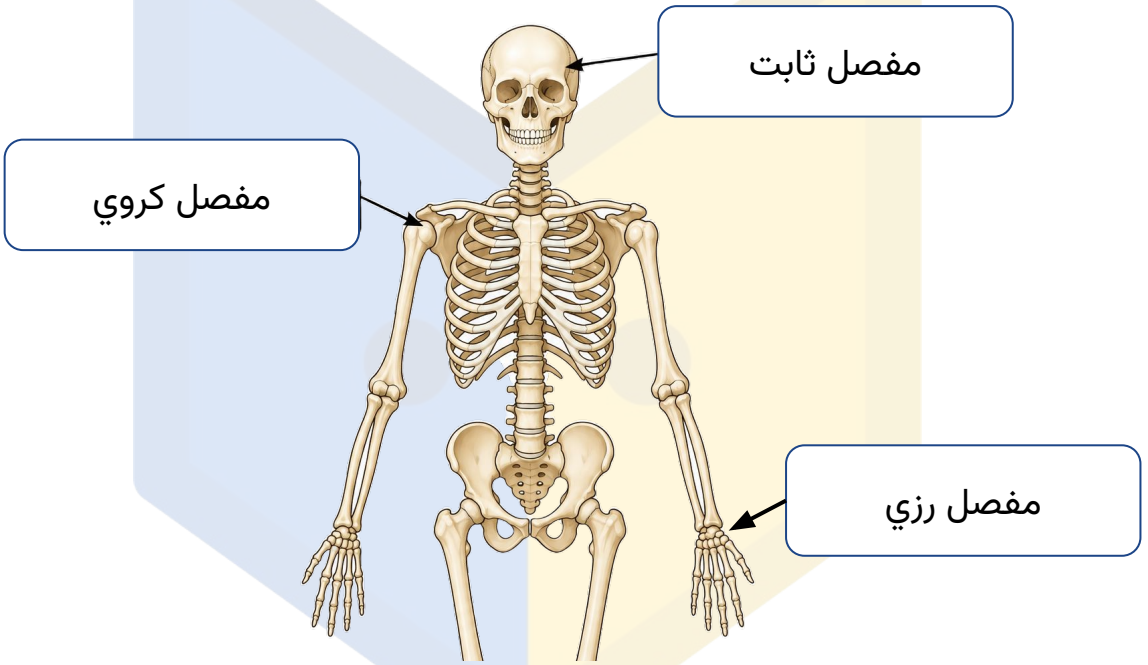

- الشكل الآتي يوضح العضلة الهيكلية للذراع:

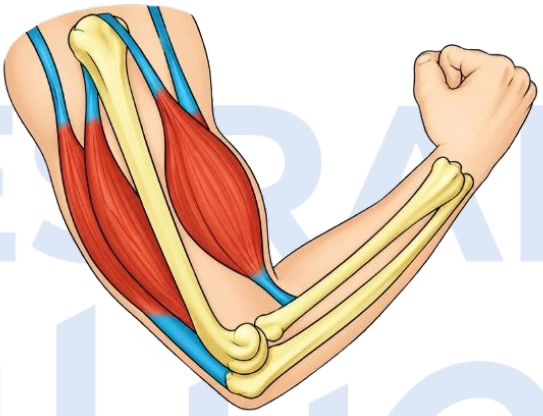

أ) من خلال الشكل ما اسم العضلة المنقبضة؟

العضلة ذات الرأسين.

ب) عندما تكون العضلة في حالة انبساط فإنها تصبح ..... (أطول / أقصر).