تدريبات على القياس و المساحة

تم تحميل هذا الملف من موقع المناهج العمانية	
موقع فايلاتي ⇦ المناهج العمانية ⇦ الصف السابع ⇦ رياضيات ⇦ الفصل الأول ⇦ ملفات متنوعة ⇦ الملف	
تاريخ إضافة الملف على موقع المناهج: 2025-10-01 22:32:37	
المزيد من مادة رياضيات:	ملفات ا كتب للمعلم ا كتب للطالب ا اختبارات الكترونية ا اختبارات ا حلول ا عروض بوربوينت ا أوراق عمل منهج انجليزي ا ملخصات وتقارير ا مذكرات وبنوك ا الامتحان النهائي ا للمدرس

التواصل الاجتماعي بحسب الصف السابع					
صفحة المناهج العمانية على فيسببوك					

المزيد من الملفات بحسب الصف السابع والمادة رياضيات في الفصل الأول	
1	إجابات كتاب الرياضيات
2	اختبار قصير أول 2025-2026 في محافظة مسقط
3	اختبار قصير أول 2025-2026 في محافظة جنوب الباطنة
4	حل الوحدة الثانية
5	الوحدتان الأولى و الثانية مع الحل

مسائل وتدريبات على درس قياس المساحات على الخريطة

أولا : الاشكال المنتظمة:

١- أوجد مساحة السور الخارجي للحديقة المشار اليه بالرمز (1)

٢- أمامك مخطط لأحد الأحياء السكنية في ولاية السويق، باستخدام الأدوات المتوفرة لديك ومقياس رسم المخطط، احسب المساحة الحقيقية للقطعة (٩٠).

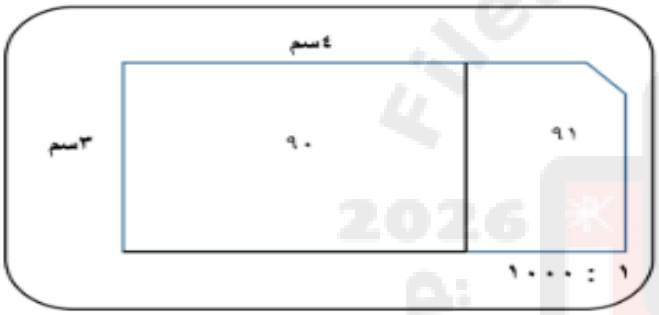

.....

.....

.....

.....

.....

٣-

أوجد مساحة قطعة أرض على شكل مستطيل على خريطة مقياس رسمها ١ : ٢٠٠٠

٤- امامك مخطط حديقة السويق باستخدام الأدوات المناسبة ومقياس الرسم احسب مساحة الحديقة بالمتر .



.....

.....

.....

.....

تجميع الأستاذة: إيمان السنانية

ثانيا : الاشكال الغير منتظمة

١ -بالاستعانة بالخريطة ،احسب مساحة البحيرة ،علما بأن مقياس الرسم (١سم لكل ٤٠ كم)على الطبيعة.



.....
.....
.....
.....

٢ - بالاستعانة بالخريطة احسب مساحة الجزيرة علماً بأن مقياس الرسم (١ سم لكل ٢٠ كم) على الطبيعة.

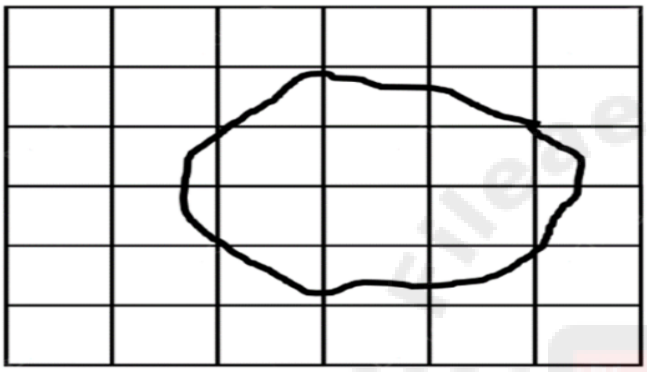

.....
.....
.....
.....
.....
.....

٣- أوجد مساحة الاشكال غير المنتظمة التي أمامك في الطبيعة مستعينا بمقياس الرسم:

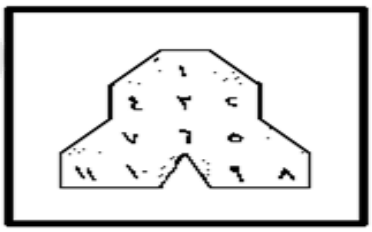

اسم لكل ٥٠كم

أ)

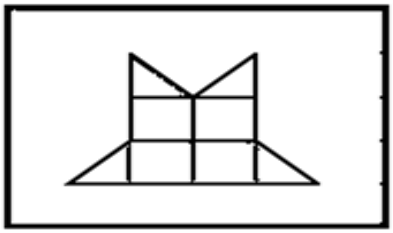

ب)

١ سم لكل ٣٠ متر



اسم لكل ٢٠ كم

ج)