اختبار قصير أول

تم تحميل هذا الملف من موقع المناهج العمانية
موقع فايلاتي ⇦ المناهج العمانية ⇦ الصف السادس ⇦ رياضيات ⇦ الفصل الأول ⇦ ملفات متنوعة ⇦ الملف
تاريخ إضافة الملف على موقع المناهج: 23-10-2026 14:37:52
المزيد من مادة رياضيات: ملفات ا كتب للمعلم ا كتب للطالب ا اختبارات الكترونية ا اختبارات ا حلول ا عروض بوربوينت ا أوراق عمل منهج انجليزي ا ملخصات وتقارير ا مذكرات وبنوك ا الامتحان النهائي ا للمدرس
إعداد: أكاديمية إصرار

التواصل الاجتماعي بحسب الصف السادس					
صفحة المناهج العمانية على فيسبوك					

المزيد من الملفات بحسب الصف السادس والمادة رياضيات في الفصل الأول	
1	الاختبار القصير الأول
2	تجميعة الامتحانات النهائية السابقة
3	إجابات أسئلة الاختبار القصير الثاني نموذج (4) من أكاديمية همم التعليمية
4	اختبار قصير ثاني نموذج (4) من أكاديمية همم التعليمية
5	إجابات أسئلة الاختبار القصير الثاني نموذج (3) من أكاديمية همم التعليمية

تحميل تطبيق المناهج للهواتف الذكية	
تطبيق المناهج على App Store (آبل)	تطبيق المناهج على Play Google (أندرويد)

الرياضيات

الاختبار القصير الأول
أكاديمية إصرار

الصف السادس

الفصل الدراسي الأول

Fileae.com/om
2026 2025
موقع فايلاتي العمانية

السؤال الأول: الأعداد الأولية المحصورة بين ٢٠ و ٣٠

٧، ٢١ ٢٣ ، ٢ ٢٣ ، ٢٩ ٢٤، ٣٣ ، ٢٣ ، ٢٩

السؤال الثاني: أكمل الفراغات لتكون العبارة صحيحة -:

أ) ٣٤ x ١٠٠٠ = ☐

ب) ☐ x ٧٨ = ٧٨٠٠٠

السؤال الثالث:

صل بخط بين كل عددين مجموعهما ١



السؤال الرابع:

أكمل الأعداد في الدوائر الفارغة :

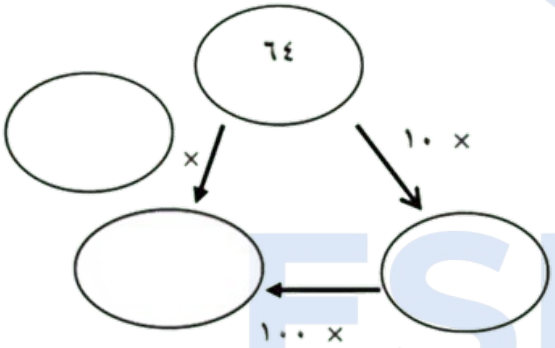

السؤال الخامس:

لدى مريم ١٢٠ قلم ترغب في توزيعهم ل ١٢ طالب فإن نصيب كل طالب سيكون (موضحاً خطوات الحل)

.....

.....

.....

.....

السؤال السادس: ضع علامة ✔ في المكان المناسب لها مقابل كل عبارة:

العبارة	صواب	خطأ
عدد فردي + عدد فردي +عدد فردي = عدد فردي	√	
عدد فردي + عدد فردي + عدد زوجي = عدد زوجي		
عدد زوجي + عدد زوجي + عدد فردي = عدد زوجي		

الرياضيات

الاختبار القصير الأول
أكاديمية إصرار

الصف السادس

الفصل الدراسي الأول

Fileae.com/om
2026 2025
موقع فايلاتي العمانية

السؤال الأول: الأعداد الأولية المحصورة بين ٢٠ و ٣٠

٧، ٢١ ٢٣ ، ٢ ٢٣ ، ٢٩ ٢٤ ،٣٣ ، ٢٣ ، ٢٩

السؤال الثاني: أكمل الفراغات لتكون العبارة صحيحة :-

أ) ٣٤ x ١٠٠٠ = ☐

ب) ☐ x ٧٨ = ٧٨٠٠٠

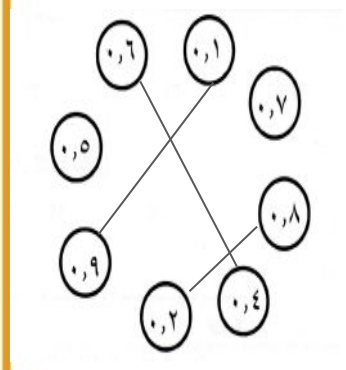

الحل:

أ) ٣٤٠٠٠

ب) ١٠٠٠

السؤال الثالث:

صل بخط بين كل عددين مجموعهما ١

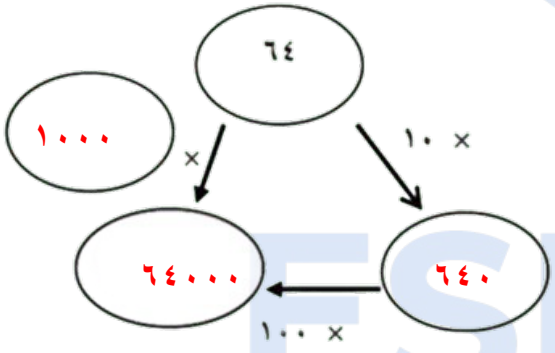

السؤال الرابع:

أكمل الأعداد في الدوائر الفارغة :

السؤال الخامس:

لدى مريم ١٢٠ قلم ترغب في توزيعهم ل ١٢ طالب فإن نصيب كل طالب سيكون (موضحاً خطوات الحل)

عدد الأقلام = ١٢٠ قلمًا

* عدد الطلاب = ١٢ طالبًا

نقسم عدد الأقلام على عدد الطلاب:

١٢٠ ÷ ١٢ = ١٠

إذن نصيب كل طالب = ١٠ أقلام

السؤال السادس: ضع علامة ✔ في المكان المناسب لها مقابل كل عبارة:

العبارة	صواب	خطأ
عدد فردي + عدد فردي +عدد فردي = عدد فردي	√	
عدد فردي + عدد فردي + عدد زوجي = عدد زوجي	✔	
عدد زوجي + عدد زوجي + عدد فردي = عدد زوجي		✔

ESRAR إصرار