اختبار قصير

تم تحميل هذا الملف من موقع المناهج العمانية	
موقع فايلاتي ⇦ المناهج العمانية ⇦ الصف الخامس ⇦ علوم ⇦ الفصل الأول ⇦ ملفات متنوعة ⇦ الملف	
تاريخ إضافة الملف على موقع المناهج: 23-10-2026 14:07:38	
المزيد من مادة علوم:	ملفات ا كتب للمعلم ا كتب للطالب ا اختبارات الكترونية ا اختبارات ا حلول ا عروض بوربوينت ا أوراق عمل منهج انجليزي ا ملخصات وتقارير ا مذكرات وبنوك ا الامتحان النهائي ا للمدرس
	إعداد: أكاديمية إصرار

التواصل الاجتماعي بحسب الصف الخامس					
صفحة المناهج العمانية على فيسبوك					

المزيد من الملفات بحسب الصف الخامس والمادة علوم في الفصل الأول	
1	اختبار قصير أول
2	ملخص شامل للمنهج فـ1 لعام 2024
3	إجابة أنشطة الوحدة الثالثة حالات المادة
4	ملخص الوحدة الثالثة حالات المادة
5	جداول مقارنة دورة حياة الحزازيات والسرخسيات

تحميل تطبيق المناهج للهواتف الذكية	
تطبيق المناهج على Store App (آبل)	تطبيق المناهج على Play Google (أندرويد)

ESRAR
إصرار

العلوم

الاختبار القصير الأول
أكاديمية إصرار

الصف الخامس

الفصل الدراسي الأول

Fileae.com/om
2026 2025
موقع فايلاتي العمانية

الاختبار القصير الأول لمادة العلوم للصف الخامس

المفردة	السؤال	الدرجة
1	في بداية عملية الإنبات ينمو الجذر الأول متجهًا إلى _____ ☐ أسفل ☐ أعلى ☐ يمين ☐ يسار	1
2	اكتب وظيفة كل جزء من البذرة 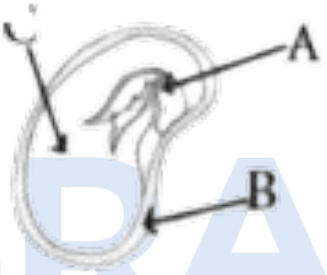 الوظيفة يحمي البذور ينمو ليتحول نبات جديد يمنح البذور الطاقة لتنمو A..... B..... C.....	2

الاختبار القصير الأول لمادة العلوم للصف الخامس

3	عدد العوامل اللازمة لعملية الإنبات ؟ 1: 2:	2
4	أكمل : تحتاج النباتات إلى ..... لصنع الغذاء بداخل أوراقها.	1
5	يوضح الجدول التالي نتائج استقصاء نمو (4) نباتات من الفول طولها قبل بداية التجربة (5 سم)	1

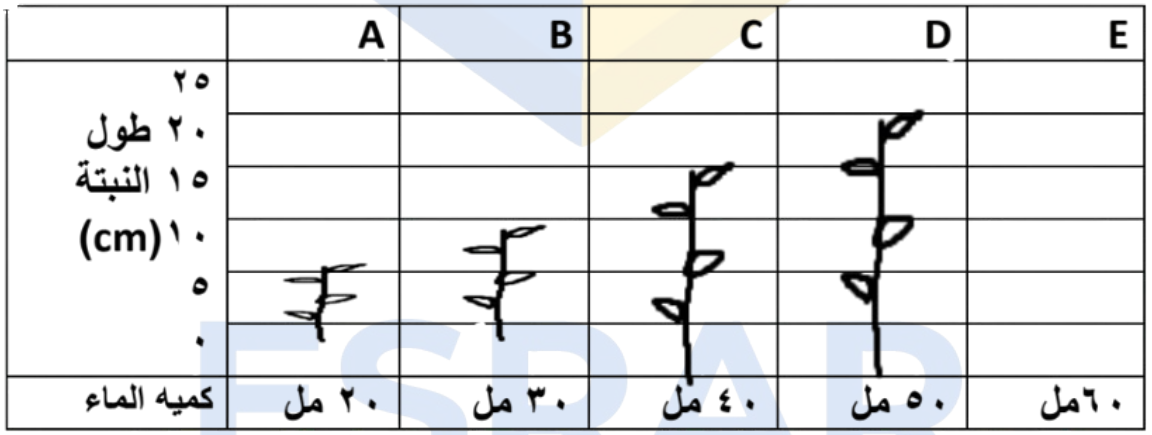

أ.أي من العبارات الآتية صحيحة

- ☐ النباتان (B) و (C) لهما نفس الطول
- ☐ يقل طول النبات كلما زادت كمية الماء
- ☐ يزداد طول النبات كلما زادت كمية الماء
- ☐ النبات (A) أطول من النبات (C)

5

ب. مثل بالأعمدة طول النباتات الأربعة

2

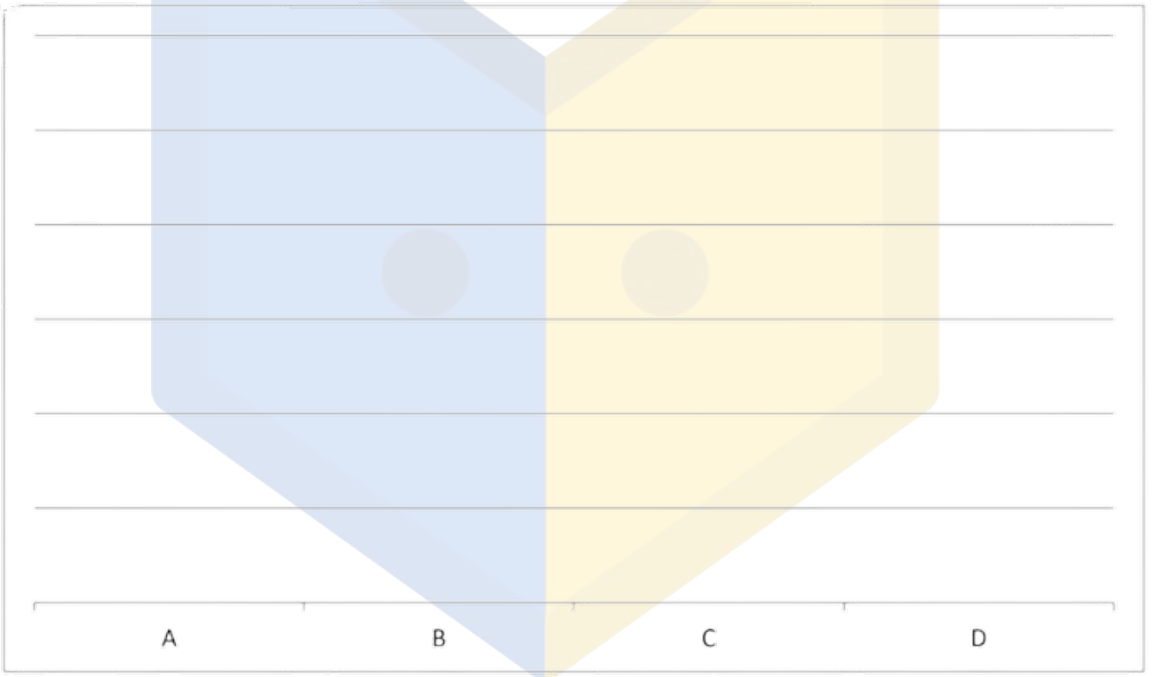

ج. تنبأ بطول النبتة (E) مع الرسم في الشكل السابق.

1

العلوم

الاختبار القصير الأول
أكاديمية إصرار

الصف الخامس

الفصل الدراسي الأول

نموذج الإجابة

Fileae.com/om
موقع فايلاتي العمانية
2026 2025

الاختبار القصير الأول لمادة العلوم للصف الخامس

ESRAR
إصرار

المفردة	السؤال	الدرجة
1	اسفل	1
2	ينمو ليتحول إلى نبات جديد ← A يمنح البذور الطاقة للنمو ← B يحمي البذور ← C	2
3	الضوء - الهواء الماء (يكتفى بذكر اثنين)	2
4	الضوء (الطاقة الضوئية)	1
5	أ. يزداد طول النبات كلما زادت كمية الماء (ب) مثل بالأعمدة طول النباتات الأربعة. 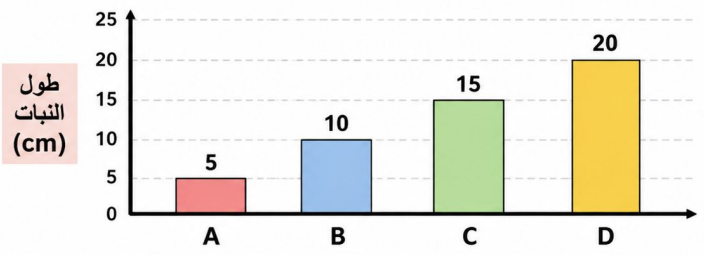 (ج) تنبأ بطول النبتة (E) مع الرسم في الشكل السابق. 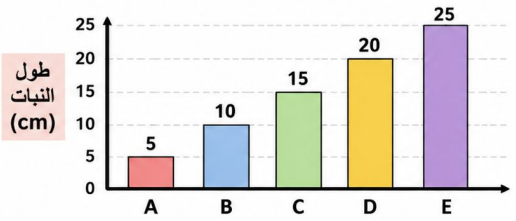 بما أن طول النبات يزداد كلما زادت كمية الماء، والنبتة (E) حصلت على ٦٠ مل من الماء (وهي أكبر كمية)، فمن المتوقع أن يكون طولها أكبر من ٢٠ سم. إذن التنبؤ: طول النبتة (E) ≈ ٢٥ سم.	1 2 1