أنشطة وأسئلة إثرائية من اختبارات سابقة

تم تحميل هذا الملف من موقع المناهج العمانية	
موقع المناهج ⇦ المناهج العمانية ⇦ الصف الثاني عشر ⇦ هذا وطني ⇦ الفصل الأول ⇦ اختبارات ⇦ الملف	
تاريخ إضافة الملف على موقع المناهج: 2026-11-25 18:15:58	
المزيد من مادة هذا وطني:	ملفات ا كتب للمعلم ا كتب للطالب ا اختبارات الكترونية ا اختبارات ا حلول ا عروض بوربوينت ا أوراق عمل منهج انجليزي ا ملخصات وتقارير ا مذكرات وبنوك ا الامتحان النهائي ا للمدرس

التواصل الاجتماعي بحسب الصف الثاني عشر					
صفحة المناهج العمانية على فيسبوك					

المزيد من الملفات بحسب الصف الثاني عشر والمادة هذا وطني في الفصل الأول	
1	أنشطة وأسئلة إثرائية من اختبارات سابقة
2	ملخص كامل الفصل
3	تقرير عن إسلام أهل عمان
4	تقرير عن اتفاقية فينا لحماية طبقة الأوزون
5	تقرير عن السيد سلطان بن أحمد البوسعيدي2025

تحميل تطبيق المناهج للهواتف الذكية	
تطبيق المناهج على Store App (آبل)	تطبيق المناهج على Play Google (أندرويد)

معلومة تهمك
قبل الامتحان

قناة حمزة التعليمية
جغرافيا تاريخ

أنشطة كتاب هذا وطني

الصف الثاني عشر



أبنائي الطلاب، هناك درجات يفقدها بعض الطلاب
بسبب **إهمال الأنشطة** الواردة في الكتاب المدرسي.

لذلك احرصوا على مراجعة الأنشطة التالية جيدًا:

- توظيف المصادر
- قيمة
- الربط مع الحياة
- أضف إلى معلوماتك
- فكر واقترح
- كلمات مضيئة
- تحليل النصوص
- تحليل الجداول والأشكال

لا تهملوا أي معلومة في الكتاب، فقد تكون سببًا في حصولكم على الدرجة الكاملة.

مع تمنياتنا لكم بالنجاح والتوفيق | 79517445

قناة حمزة التعليمية
يوتيوب

السلام عليكم ورحمة الله وبركاته

قناة حمزة التعليمية
جغرافيا
تاريخ

طلاب الصف الثاني عشر - دفعة 2025-2026م



أسئلة أضف إلى معلوماتك



من الأسئلة التي وردت في

الاختبارات الوزارية والتجريبية السابقة



يسعدني أن أقدم لكم مجموعة من الأسئلة المهمة **مادة هذا وطني**، تم اختبارها من الأنشطة التي تكرر ورودها في الاختبارات الوزارية والتجريبية السابقة؛ لتكون عونًا لكم في المراجعة والاستعداد للاختبار.

أسأل الله تعالى لكم النجاح والتوفيق والسداد

79517445

قناة حمزة التعليمية
يوتيوب



مواصفات الورقة الامتحانية النهائية لمواد الدراسات الاجتماعية للصف (١٢) للدورين الأول والثاني

درجة الامتحان	٧٠درجة
زمن الإجابة	ثلاث ساعات
نسبة الأسئلة الموضوعية والمقالية	الموضوعية ٢٠٪ = ١٤ درجة / المقالية ٨٠٪ = ٥٦ درجة
نسبة مستويات التعلّم	المعرفة ٣٠٪ - الفهم والتطبيق ٥٠٪ - القدرات العليا ٢٠٪
الأسئلة	الأسئلة من (١ - ١٤) أسئلة موضوعية من نمط الاختيار من متعدد لكل مفردة (درجة واحدة) ولكل مفردة أربع بدائل.
	الأسئلة من (١٥ - ٢١) أسئلة مقالية من نمط المقالي القصير أو الممتد ولكل سؤال (٨ درجات) وتتكون كل مفردة من (٢ - ٤) جزئيات.

- يجب أن تراعي أسئلة الامتحان مخرجات ومستويات التعلّم في المادة.
- يجب أن يشتمل الامتحان على مهارات التعامل مع الخرائط، وتحليل النصوص أو الأشكال والصور والجداول والرسوم البيانية وفقًا لمخرجات ومستويات التعلّم في المادة.
- يمكن لمعد الامتحان الاستعانة بنصوص خارجية وإحصاءات حديثة أو أية رسومات أو جداول أو صور من مراجع خارجية موثوقة ذات ارتباط بمخرجات ومحتوى المنهج.
- وضع مخطط توزيع درجات الورقة الامتحانية للمادة (الشبكة) للتأكد من مطابقتها للمواصفات الموضوعة.
- إعداد نموذج الإجابة يشتمل على توزيع درجات كل سؤال ومعايير التصحيح.

7 أسئلة



مواصفات امتحان نهاية الفصل الدراسي الأول لمادة الدراسات الاجتماعية (هذا وطني) للصف الثاني عشر

المحتوى				مجموع الدرجات لكل موضوع	الأسئلة الموضوعية ٢٠٪	الأسئلة المقالية ٨٠٪	درجات مستويات التعلم للوحدة			مجموع الدرجات للوحدة
الوحدة	عنوان الوحدة	الموضوعات	الوزن النسبي		عدد الدرجات	عدد الدرجات	المعرفة ٣٠٪	الفهم والتطبيق ٥٠٪	القدرات العليا ٢٠٪	
الأولى	عُمان.. تاريخ وحضارة	عُمان في عصر النباهنة.. حضارة وتواصل	٢١٪	١٥	٣	١٢	١٣	٢١	٨	٤٢
		عُمان في عصر اليعاربة .. قوة وازدهار	١٨٪	١٢	٢	١٠				
		عُمان في عهد البوسعيد.. وحدة ومنجزات	٢١٪	١٥	٣	١٢				
الثانية	بيئتنا .. تنوع وثراء واستدامة	البيئة.. قضية عالمية ويقظة وطنية.	١١٪	٨	٢	٦	٨	١٤	٦	٢٨
		البيئة العُمانية.. حماية واستدامة	١٤٪	١٠	٢	٨				
		قضايا بيئية.. تحديات عالمية وجهود وطنية	١٥٪	١٠	٢	٨				
المجموع			١٠٠٪	٧٠	١٤	٥٦	٢١	٣٥	١٤	٦٠

Fileae.com/om
2026 2025
موقع فايلاتي العمانية


الوحدة الأولى


عُمان
في عصر النباهنة

امثلة على أهمية (أضف الى معلوماتك بالكتاب المدرسي)

اذكر دلالة كل مما يأتي:

(١) تعدُّد مسمّيات حكّام عُمان عبر العصور التاريخية المختلفة.

_____

أضف إلى معلوماتك

تعـدَّدت مُسَمَّيات حـكّام عُمان بين سلطـان وملـك وإمام عبـر العصور التاريخية المختلفـة، وهو دليل على تنوع الأنظمة التي حكمت عُمان.

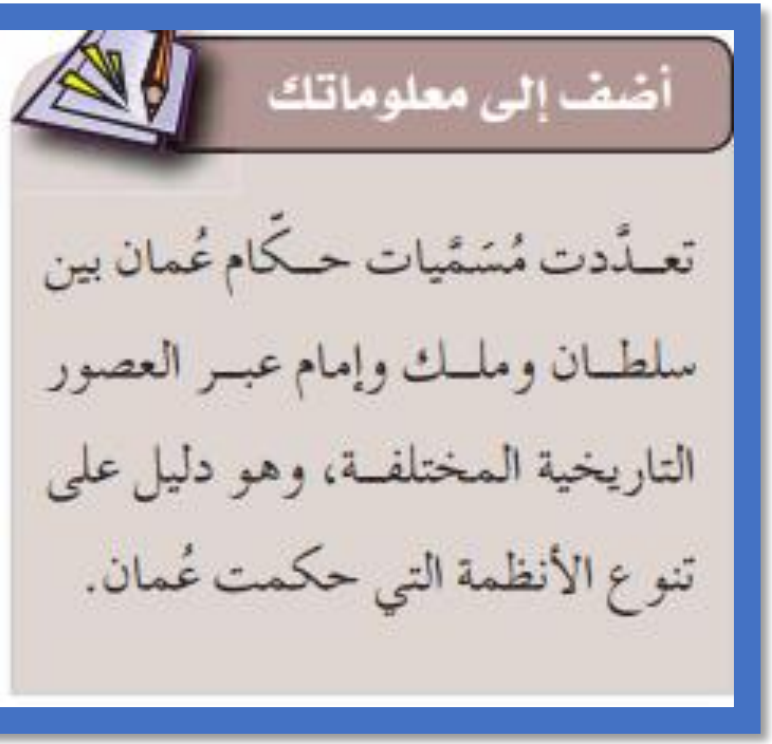

امتحان وزاري 2022-2023

ص 14 بالكتاب المدرسي

قناة حمزة التعليمية
جغرافيا تاريخ

امثلة على أهمية (أضف الى معلوماتك بالكتاب المدرسي)

-5 الأسرة التي ينتمي إليها الملك الذي جلب ثمرة المانجو وأمر بزراعتها في عُمان:

1 النباهنة.
2 اليعاربة.
3 المزاريع.
4 البوسعيد.

قناة حمزة التعليمية

واتس / 79517445



أضف إلى معلوماتك

جلب الملـك النبهاني فلاح بن محسن ثمـرة المانجو من الهنـد وأمر بزراعتها فـي مقنيات، ومنها انتشرت زراعته في سائر نواحي عُمان.

امتحان وزاري 2021م

ص 22 بالكتاب المدرسي

Fileae.com/om
2026 2025
موقع فايلي العمانية

امثلة على أهمية (أضف الى معلوماتك بالكتاب المدرسي)

الصورة التي توضح المحصول الزراعي الذي جلبه الملك النبهاني فلاح بن محسن من الهند، وأمر بزراعته في عُمان:

-8






قناة حمزة التعليمية

واتس / 79517445

أضف إلى معلوماتك

جلب الملـك النبهاني فلاح بن محسن ثمـرة المانجو من الهنـد وأمر بزراعتها فـي مقنيات، ومنها انتشرت زراعته في سائر نواحي عُمان.

امتحان وزاري 2022-2023

ص 22 بالكتاب المدرسي

قناة حمزة التعليمية
جغرافيا تاريخ

امثلة على أهمية (أضف الى معلوماتك بالكتاب المدرسي)

أ. اذكر دليلًا على بلوغ جزيرة هرمز أوج ازدهارها في الفترة ما بين القرنين العاشر والثاني عشر الميلاديين.

118

بسطت نفوذها السياسي على أجزاء واسعة من الخليج العربي وساحل عمان

قناة حمزة التعليمية

واتس / 79517445

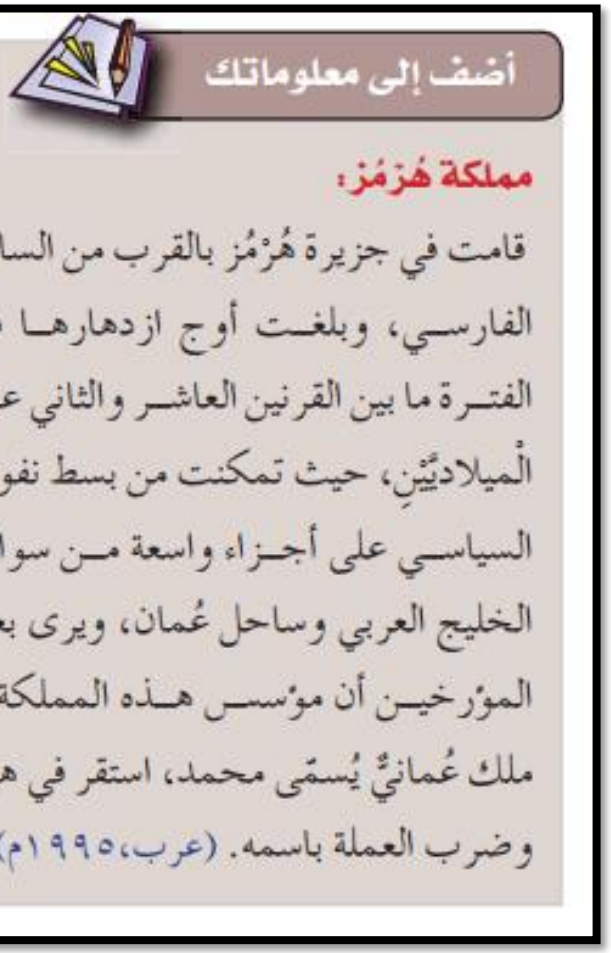



امتحان وزاري 2023م

ص 15 بالكتاب المدرسي

امثلة على أهمية (أضف الى معلوماتك بالكتاب المدرسي)

٧) الرمز الذي يشير إلى موقع المملكة التي يرى بعض المؤرخين أن ملكًا عُمانيًا أسّسها، وبلغت أوجّ ازدهارها ما بين القرنين العاشر والثاني عشر الميلاديين في الخريطة المقابلة:

- ( ) (ن).
- ( ) (س).
- ( ) (ص).
- ( ) (و).

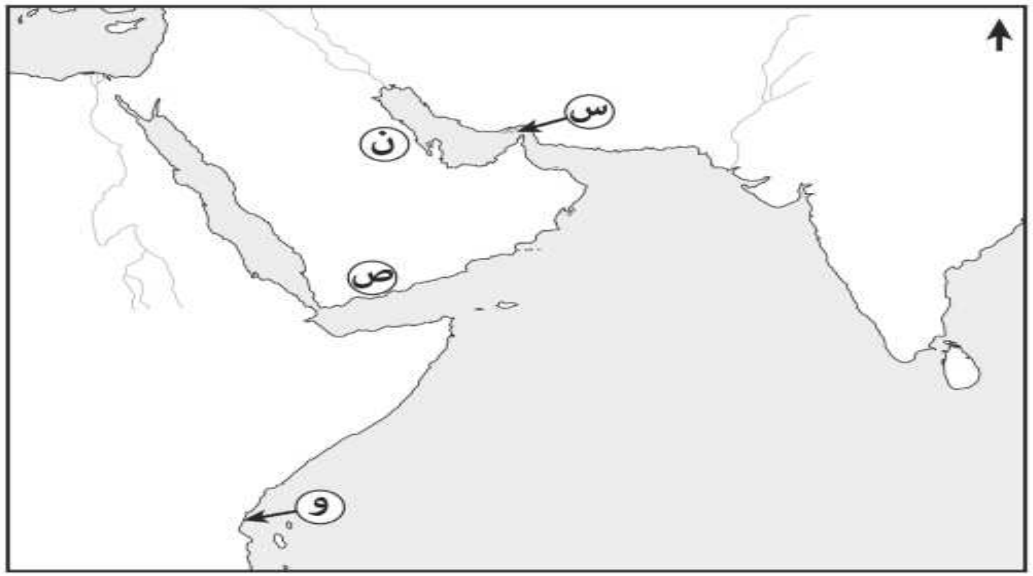

أضف إلى معلوماتك

مملكة هُرمُز:

قامت في جزيرة هُرْمُز بالقرب من الساحل الفارسي، وبلغت أوج ازدهارها في الفترة ما بين القرنين العاشر والثاني عشر الْميلاديَّيْنِ، حيث تمكنت من بسط نفوذها السياسي على أجزاء واسعة من سواحل الخليج العربي وساحل عُمان، ويرى بعض المؤرخين أن مؤسس هذه المملكة هو ملك عُمانيٌّ يُسمّى محمد، استقر في هرمز وضرب العملة باسمه. (عرب،١٩٩٥م).



امتحان وزاري 2023م

ص 15 بالكتاب المدرسي

قناة حمزة التعليمية
جغرافيا تاريخ

امثلة على أهمية (أضف الى معلوماتك بالكتاب المدرسي)

(٢) ميّز طبيعة العلاقات الخارجية لعُمان في العصر النبهاني حسب الجدول الآتي:

رقم المملكة على الخريطة	طبيعة العلاقة مع عُمان	الدليل (حدث تاريخي)
١		

ثانيًا :الأسئلة المقالية:

١٥) أ. ادرس خريطة القوى الإقليمية في العصر النبهاني، ثم أجب عن الأسئلة التي تليها.

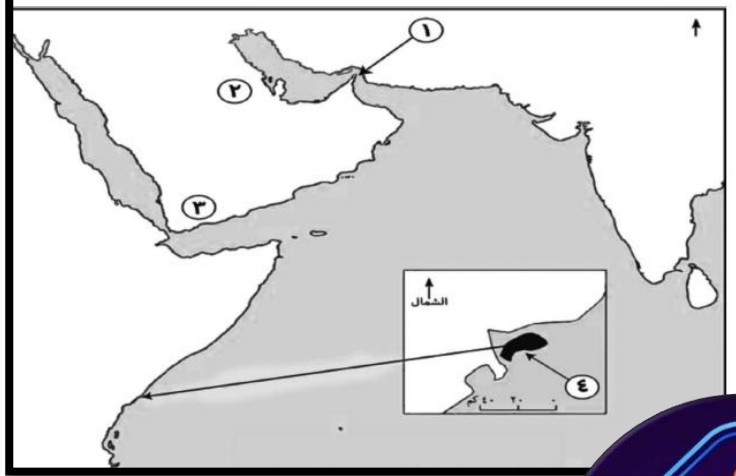

أضف إلى معلوماتك

مملكة هُرمُز:

قامت في جزيرة هُرْمُز بالقرب من الساحل الفارسي، وبلغت أوج ازدهارها في الفترة ما بين القرنين العاشر والثاني عشر الْميلاديَّيْنِ، حيث تمكنت من بسط نفوذها السياسي على أجزاء واسعة من سواحل الخليج العربي وساحل عُمان، ويرى بعض المؤرخين أن مؤسس هذه المملكة هو ملك عُمانيٌّ يُسمّى محمد، استقر في هرمز وضرب العملة باسمه. (عرب،١٩٩٥م).





اختر الإجابة الصحيحة من بين البدائل المعطاة

19 بلغت مملكة هرمز أوج ازدهارها فى القرنين

أ التاسع والعاشر

ب العاشر والحادي عشر

ج العاشر والثاني عشر

د الحادي عشر والثاني عشر

قناة حمزة التعليمية
واتس / 79517445

امتحان وزاري

امتحان تجريبي

ص 15 بالكتاب المدرسي

امثلة على أهمية (أضف الى معلوماتك – شخصيات بالكتاب المدرسي)

شخصيـة تاريخية عُمانية

الملك النبهاني محمد بن أحمد النبهاني:

حاكم باتي، كان رجلاً كريمًا حَسَنَ التصرف لُقِّبَ بالعظيم، وتوسَّع في مملكته، فَضَمَّ العديد من الجزر القريبة من باتي.

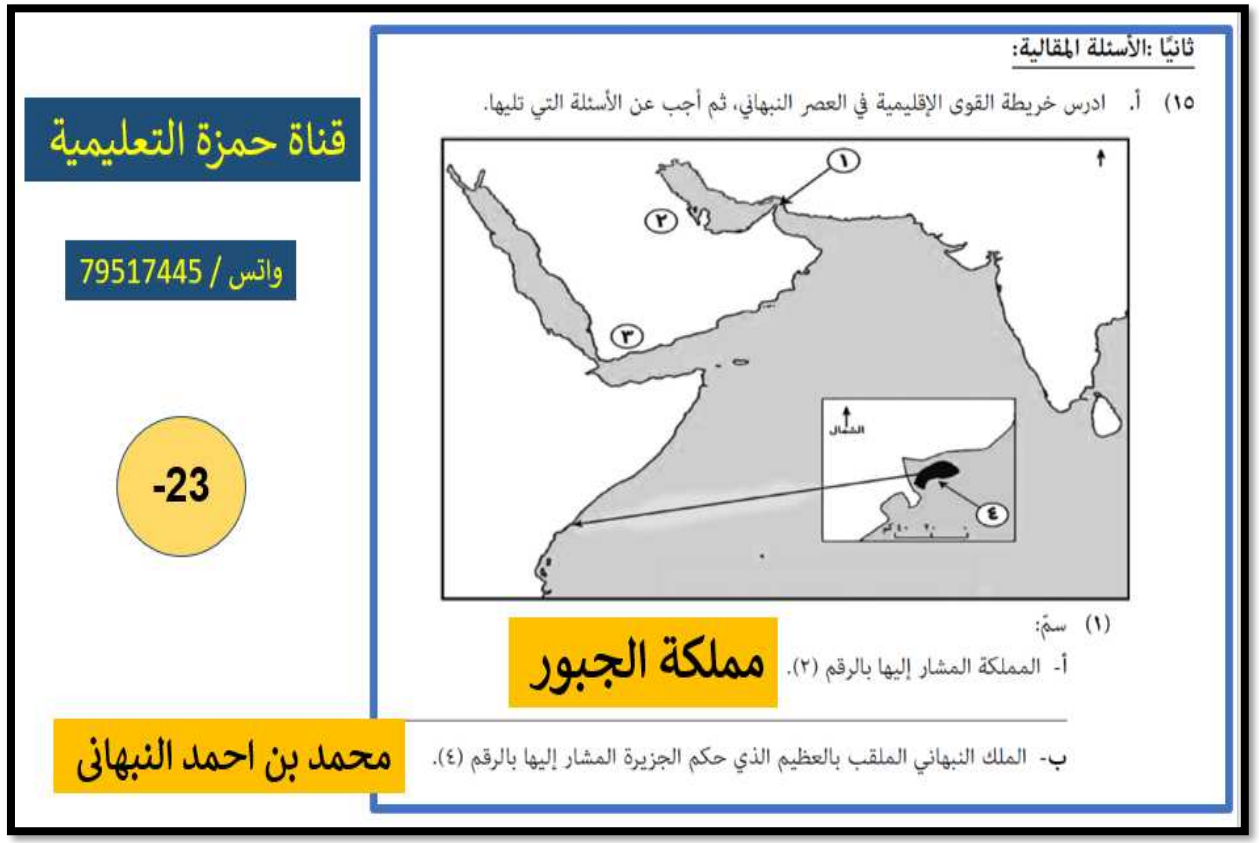

قناة حمزة التعليمية
جغرافيا تاريخ

امتحان وزاري 2021م



ص 16 بالكتاب المدرسي

امثلة على أهمية (أضف الى معلوماتك – شخصيات بالكتاب المدرسي)







امتحان وزاري 2022-2023

ص 19 بالكتاب المدرسي

امثلة على أهمية (أضف الى معلوماتك – شخصيات بالكتاب المدرسي)

بم تفسر

عُين ألفونسو دي بوكيرك نائبا لملك البرتغال في الشرق ؟

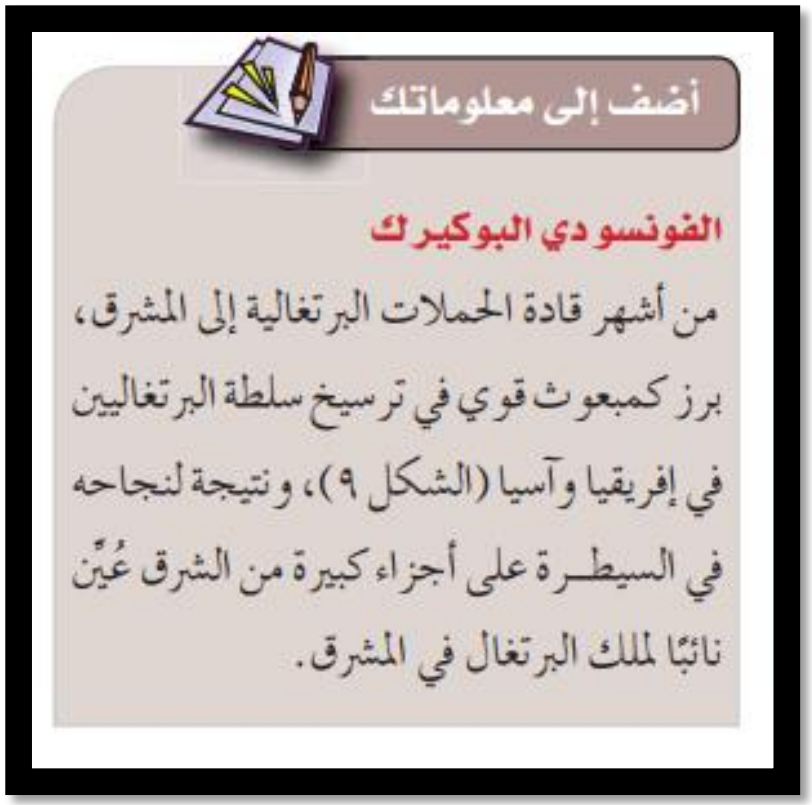

قناة حمزة التعليمية
جغرافيا تاريخ

امتحان قناة حمزة التجريبي



ص 23 بالكتاب المدرسي

Fileae.com/om
2026 2025
موقع فيليني العالمي

امثلة على أهمية (الاشكال بالكتاب المدرسي)

(١٥) أ. أكمل بيانات الصورة الآتية التي تمثل محاكاة المحكمة في العصر النبهاني مستعينا بالذي بين القوسين (الكاتب ـ القاضي ـ رئيس القضاة ـ وكلاء المدعي).





الشكل (٦) محاكاة لمحكمة في العصر النبهاني

امتحان وزاري 2025-2026

ص 20 بالكتاب المدرسي

قناة حمزة التعليمية
جغرافيا تاريخ

امثلة على أهمية (الاشكال بالكتاب المدرسي)





امتحان وزاري 2024-2025



ص 20 بالكتاب المدرسي

امثلة على أهمية (الاشكال بالكتاب المدرسي)


الشكل (٦) محاكاة لمحكمة في العصر النبهاني

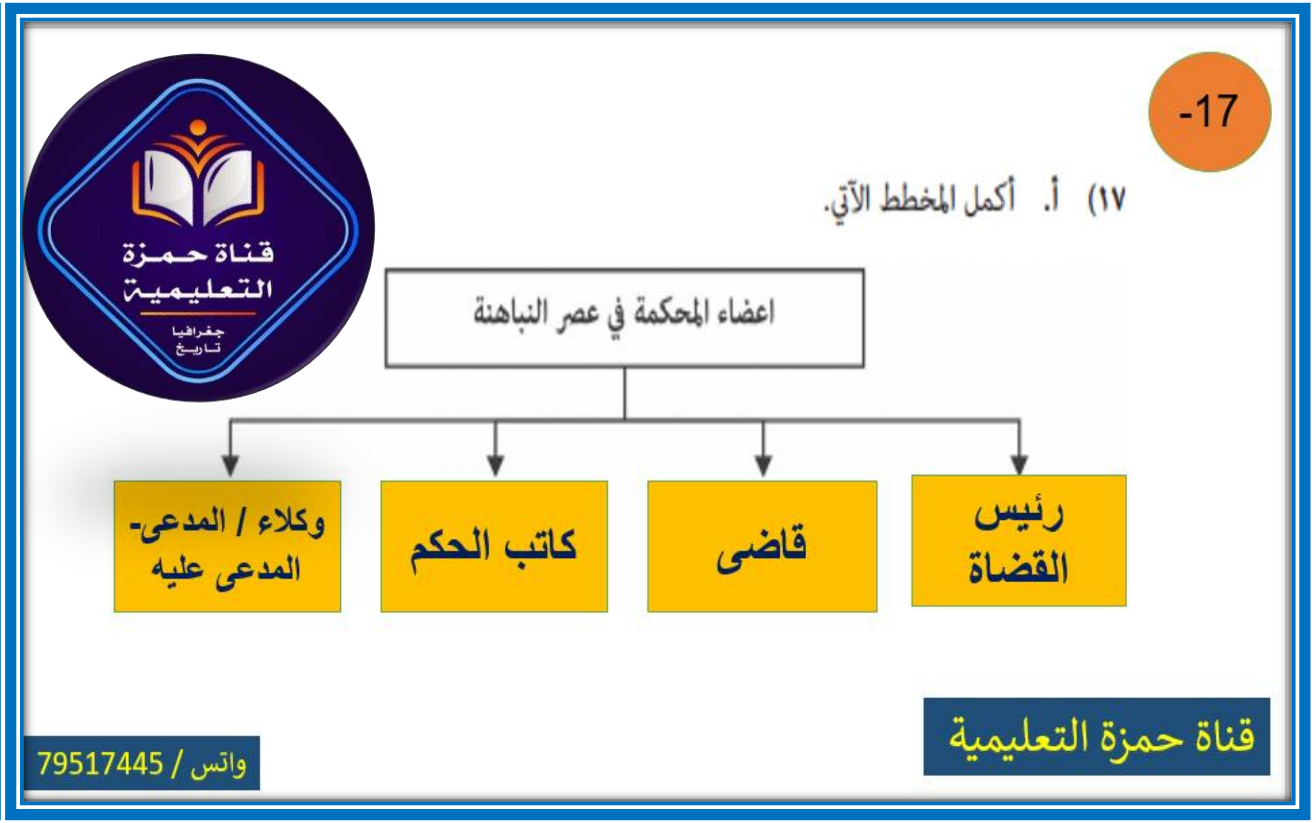

امتحان وزاري 2022-2023



ص 20 بالكتاب المدرسي

امثلة على أهمية (أضف الى معلوماتك – شخصيات بالكتاب المدرسي)



س88- الوحدة الوطنية مسؤولية الجميع . ...فى ضوء ذلك ناقش دور الفرد والمجتمع فى المحافظة على الوحدة الوطنية .

ج 88 : -
- نشر المحبة والألفة بين أبناء الوطن
- نبذ العنف والشقاق والخلاف
- نشر لغة المحبة والتسامح والترابط والتكاتف
- احترام الرأي الآخر وعدم التقليل منه

قناة حمزة التعليمية واتس / 79517445

ص 24 بالكتاب المدرسي





امتحان قناة حمزة التجريبي

س90 :- الوحدة الوطنية مسؤولية الجميع . ...فى ضوء ذلك ناقش إثر الوحدة الوطنية على الفرد والمجتمع

ج90 :-
أينما تحلّ الوحدة الوطنيّة تختفي
كافّة الشرور، والخلافات، والأحقاد، والعنف، والعنصرية، وتسود
أجواء المحبة، والتسامح، والتكاتف، والتآخي، والتعايش. ويتقدم وتطور المجتمع .

قناة حمزة التعليمية واتس / 79517445


عُمان
في عصر اليعاربة

امثلة على أهمية (أضف الى معلوماتك بالكتاب المدرسي)

107

قناة حمزة التعليمية

واتس / 79517445

ب. ادرس النص الآتي، ثم أجب عن الأسئلة التي تليه.

(تولى الإمام ناصر بن مرشد اليعربي إمامة عُمان بعد عصر النباهنة عام ١٦٢٤م ليأسس دولة تعد نقطة تحول في تاريخ عُمان، وواجه الإمام في بداية حكمه تحديات داخلية وأطماع إقليمية ودولية تمثلت في احتلال الفرس والبرتغاليين لأجزاء من عُمان، وقد بدأ توحيد البلاد مستخدمًا المفاوضات والتواصل مع المدن، بالإضافة إلى الحملات العسكرية ابتدءًا من مسقط رأسه الرستاق، وبعد تحقيق الوحدة الوطنية واجه العدو الخارجي، ليتوفى عام ١٦٤٩م قبل طرد البرتغاليين نهائيًا من عُمان).

(١) استنتج من النص ما يلي:

أ- اسم الدولة التي أسسها الإمام ناصر بن مرشد. دولة اليعاربة

ب- القوة الإقليمية التي كانت تحتل أجزاء من السواحل الشمالية لعُمان. الفرس

ج- عدد سنوات فترة حكم الإمام ناصر بن مرشد لعُمان. 25 عام





امتحان وزاري 2022-2023

ص 26 بالكتاب المدرسي

امثلة على أهمية (الحملات العسكرية للأمام ناصر بن مرشد)

س6 :- أدرك الإمام ناصر بن مرشد اليعربي أهمية الوحدة الوطنية في توحيد البلاد .....في ضوء العبارة السابقة ما الأساليب التي استخدمها الامام في سبيل تحقيق ذلك

ج 6 :-

1- استخدم الإمام ناصر بن مرشد اليعربي أساليب المفاوضات والتواصل مع المدن الأخرى

2- الحملات العسكرية التي بدأت من الرستاق وما حولها ثم اتجهت الى داخلية عُمان ومنها الى الشرقية ثم الظاهرة ثم توام (البريمي وما حولها) ثم الباطنة وتتابعت الحملات حتى استطاع تحقيق الوحدة في البلاد .

٧) الشكل الذي يوضح التسلسل الصحيح لمواقع سير الحملات العسكرية التي قام بها الإمام ناصر بن مرشد لتوحيد عُمان كما في الخريطة المقابلة:



- أ ل ع س ن و
- أ ن ع ل س و
- أ ع ن س ل و
- أ ن ع س ل و



امتحان وزاري 2025-2026

ص 26 بالكتاب المدرسي

امثلة على أهمية (الحملات العسكرية للأمام ناصر بن مرشد)

مستعينًا بالخريطة الآتية أجب عن المفردتين (٩-١٠):

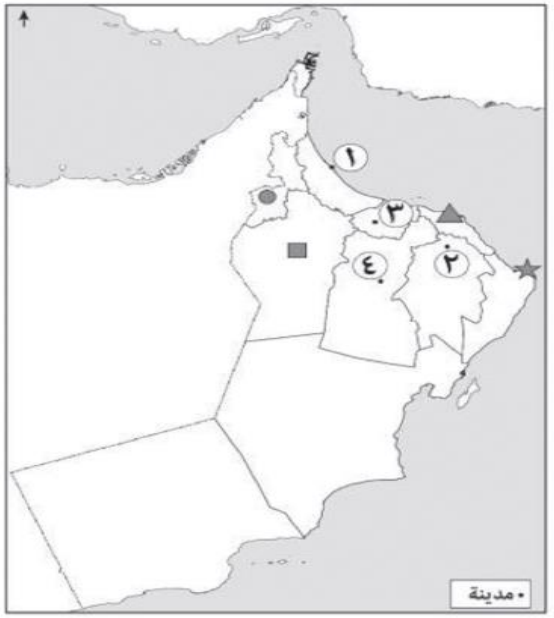

٩) الرقم الذي يشير إلى المدينة التي بدأت منها الحملات العسكرية للإمام ناصر بن مرشد اليعربي لتوحيد البلاد:

١ ▢ ٢ ▢

٣ ▢ ٤ ▢

س6 :- أدرك الإمام ناصر بن مرشد اليعربي أهمية الوحدة الوطنية في توحيد البلاد .....في ضوء العبارة السابقة ما الأساليب التي استخدمها الامام في سبيل تحقيق ذلك

ج 6 :-

1- استخدم الإمام ناصر بن مرشد اليعربي أساليب المفاوضات والتواصل مع المدن الأخرى

2- الحملات العسكرية التي بدأت من الرستاق وما حولها ثم اتجهت الى داخلية عُمان ومنها الى الشرقية ثم الظاهرة ثم توام (البريمي وما حولها) ثم الباطنة وتتابعت الحملات حتى استطاع تحقيق الوحدة في البلاد .

قناة حمزة التعليمية
جغرافيا تاريخ

امتحان وزاري 2025-2026

ص 26 بالكتاب المدرسي

امثلة على أهمية (الحملات العسكرية للأمام ناصر بن مرشد)

الشّكل الصحيح الذي يوضّح خط سير الحملات العسكرية للإمام ناصر بن مرشد في بداية حكمه:

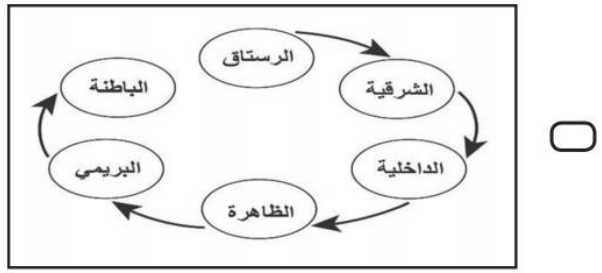

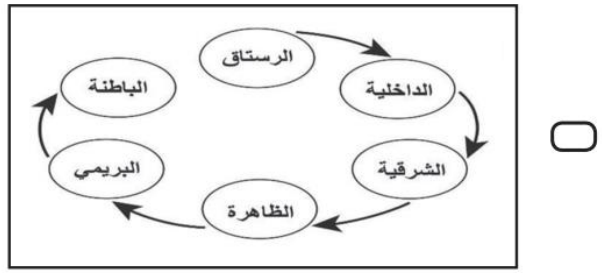

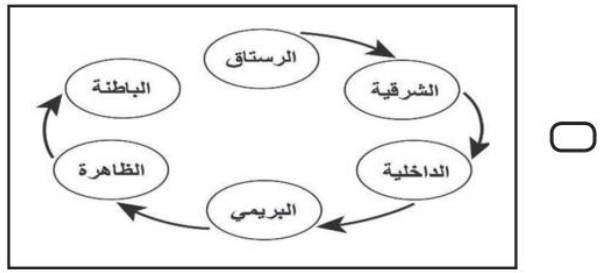

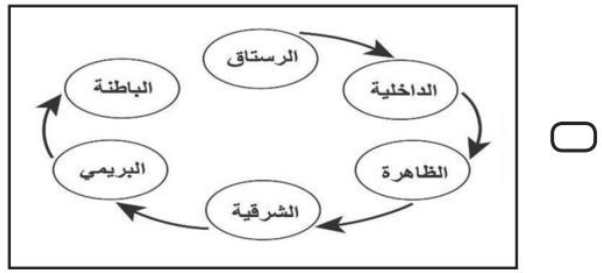

س6 :- أدرك الإمام ناصر بن مرشد اليعربي أهمية الوحدة الوطنية في توحيد البلاد .....في ضوء العبارة السابقة ما الأساليب التي استخدمها الامام في سبيل تحقيق ذلك

ج 6 :-

1- استخدم الإمام ناصر بن مرشد اليعربي أساليب المفاوضات والتواصل مع المدن الأخرى

2- الحملات العسكرية التي بدأت من الرستاق وما حولها ثم اتجهت الى داخلية عُمان ومنها الى الشرقية ثم الظاهرة ثم توام (البريمي وما حولها) ثم الباطنة وتتابعت الحملات حتى استطاع تحقيق الوحدة في البلاد .

قناة حمزة التعليمية
جغرافيا تاريخ

امتحان وزاري 2024-2023

ص 26 بالكتاب المدرسي

امثلة على أهمية (الحملات العسكرية للأمام ناصر بن مرشد)

ب. الشكل الآتي يوضح أحد الأساليب التي اتبعها اليعاربة في بداية حكمهم لعُمان من أجل تحقيق هدف سياسي، ادرسه ثم أجب عن الأسئلة التي تليه:

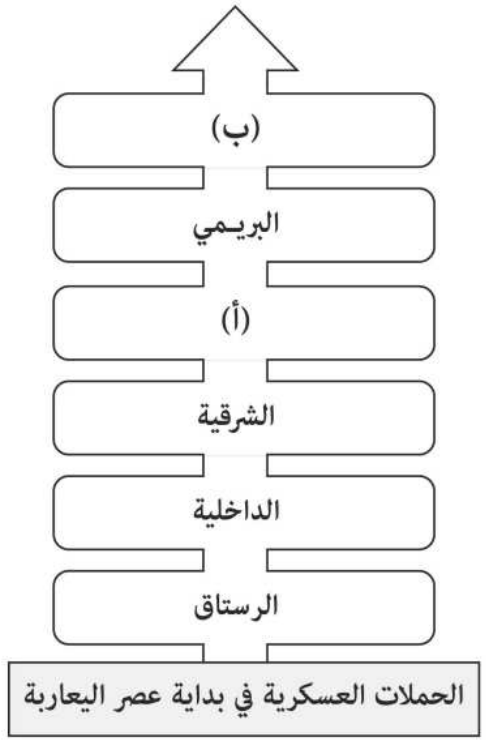

س6 :- أدرك الإمام ناصر بن مرشد اليعربي أهمية الوحدة الوطنية في توحيد البلاد .....في ضوء العبارة السابقة ما الأساليب التي استخدمها الامام في سبيل تحقيق ذلك

ج 6 :-

1- استخدم الإمام ناصر بن مرشد اليعربي أساليب المفاوضات والتواصل مع المدن الأخرى

2- الحملات العسكرية التي بدأت من الرستاق وما حولها ثم اتجهت الى داخلية عُمان ومنها الى الشرقية ثم الظاهرة ثم توام (البريمي وما حولها) ثم الباطنة وتتابعت الحملات حتى استطاع تحقيق الوحدة في البلاد .



امتحان وزاري 2024-2025

ص 26 بالكتاب المدرسي

امثلة على أهمية (شخصية تاريخية عمانية)

شخصيـة تاريخية عُمانية

الإمام ناصر بن مرشد اليعربي:

وُلد في حارة قَصْرى بالرستاق، وهو حفيد السلطان مالك بن أبي العرب اليعربي الذي كان حاكمًا على الرستاق، نشأ يتيمًا، وتتلمذ على يد العلّامة الشيخ خميس بن سعيد الشقصي، حتى أصبح عالمًا وفقيهًا، واتصف الإمام بالورع والزهد، وتوفي عام ١٦٤٩م.

- 98

٥) الرقم الذي يشير إلى الفترة الزمنية الصحيحة لحكم الإمام ناصر بن مرشد اليعربي لعُمان في المسطرة الزمنية الآتية:

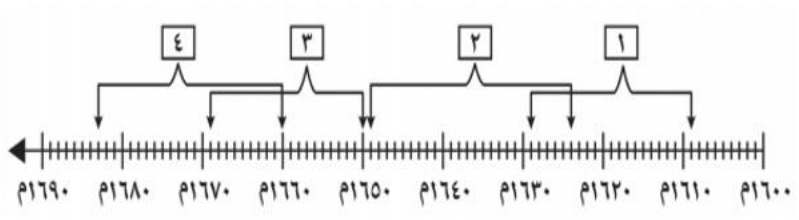

١ ▢
٢ ▢
٣ ▢
٤ ▢

قناة حمزة التعليمية

واتس / 79517445

قناة حمزة التعليمية
جغرافيا تاريخ

امتحان وزاري 2022-2023

ص 25 بالكتاب المدرسي

امثلة على أهمية (أضف الى معلوماتك بالكتاب المدرسي)

"تلبية لنداء الاستغاثة، أرسل الإمام اليعربي عام ١٦٩٨م حملة إلى إحدى مدن ساحل شرق أفريقيا، حيث أستطاع تحريرها من البرتغاليين، وقد حكمتها أسرة عُمانية حتى نهاية الدولة اليعربية".

- الجدول الصحيح الذي يوضح بعضًا من خصائص هذه الحملة:

الإمام الذي أرسل الحملة	سيف بن سلطان الأول
المدينة المحررة	زنجبار
اسم الأسرة التي حكمت المدينة	المزاريع

الإمام الذي أرسل الحملة	سيف بن سلطان الأول
المدينة المحررة	ممباسا
اسم الأسرة التي حكمت المدينة	المزاريع

الإمام الذي أرسل الحملة	بلعرب بن سلطان
المدينة المحررة	زنجبار
اسم الأسرة التي حكمت المدينة	النباهنة

الإمام الذي أرسل الحملة	بلعرب بن سلطان
المدينة المحررة	ممباسا
اسم الأسرة التي حكمت المدينة	النباهنة

أضف إلى معلوماتك

تلبيةً لنداء استغاثة؛ أرسل الإمام سيف بن سلطان الأول حملة إلى ممباسا عام ١٦٩٨م استطاعت تحريرها من البرتغاليين، وقد أقام فيها حامية عُمانية وجعل ناصر بن عبداللّه المزروعي واليًا عليها، واستمرت أسرة المزاريع تحكم ممباسا حتى نهاية دولة اليعاربة.

قناة حمزة التعليمية
جغرافيا تاريخ

امتحان وزاري 2025- 2026م

ص 28 بالكتاب المدرسي

امثلة على أهمية (أضف الى معلوماتك بالكتاب المدرسي)

٤) الوالي العُماني الذي عيّنه الإمام سيف بن سلطان الأول واليًا على ممباسا عام ١٦٩٨م:

- 97

- ☐ علي بن أحمد النزوي.
- ☐ عبدالله بن محمد العنبوري.
- ☐ ناصر بن عبدالله المزروعي.
- ☐ عبدالله بن محمد الكندي.

قناة حمزة التعليمية

واتس / 79517445

أضف إلى معلوماتك

تلبيةً لنداء استغاثة؛ أرسل الإمام سيف بن سلطان الأول حملة إلى ممباسا عام ١٦٩٨م استطاعت تحريرها من البرتغاليين، وقد أقام فيها حامية عُمانية وجعل ناصر بن عبداللّه المزروعي واليًا عليها، واستمرت أسرة المزاريع تحكم ممباسا حتى نهاية دولة اليعاربة.



امتحان وزاري 2021م

ص 28 بالكتاب المدرسي

Fileae.com/om
2026 2025
موقع فايلاتي العمانية

امثلة على أهمية (أضف الى معلوماتك بالكتاب المدرسي)





قناة حمزة التعليمية
جغرافيا تاريخ

امتحان وزاري 2021م

ص 28 بالكتاب المدرسي

امثلة على أهمية (أضف الى معلوماتك – شخصيات بالكتاب المدرسي)

العالِم العُماني الذي تولى منصب الوالي الأكبر بنزوى في عهد الإمام ناصر بن مرشد:

1 خميس بن سعيد الشقصي.

2 عبدالله بن محمد بن غسان.

3 سليمان بن إبراهيم بن محمد.

4 ناصر بن عبدالله المزروعي.

99

قناة حمزة التعليمية

واتس / 79517445



شخصية تاريخية عُمانية

الشيخ عبد الله بن محمد بن غسان:

كان عالمًا وقائدًا عسكريًّا في عهد الإمام ناصر بن مرشد اليعربي، كما تولى منصب الوالي الأكبر في نزوى، له كتاب في الفقه بعنوان «خزانة الأخيار في بيوعات الخيار».

قناة حمزة التعليمية
جغرافيا تاريخ



امتحان وزاري 2021م

ص 30 بالكتاب المدرسي

امثلة على أهمية (أضف الى معلوماتك – شخصيات بالكتاب المدرسي)



المجال الذي أُلّف فيه كتاب (خزانة الأخيار في بيوعات الخيار):

113

- ☐ الفلك.
- ☐ التاريخ.
- ☐ الفقه.
- ☐ الأدب.

قناة حمزة التعليمية

واتس / 79517445

قناة حمزة التعليمية
جغرافيا تاريخ

امتحان وزاري 2022م

ص 30 بالكتاب المدرسي

امثلة على أهمية (أضف الى معلوماتك – شخصيات بالكتاب المدرسي)

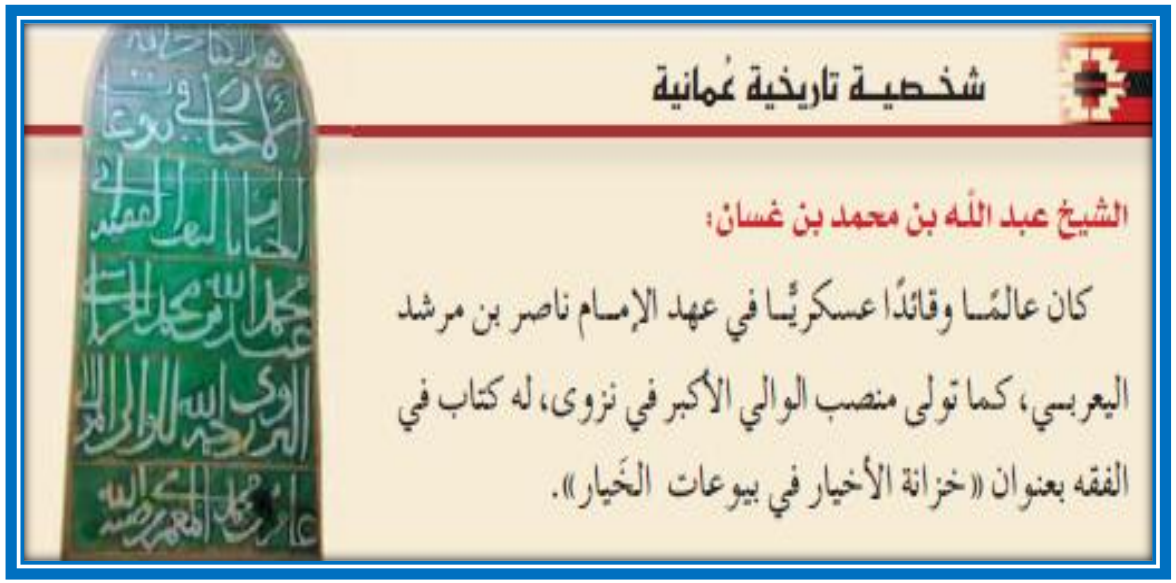

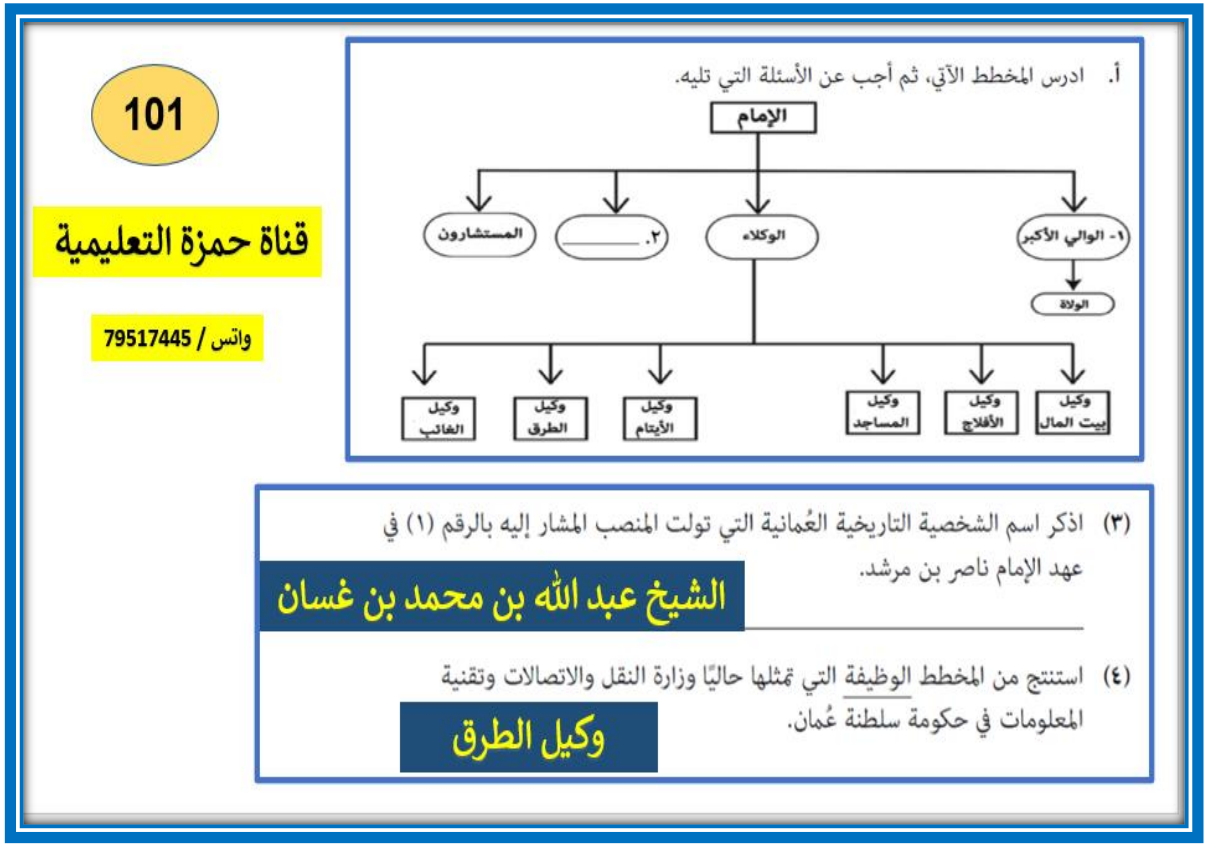

قناة حمزة التعليمية
جغرافيا تاريخ



امتحان وزاري 2022-2023م

ص 30 بالكتاب المدرسي

امثلة على أهمية (أضف الى معلوماتك – شخصيات بالكتاب المدرسي)









امتحان وزاري 2022-2023م

ص 32 بالكتاب المدرسي

امثلة على أهمية (أضف الى معلوماتك – شخصيات بالكتاب المدرسي)

111 ادرس صورة المعلم الاتي . ثم اجب عن الأسئلة التي تليه .



ما نوع العمارة العمانية التي ينتمي لها هذا المعلم

الحربية – العسكرية – الدفاعية

قناة حمزة التعليمية

واتس / 79517445

اذكر الحدث التاريخي الذي جعل العمانيين يعيدون بناءه .

أرسل الامام سلطان بن سيف الثاني جيشا لتحرير البحرين من الفرس

أضف إلى معلوماتك



أعاد العُمانيون بناء قلعة عَراد في البحرين في عهد الإمام سلطان بن سيف الثاني عندما أرسل جيشًا لتحرير البحرين من الفرس عام ١٧١٤م، وعُرفت القلعة منذ ذلك الحين وحتى القرن التاسع عشر الميلادي باسم قلعة «سلطان بن سيف».

قناة حمزة التعليمية

جغرافيا تاريخ



امتحان وزاري 2022-2023م

ص 32 بالكتاب المدرسي

امثلة على أهمية (أضف الى معلوماتك بالكتاب المدرسي)

-91

الدولة التي أسست شركة الهند الشرقية عام١٦٠٠م:

1 بريطانيا.
2 فرنسا.
3 هولندا.
4 البرتغال.

34

قناة حمزة التعليمية

واتس / 79517445

أضف إلى معلوماتك

شركة الهند الشرقية:

تأسست بمرسوم ملكي بريطاني عام ١٦٠٠م، وأُعطيت الشركة سلطات احتكارية على تجارة الهند وجميع مستعمرات بريطانيا في جنوب شرق آسيا والصين واليابان فاكتسبت دعمًا سياسيًّا وعسكريًّا، وانتهت الشركة عام ١٨٥٨م بسبب اندلاع الثورة التي عُرفت بحرب الاستقلال الأولى في الهند.

قناة حمزة التعليمية
جغرافيا تاريخ

امتحان وزاري

ص 34 بالكتاب المدرسي

Fileae.com/om
2026 2025
موقع فايلاتي العمانية

امثلة على أهمية (أضف الى معلوماتك بالكتاب المدرسي)



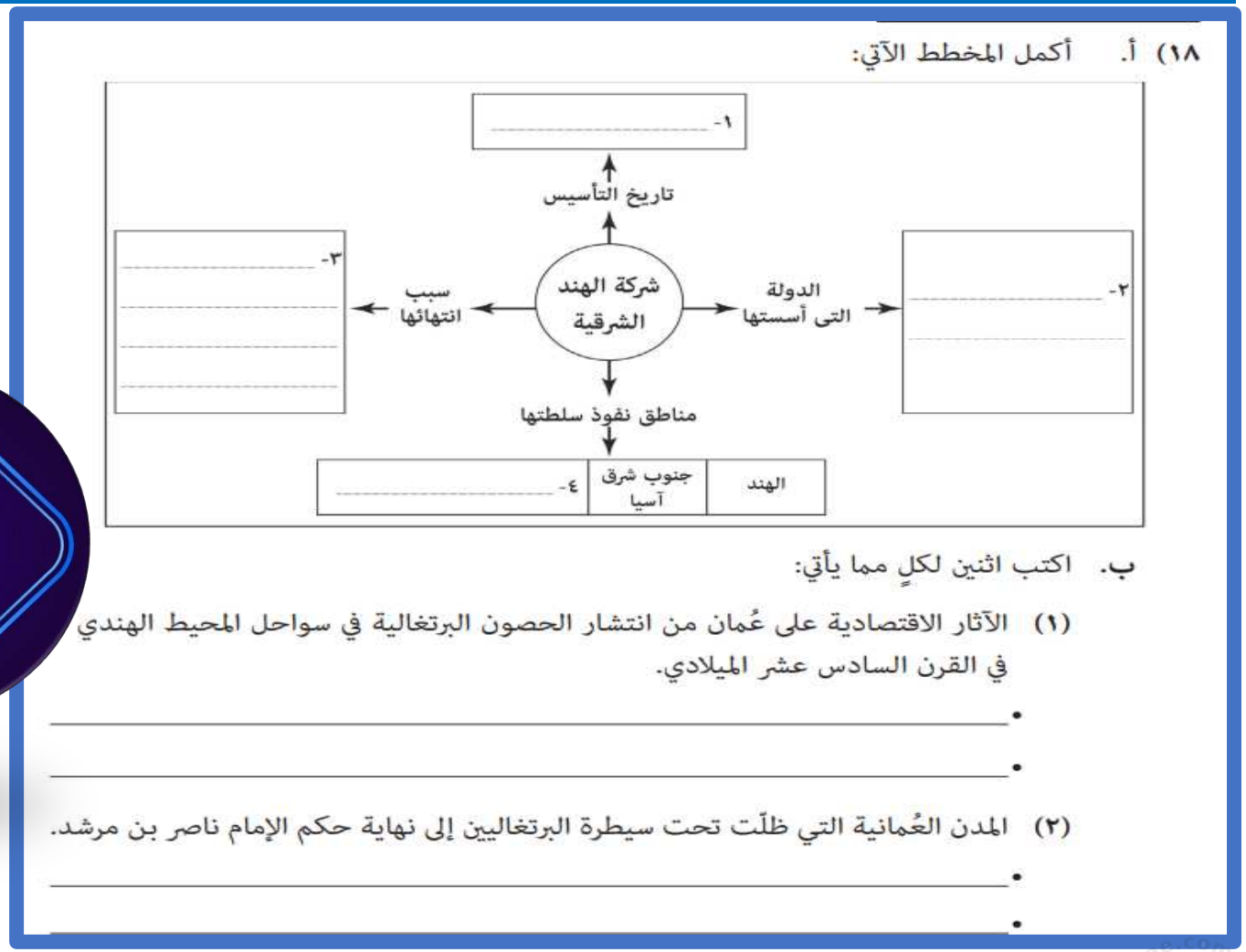

قناة حمزة التعليمية
جغرافيا تاريخ

ص 34 بالكتاب المدرسي

امتحان وزاري

امثلة على أهمية (فكر وناقش)

102

ب. (ضعف الوحدة الوطنية يؤدي إلى التفكك والانقسام)، برهن على صحة هذه العبارة قبيل نهاية دولة اليعاربة.

_____

_____

قناة حمزة التعليمية

واتس / 79517445

نتيجة التنافس بين افراد البيت اليعربى على الحكم ومساندة رؤساء القبائل في ذلك , أدى الى دخول البلاد في حرب طاحنة أطمعت الفرس في السيطرة عليها مما أدى الى نهاية دولة اليعاربة

فكر وناقش

الوحدة الوطنية تقود إلى القوة والاستقلال، وضعفها يؤدّي إلى التفكك والانقسام.

قناة حمزة التعليمية
جغرافيا تاريخ



امتحان وزاري 2022-2023م

ص 32 بالكتاب المدرسي

امثلة على أهمية (التنظيم الإداري لدولة اليعاربة)

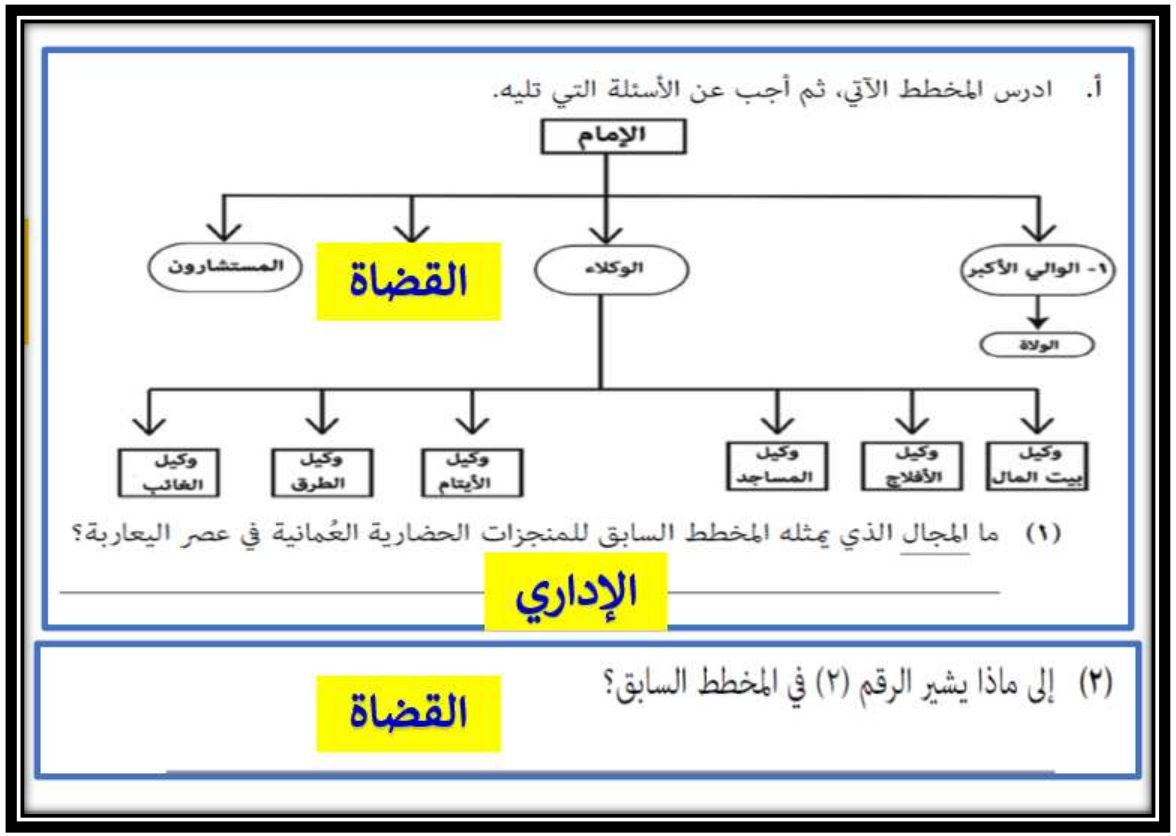

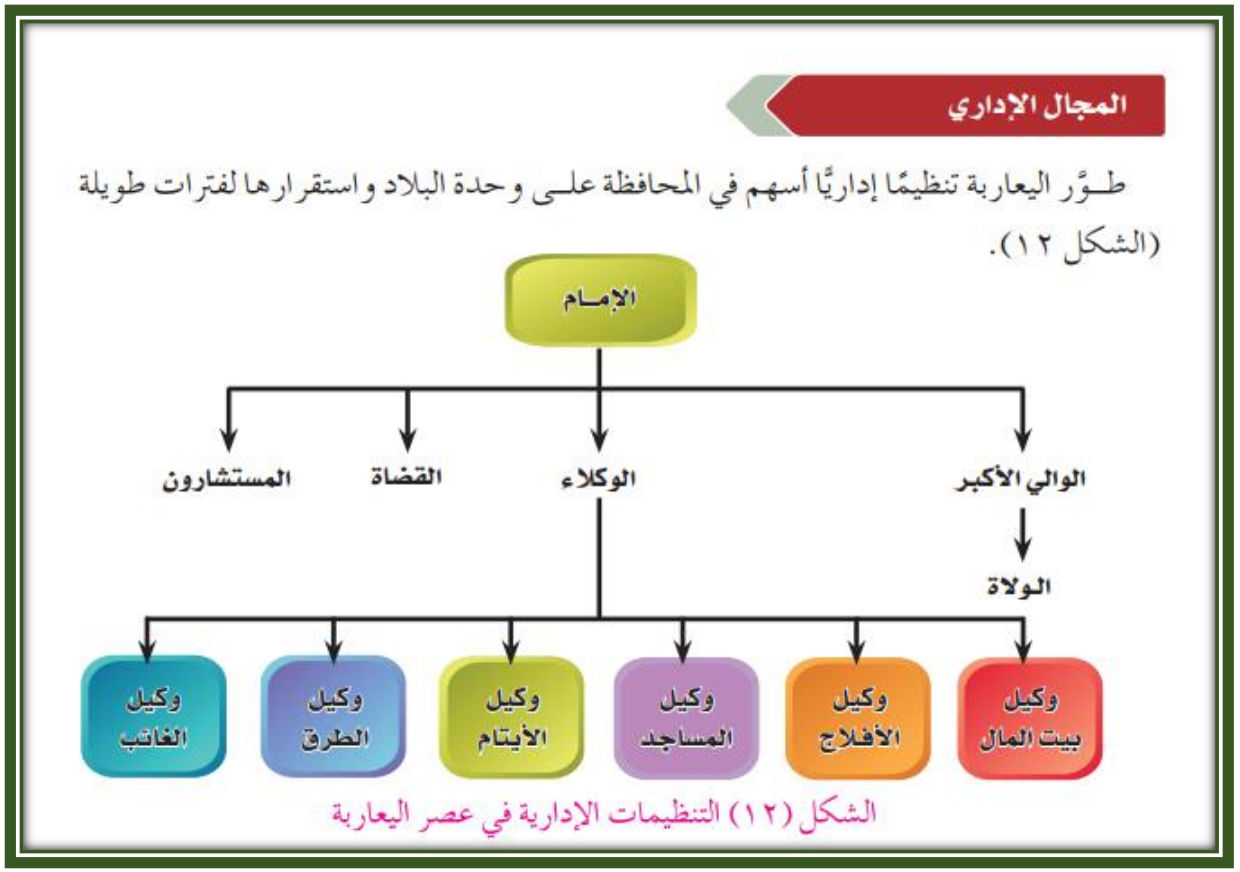

امتحان وزاري

ص 29 بالكتاب المدرسي

امثلة على أهمية (التنظيم الإداري لدولة اليعاربة)

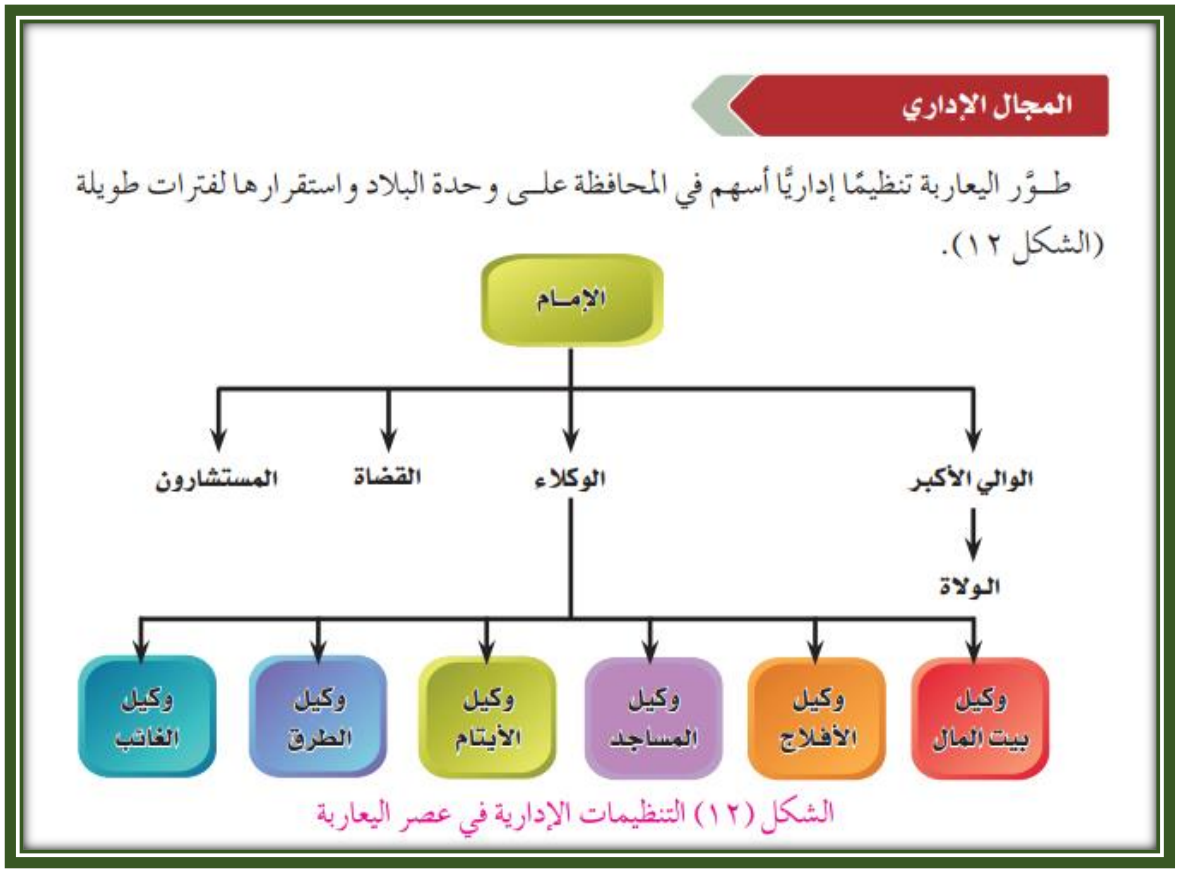

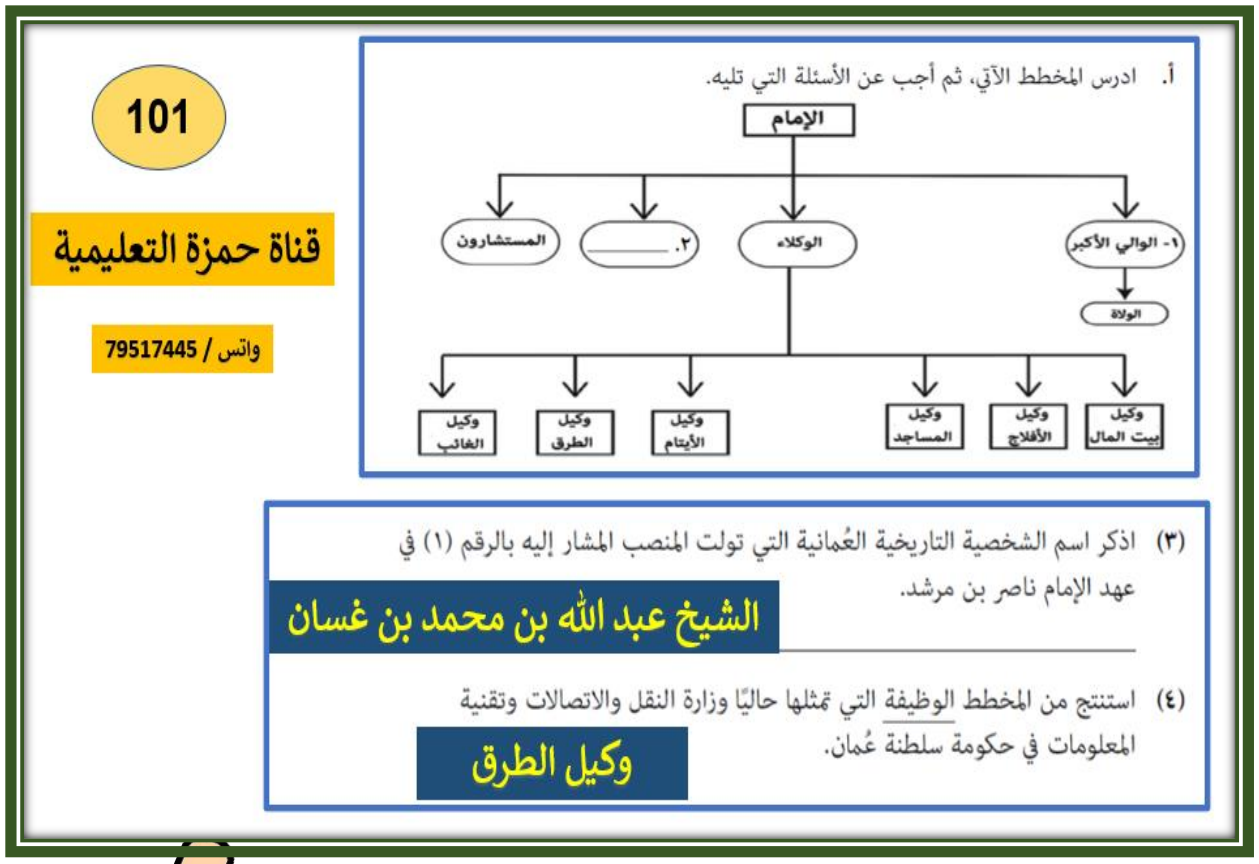



امتحان وزاري

ص 29 بالكتاب المدرسي

امثلة على أهمية (التنظيم الإداري لدولة اليعاربة)

المجال الإداري

طـوَّر اليعاربة تنظيمًا إداريًا أسهم في المحافظة علـى وحدة البلاد واستقرارها لفترات طويلة (الشكل ١٢).

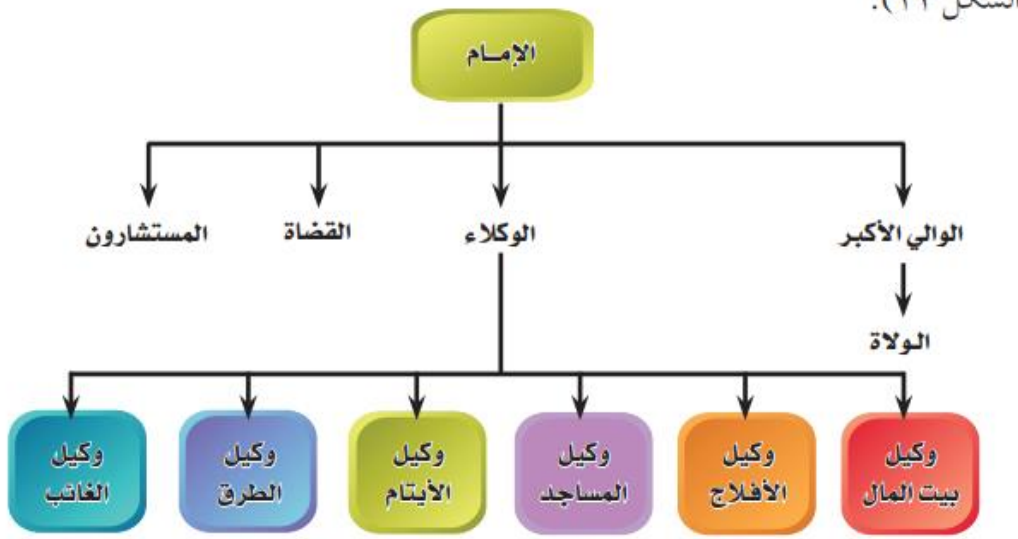

الشكل (١٢) التنظيمات الإدارية في عصر اليعاربة

ص 29 بالكتاب المدرسي



١٧) أ. أكمل بيانات المخطط الذي يوضح تطور النظام الإداري في عُمان في عصر اليعاربة:

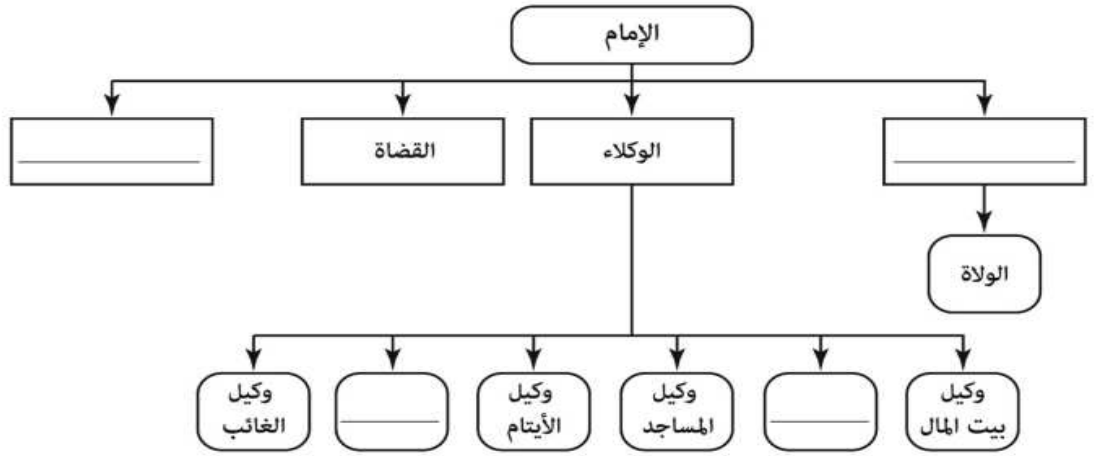

ب. اذكر اثنين لكل من:

(١) أسباب أدت إلى نهاية دولة اليعاربة.

- _____
- _____

(٢) مكونات السلطة التشريعية في التنظيم الإداري في عهد الإمام أحمد بن سعيد البوسعيدي.

-

امتحان وزاري 2025-2026

Fileae.com/om موقع فيلتي العمانية

امثلة على أهمية (التنظيم الإداري لدولة اليعاربة)

أ. ادرس الشكل الذي أمامك ثم أجب عن الأسئلة التي تليه:

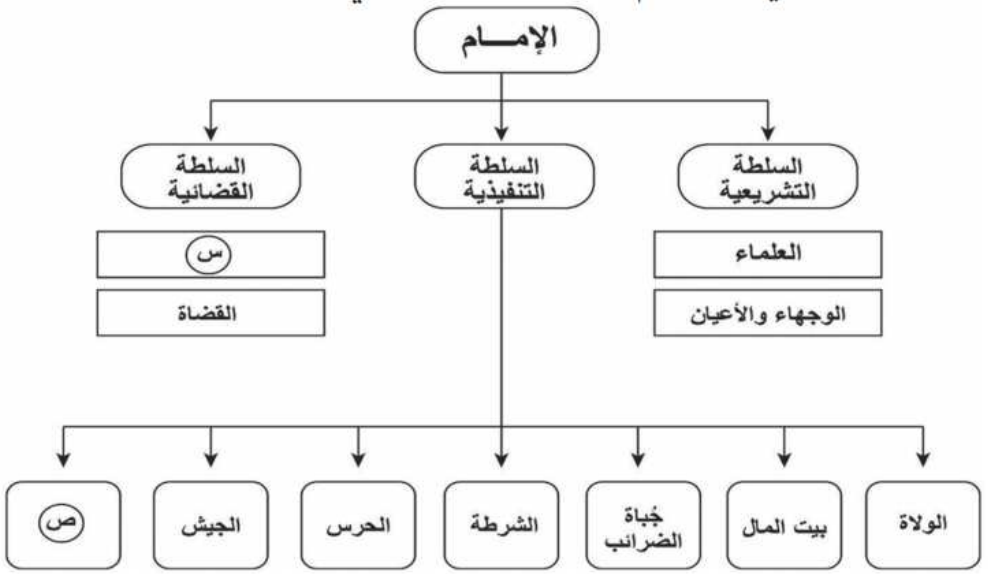

(١) اكتب ما يشير إليه الرمز (س). _____

(٢) استخرج من الشكل رئيس السلطة القضائية. _____

(٣) اكتب اثنين من إنجازات السلطة التنفيذية المشار إليها بالرمز (ص) في عهد الإمام أحمد بن سعيد البوسعيدي.

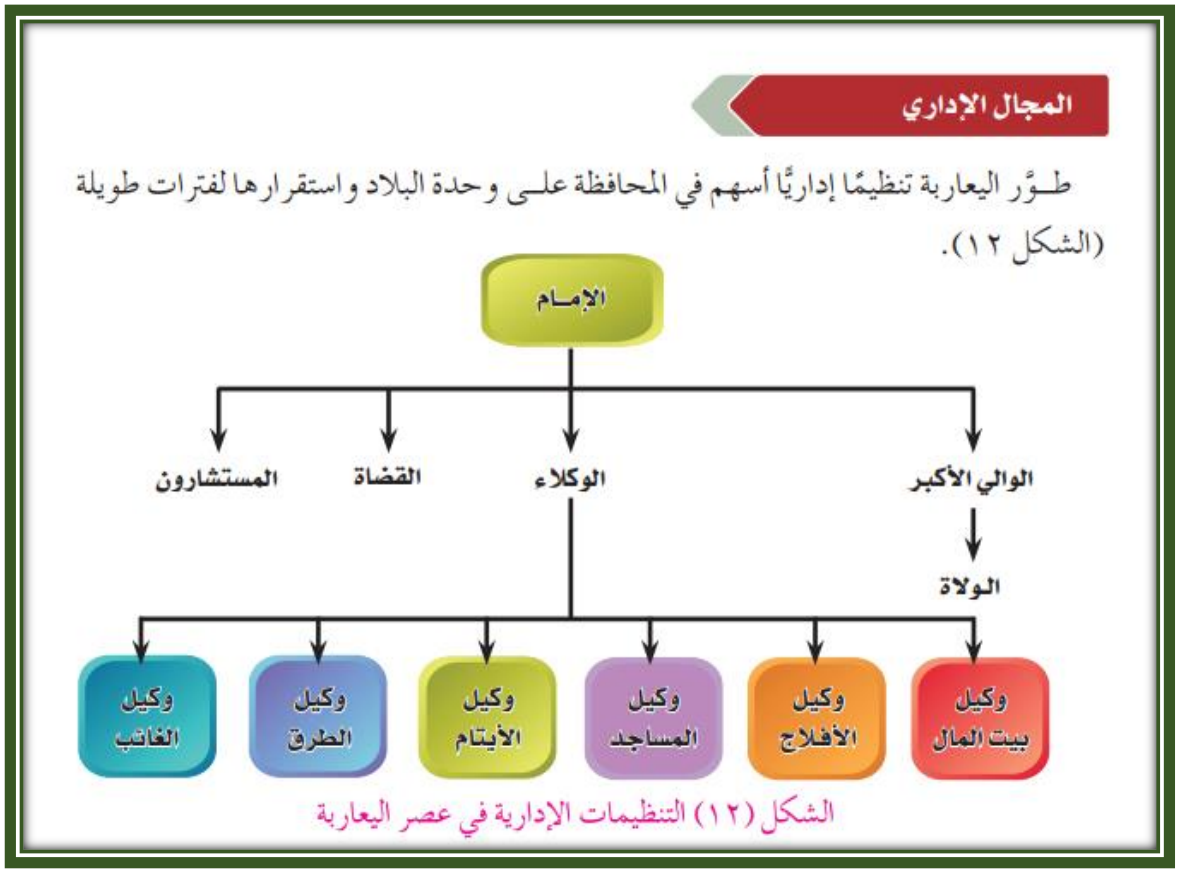

ص 29 بالكتاب المدرسي



امتحان وزاري 2024-2023

Fileae.com/om
موقع فيلقي التعليمي


عُمان
في عصر البوسعيد

امثلة على أهمية (أضف الى معلوماتك – شخصيات بالكتاب المدرسي)



شخصية تاريخية عُمانية

الإمام أحمد بن سعيد البوسعيدي:

ولد في ولاية أدم بمحافظة الداخلية، عمل في بداية حياته بالتجارة، كان رجلاً شجاعًا عالي الهمة تميز بِالْحِنْكَةِ والذكاء، وتوفي في مدينة الرستاق ودفن فيها عام ١٧٨٣م.

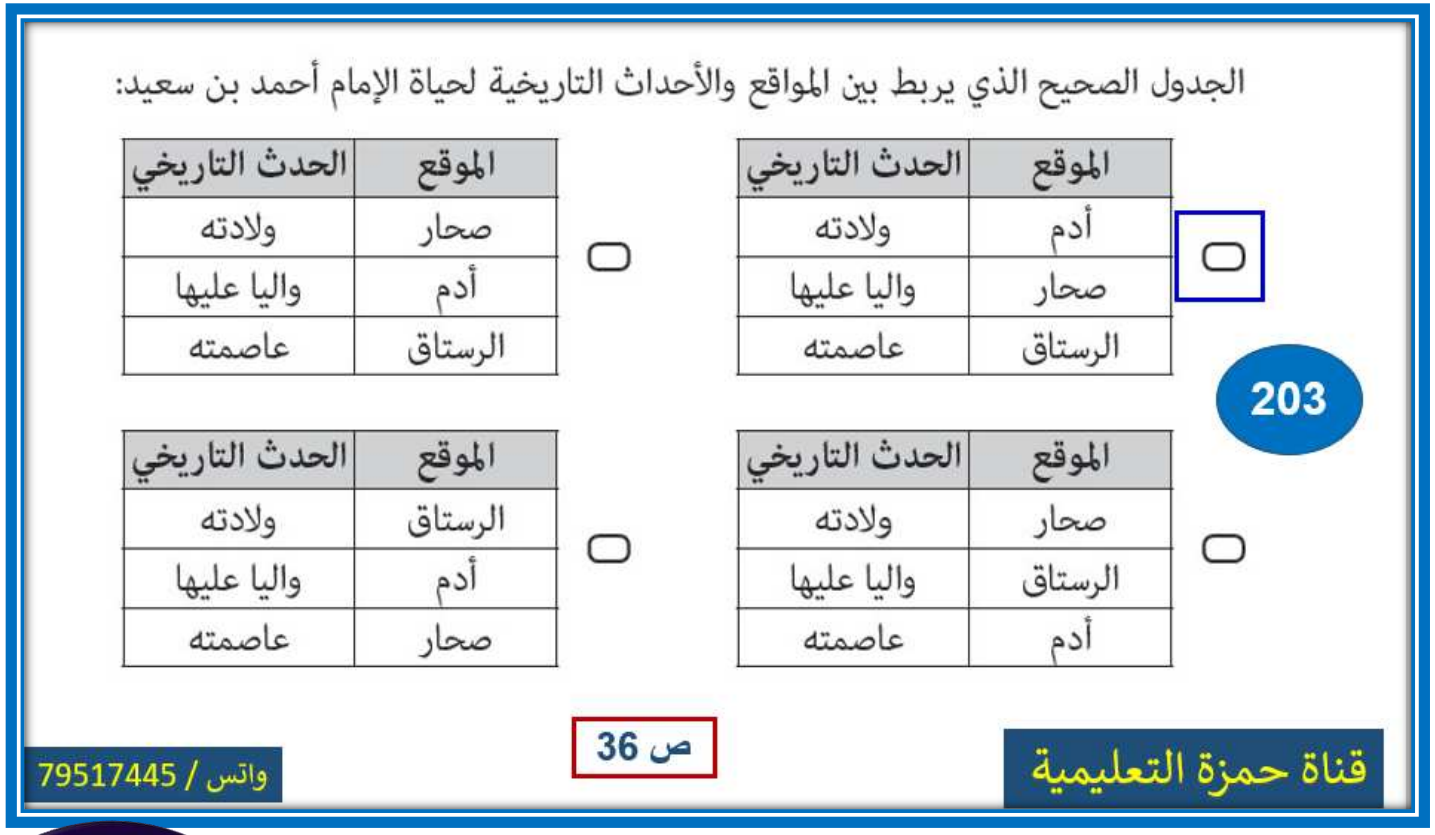

الجدول الصحيح الذي يربط بين المواقع والأحداث التاريخية لحياة الإمام أحمد بن سعيد:

الموقع	الحدث التاريخي
أدم	ولادته
صحار	واليا عليها
الرستاق	عاصمته

الموقع	الحدث التاريخي
صحار	ولادته
أدم	واليا عليها
الرستاق	عاصمته

الموقع	الحدث التاريخي
صحار	ولادته
الرستاق	واليا عليها
أدم	عاصمته

الموقع	الحدث التاريخي
الرستاق	ولادته
أدم	واليا عليها
صحار	عاصمته

203

ص 36

قناة حمزة التعليمية

واتس / 79517445





امتحان وزاري

ص 36 بالكتاب المدرسي

Fileae.com/om
2026 2025
موقع فايلاتي العمانية

امثلة على أهمية (أضف الى معلوماتك – شخصيات بالكتاب المدرسي)

الولاية العُمانية التي ولد فيها الإمام أحمد بن سعيد البوسعيدي:

207

1 أدم.

2 الرستاق.

3 صحار.

4 مسقط.

قناة حمزة التعليمية

واتس / 79517445

شخصية تاريخية عُمانية

الإمام أحمد بن سعيد البوسعيدي:

ولد في ولاية أدم بمحافظة الداخلية، عمل في بداية حياته بالتجارة، كان رجلاً شجاعًا عالي الهمة تميز بِالْحِنْكَةِ والذكاء، وتوفي في مدينة الرستاق ودفن فيها عام ١٧٨٣م.

امتحان وزاري سابق



ص 36 بالكتاب المدرسي

امثلة على أهمية (أضف الى معلوماتك – شخصيات بالكتاب المدرسي)

الدولة التي زارها السلطان سعيد بن تيمور كأول حاكم عربي:

- ☐ الولايات المتحدة الأمريكية.
- ☐ المملكة المتحدة.
- ☐ فرنسا.
- ☐ إيطاليا.

قناة حمزة التعليمية

واتس / 79517445

شخصية تاريخية عُمانية



السلطان سعيد بن تيمور:

والد المغفور له بإذن اللّه تعالى السلطان قابوس بن سعيد– طيَّب اللّه ثراه–، تولّى الحكم عام ١٩٣٢م، اهتم بالعلاقات الخارجية حيث عقد العديد من الاتفاقيات، أهمها اتفاقيات صداقة وعلاقات اقتصادية مع الولايات المتحدة الأمريكية والهند، كما قام بزيارة العديد من دول العالم، مثل: الولايات المتحدة الأمريكية، وبريطانيا، واليابان، وفلسطين، ومصر. ويعدُّ أول حاكم عربي يزور الولايات المتحدة الأمريكية.



امتحان وزاري

ص 37 بالكتاب المدرسي

Fileae.com/om 2026 2025 موقع فايلاتي العمانية

امثلة على أهمية (أضف الى معلوماتك – شخصيات بالكتاب المدرسي)

من خلال دراستك لموضوع (عُمان في عصر البوسعيد)، أجب عما يأتي:

(١) سمّ السلطان العُماني الذي يعد أول حاكم عربي يزور الولايات المتحدة الأمريكية.

سعيد بن تيمور

(٢) اذكر:

أ- العام الميلادي الذي تولى فيه السلطان هيثم بن طارق المعظم مقاليد الحكم في سلطنة عُمان.

2020م

ب- اسم الوزارة التي تقلدها السلطان هيثم بن طارق المعظم عام ٢٠٠٢م في حكومة سلطنة عُمان.

وزارة التراث والثقافة / وزارة التراث والسياحة

(٣) ما دلالة الانتقال السريع والسلس للحكم بعد وفاة السلطان قابوس بن سعيد – طيب الله ثراه – في سلطنة عُمان؟

تدل على الاستقرار السياسي والداخلي / عراقة عمان / تماسك شعبها / حكمة حكامها

قناة حمزة التعليمية
واتس / 79517445

شخصية تاريخية عُمانية



السلطان سعيد بن تيمور:

والد المغفور له بإذن الله تعالى السلطان قابوس بن سعيد– طيّب الله ثراه–، تولّى الحكم عام ١٩٣٢م، اهتم بالعلاقات الخارجية حيث عقد العديد من الاتفاقيات، أهمها اتفاقيات صداقة وعلاقات اقتصادية مع الولايات المتحدة الأمريكية والهند، كما قام بزيارة العديد من دول العالم، مثل: الولايات المتحدة الأمريكية، وبريطانيا، واليابان، وفلسطين، ومصر. ويعدُّ أول حاكم عربي يزور الولايات المتحدة الأمريكية.



امتحان وزاري

ص 37 بالكتاب المدرسي

Fileae.com/om
موقع فيلتي العمانية

امثلة على أهمية (شخصيات بالكتاب المدرسي)

أ. اذكر اثنين لكل من:

(١) المناصب التي تولاها السلطان هيثم بن طارق المعظم - حفظه الله ورعاه - قبل توليه مقاليد الحكم.

- وكيل الشؤون السياسية في وزارة الخارجية
- وزير التراث والثقافة
- رئيس اللجنة الرئيسة لرؤية عمان 2040م
- رئيس الاتحاد العماني لكرة القدم

السلطان هيثم بن طارق بن تيمور آل سعيد -حفظه اللّه ورعاه-:

وُلد في مسقط بتاريخ ١١ أكتوبر ١٩٥٤م، وتلقّى تعليمه في المراحل الأولى في المدرسة السعيدية بمسقط، ثم واصل تعليمه العالي في جامعة أكسفورد في برنامج الخدمات الخارجية، وتخرّج عام ١٩٧٩م، ثم أكمل تعليمه بكلية بيمبروك التابعة لذات الجامعة. تولى السلطان هيثم بن طارق -حفظه اللّه ورعاه- مناصب عدة قبل توليه الحكم منها: وكيل الشؤون السياسية في وزارة الخارجية عام ١٩٨٦م، ووزيرًا للتراث والثقافة في الفترة (٢٠٠٢م-٢٠٢٠م)، كما تولى رئاسة اللجنة الرئيسية لرؤية عُمان ٢٠٤٠.

امتحان وزاري

ص 39 بالكتاب المدرسي

امثلة على أهمية (شخصيات بالكتاب المدرسي)

من خلال دراستك لموضوع (عُمان في عصر البوسعيد)، أجب عما يأتي:

(١) سمّ السلطان العُماني الذي يعد أول حاكم عربي يزور الولايات المتحدة الأمريكية.

سعيد بن تيمور

(٢) اذكر:

أ- العام الميلادي الذي تولى فيه السلطان هيثم بن طارق المعظم مقاليد الحكم في سلطنة عُمان.

2020م

ب- اسم الوزارة التي تقلدها السلطان هيثم بن طارق المعظم عام ٢٠٠٢م في حكومة سلطنة عُمان.

وزارة التراث والثقافة / وزارة التراث والسياحة

(٣) ما دلالة الانتقال السريع والسلس للحكم بعد وفاة السلطان قابوس بن سعيد - طيب الله ثراه - في سلطنة عُمان؟

تدل على الاستقرار السياسي والداخلي / عراقة عمان / تماسك شعبها / حكمة حكامها

قناة حمزة التعليمية
واتس / 79517445

السلطان هيثم بن طارق بن تيمور آل سعيد -حفظه اللّه ورعاه-:

وُلد في مسقط بتاريخ ١١ أكتوبر ١٩٥٤م، وتلقّى تعليمه في المراحل الأولى في المدرسة السعيدية بمسقط، ثم واصل تعليمه العالي في جامعة أكسفورد في برنامج الخدمات الخارجية، وتخرَّج عام ١٩٧٩م، ثم أكمل تعليمه بكلية بيمبروك التابعة لذات الجامعة. تولى السلطان هيثم بن طارق -حفظه اللّه ورعاه- مناصب عدة قبل توليه الحكم منها: وكيل الشؤون السياسية في وزارة الخارجية عام ١٩٨٦م، ووزيرًا للتراث والثقافة في الفترة (٢٠٠٢م-٢٠٢٠م)، كما تولى رئاسة اللجنة الرئيسية لرؤية عُمان ٢٠٤٠.



امتحان وزاري

ص 39 بالكتاب المدرسي

Fileae.com/om
2026 2025
موقع فايلاتي العُمانية

امثلة على أهمية (أضف الى معلوماتك بالكتاب المدرسي)

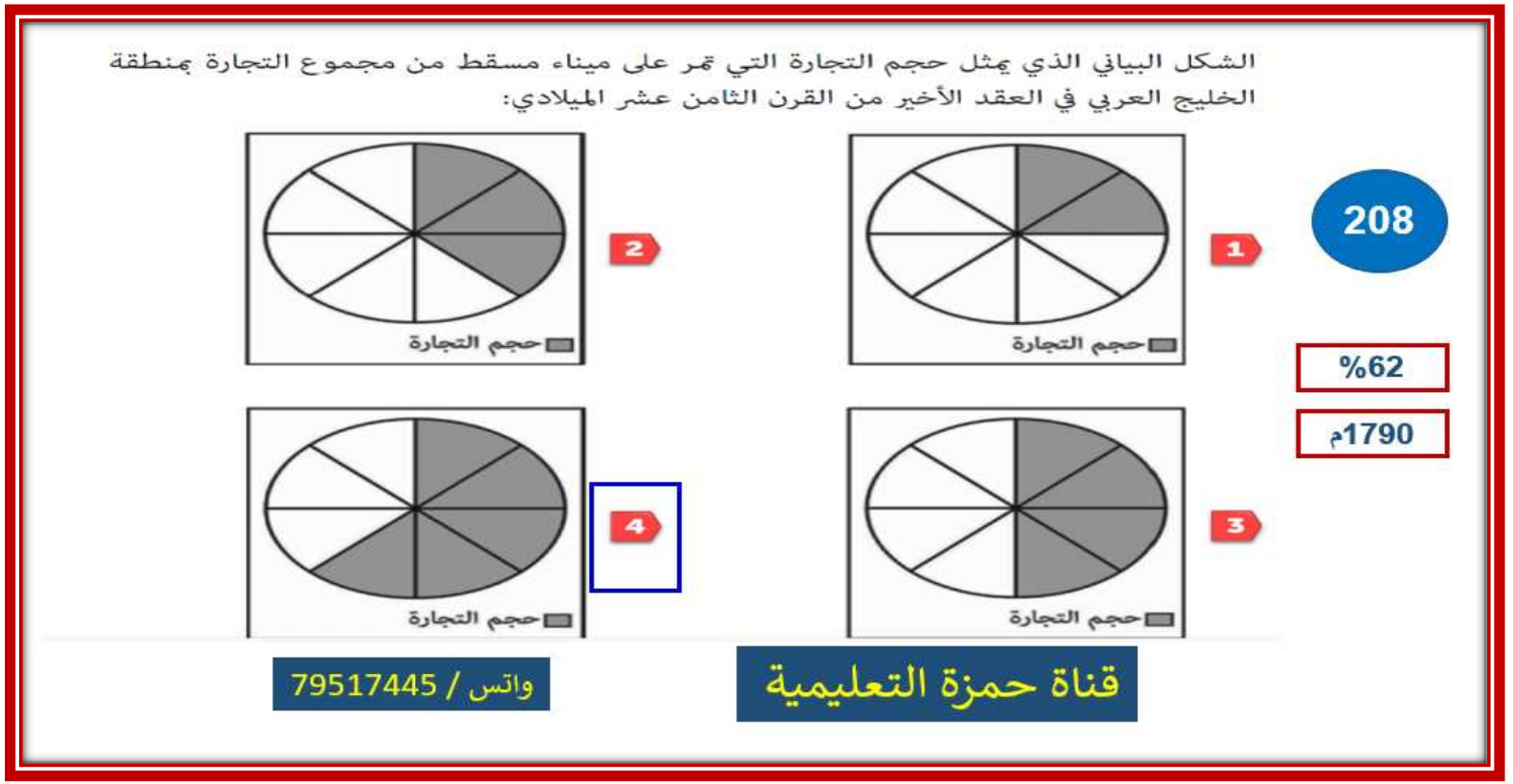

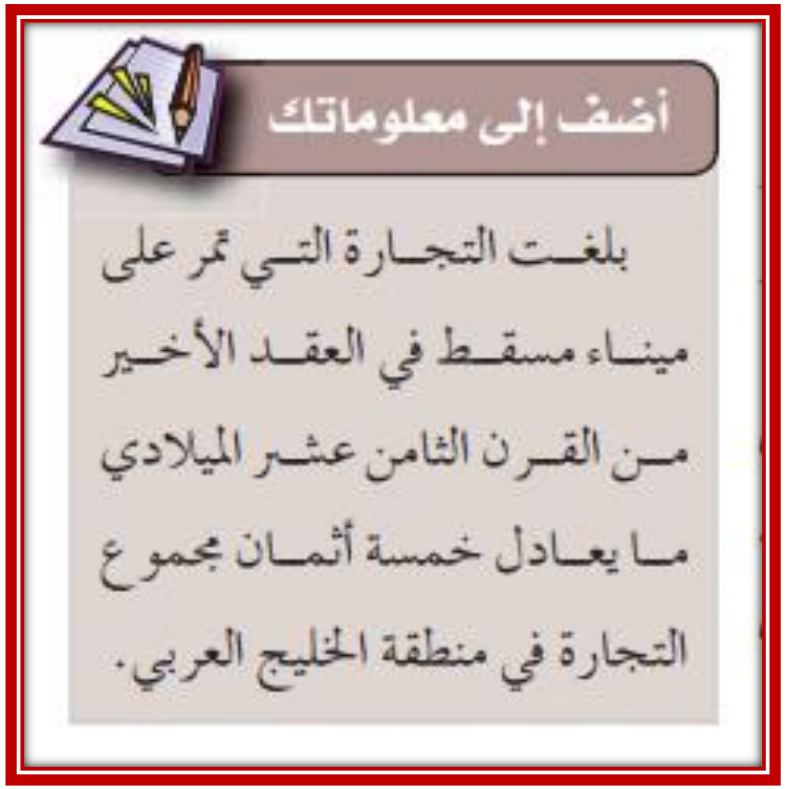



امتحان وزاري

ص 42 بالكتاب المدرسي

Fileae.com/om
2026 2025
موقع فيليني التعليمي

امثلة على أهمية (أضف الى معلوماتك بالكتاب المدرسي)

(٤) ظلّل في الشكل المقابل نسبة ما يُمثله حجم التجارة التي كانت تمر على ميناء مسقط من مجموع التجارة في الخليج العربي في الفترة الزمنية المشار إليها بخط في النص السابق.

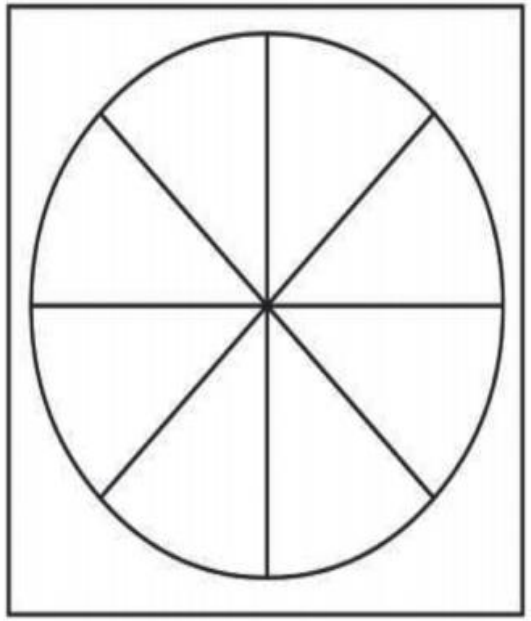

أضف إلى معلوماتك

بلغت التجارة التي تمر على ميناء مسقط في العقد الأخير من القرن الثامن عشر الميلادي ما يعادل خمسة أثمان مجموع التجارة في منطقة الخليج العربي.



امتحان وزاري

ص 42 بالكتاب المدرسي

Fileae.com/om
2026 2025
موقع فيليني التعليمي

امثلة على أهمية (أضف الى معلوماتك بالكتاب المدرسي)

الميناء العماني الذي بلغت التجارة التي تمر عبره ما يعادل خمسة أثمان مجموع التجارة في منطقة الخليج العربي في العقد الأخير من القرن الثامن عشر الميلادي:

- ☐ مسقط.
- ☐ صحار.
- ☐ صور.
- ☐ دبا.

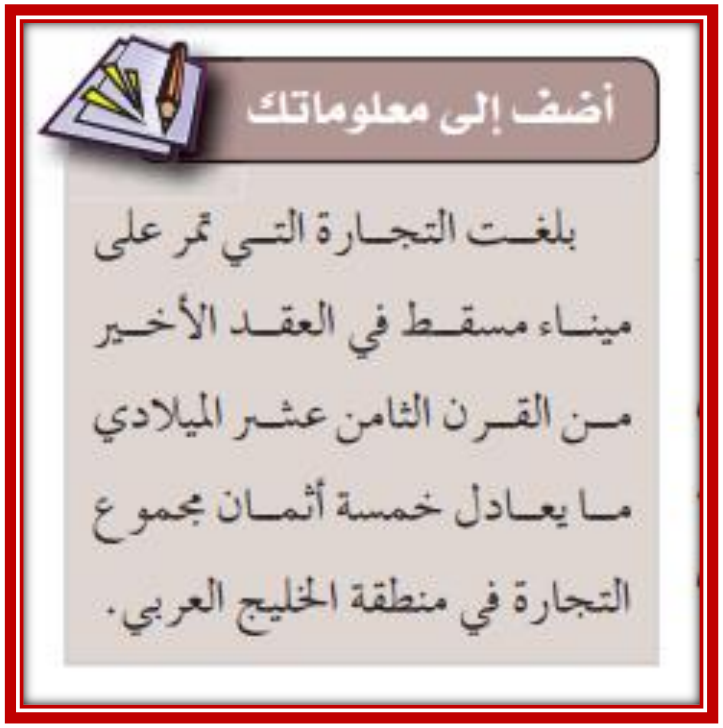



امتحان وزاري 2026م

ص 42 بالكتاب المدرسي

Fileae.com/om موقع فيليني العمانية 2026 2025

امثلة على أهمية (أضف الى معلوماتك بالكتاب المدرسي)

أضف إلى معلوماتك

اهتم السلطان برغش بن سعيد بالعمران، حيثُ شيَّد قصري بيت العجائب والمرهوبي في زنجبار، كما بنى برجًا ضخمًا قرب ميناء زنجبار، ووضع على هذا البرج أربع ساعات ضخمة بأجراسها مواجهة للميناء.



بيت العجائب

(٢) المنجزات العمرانية للسلطان برغش بن سعيد في زنجبار.

- قصر بيت العجائب
- قصر المرهوبي
- برج ضخم يضم 4 ساعات فوق البرج بأجراسها

قناة حمزة التعليمية

واتس / 79517445

امتحان وزاري



ص 45 بالكتاب المدرسي

امثلة على أهمية (شخصيات بالكتاب المدرسي)

شخصيـة تاريخية عُمانية

سعيد بن خلفان البوسعيدي:

سياسـي ومترجم عيّنه السيد سعيد بن سلطان مترجمًا أثناء استقبال الوفود الرسمية الأجنبية في مسقط، وقد نال لقب المندوب الفرنسي في مسقط عام ١٨٣٨م، وعيّنته الولايات المتحدة الأمريكيـة وكيـلاً لها بمسقط، كمـا قَبِل السيد سعيد بـن سلطان عـام ١٨٤١م طلب فرنسا بالاعتراف بسعيد بن خلفان قنصلًا فرنسيًّا في مسقط.

ب. ادرس خريطة العالم الآتية، ثم أجب عن الأسئلة التي تليها.



قناة حمزة التعليمية
واتس / 79517445

226

(٣) سمِّ الشخصية العُمانية التي عينتها الدولة المشار إليها بالرقم (٥) قنصلًا لها في مسقط عام ١٨٤١م.

سعيد بن خلفان البوسعيدى

(٤) ظلّل الدولة التي يُعد السلطان سعيد بن تيمور أول حاكم عربي يزورها.

قناة حمزة التعليمية
جغرافيا تاريخ

امتحان وزاري 2022-2023م

ص 45 بالكتاب المدرسي

امثلة على أهمية (شخصيات بالكتاب المدرسي)

الدولة التي عينت سعيد بن خلفان البوسعيدي وكيلاً لها بمسقط عام 1841م :-

205

أ بريطانيا

ب الولايات المتحدة الامريكية

ج فرنسا

د المانيا

شخصيـة تاريخية عُمانية

سعيد بن خلفان البوسعيدي:

سياسـي ومترجم عيَّنه السيد سعيد بن سلطان مترجمًا أثناء استقبال الوفود الرسمية الأجنبية في مسقط، وقد نال لقب المندوب الفرنسي في مسقط عام ١٨٣٨م، وعيَّنته الولايات المتحدة الأمريكيـة وكيـلاً لها بمسقط، كمـا قَبِل السيد سعيد بـن سلطان عـام ١٨٤١م طلب فرنسا بالاعتراف بسعيد بن خلفان قنصلًا فرنسيًّا في مسقط.



ص 45 بالكتاب المدرسي

امثلة على أهمية (أضف الى معلوماتك بالكتاب المدرسي)

رقم المسار الصحيح لرحلة السفينة سلطانة التي أرسلها السيد سعيد بن سلطان عام ١٨٤٢م كما توضحه الخريطة أمامك:

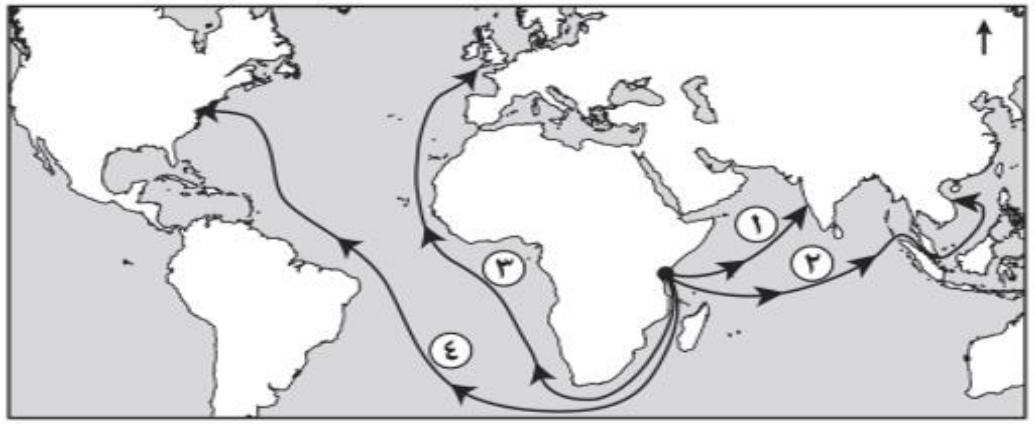

202

١ ○
٢ ○
٣ ○
٤ ○

واتس / 79517445

قناة حمزة التعليمية

أضف إلى معلوماتك

أرسل السيد سعيد بن سلطان واليه على ممباسا علي بن ناصر الهنائي على متن السفينة سلطانة إلى لندن عام ١٨٤٢م، حاملًا معه هدايا السلطان سعيد إلى الملكة.

امتحان وزاري

ص 47 بالكتاب المدرسي

امثلة على أهمية (أضف الى معلوماتك بالكتاب المدرسي)

ب. ادرس خريطة العالم الآتية، ثم أجب عن الأسئلة التي تليها.



225

قناة حمزة التعليمية
واتس / 79517445

(١) ما الرقم الذي يشير إلى الدولة التي أرسل السيد سعيد بن سلطان إليها واليه على ممباسا علي بن ناصر الهنائي عام ١٨٤٢م؟

3

(٢) ما الرقم الذي يشير إلى الدولة التي طُبع فيها لأول مرة ديوان شعر أبي الصوفي عام ١٩٣٧م؟

2

أضف إلى معلوماتك

أرسل السيد سعيد بن سلطان واليه على ممباسا علي بن ناصر الهنائي على متن السفينة سلطانة إلى لندن عام ١٨٤٢م، حاملًا معه هدايا السلطان سعيد إلى الملكة.

ص 47 بالكتاب المدرسي



امتحان وزاري2022-2023

امثلة على أهمية (أضف الى معلوماتك بالكتاب المدرسي)

السفينة التي حملت الوالي العُماني علي بن ناصر الهنائي إلى لندن عام ١٨٤٢م:

- ☐ الرحماني.
- ☐ فلك السلامة.
- ☐ شباب عمان.
- ☐ سلطانة.

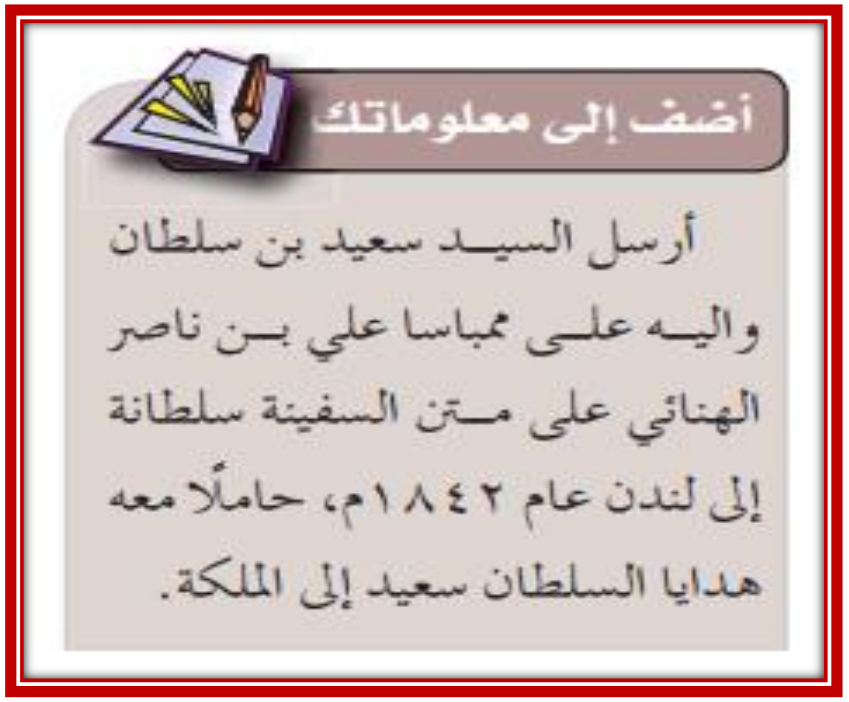



امتحان وزاري2023-2024

ص 47 بالكتاب المدرسي

امثلة على أهمية (تحليل النصوص)

أ. من خلال دراستك لموضوع (العلاقات الخارجية لعُمان في عصر البوسعيد) أجب عما يأتي.

231

(١) اذكر أهم بنود الاتفاقية التي عقدت بين السيد سلطان بن أحمد البوسعيدي والسيرجون مالكولم عام ١٨٠٠م؟

قناة حمزة التعليمية
واتس / 79517445

تعين وكيل سياسي لبريطانيا في ميناء مسقط

(٢) دلّل على اهتمام السيد سعيد بن سلطان بالعلاقات الدبلوماسية مع بريطانيا عام ١٨٤٢م.

- ارسال السيد سعيد بن سلطان واليه على ممباسا على بن ناصر الهنائى الى لندن
- ارسال السفينة سلطانة الى لندن عام 1842م
- ارسال هدايا الى ملكة بريطانيا

تحليل النصوص

عقد السيد سلطان بن أحمد البوسعيدي عام ١٨٠٠م اتفاقية مع ممثل الحكومة البريطانية في الهند (السير جون مالكولم)، نصت على السماح لبريطانيا بتعيين وكيل سياسي لهم في ميناء مسقط. في ضوء ذلك:

١- دَلِّل على العلاقات العُمانية البريطانية.

٢- فسِّر حرص الدول الكبرى على توثيق علاقاتها مع عُمان.

ص 48 بالكتاب المدرسي

امتحان وزاري2022-2023

امثلة على أهمية (الاشكال بالكتاب المدرسي)



وضّح مظاهر الاستقرار السياسي الداخلي الذي شهدته سلطنة عُمان بعد وفاة السلطان قابوس بن سعيد (طيّب الله ثراه).

228

الانتقال السلس للحكم

تنفيذ وصية السلطان قابوس بن سعيد (طيب الله ثراه)

قناة حمزة التعليمية

واتس / 79517445

امتحان وزاري2022-2023

ص 40 بالكتاب المدرسي

امثلة على أهمية (الاشكال بالكتاب المدرسي)

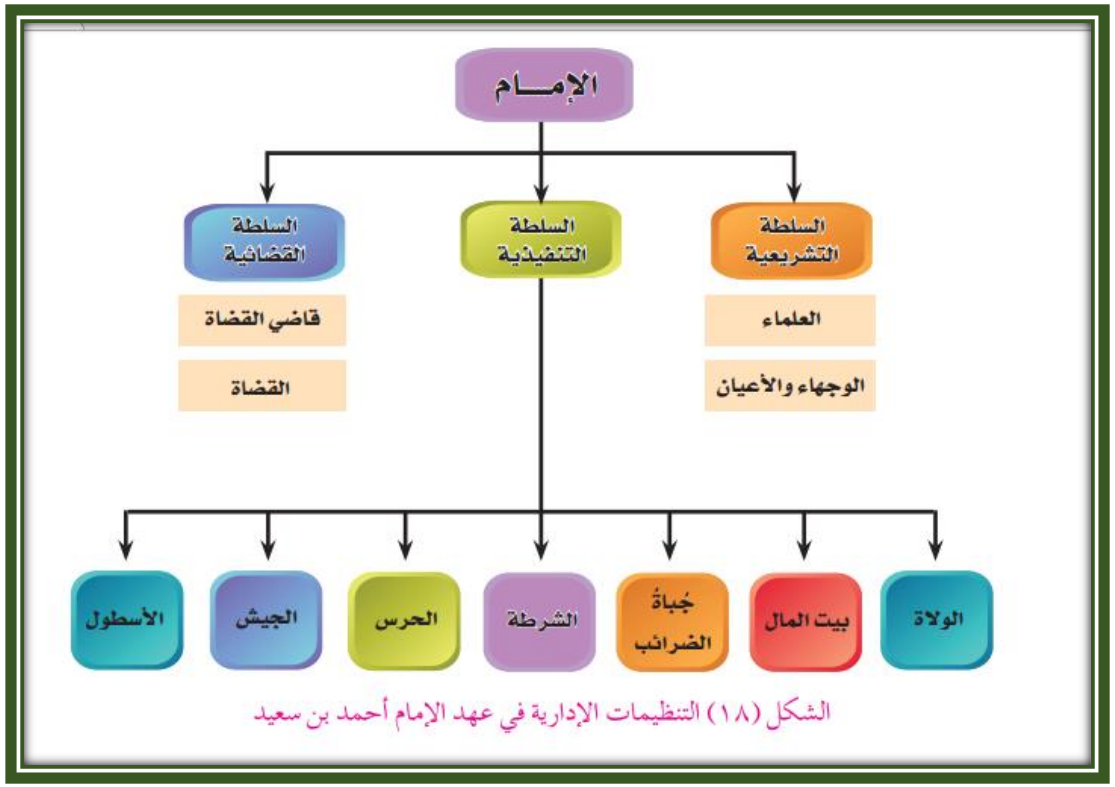

الشكل (١٨) التنظيمات الإدارية في عهد الإمام أحمد بن سعيد

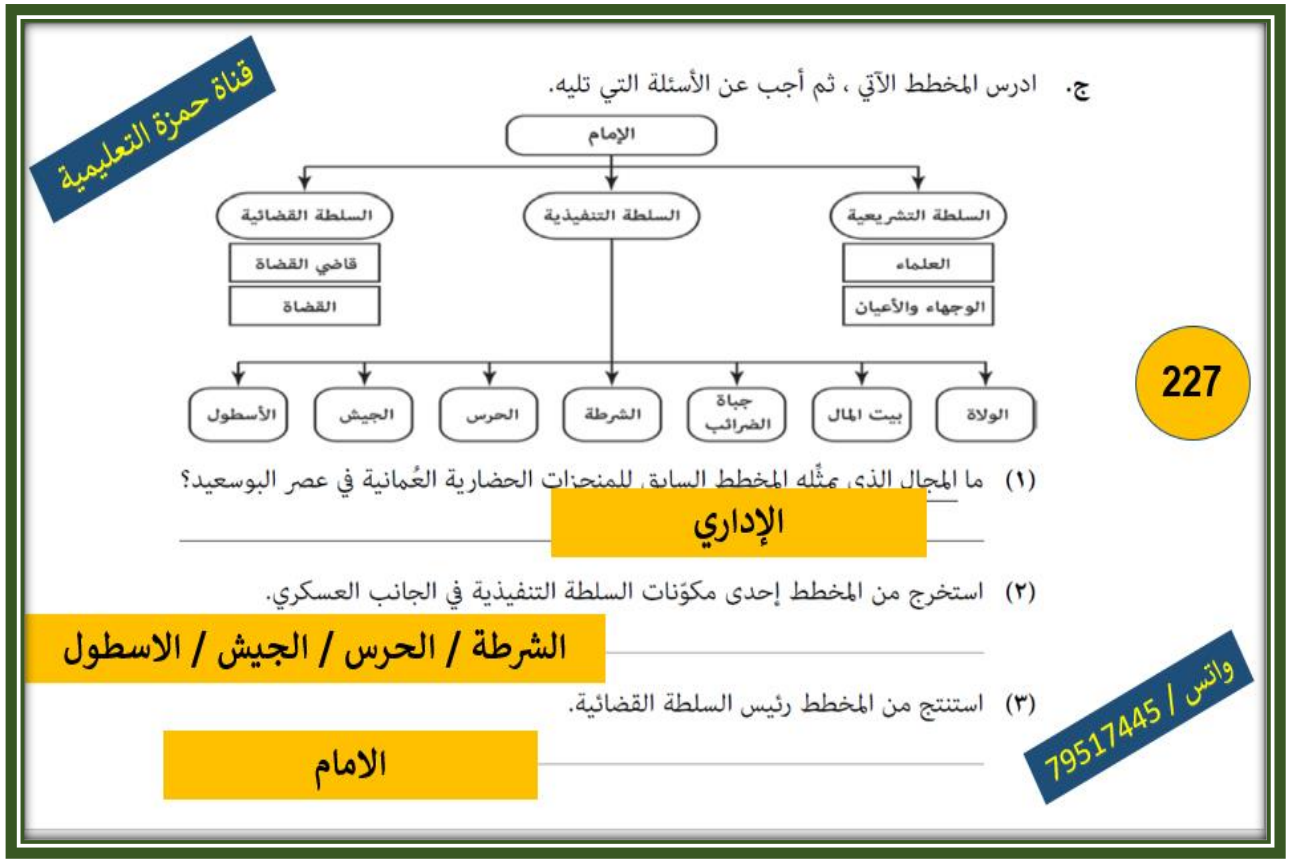

ص 41 بالكتاب المدرسي



امتحان وزاري 2022-2023

امثلة على أهمية (الاشكال بالكتاب المدرسي)

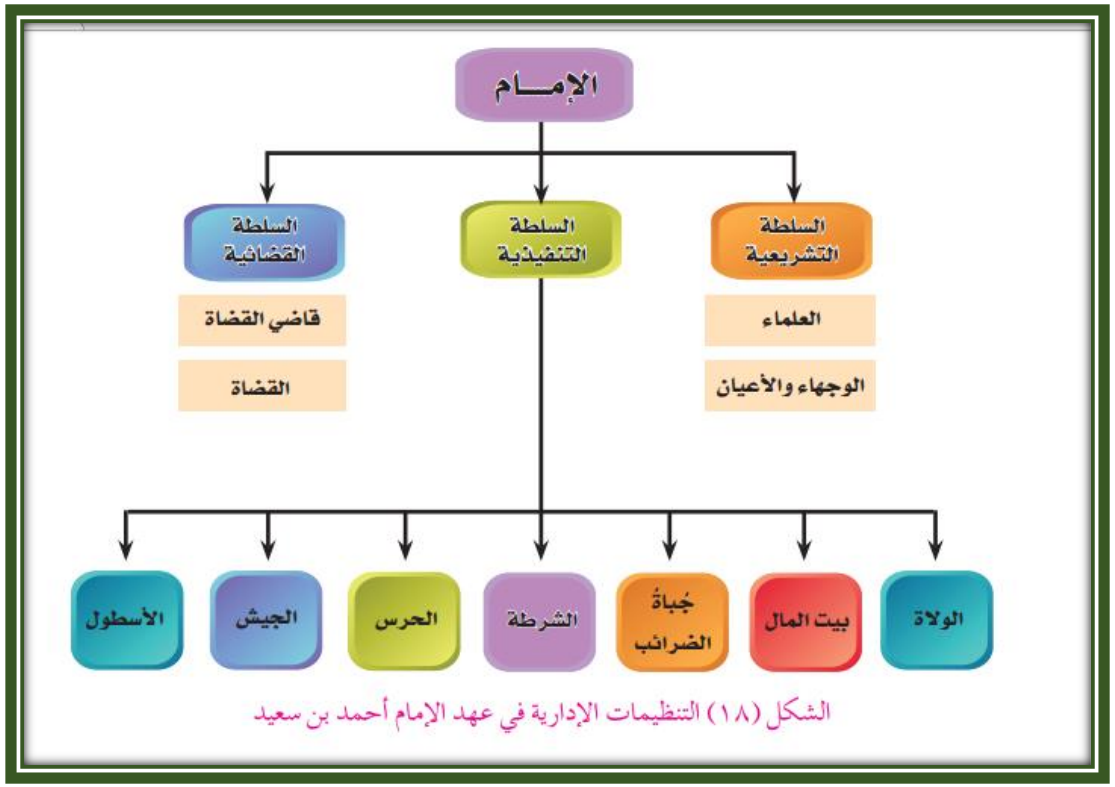

الشكل (١٨) التنظيمات الإدارية في عهد الإمام أحمد بن سعيد



ص 41 بالكتاب المدرسي



امتحان وزاري 2022-2023

امثلة على أهمية (الاشكال بالكتاب المدرسي)

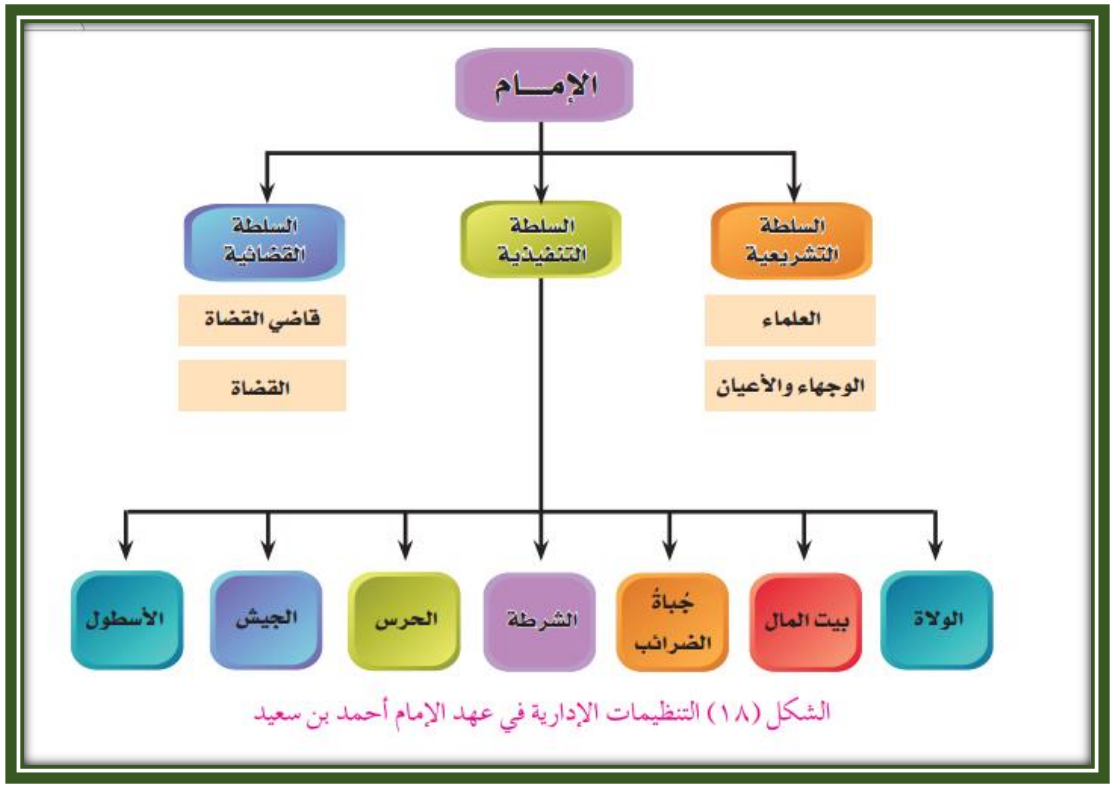

الشكل (١٨) التنظيمات الإدارية في عهد الإمام أحمد بن سعيد

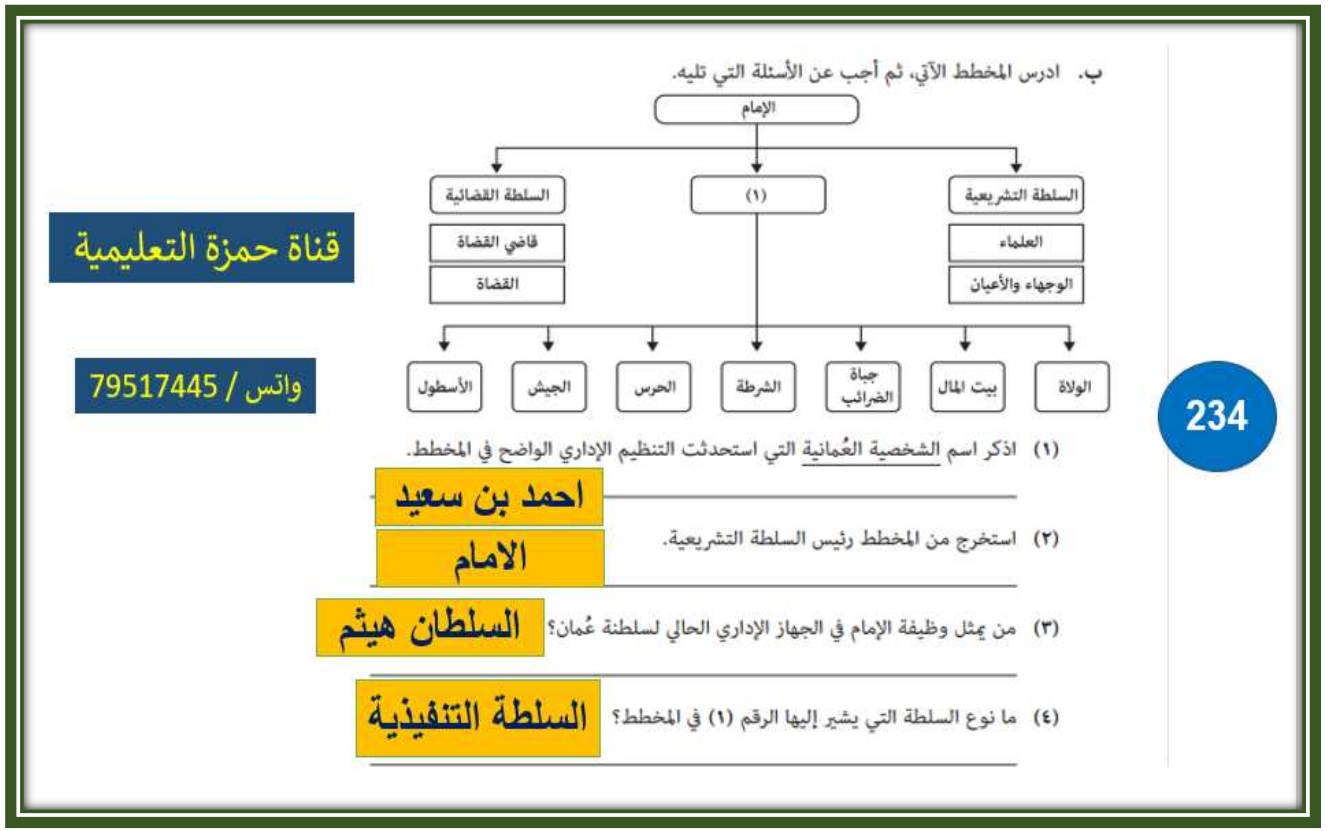

ص 41 بالكتاب المدرسي



امتحان وزاري 2022-2023

امثلة على أهمية (الاشكال بالكتاب المدرسي)

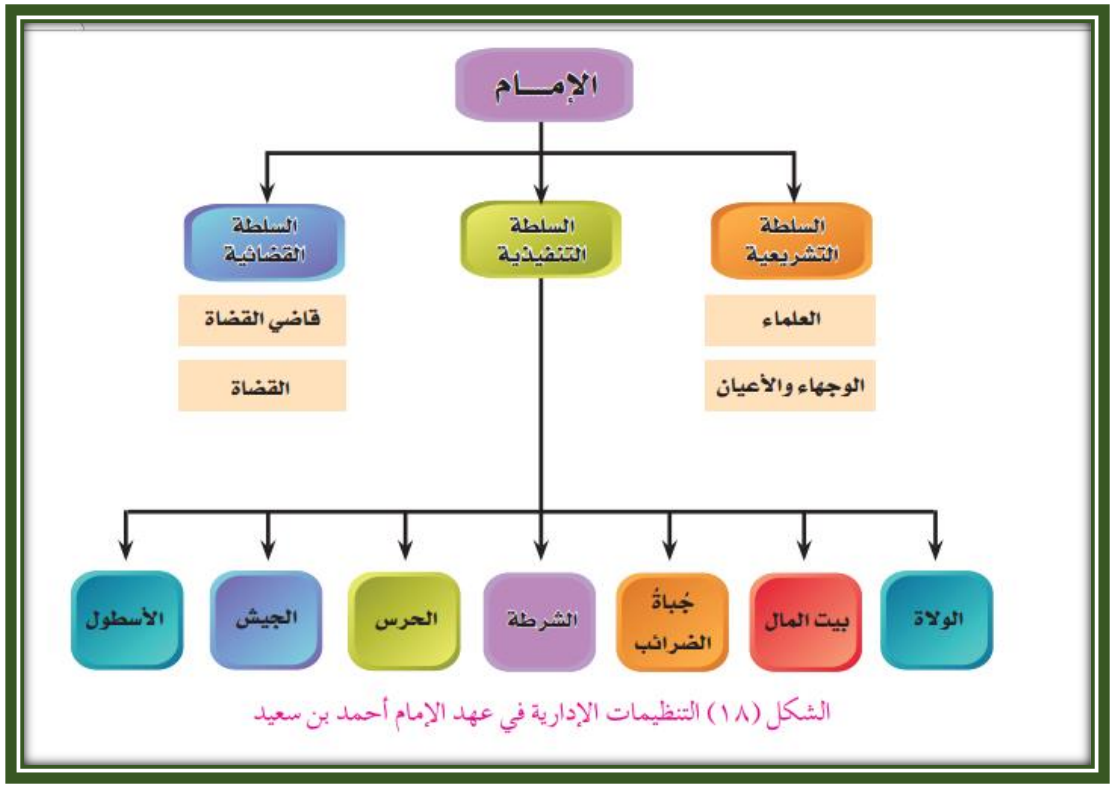

الشكل (١٨) التنظيمات الإدارية في عهد الإمام أحمد بن سعيد

238 من القواعد الإدارية الجديدة التي ادخلها الامام احمد بن سعيد في تنظيمه الإداري

أ الشرطة

ب الجيش

ج الاسطول

د جباة الضرائب

قناة حمزة التعليمية

واتس / 79517445

امتحان تجريبي قناة حمزة التعليمية

ص 41 بالكتاب المدرسي

امثلة على أهمية (أضف الى معلوماتك بالكتاب المدرسي)

٤) الوزارة التي تولاها السلطان هيثم بن طارق المعظم -حفظه الله ورعاه- في الفترة (٢٠٠٢ -٢٠٢٠م):

- ☐ الإعلام.
- ☐ الخارجية.
- ☑ التراث والثقافة.
- ☐ التنمية الاجتماعية.

السلطان هيثم بن طارق بن تيمور آل سعيد -حفظه اللّه ورعاه-:

وُلد في مسقط بتاريخ ١١ أكتوبر ١٩٥٤م، وتلقّى تعليمه في المراحل الأولى في المدرسة السعيدية بمسقط، ثم واصل تعليمه العالي في جامعة أكسفورد في برنامج الخدمات الخارجية، وتخرَّج عام ١٩٧٩م، ثم أكمل تعليمه بكلية بيمبروك التابعة لذات الجامعة. تولى السلطان هيثم بن طارق -حفظه اللّه ورعاه- مناصب عدة قبل توليه الحكم منها: وكيل الشؤون السياسية في وزارة الخارجية عام ١٩٨٦م، ووزيرًا للتراث والثقافة في الفترة (٢٠٠٢م-٢٠٢٠م)، كما تولى رئاسة اللجنة الرئيسية لرؤية عُمان ٢٠٤٠.



ص 39 بالكتاب المدرسي

امتحان وزاري 2025-2026


البيئة
قضية عالمية
ويُقظة وطنية

امثلة على أهمية (أضف الى معلوماتك بالكتاب المدرسي)



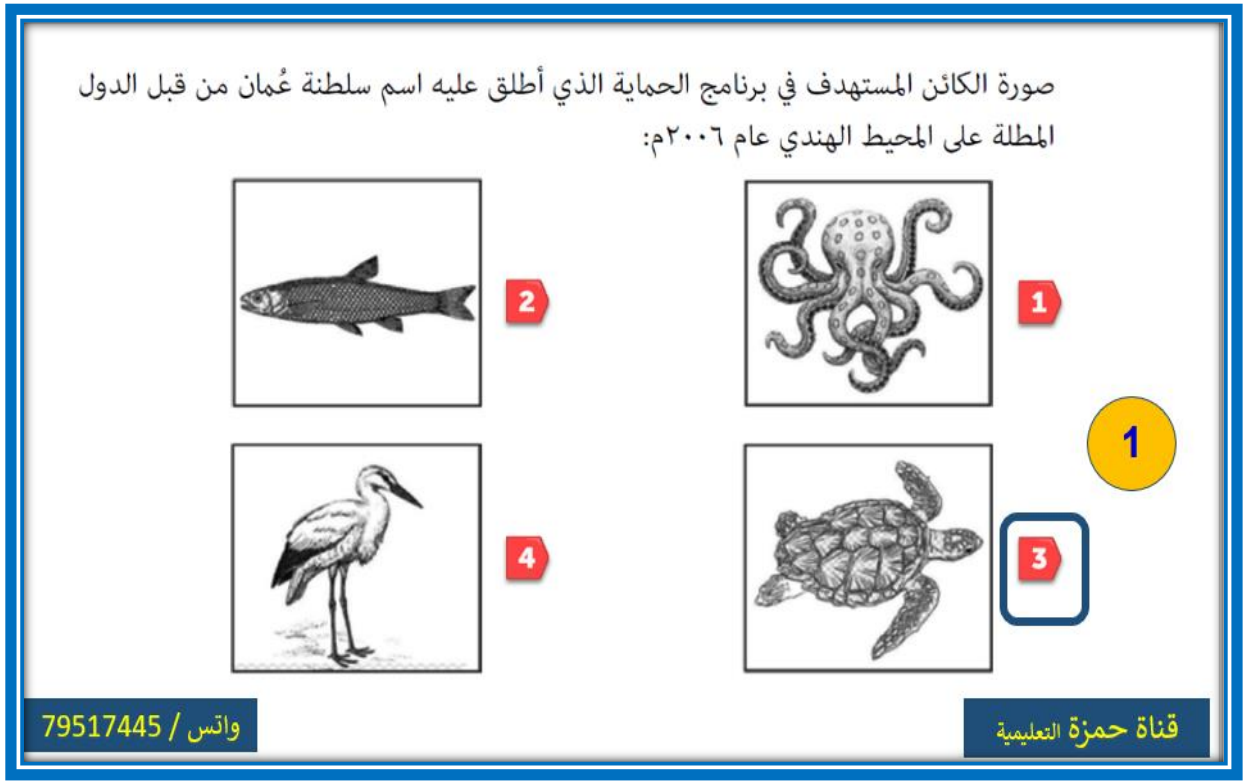

امتحان وزاري



ص 56 بالكتاب المدرسي

Fileae.com/om
2026 2025
موقع فايلني التعليمي

امثلة على أهمية (أضف الى معلوماتك بالكتاب المدرسي)







امتحان وزاري

ص 56 بالكتاب المدرسي

امثلة على أهمية (أضف الى معلوماتك بالكتاب المدرسي)



اذكر دلالة كل من : -

إطلاق الدول المطلة على المحيط الهندي اسم سلطنة عمان على برنامجها في حماية السلاحف البحرية على شواطئها عام 2006م

22

تقديرا منها لمكانة سلطنة عمان في العمل البيئي

- مكافئة سلطنة عمان لاهتمامها بالمحافظة على البيئة

قناة حمزة التعليمية

واتس / 79517445



امتحان وزاري

ص 56 بالكتاب المدرسي

Fileae.com/om
2026 2025
موقع فايلني التعليمي

امثلة على أهمية (أضف الى معلوماتك بالكتاب المدرسي)

تم منح جائزة السلطان قابوس لصون البيئة عام ٢٠١٩م للمرة:

8

1 الحادية عشرة.

2 الثالثة عشرة.

3 الخامسة عشرة.

4 السابعة عشرة.

قناة حمزة التعليمية

واتس / 79517445

أضف إلى معلوماتك

حصد صندوق أشوكا ترست للأبحاث في مجال الإيكولوجيا والبيئة بجمهورية الهند جائزة اليونسكو- السلطان قابوس لصون البيئة لعام ٢٠١٩م لإسهاماته في مجال صون البيئة والتنمية المستدامة.

امتحان وزاري

ص 57 بالكتاب المدرسي

Fileae.com/om
2026 2025
موقع فايلي العمانية

امثلة على أهمية (أضف الى معلوماتك بالكتاب المدرسي)

12

الدولة التي ينتمي إليها صندوق أشوكا ترست للأبحاث في مجال الإيكولوجيا والبيئة، الفائزة بجائزة السلطان قابوس لصون البيئة:

- ☐ المكسيك.
- ☐ ألمانيا.
- ☐ سويسرا.
- ☐ الهند.

قناة حمزة التعليمية

واتس / 79517445



امتحان وزاري

أضف إلى معلوماتك

حصد صندوق أشوكا ترست للأبحاث في مجال الإيكولوجيا والبيئة بجمهورية الهند جائزة اليونسكو – السلطان قابوس لصون البيئة لعام ٢٠١٩م لإسهاماته في مجال صون البيئة والتنمية المستدامة.

ص 57 بالكتاب المدرسي

Fileae.com/om 2026 2025 موقع فايلاتي العمانية

امثلة على أهمية (الاشكال بالكتاب المدرسي)

ب. انسب المؤتمرات والاتفاقيات الدولية التي بين القوسين حسب المعطيات الواردة في الجدول التالي:
(مؤتمر تغيّر المناخ ـ اتفاقية فيينا لحماية طبقة الأوزون ـ مؤتمر جلف إكو ـ مؤتمر إدارة المخلفات الخطرة والمواد الكيميائية).

م	المؤتمر/ الاتفاقية	العام الميلادي	الدولة
١	_____	١٩٨٥	النمسا
٢	_____	٢٠١٣	سلطنة عُمان
٣	_____	٢٠١٥	سويسرا
٤	_____	٢٠١٧	ألمانيا



صلالة

الشكل (٢) من جهود سلطنة عُمان لحماية البيئة العالمية

ص 55 بالكتاب المدرسي



امتحان وزاري
2025-2026م

Fileae.com/om
موقع فيليني العمانية

امثلة على أهمية (الاشكال بالكتاب المدرسي)



الشكل (٢) من جهود سلطنة عُمان لحماية البيئة العالمية



المدينة التي عُقدت فيها مؤتمرات الأطراف المعنية بإدارة المخلفات الخطرة والمواد الكيميائية (٢٠١٥م):

- ☐ باريس.
- ☐ طوكيو.
- ☐ جنيف.
- ☐ نيودلهي.



امتحان وزاري
2025-2026م

ص 55 بالكتاب المدرسي

Fileae.com/om
موقع فيليني التعليمي

امثلة على أهمية (الاشكال بالكتاب المدرسي)

المؤتمر الدولي البيئي الذي عقد في مدينة صلالة بسلطنة عُمان عام ٢٠١٧م:

- ☐ الحياة تحت الماء.
- ☐ جلف إكو.
- ☐ تغير المناخ.
- ☐ إدارة المخلفات الخطرة والمواد الكيميائية.



الشكل (٢) من جهود سلطنة عُمان لحماية البيئة العالمية



امتحان وزاري
2025-2026م

ص 55 بالكتاب المدرسي

Fileae.com/om
موقع فيليني العمانية

امثلة على أهمية (الاشكال بالكتاب المدرسي)



الشكل (٢) من جهود سلطنة عُمان لحماية البيئة العالمية

صلالة

الجدول الصحيح الذي يمثل المؤتمرات الدولية التي عُقدت في سلطنة عُمان لحماية البيئة العالمية:

اسم المؤتمر	السنة
المؤتمر البيئي (الحياة تحت الماء)	(٢٠١٧م)
مؤتمر جلف إكو	(٢٠١٣م)

اسم المؤتمر	السنة
المؤتمر البيئي (الحياة تحت الماء)	(٢٠١٥م)
مؤتمر جلف إكو	(٢٠١٤م)

11

اسم المؤتمر	السنة
المؤتمر البيئي (الحياة تحت الماء)	(٢٠١٣م)
مؤتمر جلف إكو	(٢٠١٧م)

اسم المؤتمر	السنة
المؤتمر البيئي (الحياة تحت الماء)	(٢٠١٥م)
مؤتمر جلف إكو	(٢٠١٧م)

قناة حمزة التعليمية

واتس / 79517445

امتحان وزاري



ص 55 بالكتاب المدرسي

Fileae.com/om
2026 2025
موقع فيليني التعليمي

امثلة على أهمية (الاشكال بالكتاب المدرسي)



صلالة

الشكل (٢) من جهود سلطنة عُمان لحماية البيئة العالمية

ب. صنف المسميات (جلف إيكو ٢٠١٣ – تغير المناخ ٢٠١٧ – الأمم المتحدة للبيئة – فيينا لحماية طبقة الأوزون) حسب جهود سلطنة عُمان لحماية البيئة العالمية في الجدول الآتي:

المشاركة في مؤتمرات إقليمية وعالمية	التعاون مع المنظمات والبرامج الدولية	المصادقة على الاتفاقيات الإقليمية والدولية	عقد مؤتمرات دولية

امتحان وزاري



ص 55 بالكتاب المدرسي

Fileae.com/om
2026 2025
موقع فيليني العمانية

امثلة على أهمية (الاشكال بالكتاب المدرسي)



الشكل (٢) من جهود سلطنة عُمان لحماية البيئة العالمية

القارة التي عقد فيها مؤتمر تغيُّر المُناخ عام ٢٠١٧م:

10

- آسيا.
- أفريقيا.
- أوروبا.
- أستراليا.

قناة حمزة التعليمية

واتس / 79517445

امتحان وزاري



ص 55 بالكتاب المدرسي

Fileae.com/om
2026 2025
موقع فيلبني التعليمي

امثلة على أهمية (الاشكال بالكتاب المدرسي)



الشكل (٢) من جهود سلطنة عُمان لحماية البيئة العالمية

أ. اكتب أرقام العبارات الآتية التي تمثل بعض جهود سلطنة عُمان لحماية البيئة العالمية داخل المربعات في المسطرة الزمنية التالية.

(١) المشاركة في مؤتمر تغير المناخ بألمانيا.

(٢) المشاركة في مؤتمر الأطراف المعنية بإدارة المخلفات الخطرة والمواد الكيميائية بجنيف.

(٣) منح جائزة السلطان قابوس - طيّب الله ثراه - لصون البيئة للمرة الثامنة.

(٤) عقد مؤتمر عُمان للبيئة (جلف إكو).

17

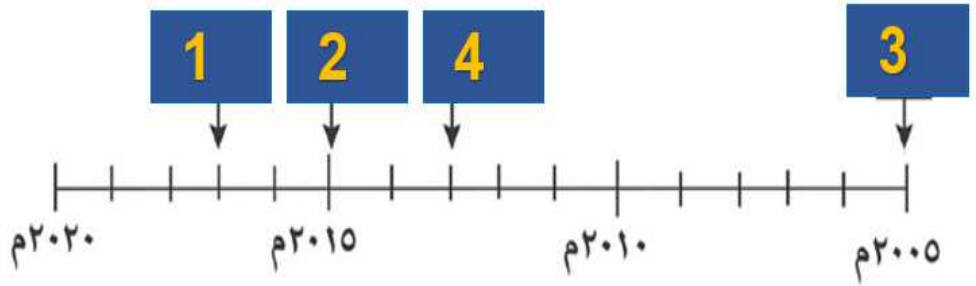

امتحان وزاري



ص 55 بالكتاب المدرسي

Fileae.com/om
2026 2025
موقع فيليني التعليمي

امثلة على أهمية (الاشكال بالكتاب المدرسي)



صلالة

الشكل (٢) من جهود سلطنة عُمان لحماية البيئة العالمية

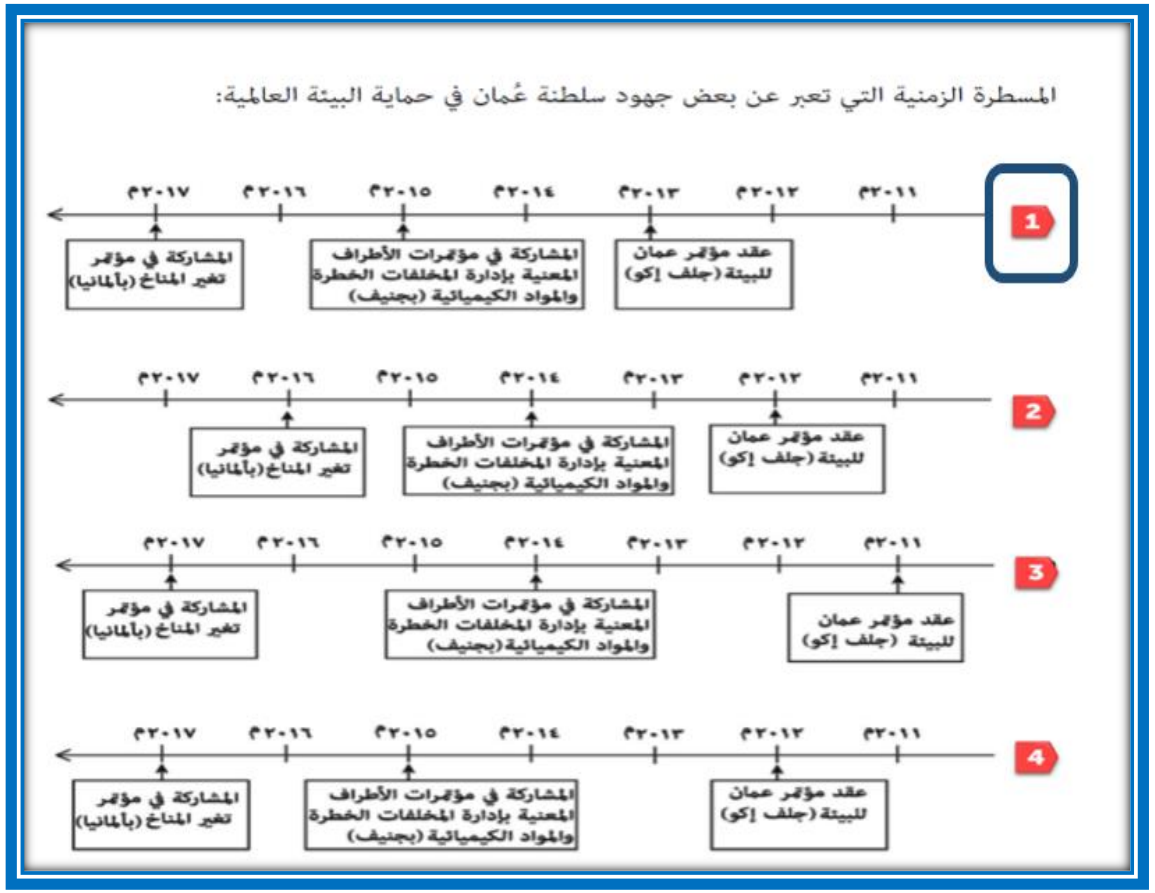

امتحان وزاري

ص 55 بالكتاب المدرسي

امثلة على أهمية (الاشكال بالكتاب المدرسي)

المنظمة الدولية التي تشرف على جائزة السلطان قابوس لصون البيئة:

- منظمة الأمم المتحدة للتربية والعلم والثقافة
- منظمة الصحة العالمية
- منظمة الأغذية والزراعة
- منظمة الأمم المتحدة للطفولة

قناة حمزة التعليمية

واتس / 79517445



الشكل (٣) السلطان قابوس بن سعيد– طيّب اللّه ثراه– يعلن تخصيص جائزة للبيئة

امتحان وزاري



ص 57 بالكتاب المدرسي

امثلة على أهمية (الاشكال بالكتاب المدرسي)

ج. سمّ المنظمة العالمية التي أعلن السلطان قابوس بن سعيد - طيب الله ثراه - في مقرها عن جائزته لصون البيئة عام ١٩٨٩م.

اليونسكو / منظمة الأمم المتحدة للتربية والعلوم والثقافة UNESCO



الشكل (٣) السلطان قابوس بن سعيد– طيّب اللّه ثراه– يعلن تخصيص جائزة للبيئة

امتحان وزاري

ص 57 بالكتاب المدرسي


البيئة العُمانية
حماية
وُاستدامة

امثلة على أهمية (أضف الى معلوماتك بالكتاب المدرسي)

٣) المحافظة الشمالية التي تبدأ منها حدود المنطقة البحرية الخاصة حسب تصنيف المنظمة البحرية الدولية (IMO) لحماية البيئة البحرية العُمانية من التلوث:

- ☐ مسندم.
- ☐ ظفار.
- ☐ جنوب الباطنة.
- ☐ جنوب الشرقية.



امتحان وزارى 2025-2026

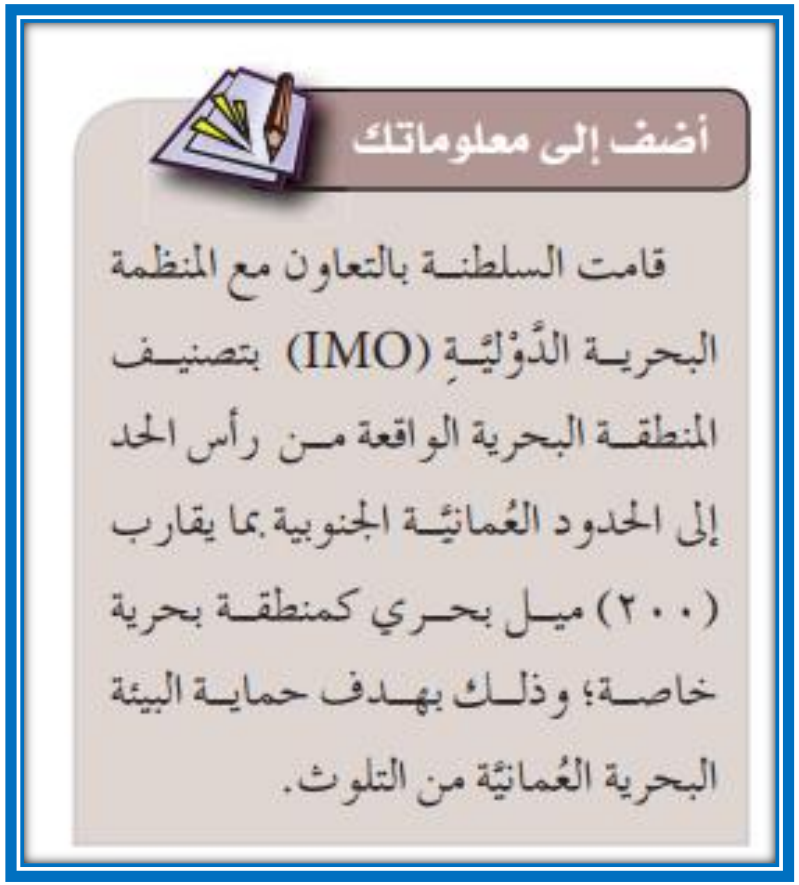

ص 65 بالكتاب المدرسي

امثلة على أهمية (أضف الى معلوماتك بالكتاب المدرسي)

المحافظة العُمانية التي تنتهي عندها حدود المنطقة البحرية الخاصة حسب تصنيف المنظمة البحرية الدولية (IMO) لحماية البيئة العُمانية من التلوث:

- ☐ الوسطى.
- ☐ ظفار.
- ☐ مسقط.
- ☐ مسندم.

أضف إلى معلوماتك

قامت السلطنة بالتعاون مع المنظمة البحرية الدَّوْليَّةِ (IMO) بتصنيف المنطقة البحرية الواقعة من رأس الحد إلى الحدود العُمانيَّة الجنوبية بما يقارب (٢٠٠) ميل بحري كمنطقة بحرية خاصة؛ وذلك بهدف حماية البيئة البحرية العُمانيَّة من التلوث.



امتحان وزاري2023م

ص 65 بالكتاب المدرسي

امثلة على أهمية (أضف الى معلوماتك بالكتاب المدرسي)

الامتداد الجغرافي للمنطقة البحرية الخاصة في سلطنة عُمان حسب تصنيف المنظمة البحرية الدولية:

- ☐ رأس مسندم ⟵ رأس الحد.
- ☐ رأس الحمراء ⟵ رأس الحد.
- ☐ رأس الحد ⟵ الحدود العُمانية الجنوبية.
- ☐ رأس مسندم ⟵ الحدود العُمانية الجنوبية.



أضف إلى معلوماتك

قامت السلطنة بالتعاون مع المنظمة البحرية الدَّوْليَّةِ (IMO) بتصنيف المنطقة البحرية الواقعة من رأس الحد إلى الحدود العُمانيَّة الجنوبية بما يقارب (٢٠٠) ميل بحري كمنطقة بحرية خاصة؛ وذلك بهدف حماية البيئة البحرية العُمانيَّة من التلوث.



امتحان وزاري2025م

ص 65 بالكتاب المدرسي

امثلة على أهمية (أضف الى معلوماتك بالكتاب المدرسي)

١٢) شعار المنظمة الدولية التي قامت بتصنيف الموقع الممتد من رأس الحد إلى الحدود العُمانية الجنوبية كمنطقة بحرية خاصة:

- ▢ 

- ▢ 
- ▢ 

- ▢ 



أضف إلى معلوماتك

قامت السلطنة بالتعاون مع المنظمة البحرية الدَّوْليَّةِ (IMO) بتصنيف المنطقة البحرية الواقعة من رأس الحد إلى الحدود العُمانيَّة الجنوبية بما يقارب (٢٠٠) ميل بحري كمنطقة بحرية خاصة؛ وذلك بهدف حماية البيئة البحرية العُمانيَّة من التلوث.



امتحان وزاري2025م

ص 65 بالكتاب المدرسي



الشكل (٥) جهود بعض المؤسسات لحماية البيئة العُمانيّة

المؤسسة العُمانية التي تشرف على مبادرة أشجار:

- ☐ هيئة البيئة.
- ☐ هيئة تنظيم الخدمات العامة.
- ☐ وزارة التراث والسياحة.
- ☐ وزارة الثروة الزراعية والسمكية وموارد المياه.

توظيف المصادر / التقانة

١- تُعَدُّ مبادرة (أشجار) من المبادرات البيئية التي تشرف عليها هيئة البيئة. في ضوء ذلك، وبالاستعانة بالموقع الإلكتروني للهيئة، تعرف إلى أهداف المبادرة وآلية المشاركة فيها، ثم اعرض ما تَوَصَّلْتَ إليه في الصف.

٢- ابحث عن إحدى المؤسسات الخاصة أو الأهلية التي تُعنى بالبيئة العُمانيّة، ثم اكتب ملخصًا عنها، وأبرز الفعاليات والأنشطة البيئية التي تقوم بها.

ص 57 بالكتاب المدرسي



امتحان وزاري 2026

ب. ادرس الصورة الآتية التي تمثل شعار لإحدى المبادرات البيئية في سلطنة عُمان، ثم اكتب ما يليها:



(١) هدفًا واحدًا للمبادرة.

_____

(٢) المؤسسة الحكومية التي تشرف عليها.

_____



الشكل (٥) جهود بعض المؤسسات لحماية البيئة العُمانيّة

توظيف المصادر / التقانة

١- تُعَدُّ مبادرة (أشجار) من المبادرات البيئية التي تشرف عليها هيئة البيئة. في ضوء ذلك، وبالاستعانة بالموقع الإلكتروني للهيئة، تعرف إلى أهداف المبادرة وآلية المشاركة فيها، ثم اعرض ما تَوَصَّلْتَ إليه في الصف.

٢- ابحث عن إحدى المؤسسات الخاصة أو الأهلية التي تُعنى بالبيئة العُمانيّة، ثم اكتب ملخصًا عنها، وأبرز الفعاليات والأنشطة البيئية التي تقوم بها.

امتحان وزاري 2025

ص 57 بالكتاب المدرسي

أ. ادرس الخبر الصحفي المقابل، ثم أجب عن الأسئلة التي تليه:

(١) اكتب ما يأتي:

أ ـ اسم المبادرة. _____

ب ـ الجهة الحكومية التي تشرف عليها.

_____

(٢) استخرج من الخبر ما يلي:

أ- المشكلة البيئية التي تعالجها هذه المبادرة.

_____

ب ـ مثال على التعاون بين القطاع الحكومي والقطاع الخاص.

_____

(٣) اعط مثالين على الأنشطة والفعاليات البيئية الأخرى التي تقوم بها المؤسسات الخاصة

أشجار

أُطلقت هذه المبادرة من أجل مكافحة التصحر، والحد من تدهور الأراضي، والمحافظة على النباتات البرية ذلك بواسطة إكثارها والتوسع في زراعتها؛ لأهميتها البيئية والأقتصادية والثقافية، فهي تعتبر المصدر الأساسي للموارد الطبيعية. وفي إطار التعاون بين القطاع الحكومي والقطاع الخاص ممثلا بشركة تنمية نفط عُمان فقد جاءت المبادرة الوطنية لزراعة ١٠ ملايين شجرة. حيث تم تدشينها في يوم البيئة العُماني ٨ يناير ٢٠٢٠م.



الشكل (٥) جهود بعض المؤسسات لحماية البيئة العُمانيّة

توظيف المصادر / التقانة

١- تُعَدُّ مبادرة (أشجار) من المبادرات البيئية التي تشرف عليها هيئة البيئة. في ضوء ذلك، وبالاستعانة بالموقع الإلكتروني للهيئة، تعرف إلى أهداف المبادرة وآلية المشاركة فيها، ثم اعرض ما تَوَصَّلْتَ إليه في الصف.

٢- ابحث عن إحدى المؤسسات الخاصة أو الأهلية التي تُعنى بالبيئة العُمانيّة، ثم اكتب ملخصًا عنها، وأبرز الفعاليات والأنشطة البيئية التي تقوم بها.

امتحان وزاري 2026

ص 57 بالكتاب المدرسي

امثلة على أهمية (أضف الى معلوماتك بالكتاب المدرسي)

المنظَّمة الدَّولية التي قامت سلطنة عُمان بالتعاون معها لتصنيف المنطقة الواقعة من رأس الحد إلى الحدود العُمانية الجنوبية كمنطقة خاصة بها:

26

- منظمة الأمم المتحدة للتربية والعلم والثقافة
- IMO المنظمة البحرية الدولية
- منظمة العمل الدولية
- منظمة حقوق الإنسان

قناة حمزة التعليمية

واتس / 79517445

أضف إلى معلوماتك

قامت السلطنة بالتعاون مع المنظمة البحرية الدَّوْليَّة (IMO) بتصنيف المنطقة البحرية الواقعة من رأس الحد إلى الحدود العُمانيَّة الجنوبية بما يقارب (٢٠٠) ميل بحري كمنطقة بحرية خاصة؛ وذلك بهدف حماية البيئة البحرية العُمانيَّة من التلوث.



امتحان وزاري2023م

ص 65 بالكتاب المدرسي

امثلة على أهمية (أضف الى معلوماتك بالكتاب المدرسي)

تابع ثانيًا: الأسئلة المقالية:

٢٠) أ. أمامك شكل يوضح شعار إحدى المنظمات الدولية التابعة للأمم المتحدة، المختصة بوضع المعايير المتعلقة بالسلامة والأمن والأداء البيئي للشحن الدولي، ادرسه جيدًا ثم أجب عن الأسئلة الآتية:



(١) اكتب اسم هذه المنظمة.

_____

(٢) اعط مثالًا واحدًا للتعاون بين حكومة سلطنة عُمان مع هذه المنظمة.

_____

_____

أضف إلى معلوماتك

قامت السلطنة بالتعاون مع المنظمة البحرية الدَّوْليَّةِ (IMO) بتصنيف المنطقة البحرية الواقعة من رأس الحد إلى الحدود العُمانيَّة الجنوبية بما يقارب (٢٠٠) ميل بحري كمنطقة بحرية خاصة؛ وذلك بهدف حماية البيئة البحرية العُمانيَّة من التلوث.



امتحان وزاري2023م

ص 65 بالكتاب المدرسي

امثلة على أهمية (أضف الى معلوماتك بالكتاب المدرسي)

الخريطة الصحيحة التي توضح حدود امتداد المنطقة البحرية الخاصة التي صنّفتْها سلطنة عُمان بالتعاون مع المنظمة البحرية الدولية:









25

قناة حمزة التعليمية

واتس / 79517445

أضف إلى معلوماتك

قامت السلطنة بالتعاون مع المنظمة البحرية الدَّوْليَّةِ (IMO) بتصنيف المنطقة البحرية الواقعة من رأس الحد إلى الحدود العُمانيَّة الجنوبية بما يقارب (٢٠٠) ميل بحري كمنطقة بحرية خاصة؛ وذلك بهدف حماية البيئة البحرية العُمانيَّة من التلوث.

امتحان وزاري



ص 65 بالكتاب المدرسي

Fileae.com/om 2026 2025 موقع فايلاتي العمانية

امثلة على أهمية (أضف الى معلوماتك بالكتاب المدرسي)

١٢- الرمز المختصر IMO يشيـــــر الى : -

(أ) اللجنة الدولية للتغيرات المناخية
(ب) المنظمة البحرية الدولية
(ج) منظمة الأغذية العالمية
(د) منظمة الأمم المتحدة للتربية والعلوم والثقافة

أضف إلى معلوماتك

قامت السلطنة بالتعاون مع المنظمة البحرية الدَّوْليَّة (IMO) بتصنيف المنطقة البحرية الواقعة من رأس الحد إلى الحدود العُمانيَّة الجنوبية بما يقارب (٢٠٠) ميل بحري كمنطقة بحرية خاصة؛ وذلك بهدف حماية البيئة البحرية العُمانيَّة من التلوث.



امتحان تجريبي
قناة حمزة التعليمية

ص 65 بالكتاب المدرسي

امثلة على أهمية (أضف الى معلوماتك بالكتاب المدرسي)



العام الميلادي الذي خَصّصت فيه سلطنة عُمان وزارة معنية بالبيئة لأول مرة:

- ١٩٨٢
- ١٩٨٤
- ١٩٨٦
- ١٩٨٨

24

قناة حمزة التعليمية

واتس / 79517445

امتحان وزاري



ص 66 بالكتاب المدرسي

امثلة على أهمية (فكر وناقش)

فكّر وناقش

في ظـل اهتمام سلطنة عُمـان بالمحافظة على البيئـة، فقد تم وبالتعاون مـع اللجنة الاقتصادية والاجتماعيـة لغربـي آسيا (الإسكـوا ESCWA) تدشين مكتـب مساندة الاقتصـاد الأخضر في السلطنـة، والذي يهـدف إلى تطوير مشاريـع إنتاجية تُعنى باستدامة البيئـة من خلال الاستغلال الأمثل للموارد الطبيعية. في ضوء ذلك:

١- استنتج المقصود بالاقتصاد الأخضر.

٢- أعطِ أمثلة على مشاريع اقتصادية خضراء.

٣- من وجهة نظرك، ما الإجراءات اللازمة لِتَحَوُّلِ السلطنة إلى الاقتصاد الأخضر؟

ب. فسر ما يأتي:

(١) تدشين مكتب مساندة الاقتصاد الأخضر في سلطنة عُمان بالتعاون مع (الإسكوا).

امتحان وزاري 2026

ص 66 بالكتاب المدرسي



امثلة على أهمية (أضف الى معلوماتك بالكتاب المدرسي)

في ظل اهتمام سلطنة عُمان بالبيئة اكتب ما يأتي:

(١) اسم المكتب الذي دشّنته سلطنة عُمان بالتعاون مع اللجنة الاقتصادية والاجتماعية لغربي آسيا (الإسكوا).

---

(٢) نص المادة (١٢) من النظام الأساسي للدولة.

أضف إلى معلوماتك

في إطار اهتمام سلطنة عُمان بالبيئة فقد نَصَّت المادة (١٢) من النظام الأساسي للدولة على التزام السلطنة بالمحافظة على البيئة وحمايتها ومنع التلوث.

فكّر وناقش

في ظل اهتمام سلطنة عُمان بالمحافظة على البيئة، فقد تم وبالتعاون مع اللجنة الاقتصادية والاجتماعية لغربي آسيا (الإسكوا ESCWA) تدشين مكتب مساندة الاقتصاد الأخضر في السلطنة، والذي يهدف إلى تطوير مشاريع إنتاجية تُعنى باستدامة البيئة من خلال الاستغلال الأمثل للموارد الطبيعية. في ضوء ذلك:

١- استنتج المقصود بالاقتصاد الأخضر.

٢- أعطِ أمثلة على مشاريع اقتصادية خضراء.

٣- من وجهة نظرك، ما الإجراءات اللازمة لِتَحَوُّلِ السلطنة إلى الاقتصاد الأخضر؟



امتحان وزاري 2026

ص 66 بالكتاب المدرسي

امثلة على أهمية (فكر وناقش)

35

فسر ما يأتي :

2- تعاون سلطنة عمان مع اللجنة الاقتصادية والاجتماعية لغربي آسيا (الاسكوا) .

وذلك بهدف تطوير المشاريع الإنتاجية التي تعنى باستدامة البيئة من خلال الاستغلال الأمثل للموارد الطبيعية

قناة حمزة التعليمية

واتس / 79517445

فكّر وناقش

في ظـل اهتمام سلطنة عُمـان بالمحافظة على البيئـة، فقد تم وبالتعاون مـع اللجنة الاقتصادية والاجتماعيـة لغربـي آسيا (الإسكـوا ESCWA) تدشين مكتـب مساندة الاقتصـاد الأخضر في السلطنـة، والذي يهـدف إلى تطوير مشاريـع إنتاجية تُعنى باستدامة البيئـة من خلال الاستغلال الأمثل للموارد الطبيعية. في ضوء ذلك:

١- استنتج المقصود بالاقتصاد الأخضر.

٢- أعطِ أمثلة على مشاريع اقتصادية خضراء.

٣- من وجهة نظرك، ما الإجراءات اللازمة لِتَحَوُّلِ السلطنة إلى الاقتصاد الأخضر؟



امتحان وزاري

ص 66 بالكتاب المدرسي

Fileae.com/om
2026 2025
موقع فايلي العمانية

امثلة على أهمية (فكر وناقش)

فكّر وناقش

في ظـل اهتمام سلطنة عُمـان بالمحافظة على البيئـة، فقد تم وبالتعاون مـع اللجنة الاقتصادية والاجتماعيـة لغربـي آسيا (الإسكـوا ESCWA) تدشين مكتـب مساندة الاقتصـاد الأخضر في السلطنـة، والذي يهـدف إلى تطوير مشاريـع إنتاجية تُعنى باستدامة البيئـة من خلال الاستغلال الأمثل للموارد الطبيعية. في ضوء ذلك:

١- استنتج المقصود بالاقتصاد الأخضر.

٢- أعطِ أمثلة على مشاريع اقتصادية خضراء.

٣- من وجهة نظرك، ما الإجراءات اللازمة لِتَحَوُّلِ السلطنة إلى الاقتصاد الأخضر؟

اللجنة التي تعاونت مع حكومة سلطنة عُمان لتدشين مكتب مساندة الاقتصاد الأخضر:

- ☐ IMO
- ☐ ESCWA
- ☐ UNESCO
- ☐ UNEP

امتحان وزاري
24-23

ص 66 بالكتاب المدرسي



امثلة على أهمية (فكر وناقش)

69

المنظمة التي تعاونت معها السلطنة من اجل تطوير مشاريع إنتاجية تعنى باستدامة البيئة

أ اليونسكو

ب الايسسكو

ج الاسكوا

د الفاو

فكّر وناقش

في ظل اهتمام سلطنة عُمان بالمحافظة على البيئة، فقد تم وبالتعاون مع اللجنة الاقتصادية والاجتماعية لغربي آسيا (الإسكوا ESCWA) تدشين مكتب مساندة الاقتصاد الأخضر في السلطنة، والذي يهدف إلى تطوير مشاريع إنتاجية تُعنى باستدامة البيئة من خلال الاستغلال الأمثل للموارد الطبيعية. في ضوء ذلك:

١- استنتج المقصود بالاقتصاد الأخضر.

٢- أعطِ أمثلة على مشاريع اقتصادية خضراء.

٣- من وجهة نظرك، ما الإجراءات اللازمة لِتَحَوُّلِ السلطنة إلى الاقتصاد الأخضر؟



امتحان تجريبي
قناة حمزة التعليمية

ص 66 بالكتاب المدرسي

Fileae.com/om 2026 2025 موقع فايلاتي العمانية

امثلة على أهمية (فكر وناقش بالكتاب المدرسي)

وضح إثر : -

موقع سلطنة عمان الفلكي على تنوع بيئاتها الطبيعية

34 - تنوع المناخ (صحراوي – موسمي – بحر متوسط)

امتداد سواحل السلطنة بشكل طولي

قناة حمزة التعليمية

واتس / 79517445



امتحان وزاري



ص 60 بالكتاب المدرسي

Fileae.com/om
2026 2025
موقع فيليني العمانية

امثلة على أهمية (أضف الى معلوماتك بالكتاب المدرسي)

72 المحافظة التي يوجد بها كهف الهوتة : -

أ مسندم

ب جنوب الباطنة

ج مسقط

د الداخلية



امتحان تجريبي
قناة حمزة التعليمية



ص 62 بالكتاب المدرسي

امثلة على أهمية (خرائط)







امتحان تجريبي
قناة حمزة التعليمية

ص 62 بالكتاب المدرسي

امثلة على أهمية (أضف الى معلوماتك بالكتاب المدرسي)

62 رقم المادة في النظام الأساسي التي نصت على المحافظة على البيئة وحمايتها ومنع التلوث

أ) 10

ب) 11

ج) 12

د) 13

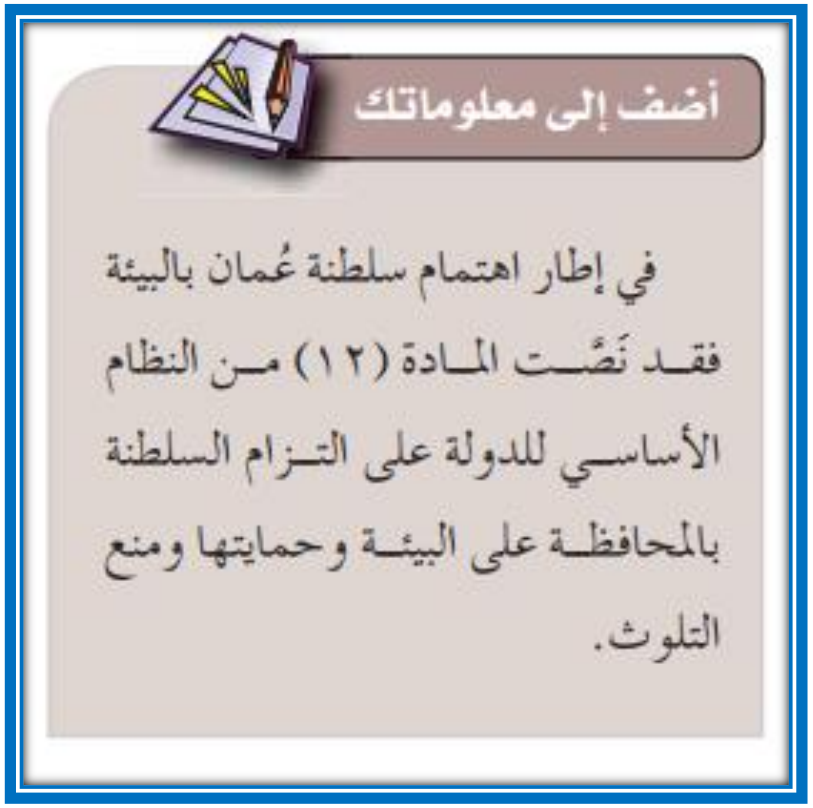

امتحان تجريبي
قناة حمزة التعليمية



ص 63 بالكتاب المدرسي


قضايا بيئية
تحديات عالمية
وجهود وطنية

امثلة على أهمية (أضف الى معلوماتك بالكتاب المدرسي)

العام الميلادي الذي انضمت فيه سلطنة عُمان إلى اتفاقية (مينا ماتا) بشأن الزئبق:

- ☐ ٢٠١٨
- ☐ ٢٠١٩
- ☐ ٢٠٢٠
- ☐ ٢٠٢١



امتحان وزاري



ص 71 بالكتاب المدرسي

امثلة على أهمية (أضف الى معلوماتك بالكتاب المدرسي)



استهدفت اتفاقية ميناماتا عام ٢٠٢٠م حماية صحة الإنسان والبيئة من مخاطر:

37

1 الرصاص.

2 الزئبق.

3 الكبريت.

4 الزنك.

قناة حمزة التعليمية

واتس / 79517445



امتحان وزاري

ص 71 بالكتاب المدرسي

Fileae.com/om
2026 2025
موقع فيليني العمانية

امثلة على أهمية (أضف الى معلوماتك بالكتاب المدرسي)

الفصل الذي يزور فيه الصقر الأدهم سلطنة عُمان:

38

1 الصيف.

2 الخريف.

3 الشتاء.

4 الربيع.

قناة حمزة التعليمية

واتس / 79517445

أضف إلى معلوماتك



الصقر الأدهم

من الطيور المهاجرة المعرضة للانقراض، ويزور السلطنة في فصل الصيف، حيث يُعَشِّشُ على سواحل بحر عُمان لاسيما جزر الديمانيات وجزيرة الفحل.

امتحان وزاري

ص 74 بالكتاب المدرسي

امثلة على أهمية (توظيف المصادر)

ادرس القرار الوزاري الآتي، ثم أجب عن الأسئلة التي تليه.

قرار وزاري
رقم ٢٠٢٠/٢٣
بشأن حظر استخدام أكياس التسوق البلاستيكية أحادية الاستهلاك

استنادا إلى قانون حماية البيئة ومكافحة التلوث الصادر بالمرسوم السلطاني رقم ٢٠٠١/١١٤،
وإلى المرسوم السلطاني رقم ٢٠٠٨/١٨ بتحديد اختصاصات وزارة البيئة والشؤون المناخية واعتماد هيكلها التنظيمي،
وبناء على ما تقتضيه المصلحة العامة،

تقرر

المادة الأولى
يحظر على الشركات والمؤسسات استخدام أكياس التسوق البلاستيكية أحادية الاستهلاك التي تستخدم مرة واحدة حفاظا على البيئة العمانية .

المادة الثانية
مع عدم الإخلال بأي عقوبة أشد ينص عليها قانون حماية البيئة ومكافحة التلوث المشار إليه، تفرض غرامة إدارية لا تقل عن (١٠٠) مائة ريال عماني ، ولا تزيد على (٢٠٠٠) ألفي ريال عماني على كل من يخالف أحكام هذا القرار، وتضاعف في حالة تكرار ارتكاب المخالفة .

المادة الثالثة
على الجهات المختصة تنفيذ هذا القرار ،كل في مجال اختصاصه .

المادة الرابعة
ينشر هذا القرار في الجريدة الرسمية ، ويعمل به من أول يناير ٢٠٢١م .

صدر في : ١٤ من رجب سنة ١٤٤١هـ
الموافق : ٩ من مارس سنة ٢٠٢٠م

(١) ما الموضوع الذي تطرق إليه القرار السابق؟

حظر استهلاك أكياس التسوق البلاستيكية أحادية الاستهلاك

(٢) صنف نوع النفايات الواردة في القرار.

النفايات الصلبة – النفايات الخطيرة

(٣) ما الإجراء المتخذ على كل من يخالف أحكام هذا القرار؟

غرامة مالية لا تقل عن (100) ريال عماني ولا تزيد عن (2000) ريال عماني وتضاعف في ..

(٤) اقترح بديلًا آخر للمادة المحظورة الواردة في القرار.

استخدام أكياس صديقة البيئة / أكياس ورقية
أكياس مصنوعة من مواد عضوية

توظيف المصادر / التقانة

١- ابحث عن أضرار المنتجات البلاستيكية على البيئة، موضحًا دور المؤسسات المُعْنِيَةِ في التعامل السليم معها، ثم اقترح بدائل صديقة للبيئة.

٢- وضِّح المنهجية التي تتبعها السلطنة في إدارة النُّفايات، وأبرز المشاريع المستقبلية، ثم اعرض ما توصلت إليه في الصف.

امتحان وزاري



ص 72 بالكتاب المدرسي

Fileae.com/om
2026 2025
موقع فيلني العمانية

امثلة على أهمية (الاشكال بالكتاب المدرسي)

س٢١- (أ)

اجب عن الأسئلة التابعة للشكل التوضيحي المقابل.

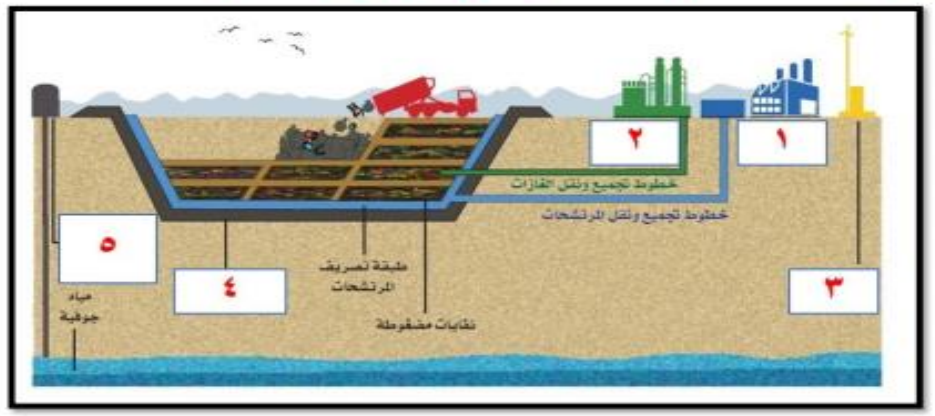

اكتب ما يشير اليه الأرقام .

١ - .....

٢ - .....

٣-سم الشكل التوضيحي الذي امامك؟

.....

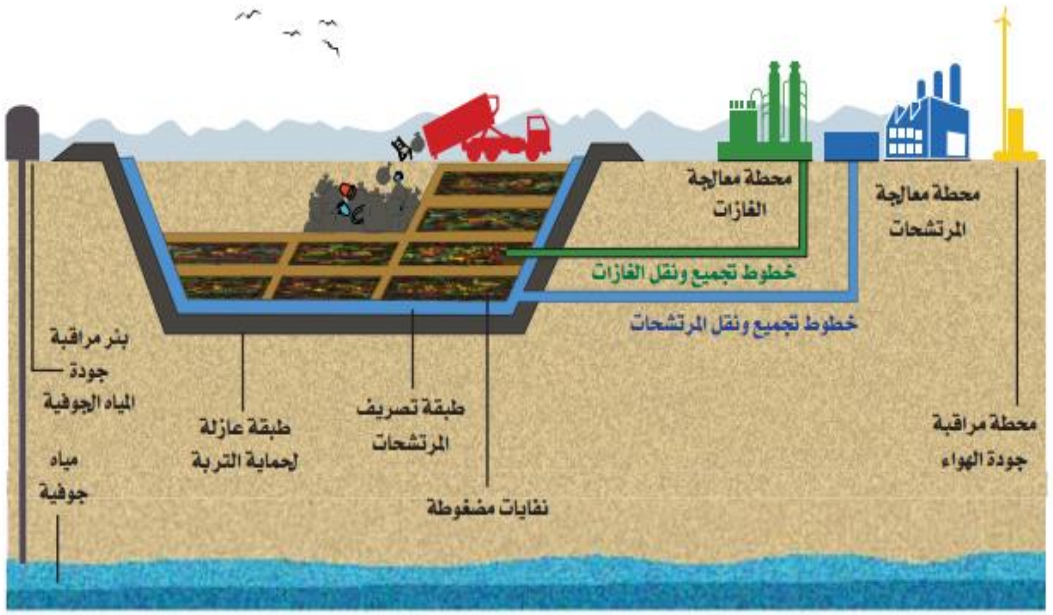

الشكل (٨) رسم توضيحي لمردم هندسي



امتحان تجريبي
قناة حمزة التعليمية

ص 71 بالكتاب المدرسي

امثلة على أهمية (الاشكال بالكتاب المدرسي)

١٣) أهمية الجزء المشار إليه بالرمز (ل):



- ☐ حماية التربة.
- ☐ مراقبة جودة الهواء.
- ☐ مراقبة جودة المياه الجوفية.
- ☐ تجميع الغازات الناجمة من النفايات.

١٤) طريقة التخلص من النفايات التي يوضحها الشكل:

- ☐ الدفن.
- ☐ الحرق.
- ☐ التسميد.
- ☐ إعادة الاستخدام.

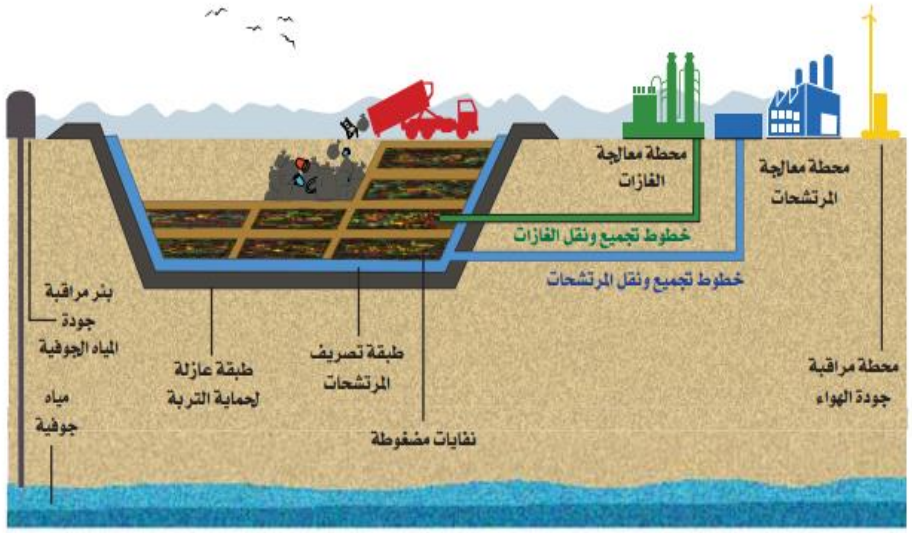

الشكل (٨) رسم توضيحي لمردم هندسي



ص 71 بالكتاب المدرسي

امتحان وزارى 2025- 2026م

امثلة على أهمية (الاشكال بالكتاب المدرسي)



الشكل (٩) من الأسباب البشرية المؤدية إلى انقراض الحيوانات

"يعد انقراض الحيوانات من القضايا البيئية الراهنة التي حظيت باهتمام العديد من الدول والمنظمات على مستوى العالم". في ضوء العبارة أجب عما يأتي.

(١) عرّف المفهوم الذي تحته خط في العبارة السابقة.

وفاة اخر حيوان قادر على التكاثر من تلك الفصيلة

(٢) اذكر سببين من الأسباب البشرية المؤدية إلى انقراض الحيوانات.

امتحان وزاري



ص 73 بالكتاب المدرسي

امثلة على أهمية (الاشكال بالكتاب المدرسي)



الشكل (٩) من الأسباب البشرية المؤدية إلى انقراض الحيوانات

م	الأمثلة	سبب التهديد (طبيعي/بشري)
١	تعيش (سلحفاة الغابة) في كولومبيا ولم يبقَ منها إلا القليل بعد تسارع قطع أشجار الغابات وإتلاف بيئتها.	بشرى
٢	يوجد (وحيد القرن) في كينيا ولم يبقَ منه إلا أعداد بسيطة بسبب تعرضه لعدوى بكتيرية ومشاكل صحية.	طبيعي
٣	لم يبقَ من (ببغاء البراكيت) إلا حوالي (٢٠٠) طائر تعيش في جزيرة موريشيوس بسبب فقدانه الغذاء الذي تشاركه فيه فئران الجزيرة وتنافسه عليه مما أدى إلى موته.	طبيعي
٤	يوجد (حصان برزوالسكي) في منغوليا، وبسبب إنشاء المصانع وتوسع المدن أدى إلى انحساره.	بشرى

ص 73 بالكتاب المدرسي

امتحان وزاري

امثلة على أهمية (الاشكال بالكتاب المدرسي)



الشكل (٩) من الأسباب البشرية المؤدية إلى انقراض الحيوانات

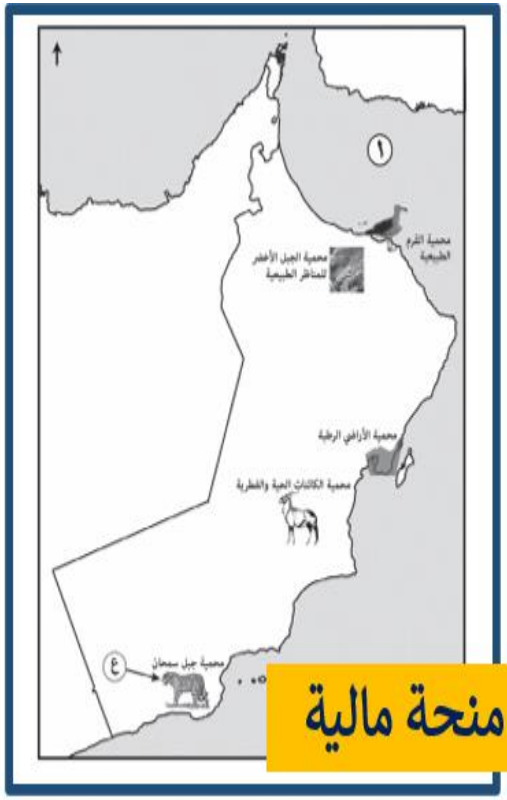

(١) استخرج من الخريطة اسم المحمية الطبيعية التي توجد في محافظة مسقط.

القرم الطبيعية

(٢) اذكر سببًا واحدًا من الأسباب البشرية المؤدية إلى انقراض الحيوان المشار إليه بالرمز (ع) في الخريطة.

(٣) سمّ المسطح المائي المشار إليه بالرقم (١) في الخريطة.

بحر عمان

. ممّ تتكوّن جائزة السلطان قابوس لصون البيئة؟

شهادة تقديرية- منحة مالية

ص 73 بالكتاب المدرسي

امتحان وزاري

Fileae.com/om
2026 2025
موقع فيليني العمانية

امثلة على أهمية (مفاهيم بالكتاب المدرسي)

تنشأ محمية طبيعية باسم (محمية خور خرفوت الأثري في محافظة ظفار)، وتخصص لها المنطقة المحددة أبعادها في الملحق، والخريطة المرفقين.

المادة الثانية

يصدر رئيس هيئة البيئة اللوائح والقرارات المنفذة لهذا المرسوم بالتنسيق مع الوزارات والجهات المعنية، على أن تتضمن طريقة إدارة المحمية، والقواعد المنظمة لدخول الجمهور، والرسوم المقررة لذلك، وأوقات وجودهم فيها، والأنشطة المسموح لهم بممارستها، وتلك المحظورة عليهم، والجزاءات الإدارية المناسبة في كل حالة.

المادة الثالثة

ينشر هذا المرسوم في الجريدة الرسمية، ويعمل به من اليوم التالي لتاريخ نشره.

صدر في : ١٤ من محرم سنة ١٤٤٣هـ
الموافق : ٢٣ من أغسطس سنة ٢٠٢١م

هيثم بن طارق
سلطان عمان

(١) استخرج من المرسوم السلطاني ما يأتي:

أ- الموضوع الذي تطرق إليه المرسوم السلطاني.

ب- اسم القانون الخاص الذي استند عليه إصدار المرسوم السلطاني.

ج- اسم المؤسسة الحكومية المعنية بإصدار اللوائح والقرارات المنفذة للمرسوم السلطاني.

(٢) عرّف المفهوم الذي تحته خط الوارد في المرسوم السلطاني أعلاه.

المحمية الطبيعية:

مساحة جغرافية محددة تتمتع بحماية خاصة لصون بيئتها الطبيعية أو الثقافية أو لحماية نوع من الحيوانات أو النباتات البرية أو البحرية.

ص 75 بالكتاب المدرسي

امثلة على أهمية (مفاهيم بالكتاب المدرسي)

51

اكتب اسم المفهوم أو المصطلح الدال على العبارات الآتية.

م	العبارة	المفهوم أو المصطلح
١	مساحة جغرافية محددة تتمتع بحماية خاصة لصون بيئتها الطبيعية أو الثقافية أو لحماية نوع من الحيوانات أو النباتات.	المحمية الطبيعية
٢	عمليات جمع ونقل ومعالجة المخلفات للتخلص منها.	إدارة النفايات

المحمية الطبيعية:

مساحة جغرافية محددة تتمتع بحماية خاصة لصون بيئتها الطبيعية أو الثقافية أو لحماية نوع من الحيوانات أو النباتات البرية أو البحرية.

ص 75 بالكتاب المدرسي

Fileae.com/om
2026 2025
موقع فيليني التعليمي

امثلة على أهمية (أضف الى معلوماتك بالكتاب المدرسي)

ادرس القرار الوزاري الآتي، ثم أجب عن الأسئلة التي تليه.

قرار وزاري
رقم ٢٠٢٠/٢٣
بشأن حظر استخدام أكياس التسوق البلاستيكية أحادية الاستهلاك

استنادا إلى قانون حماية البيئة ومكافحة التلوث الصادر بالمرسوم السلطاني رقم ٢٠٠١/١١٤،
وإلى المرسوم السلطاني رقم ٢٠٠٨/١٨ بتحديد اختصاصات وزارة البيئة والشؤون المناخية واعتماد هيكلها التنظيمي،
وبناء على ما تقتضيه المصلحة العامة،

تقرر

المادة الأولى
يحظر على الشركات والمؤسسات استخدام أكياس التسوق البلاستيكية أحادية الاستهلاك التي تستخدم مرة واحدة حفاظا على البيئة العمانية .

المادة الثانية
مع عدم الإخلال بأي عقوبة أشد ينص عليها قانون حماية البيئة ومكافحة التلوث المشار إليه، تفرض غرامة إدارية لا تقل عن (١٠٠) مائة ريال عماني ، ولا تزيد على (٢٠٠٠) ألفي ريال عماني على كل من يخالف أحكام هذا القرار، وتضاعف في حالة تكرار ارتكاب المخالفة .

المادة الثالثة
على الجهات المختصة تنفيذ هذا القرار ،كل في مجال اختصاصه .

المادة الرابعة
ينشر هذا القرار في الجريدة الرسمية ، ويعمل به من أول يناير ٢٠٢١م .

صدر في : ١٤ من رجب سنة ١٤٤١هـ
الموافق : ٩ من مارس سنة ٢٠٢٠م

-9

(١) ما الموضوع الذي تطرق إليه القرار السابق؟

حظر استهلاك أكياس التسوق البلاستيكية أحادية الاستهلاك

(٢) صنف نوع النفايات الواردة في القرار.

النفايات الصلبة – النفايات الخطيرة

(٣) ما الإجراء المتخذ على كل من يخالف أحكام هذا القرار؟

غرامة مالية لا تقل عن (100) ريال عماني ولا تزيد عن (2000) ريال عماني وتضاعف في ..

(٤) اقترح بديلًا آخر للمادة المحظورة الواردة في القرار.

استخدام أكياس صديقة البيئة / أكياس ورقية
أكياس مصنوعة من مواد عضوية

امتحان وزاري



توظيف المصادر / التقانة

١- بالاستعانة بخريطة المحميات الطبيعية الواردة في نهاية الكتاب ومصادر التعلم المختلفة، صمم خريطة ذهنية لأبرز المحميات الطبيعية في السلطنة موضحًا فيها: اسم المحمية وموقعها، وسنة الإعلان عنها، والحياة الفِطْرية الموجودة فيها.

٢- بالرجوع إلى قانون المحميات الطبيعية وصون الأحياء الفِطْرية، استعرض عقوبة من قام عمدًا بقتل أو صيد أو تهريب كلٍّ من:

- السلحفاة الخضراء.
- الوعل العربي.

ص 34 بالكتاب المدرسي

Fileae.com/om
2026 2025
موقع فيلني العمانية

امثلة على أهمية (أضف الى معلوماتك بالكتاب المدرسي)

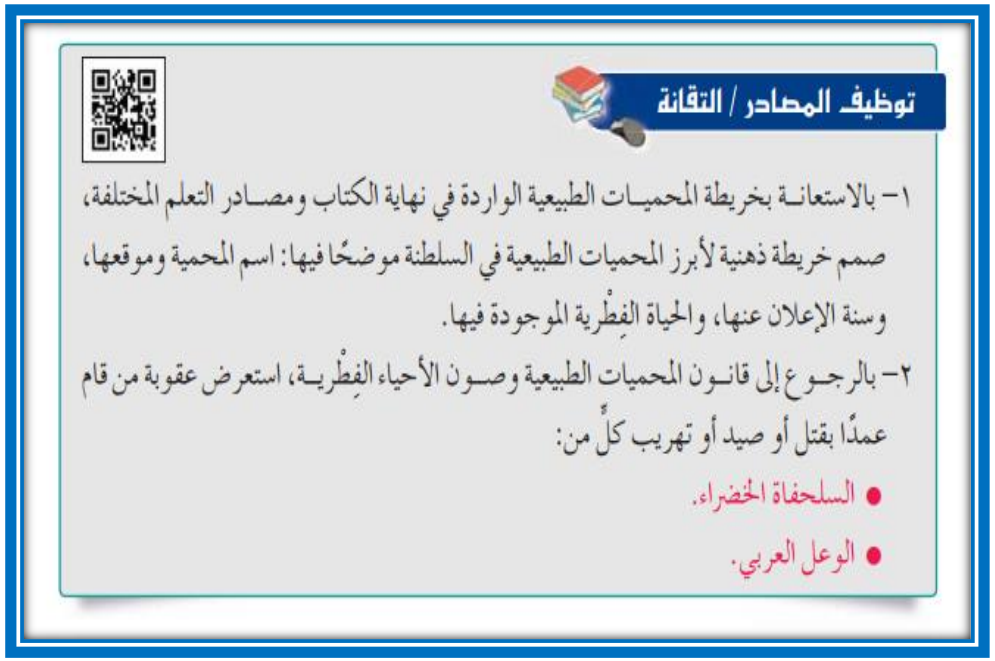





ص 34 بالكتاب المدرسي

امثلة على أهمية (توظيف المصادر)

توظيف المصادر / التقانة

تحظى النُّفايات الخطرة باهتمام دولي كبير لما لها من آثار بيئية ضارة. في ضوء ذلك، وبالرجوع إلى قانون حماية البيئة ومكافحة التلوث، أجب عن الآتي:

١- وضح المقصود بالنُّفايات الخطرة.

٢- ما عقوبة تصريف النُّفايات الخطرة في الأودية أو الأفلاج أو الآبار؟

٣- من وجهة نظرك، ما الحلول المقترحة للتقليل من هذه النُّفايات؟



ص 69 بالكتاب المدرسي

Fileae.com/om
2026 2025
موقع فيلقي التعليمي

س5: - تحظى النفايات الخطرة باهتمام دولي كبير لما لها من آثار بيئية ضارة

في ضوء العبارة السابقة اجب عن الأسئلة التالية :-

أ- ما المقصود بالنفايات الخطرة

هي النفايات التي تحتفظ بسميتها وقابليتها للانفجار أو الاشتعال أو

قدرتها على احداث تآكل أو لها نشاط إشعاعي يزيد عن 100 بيكريل/ جرام

س5- تحظى النفايات الخطرة باهتمام دولي كبير لما لها من آثار بيئية ضارة

في ضوء العبارة السابقة اجب عن الأسئلة التالية :-

ب- ما عقوبة تصريف النفايات الخطرة في الأودية أو الافلاج او الابار .

السجن لمدة لا تقل عن شهر ولا تزيد عن سنة

وبغرامة لا تقل عن (500 ريال) ولا تزيد عن (50000)

او بأحدي هاتين العقوبتين

Fileae.com/om
2026 2025
موقع فيليني العمانية

س5 - تحظى النفايات الخطرة باهتمام دولي كبير لما لها من آثار بيئية ضارة

في ضوء العبارة السابقة اجب عن الأسئلة التالية :-



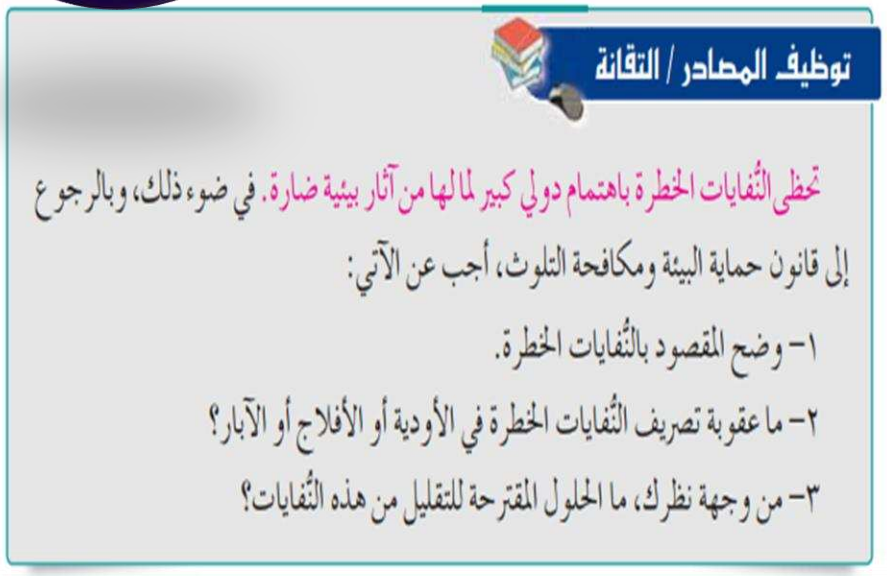
توظيف المصادر / التقانة

تحظى النُّفايات الخطرة باهتمام دولي كبير لما لها من آثار بيئية ضارة. في ضوء ذلك، وبالرجوع إلى قانون حماية البيئة ومكافحة التلوث، أجب عن الآتي:

١- وضح المقصود بالنُّفايات الخطرة.

٢- ما عقوبة تصريف النُّفايات الخطرة في الأودية أو الأفلاج أو الآبار؟

٣- من وجهة نظرك، ما الحلول المقترحة للتقليل من هذه النُّفايات؟

ج - اين يجب معالجة تلك المخلفات

بالقرب من مواقع الإنتاج

Fileae.com/om
2026 2025
موقع فيليني التعليمي



س6 :- انظر الى الصورة التي امامك والتي توضح التعامل مع النفايات في سلطنة عمان ثم اجب

ب- اقترح طريقة للاستفادة من النفايات الواضحة في الصورة

إعادة تدويرها





س6 :- انظر الى الصورة التي امامك والتي توضح التعامل مع

النفايات في سلطنة عمان ثم اجب

أ- ما نوع النفايات التي يتم

التعامل معها في الصورة

النفايات الصلبة


الشمال
المحيط المتجمد الشمالي
آيسلندا
النرويج
السويد
فنلندا
روسيا
إستونيا
لاتفيا
لتوانيا
المحيط الأطلسي
بحر الشمال
بحر البلطيق
الدنمارك
أيرلندا
المملكة المتحدة
هولندا
بلجيكا
لوكسمبورغ
ألمانيا
بولندا
بيلاروسيا
أوكرانيا
التشيك
سلوفاكيا
مولدوفا
فرنسا
سويسرا
النمسا
المجر
رومانيا
آسيا
سلوفينيا
كرواتيا
البوسنة والهرسك
صربيا
البحر الأسود
سان مارينو
إيطاليا
الجبل الأسود
كوسوفو
الشمالية
بلغاريا
البرتغال
إسبانيا
الفاتيكان
ألبانيا
اليونان
تركيا
أفريقيا
مالطا
قبرص
البحر المتوسط
0 500 1,000 1,500 كم
20° 10° 0° 10° 20° 30° 40° 50° 60°
60° 50° 40°



قناة حمزة التعليمية
جغرافيا
تاريخ



قناة حمزة التعليمية
جغرافيا
تاريخ

جائزة السلطان قابوس
لصـون البيئـة

بالاستعانة بالجدول الآتي الذيُ يوضح بعض الجهات الحاصلة على جائزة اليونسكو – السُلطان لصون البيئةُ، أجب عن المفردتين (١١) و (١٢):

العام الميلادي للجائزة	الجهه الفائزة بالجائزة
2011	المعهد النيجيري لبحوث الغابات.
2013	الإدارة الوطنية لحماية الغابات بيولندا، ومنظمة حماية الحياة البرية المُعرضة للخطر بجنوب أفريقيا.
؟	جامعة يونس آيرس بالأرجنتين. (ل)
؟	الحدائق الوطنية في سنغافورة.
2019م	صندوق أشوكا ترست للأبحاثً. (ن)

11 العام الميلادي الذي منحت فيه الجائزة للجهة الفائزة المشار إليها بالرمز (ل):

- ☐ 2014
- ☐ 2015
- ☐ 2016
- ☐ 2017

12 الرقم في الخريطة الذي يشير إلى الدولة التي تنتمي إليها الجهة الفائزة بالجائزة والمشار إليها بالرمز (ن):

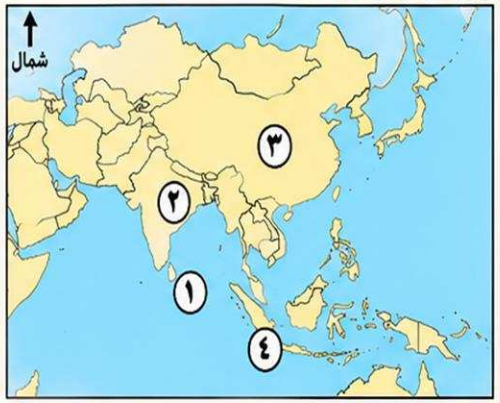

- ☐ 1
- ☐ 2
- ☐ 3
- ☐ 4

قناة حمزة التعليمية
جغرافيا
تاريخ



قناة حمزة التعليمية
جغرافيا
تاريخ

Fileae.com/om
2026 2025
موقع فيليني العمانية



قناة حمزة التعليمية
جغرافيا
تاريخ



تحليل النصوص

عقد السيد سلطان بن أحمد الوسعيدي عام ١٨٠٠م اتفاقية مع ممثل الحكومة البريطانية في الهند (السير جون مالكومْ)، نصت على السماح لبريطانيا بتعيين وكيل سياسي لهم في ميناء مسقط. في ضوء ذلك:

1. دَلَّ على العلاقات العُمانية البريطانيه.
2. فسَّرَ حرص الدول الكبرى على توثيق علاقاتها مع عُمان.

فكر وناقش

1. ناقش مقولة السلطان قابوس بن سعيد - طيّب اللّه ثراه - :
   أريد أن أنظر إلى خريطة العالم ولا أجد بلدًا لا تربطه صداقة بعُمان" .
2. أعدّ أمثلة على القضايا الإقليمية والعالمية التي كان لعُمان دورٌ فاعلٌ في معالجتها.

قناة حمزة التعليمية
جغرافيا
تاريخ


أضف إلى معلوماتك
شركة الهند الشرقية:
تأسست بمرسوم ملكي بريطاني عام ١٦٠٠م، وأعطيت الشركة سلطات احتكارية على تجارة الهند وجميع مستعمرات بريطانيا في جنوب شرق آسيا والصين واليابان فاكتسبت دعما سياسياً وعسكرياً، وانتهت الشركة عام ١٨٥٨م بسبب اندلاع الثورة التي عُرفت بحرب الاستقلال الأولى في الهند.
INDIA
CHINA
JAPA
EAST INDIA COMPANY

س٢٠ :- الوحدة الوطنية مسؤولية الجميع .
في ضوء ذلك ناقش دور الفرد والمجتمع في المحافظة عليها وأثر ذلك على استقرار الوطن.

جـ٢٠- الوحدة الوطنيّة هي أحد أبرز الركائز الوطنيّة وأحد أهم دعائمه ومقوّماته التي تجمع بين أبناء الوطن الواحد وتربط بينهم.

وتقوم الوحدة الوطنية على حب الوطن والانتماء له والدفاع عنه والاعتزاز والفخر بمنجزاته وتراثه والتمسك بمبادئه وعاداته وتقاليده

دور الفرد والمجتمع في المحافظة على الوحدة الوطنية: -

- نشر المحبة والألفة بين أبناء الوطن
- نشر لغة المحبة والتسامح والترابط والتكاتف
- احترام الرأي الآخر وعدم التقليل منه
- اعلاء شعار الدعوة بالحكمة والموعظة الحسنة.
- نشر لغة الحوار بين افراد المجتمع

قناة حمزة التعليمية
جغرافيا تاريخ

قوانين خاصة بحل مسائل الجائزة

قناة حمزة التعليمية
جغرافيا تاريخ

المطلوب السنة تطبق المعادلة :

عدد المرات × 2 = الناتج + سنة التأسيس

المطلوب عدد المرات تطبق المعادلة :

السنة المعطاة – سنة التأسيس (1989) = الناتج نقسمه على 2

سؤال تطبيقي (1)

تم منح جائزة السلطان قابوس لصون البيئة عام 2019م للمرة:

- ☐ الحادية عشرة.
- ☐ الثالثة عشرة.
- ☑ الخامسة عشرة.
- ☐ السابعة عشرة.

حل المسألة تطبق المعادلة

السنة المعطاة – سنة التأسيس (1989) = الناتج نقسمه على 2

2019 – 1989 = 30 ÷ 2 = 15 مرة

سؤال تطبيقي (2)

(11) العام الميلادي الذي تم فيه تسليم الجائزة في نسختها الرابعة عشرة:

- ☐ 2013
- ☐ 2015
- ☑ 2017
- ☐ 2019

حل المسألة تطبق المعادلة

عدد المرات × 2 = الناتج + سنة التأسيس

14 × 2 = 28 + 1989 = 2017

سؤال تطبيقي (3)

س2: العام الميلادي الذي قدمت فيه جائزة السلطان قابوس لصون البيئة للمرة الخامسة:

- أ - 1998
- ☑ ب - 1999
- ☐ ج - 2001
- ☐ د - 2003

حل المسألة تطبق المعادلة

عدد المرات × 2 = الناتج + سنة التأسيس

5 × 2 = 10 + 1989 = 1999

سؤال تطبيقي (4)

س3: ما العام الميلادي الذي قدمت فيه جائزة السلطان قابوس لصون البيئة للمرة الثامنة ؟

حل المسألة تطبق المعادلة

عدد المرات = 2 = الناتج + سنة التأسيس

8 × 2 = 16 + 1989 = 2005



مع أرق الامنيات بالنجاح والتوفيق

سلسلة التميز

هذا وطني

في العراقة والمجد

الصف الثاني عشر



أ / عبدالنبي الفقي

واتس / 79517445

لا تنسونا من صالح الدعاء



رابط
الاشتراك
في القناة

أضغط هنا

معاً الطريق
للتفوق سهل



YouTube
قناة حمزة التعليمية

أ / عبد النبي الفقي

واتس / 79517445