نماذج امتحانات سابقة

almanahj.com/bh
2026 2025
موقع المناهج البحرينية

تم تحميل هذا الملف من موقع مناهج مملكة البحرين

موقع المناهج ⇦ مناهج مملكة البحرين ⇦ الصف التاسع ⇦ المواد الاجتماعية ⇦ الفصل الثاني ⇦ الامتحان النهائي ⇦ الملف

تاريخ إضافة الملف على موقع المناهج: 2026-06-08 13:44:18

المزيد من مادة المواد الاجتماعية:	ملفات ا كتب للمعلم ا كتب للطالب ا اختبارات الكترونية ا اختبارات ا حلول ا عروض بوربوينت ا أوراق عمل منهج انجليزي ا ملخصات وتقارير ا مذكرات وبنوك ا الامتحان النهائي ا للمدرس

التواصل الاجتماعي بحسب الصف التاسع

صفحة مناهج مملكة البحرين على فيسبوك					
المواد على تلغرام	التربية الاسلامية	اللغة العربية	اللغة الانجليزية	الرياضيات	

المزيد من الملفات بحسب الصف التاسع والمادة المواد الاجتماعية في الفصل الثاني

1	كراسة مراجعة شاملة ملف إنجاز الطالبة 2025 و 2026م
2	كراسة أنشطة الطالب 2025 و 2026م
3	مراجعة النهائي
4	نماذج امتحانات سابقة
5	خرائط الامتحانات

Remove Watermark Wondershare PDFelement

مملكة البحرين

وزارة التربية والتعليم

قسم الاختصاصات الداخلية

امتحان الشهادة الإعدادية العامة للعام الدراسي ٢٠٢٣-٢٠٢٤ الفصل الدراسي الثاني

اسم المقرر: الدول الاجتماعية | المدرس: سلطان

السؤال الأول

أولاً: ضع دائرة حول رمز الإجابة الصحيحة من بين البيانات الآتية:

١- يرتبط تاريخ الكويت الحديث بالبيت:

أ. آل الصباح | ب. آل نهيان

ج. آل ثاني | د. آل سعيد

٢- مصطلح مرتبط بالمجموعات (٢٠٠٣-٢٠٠٤) وهو كل من:

أ. بريطانيا وإسبانيا | ب. فرنسا وبريطانيا

ج. فرنسا وأبوتغال | د. البرتغال وإسبانيا

٣- وزارة الخارجية البريطانية التي أصدرت وعداً بتعيين مجلس لإقامة دولة اليهود على أراضي فلسطين هو:

أ. دفتر | ب. تشرشل

ج. بلفور | د. موسوليني

٤- قامت ثورة الضباط الأحرار في مصر سنة ١٩٥٢ وهي:

أ. الملك فيصل بن الحسين | ب. الملك فؤاد

ج. الملك فاروق | د. الملك فاروق

٥- وقعت ليبيا تحت الاستعمار:

أ. البريطاني | ب. الإيطالي

ج. الفرنسي | د. البرتغالي

Remove Watermark Wondershare PDFelement

ثالثاً: ضع دائرة (٢) أمام العبارة الصحيحة وعلامة (×) أمام العبارة الخاطئة:

١. يرجع آل خليفة في نسبهم إلى المعتوب المصنع أساتذة من دون القبيلة العربية الشهيرة. ( )

٢. أحمد محمد عبدالكريم الخطابي مصمم تمثال أفريقيا عام ١٩٣٣م. ( )

٣. يزيد ابتعاد عن مكان مدرسة التكوين المجاورة كتابة ذات موقع متقدم في مدرسة التوجيه الاستعدادي. ( )

٤. شهد عهد الشيخ عيسى بن علي آل خليفة نشأة التعليم النظامي في البحرين عام ١٩٣٩م. ( )

٥. نجح سالم بن زايد في ضم مكان إلى مدرسة سنة ١٩٧٠م. ( )

السؤال الثاني

أولاً: أجب عن الأسئلة الآتية:

١. بين المجالس المحافظة على قيام النهضة الأوروبية (ذكر شرح):

.....

.....

.....

.....

٢. تحدث عن التلقية سليكس بيكو عن مكان (جنة مصيفها - مكان التوفير - الجانب التلقيني).

.....

.....

.....

.....

.....

.....

Almanahj.com/ae
Wondershare PDFelement
2025 2024
موقع المناهج الإماراتية

Remove Watermark Wondershare PDFelement

٢) يجمع المقاسات الاتفاقيات المحلية وعلى الطلاب وبعد الحروب العالمية الأولى (٢٠٠٣-٢٠٠٤م):

- .....
- .....
- .....
- .....

٣) اكمل أسرة مسلمين جيل المجهرين (٥ أغسطس ٢٠٠٧م):

- .....
- .....
- .....
- .....
- .....
- .....

ثالثاً: خير الإجابة الصحيحة في متناول المناسب أدناه:

(الموسيقى - أبوظبي - سيدة - عمان - دبي)

١- تتشكل الإمارات العربية المتحدة من ..... إمارات، ويتعين ..... أقوى هذه الإمارات.

٢- مقتضب ..... أسبق .....

Almanahj.com/bh 2025 2024 موقع المناهج البحرينية Wondershare PDFelement

Remove Watermark Wondershare PDFelement

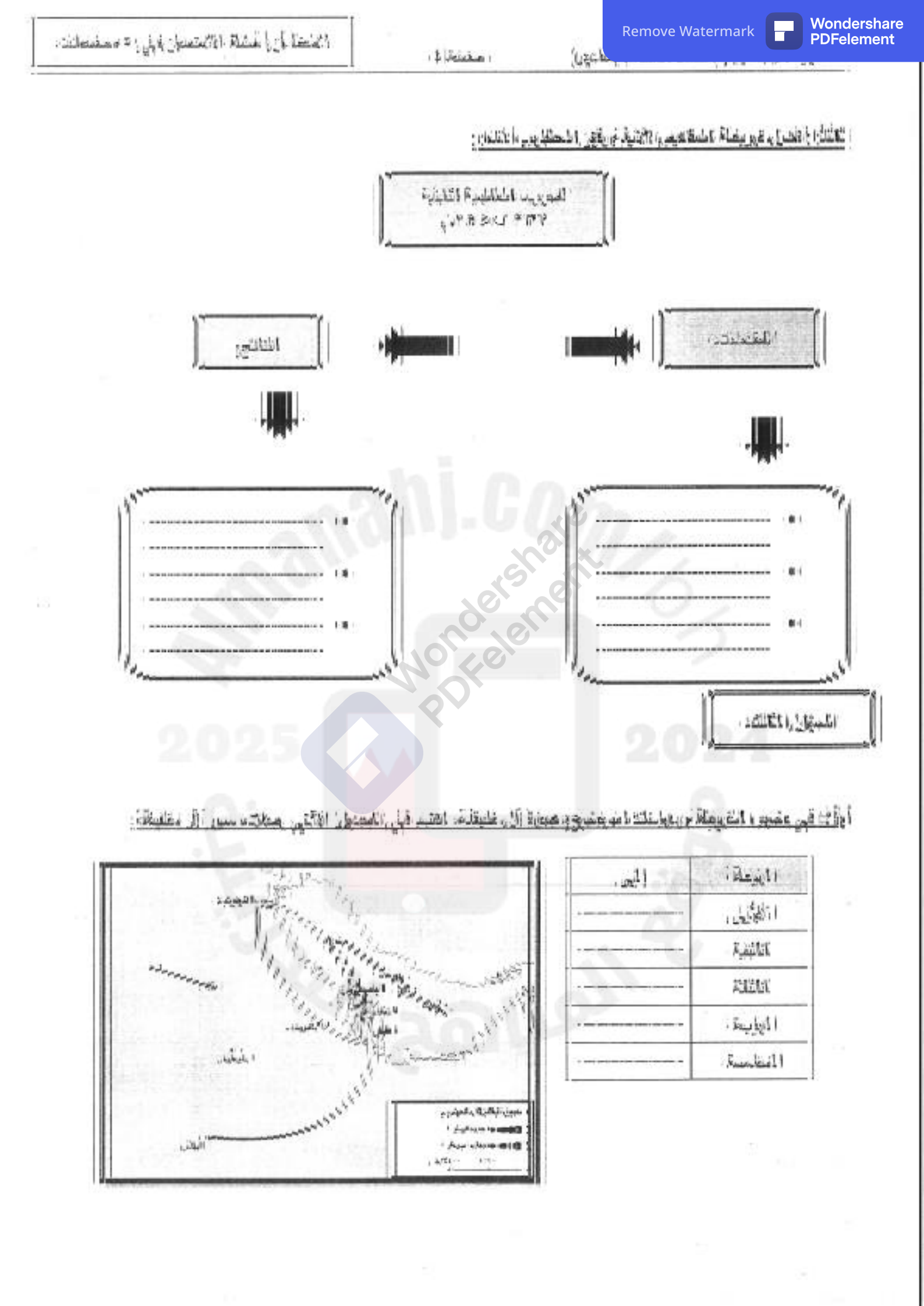

Wondershare PDFelement

Remove Watermark Wondershare PDFelement

كتابة: إذا استنفد الطور أخطاء ثم أجب عن الأسئلة التي تليه:

كان الاتصال المعتمد في الإدارة حقائق للاتصال في البحرين، حيث تطلق أحد المقاتح بوزارة كل تلقيف البصيرة، حتى كان الفوز حقائق أحسن المعاريف والوقت الملائم لقضاء حاجة أهلية الباقية في البحرين، وكانت قوائمه طيارة أي استعدت التنفيذ المهمة بوقت تكون مكان البحرين ويتطلعون إلى حين وتقدم من القوة الأخرى، حيث كان الضعف ساعة بين دروب الساحل الشرقي للبحرين فقد كان لكان قوة شيخ ومستقل، إلا يستطيع أقوامهم منذ تكون من أربع حالة حائل ويقوت بينهم وكانت تراجع وكانت قوة المعتمد في القوة الفاعلة في تلك الوقت، وهنا بين دون القوة باستعداد للعمل في الوقت المناسب لتقرير المصير وصنع المستقبل.

المصدر: الوثائق الهيرتنية، الرقم ٢٠٨٥، صورة ٢٠٠

١- اكتب المصدر الرئيسي المنصور:

.....

٢- ما اسم الفئة الطور فتح البحرين:

.....

٣- يشار الفاتح شخصية لفئة استطاعت في تربية البحرين أين صفحات هذا الفئة:

.....

.....

.....

.....

٤- اسم القوة الفاعلة بين دروب الساحل الشرقي في تلك الوقت:

.....

.....

٥- ويشير أسباب الضعف الفائت بين دروب الساحل الشرقي لشبه الجزيرة العربية قبل فتح البحرين:

.....

.....

.....

.....

" انتهت الأسئلة "

Remove Watermark Wondershare PDFelement

Almanahj.com/bh
2025 2024
موقع المناهج البحرينية
Wondershare PDFelement

Remove Watermark Wondershare PDFelement

لاحظ أن إجابة الامتحان في ٤ صفحات

مملكة البحرين

وزارة التربية والتعليم

قسم الامتحانات الداخلية

الإجابة النموذجية

إجابة امتحان الشهادة الإعدادية العامة للعام الدراسي ٢٠٢٣-٢٠٢٤م الفصل الدراسي الثاني

اسم المقرر: المواد الاجتماعية للصف الثالث الإعدادي الزمن: ساعتان

السؤال الأول ٢٠ علامة

أولاً: ضع دائرة حول رمز الإجابة الصحيحة من بين البدائل الآتية:

١٠ علامات لكل نقطة علامتين

١ . يرتبط تاريخ الكويت الحديث بأسرة:

أ. آل الصباح

٢ . حصلت حرب السبع سنوات(١٧٥٦-١٧٦٣م) بين كلًا من:

ب. فرنسا وبريطانيا

٣ . وزير الخارجية البريطاني الذي أصدر وعدًا ينص على إقامة دولة اليهود على أراضي فلسطين هو:

ج. بلفور

٤. قامت ثورة الضباط الأحرار في مصر سنة ١٩٥٢م ضد:

د. الملك فاروق

٥ . وقعت ليبيا تحت الاستعمار:

ب . الإيطالي

ثانيًا: ضع علامة (√) أمام العبارة الصحيحة وعلامة (×) أمام العبارة الخاطئة:

١٠ علامات لكل نقطة علامتين

١. (√)

٢ . (×)

٣ . (√)

٤ . (√)

٥ . (×)

Almanahj.com Wondershare PDFelement

Remove Watermark Wondershare PDFelement

لاحظ أن إجابة الامتحان في ٤ صفحات

السؤال الثاني **٢٠ درجة**

أولاً : أجب عن الأسئلة الآتية: **١٠ درجات**

١. بيّن العوامل المساعدة على قيام النهضة الأوربية. (دون شرح)

يكتفى بنقطتين، لكل نقطة علامة

أ. ازدهار المدن الإيطالية.

ب. اختراع الطباعة.

ج- نشاط حركة الترجمة.

٢. تحدّث عن اتفاقية سايكس بيكو من خلال (سنة حدوثها – مكان التوقيع – أطراف الاتفاقية).

ثلاث علامات، لكل نقطة علامة، لكل طرف نصف علامة

التاريخ ١٩١٦م.

المكان : مدينة سانت بطرسبرغ الروسية.

الأطراف مارك سايكس مندوب وزارة الخارجية البريطاني- جورج بيكو ممثل فرنسا بحضور المندوب الروسي.

٣ . وضّح انعكاسات اتفاقيات الصلح على العالم بعد الحرب العالمية الأولى١٩١٤-١٩١٨م:

يكتفى بنقطتين، لكل نقطة علامة

ـ الاتحاد السوفيتي خسرت روسيا مساحات شاسعة من أراضيها.

ـ قيام إيطاليا الفاشية.

ـ قيام ألمانيا النازية.

٤ . اذكر أبرز مضامين بيان البحرين ١٤ أغسطس ١٩٧١م.

يكتفى بثلاث نقاط، لكل نقطة علامة

ـ إنهاء جميع المعاهدات مع بريطانيا.

ـ سيادة حكومة البحرين على كامل مجالها.

– حق الانضمام إلى المنظمات الإقليمية والدولية.

Remove Watermark Wondershare PDFelement

لاحظ أن إجابة الامتحان في ٤ صفحات

ثانيًا: ضع الإجابة الصحيحة في مكانها المناسب أدناه:

(البوسعيد - أبوظبي - سبع - عُمان – دبي)

١. تتشكل الإمارات العربية المتحدة من سبع إمارات وتعتبر أبوظبي أكبر هذه الإمارات.

٤ علامات، لكل نقطة علامة

٢. حكمت عُمان أسرة البوسعيد.

ثالثًا: أكمل خريطة المفاهيم الآتية وفق المطلوب أدناه:

٦ علامات، لكل نقطة علامة، يكتفى بـ٣ نقاط للمقدمات، و٣ نقاط للنتائج

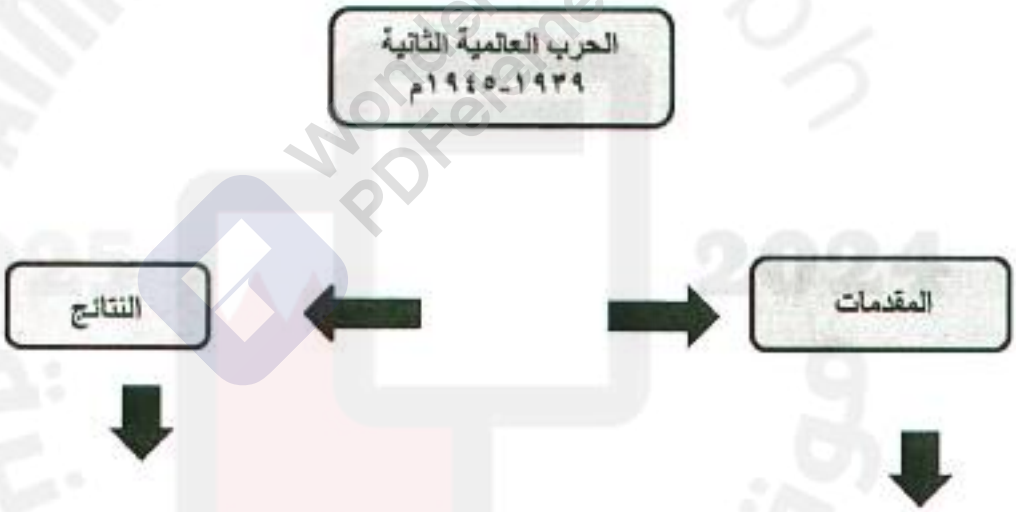

– المقدمات:

- تابع كلًا من هتلر وموسوليني عملياتهم التوسعية.
- احتل هتلر منطقة بوهيميا – مورافيا التشيكوسلوفاكية.
- اجتاحت الجيوش الإيطالية ألبانيا.
- قام هتلر بتوقيع معاهدة الحلف الفولاذي مع موسوليني.
- قام هتلر بتوقيع معاهدة عدم اعتداء مع الاتحاد السوفييتي.
- وجهت ألمانيا إنذارًا إلى بولندا بوجوب إعادة مدينة دانتزغ الحرة إلى الوطن الأم.
- اجتاحت ألمانيا بولندا فأعلنت بريطانيا وفرنسا وهما الضامنتان لاستقلال بولندا، الحرب على ألمانيا.

Remove Watermark Wondershare PDFelement

- النتائج:
  - أحدثت هذه الحرب انقلابًا في النظام الدولي الذي كان قائمًا قبل اندلاعها.
  - تراجعت سيطرة أوروبا.
  - التفت دول العالم حول عملاقين جديدين هما الولايات المتحدة الأمريكية والاتحاد السوفييتي.
  - نشوب الحرب الباردة بين العملاقين.
  - قيام هيئة الأمم المتحدة لتأمين السلام العالمي.

السؤال الثالث **٢٠ علامة**

- أولًا: في ضوء الخريطة ودراستك لموضوع هجرة آل خليفة، اكتب في الجدول الآتي رحلات سير آل خليفة:

١٠ علامات لكل نقطة علامتان

الرحلة	إلى
الأولى	الهدار
الثانية	الأحساء
الثالثة	قطر
الرابعة	الكويت
الخامسة	الزبارة

١٠ علامات لكل نقطة علامتان

- ثانيًا: اقرأ المستند الذي أمامك ثم أجب عن الأسئلة التي تليه:

١- اذكر الحدث الرئيسي للنص: فتح البحرين.

٢- ما اسم القائد الذي فتح البحرين: أحمد الفاتح

٣- يمثل الفاتح شخصية القائد العظيم في تاريخ البحرين" أبرز صفات هذا القائد: يكتفى بنقطتين، لكل نقطة علامة.

ثاقب البصيرة – مستثمرًا الفوز –مختارًا أحسن الظروف والوقت الملائم للقضاء على قوة أعدائه/ تُقبل أي إجابة مناسبة.

٤- سم القوة الفاعلة بين عرب الساحل الشرقي في ذلك الوقت؟ قوة العتوب

٥- وضّح أسباب الضعف السائد بين عرب الساحل الشرقي لشبه الجزيرة العربية قُبيل فتح البحرين؟ يكتفى بنقطتين، لكل نقطة علامة.

كان لكل قرية شيخ مستقل، ولايستطيع أقواهم حشد أكثر من أربع مائة مقاتل، وتسود بينهم حالات نزاع.

انتهت الإجابة

Remove Watermark Wondershare PDFelement

الاعتماد أن أسئلة الامتحان في ٤ صفحات

[illegible] صفحة [illegible]

المحافظة

مملكة البحرين

وزارة التربية والتعليم

قسم الامتحانات الداخلية

امتحان نهاية الفصل الدراسي الثاني للعام الدراسي 2023/2024م

اسم المقرر: المواد الاجتماعية للصف الثالث الإعدادي — الزمن: ساعتان

السؤال الأول

أولاً: ضع دائرة حول رمز الإجابة الصحيحة من بين البدائل الآتية:

١- بزنطة تزوج وفتحان المحيط بالسرة:

أ- آل الصباح — ب- آل نهيان

ج- آل ثاني — د- البوسعيد

٢- حرب الخليج وتوابعها (١٩٩٠-١٩٩١م) مصطلح بين ثلاث دول:

أ- بريطانيا وأمريكا — ب- فرنسا وبريطانيا

ج- فرنسا وإيطاليا — د- البرتغال وأمريكا

٣- تم توقيع اتفاقية سايكس بيكو عام (١٩١٦م) في مدينة:

أ- لندن — ب- باريس

ج- روما — د- سان بطرسبرغ

٤- قامت ثورة الضباط الأحرار في مصر سنة ١٩٥٢م وقت:

أ- الملك فاروق — ب- الملك علي

ج- الملك فؤاد — د- الملك فيصل بن الحسين

٥- أسس مصالح الخليج في الهند سنة ١٩٢٣م بمدينة:

أ- نصر غرب أفريقيا — ب- نصر غرب أفريقيا

ج- نصر شمال أفريقيا — د- نصر جنوب أفريقيا

Remove Watermark Wondershare PDFelement

ثالثاً: ضع علامة (✓) أمام العبارة الصحيحة وعلامة (×) أمام العبارة الخاطئة:

١. يرجع أن مخلفة في نجمهم إلى المعبد المنصوب مأخوذ من دعوة القبيلة لمعبدة الشهيرة. ( )

٢. شهدت المرحلة الثانية من المعبد العاشرة الأولى انسحاب روسيا من المعبد. ( )

٣. وصلت البرتغاليون نفوذهم على البحرين بحسوبة سنة ١٥٣٧م. ( )

٤. شهد عهد الشيخ محمد بن عيسى آل خليفة (١٨٤٢-١٨٤٣م) بداية احتكار النفط وتوقيع المعاهدات الإدارية. ( )

٥. تم نفي البحرين ١٨٣٤م على يد الشيخ عيسى بن علي آل خليفة. ( )

السؤال الثاني

أولاً: أجب عن الأسئلة الآتية:

١. اتخذ العوامل المساعدة في قيام النهضة الأوروبية. (بدون شرح).

.....

.....

.....

.....

٢. استفد من بعد بلفور من مكان (ستة أبعد - وظيفة بلفور - قوة الوعد).

.....

.....

.....

.....

.....

.....

٣. وضّح المقدمات التفاقيات الصليح على العالم بعد المعبد العاشرة الأولى. (بدون شرح).

.....

.....

.....

.....

Remove Watermark Wondershare PDFelement

٤- يتم حساب بيان البنكين ٤٥ أغسطس ٢٠٢٣م.

.....

.....

.....

.....

٥- اذكر أهم الأحداث التي تقع في الشرق وحدها أسلوب الصراع وتنتهي بعقد دولة الهند سنة ٢٠٠٥م.

.....

.....

.....

.....

.....

.....

الثالث: تتبع الإجابة المحصورة في مكانها المناسب أدناه:

(البوسعيد - أبو ظبي - سيدي - عمان - أكمل - حبي)

١- تنتظر الإجابات الطبية المتعددة من: ..... إجابات يؤمنون ..... أثر هذه الإجابات.

٢- عقدت ..... أطرق .....

المجال الثالث

أولاً: أجرى غرفة المناهج الآلية من المعرب العاطفية الثانية:

المعرب العاطفية الثانية
٢٠٢٣/٤/٢٥م

المقدمات

.....

.....

.....

.....

.....

.....

النتائج

.....

.....

.....

.....

.....

.....

Almanahj.com Wondershare PDFelement 2025 2024 موقع المناهج الإلكترونية

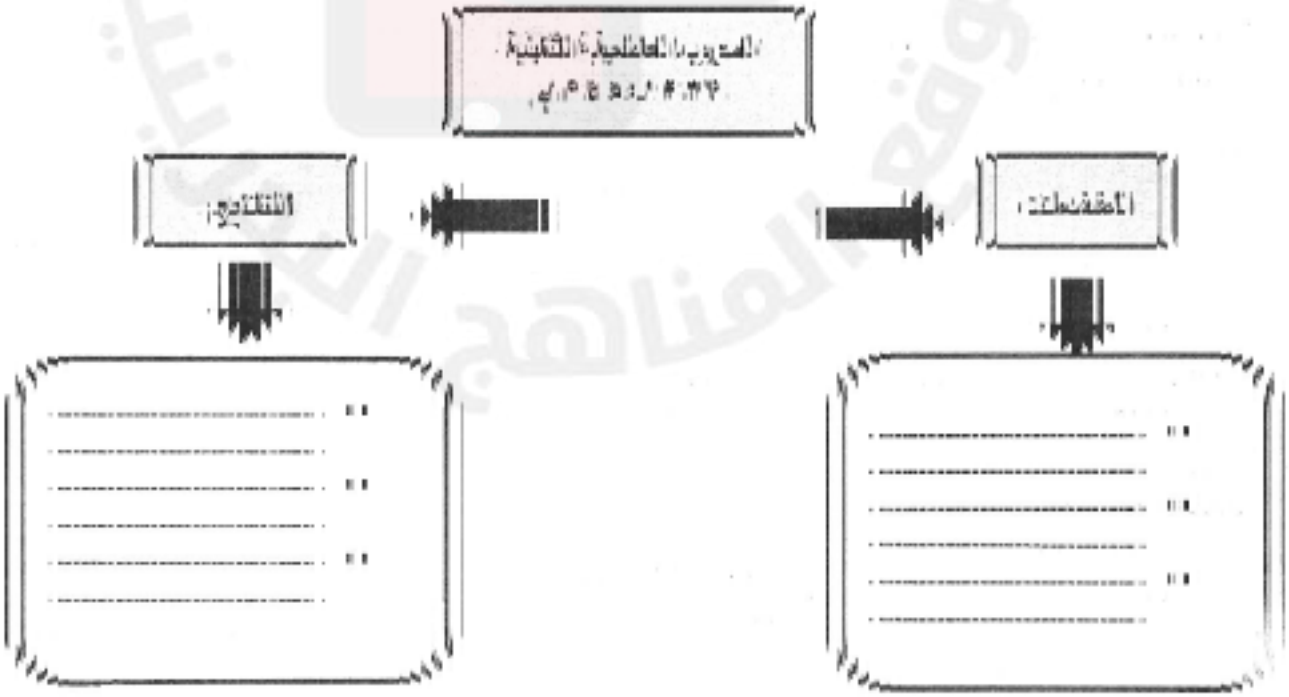

Remove Watermark Wondershare PDFelement

ثانياً: الجدول الذي أمامك يحتوي على مجموعة من الدول التي تعرضت للاستعمار. أكمل الطبقات الصناعية في الجدول أدناه:

الدولة	دولة الاستعمار
مصر	بريطانيا
الهند	
ليبيا	
الجزائر	
أندونيسيا	

ثالثاً: الملحد أمام مساحة الدول خلال الفترة (من [illegible] إلى [illegible]) رتبها بالأرقام من ([illegible]) إلى ([illegible]) من الأقل إلى الأكثر:

[illegible]	[illegible]	[illegible]	[illegible]	[illegible]

" [illegible] "

Remove Watermark Wondershare PDFelement

لاحظ أن إجابة الامتحان في ٤ صفحات

مملكة البحرين

وزارة التربية والتعليم

قسم الامتحانات الداخلية

الإجابة النموذجية – مكفوفين

إجابة امتحان نهاية الفصل الدراسي الثاني للعام الدراسي 2024/2023 م

اسم المقرر: المواد الاجتماعية للصف الثالث الإعدادي الزمن: ساعتان

السؤال الأول

٢٠ علامة

أولاً: ضع دائرة حول رمز الإجابة الصحيحة من بين البدائل الآتية: (١٠ علامات، لكل نقطة علامتان)

١ . د. البوسعيد

٢ . ب. فرنسا وبريطانيا

٣. د. سان بطرسبرغ

٤. أ. الملك فاروق

٥. ج. نجم شمال أفريقيا

ثانيًا: ضع علامة (√) أمام العبارة الصحيحة وعلامة (×) أمام العبارة الخاطئة: (١٠ علامات، لكل نقطة علامتان)

١. صح

٢ . خطأ

٣. صح

٤ . صح

٥ . خطأ

السؤال الثاني

٢٠ علامة

أولاً: أجب عن الأسئلة الآتية:

١. اذكر العوامل المساعدة في قيام النهضة الأوروبية. (بدون شرح) (يكتفى بنقطتين، لكل نقطة علامة)

- ازدهار المدن الإيطالية.

Remove Watermark Wondershare PDFelement

- اختراع الطباعة.
- نشاط حركة الترجمة.

٢. تحدّث عن وعد بلفور من خلال (سنة الوعد – وظيفة بلفور – فكرة الوعد). (٣ علامات، لكل نقطة علامة)

- سنة الوعد: ١٩١٧م
- وظيفة بلفور : وزير الخارجية البريطاني.
- فكرة الوعد: رغبة بريطانيا في إقامة دولة اليهود على أراضي فلسطين.

٣. وضّح انعكاسات اتفاقيات الصلح على العالم بعد الحرب العالمية الأولى. (بدون شرح)

(يكتفى بنقطتين، لكل نقطة علامة)

- الإتحاد السوفييتي، خسرت روسيا مساحات شاسعة من أراضيها.
- قيام إيطاليا الفاشية.
- قيام ألمانيا النازية.

٤ . بيّن مضامين بيان البحرين ١٤ أغسطس ١٩٧١م. (يكتفى بنقطتين، لكل نقطة علامة)

- إنهاء جميع المعاهدات مع بريطانيا.
- سيادة حكومة البحرين على كامل مجالها.
- حق الانضمام للمنظمات الإقليمية والدولية.

٥- اذكر أهم الأعمال التي قام الشيخ عبدالله السالم الصباح منذ توليه حكم دولة الكويت سنة ١٩٥٠م.

(يكتفى ب٣ نقاط، لكل نقطة علامة)

- تابع سياسة الإعمار التي أطلقها سلفه.
- أخذ يطالب بريطانيا بالاستقلال.
- ألغى المحاكم الأجنبية في بلاده.
- أصدر عملة وطنية.
- اعترفت بريطانيا باستقلال الكويت في عهده.
- دخلت عضوية الجامعة العربية.
- دخلت عضوية الأمم المتحدة.

Remove Watermark Wondershare PDFelement

ثانيًا: ضع الإجابة الصحيحة في مكانها المناسب أدناه: **(٨علامات، لكل نقطة علامتان)**

(البوسعيد ـ أبو ظبي ـ سبع ـ عُمان– قطر – دبي)

١ . تتشكل الإمارات العربية المتحدة من سبع إمارات وتعتبر أبوظبي أكبر هذه الإمارات.

٢ حكمت عمان أسرة البوسعيد.

السؤال الثالث ٢٠ علامة

أولًا: أكمل خريطة المفاهيم الآتية عن الحرب العالمية الثانية:

(٦علامات، يكتفى ب٣ مقدمات و٣ نتائج)

1 . **المقدمات:**

- تابع كلًا من هتلر وموسوليني عملياتهم التوسعية.
- احتل هتلر منطقة بوهيميا – مورافيا التشيكوسلوفاكية.
- اجتاحت الجيوش الإيطالية ألبانيا.
- قام هتلر بتوقيع معاهدة الحلف الفولاذي مع موسوليني.
- قام هتلر بتوقيع معاهدة عدم اعتداء مع الاتحاد السوفييتي.
- وجهت ألمانيا إنذارًا إلى بولندا بوجوب إعادة مدينة دانتزغ الحرة إلى الوطن الأم.
- اجتاحت ألمانيا بولندا فأعلنت بريطانيا وفرنسا وهما الضامنتان لاستقلال بولندا، الحرب على ألمانيا.

2 . **النتائج:**

- أحدثت هذه الحرب انقلابًا في النظام الدولي الذي كان قائمًا قبل اندلاعها.
- تراجعت سيطرة أوروبا.
- التفت دول العالم حول عملاقين جديدين هما الولايات المتحدة الأمريكية والاتحاد السوفييتي.
- نشوب الحرب الباردة بين العملاقين.
- قيام هيئة الأمم المتحدة لتأمين السلام العالمي.

Remove Watermark Wondershare PDFelement

ثانيًا: الجدول الذي أمامك يحتوي على مجموعة من الدول التي تعرضت للاستعمار. أكمل البيانات المطلوبة في الجدول أدناه: (٤ علامات، لكل نقطة علامة)

الدولة	دولة الاستعمار
مصر	بريطانيا
الهند	بريطانيا
ليبيا	إيطاليا
الجزائر	فرنسا
أندونيسيا	هولندا

ثالثًا: أمامك أهم أحداث العراق خلال الفترة (من ١٩٢١م إلى ١٩٥٨م)، رتّبها بالأرقام من (١) إلى (٥) من الأقدم إلى الأحدث:

(١٠ علامات، لكل نقطة علامتان)

- (٥) قيام ثورة ١٤ يوليو ١٩٥٨م، وإعلان الجمهورية.
- (٣) وقوع انقلاب أطاح بالنظام الملكي وقطع العلاقات مع بريطانيا.
- (١) تنصيب فيصل بن الحسين ملكا على العراق.
- (٢) اعتراف بريطانيا باستقلال العراق.
- (٤) دخول العراق في حلف بغداد.

" انتهت الإجابة "

Remove Watermark Wondershare PDFelement

لاحظ أن أسئلة الامتحان في ٦ صفحات

مملكة البحرين

وزارة التربية والتعليم

قسم الامتحانات الداخلية

امتحان الشهادة الإعدادية المعادلة للفصل الدراسي الثاني للعام الدراسي 2024/2023م

المادة: المواد الاجتماعية الزمن: ساعتان

السؤال الأول

أولاً: ضع دائرة حول رمز الإجابة الصحيحة من بين البدائل الآتية:

١ . بلغت حركة الاستعمار الأوربي ذروتها مع قيام الثورة الصناعية في:

أ- أوربا ب- آسيا

ج- أفريقيا د- أمريكا

٢ . السبب المباشر في الحرب العالمية الأولى هو اغتيال ولي عهد النمسا وزوجته في:

أ- باريس ب- لندن

ج- سراييفو د- بولندا

٣ . بموجب مؤتمر سان ريمو عينت فرنسا مندوبًا رسميًا لها على سوريا هو:

أ- جورج بيكو ب- بلفور

ج- مارك سايكس د- غورو

٤. قدم آل ثاني إلى شبه جزيرة قطر من إقليم:

أ-حفر الباطن ب- سدير

ج- العارض د- الوشم

٥- يرجع آل خليفة في نسبهم إلى العتوب من قبيلة:

أ- الأزد ب-عنزة

ج- تميم د- كندة

Remove Watermark Wondershare PDFelement

ثانيا: ضع علامة (√) أمام العبارة الصحيحة وعلامة (×) أمام العبارة الخاطئة:

١. شكلت أحداث سنة ١٩٣٩م الأسباب المباشرة للحرب العالمية الثانية. ( )

٢. واجه الشعب المغربي الاستعمارين الفرنسي والأسباني. ( )

٣. أدى اكتشاف النفط في القرن العشرين إلى تفرد بريطانيا في السيطرة على الخليج العربي. ( )

٤. الوزير الذي واجه الاستعمار الفرنسي في معركة ميسلون قرب دمشق هو شكري القوتلي. ( )

٥. أكبر إمارات الساحل المتصالح في القرن ١٩ م هي دبي. ( )

السؤال الثاني

أجب عن الأسئلة الآتية:

١. اذكر نتائج الحرب العالمية الأولى (١٩١٤-١٩١٨م).

.....

.....

.....

.....

٢. بيّن أبرز مضامين بيان البحرين ١٤ أغسطس ١٩٧١م.

.....

.....

.....

.....

.....

.....

Remove Watermark Wondershare PDFelement

٣. تطرّق إلى وعد بلفور من خلال (ذكر تاريخ الوعد – على ماذا يقضي الوعد).

.....

.....

.....

.....

٤ . وضّح الأسباب والعوامل المساعدة على قيام حركة الاستعمار الأوربي في القرن التاسع عشر.

(دون شرح)

.....

.....

.....

.....

.....

.....

٥- علّل تراجع المحور وانتصار الحلفاء (١٩٤٢-١٩٤٥ م) في الحرب العالمية الثانية.

.....

.....

.....

.....

.....

.....

Wondershare PDFelement

Remove Watermark Wondershare PDFelement

السؤال الثالث

أولًا: اختر من العمود (ب) أسماء الشخصيات التاريخية المناسبة للمنجزات والأعمال المبينة في العمود (أ)، ثم اكتب الحرف الدال على الإجابة الصحيحة في المكان المخصص له:

العمود (أ)	الإجابة	العمود (ب)
١- أعلن قيام حكومة فرنسا الحرة في المنفى سنة ١٩٤٠م.		أ-أحمد بن بيلا.
٢- أعلن إلغاء الانتداب على سوريا ولبنان سنة ١٩٤١م.		ب- السلطان سعيد بن تيمور
٣- أصبح أول رئيس للجزائر بعد الاستقلال.		ج- كاترو.
٤- أسس مدينة الأحمدي التي نسبت إليه.		د- الشيخ أحمد بن محمد الفاتح.
٥- نجح في ضم عُمان الى مسقط وأصبحت كلتاهما دولة واحدة.		هـ- بيتان.
٦- تمكن من فتح البحرين عام ١٧٨٣م.		و- أحمد الجابر الصباح.
		ي- ديغول.

Remove Watermark Wondershare PDFelement

ثانيًا: اقرأ المستند الذي أمامك ثم أجب عن الأسئلة التي تليه:

ميثاق العمل الوطني، هو وثيقة وطنية نبعت من قلب هذا المجتمع وكتبت بأيدي أبنائه، يمثل المواطن البحريني وتطلعاته والمجتمع ومتطلباته وكيفية تطويره.

تحتفل مملكة البحرين في ١٤ فبراير من كل عام بذكرى التصويت على الميثاق الذي يعد وثيقة متكاملة للإصلاح والتحديث في جميع المجالات وبلورة للمشروع الإصلاحي لحضرة صاحب الجلالة الملك حمد بن عيسى آل خليفة والذي تعهد جلالته بتنفيذه منذ تولى مقاليد الحكم في ٦ مارس ١٩٩٩. وترجع أهمية هذه المناسبة للشعب البحريني كونها مهدت الطريق نحو البدء بالمسيرة الديمقراطية في مملكة البحرين

صدر الميثاق في ديسمبر ٢٠٠٠ وحدد المقومات الأساسية لمملكة البحرين، وهوية البحرين الحضارية التاريخية العربية الإسلامية، والمقومات الأساسية للدولة والمجتمع، وعلاقات البحرين الخليجية والعربية والدولية.

وقد أجري استفتاء شعبي في ١٤ فبراير ٢٠٠١ أظهر موافقة أغلبية البحرينيين عليه بنسبة ٩٨,٤٪، حيث يُعد الميثاق الوطني بمثابة ذروة التطور الديمقراطي في البحرين وقد وصفه جلاله الملك بأنه "فتحا جديدا في تاريخ البحرين" خاصة وأنه تضمن الكثير من المبادئ السياسية والاقتصادية التي تؤكد النهج الديمقراطي الانفتاحي للبحرين.

ومن أبرز المحطات التي تلت إقرار الميثاق هي التعديلات الدستورية التي وضعت بنود ميثاق العمل الوطني موضع التنفيذ فكان ذلك إيذانًا بدخول البحرين مرحلة جديدة من الإصلاح والتطوير، فلم يكن للمبادئ التي وردت في الميثاق أن ترى النور إلا بإدخالها في النص التشريعي، كما تم إزالة أو تعديل كل القوانين التي تخالف مبادئ وتوجيهات الميثاق.

البوابة الوطنية- دليل المعلومات – عن المملكة- موقع الكتروني

١/ عرّف ميثاق العمل الوطني.

.....

.....

٢/ حدّد العام الذي تولى فيه حضرة صاحب الجلالة الملك حمد بن عيسى آل خليفة ملك البلاد المعظم حفظه الله ورعاه مقاليد الحكم.

.....

.....

٣/ ما أبرز المحطات التي تلت إقرار الميثاق ؟

.....

.....

٤/ عبّر عن مشاعرك الوطنية كطالب تجاه هذه المناسبة.

.....

.....

Remove Watermark Wondershare PDFelement

ثالثًا: على الخريطة التي أمامك اكتب ما تمثله هذه الأرقام تبعًا لموقعها على الخريطة حسب الترتيب وفق المعطيات بالجدول المرفق.

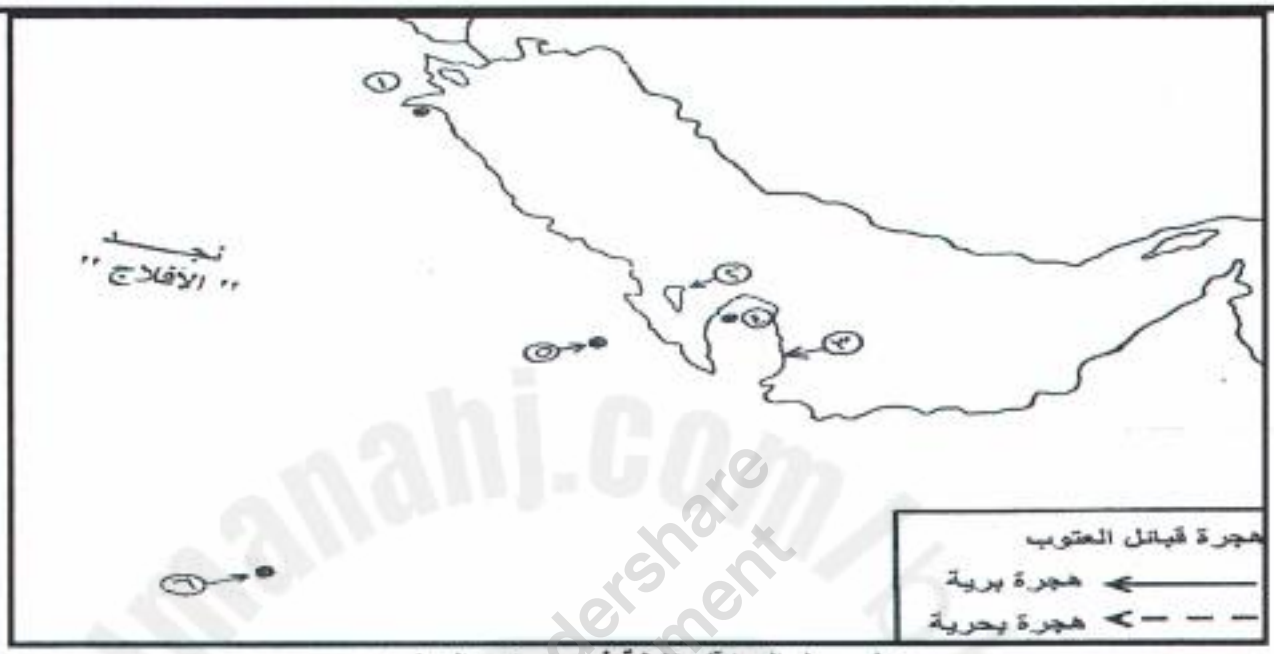

دول وصل إليها آل خليفة في هجرتهم إلى نجد		
١-	٢-	٣- .....
مناطق ومدن وصل إليها آل خليفة في هجرتهم إلى نجد		
٤-	٥-	٦- الهدار

" انتهت الأسئلة "

Remove Watermark Wondershare PDFelement

لاحظ أن إجابة الامتحان في ٥ صفحات

الإجابة النموذجية

مملكة البحرين

وزارة التربية والتعليم

قسم الامتحانات الداخلية

امتحان الشهادة الإعدادية المعادلة للفصل الدراسي الثاني للعام الدراسي 2024/2023 م

اسم المقرر: المواد الاجتماعية الزمن: ساعتان

السؤال الأول ٢٠ درجة

أولاً: ضع دائرة حول رمز الإجابة الصحيحة من بين البدائل الآتية:

١ . أ. أوربا

٢ . ج. سراييفو

٣- د- غورو

٤- د- الوشم

٥ . ب-عنزة

١٠ درجات لكل نقطة درجتان

ثانياً: ضع علامة (√) أمام العبارة الصحيحة وعلامة (×) أمام العبارة الخاطئة:

١. (√)

٢. (√)

٣. (√)

٤. (×)

٥. (×)

١٠ درجات لكل نقطة درجتان

Almanahj.com موقع المناهج

Remove Watermark Wondershare PDFelement

لاحظ أن إجابة الامتحان في ٥ صفحات

السؤال الثاني — **٢٠ درجة**

أجب عن الأسئلة الآتية:

١: اذكر نتائج الحرب العالمية الأولى (١٩١٤-١٩١٨م) — ٤ درجات كل نقطة درجتان يكتفى بنقطتين

- وقوع ملايين القتلى والجرحى.
- الدمار الهائل الذي حل بالأراضي الزراعية والتجمعات السكانية.
- فشلت الحركة الاقتصادية في العالم كله.
- تغير جذري في خريطة أوربا السياسية قامت دول على حساب امبراطوريات.
- الوطن العربي تخلص من السيطرة العثمانية ليقع في قبضة الاستعمار أو الانتداب.
- تأسيس عصبة الأمم.

٢. بين أبرز مضامين بيان البحرين ١٤ أغسطس ١٩٧١م. — ٤ درجات كل نقطة درجتان يكتفى بنقطتين

- إنهاء جميع المعاهدات مع بريطانيا.
- سيادة حكومة البحرين على كامل مجالها.
- حق الانضمام إلى المنظمات الإقليمية والدولية.

٣. تطرّق إلى وعد بلفور من خلال (ذكر تاريخ الوعد – على ماذا يقضي الوعد).

- ٢ نوفمبر ١٩١٧م.
- يقضي برغبة بريطانيا في إقامة دولة اليهود على أراضي فلسطين.

٤ درجات كل نقطة درجتان يكتفى بنقطتين

Remove Watermark Wondershare PDFelement

٤ درجات كل نقطة درجتان يكتفى بنقطتين بدون شرح

٤- وضّح الأسباب والعوامل المساعدة على قيام حركة الاستعمار الأوربي في القرن التاسع عشر.

-الثورة الصناعية.

-العامل السياسي والاستراتيجي.

-العامل الديمغرافي والاجتماعي.

٥- علّل تراجع المحور وانتصار الحلفاء(١٩٤٢-١٩٤٥ م) في الحرب العالمية الثانية.

٤ درجات كل نقطة درجتان يكتفى بنقطتين

-تمكن الأمريكيون من هزيمة اليابانيين في المحيط الهادي.

-انتصار الإنكليز على الألمان في معركة العلمين على الجبهة الافريقية.

-سحق الجيش الأحمر السوفيتي الألمان في معركة ستالينغراد الشهيرة عام ١٩٤٢ م.

-اجتياح الجيش السوفيتي أوربا الوسطى وتقدمه نحو برلين.

-إنزال الحلفاء الغربيون قواتهم في إيطاليا فسقط النظام الفاشي فيها.

-تحرير فرنسا من الاحتلال الألماني.

-التقاء الجيشان السوفيتي والأمريكي في قلب ألمانيا.

-انتحار هتلر وإعلان ألمانيا استسلامها.

-استسلام اليابان بعد إلقاء القنبلتين الذريتين.

Remove Watermark Wondershare PDFelement

لاحظ أن إجابة الامتحان في ٥ صفحات

السؤال الثالث **٢٠ درجة**

أولًا:اختر من العمود (ب) أسماء الشخصيات التاريخية المناسبة للمنجزات والأعمال المبينة في العمود (أ)، ثم اكتب الحرف الدال على الإجابة الصحيحة في المكان المخصص له:

٦ درجات كل نقطة درجة

العمود (أ)	الإجابة	العمود (ب)
١- أعلن قيام حكومة فرنسا الحرة في المنفى سنة ١٩٤٠م.	ي- ديغول.	أ- أحمد بن بيلا
٢- أعلن إلغاء الانتداب على سوريا ولبنان سنة ١٩٤١م.	ج- كاترو.	ب- السلطان سعيد بن تيمور
٣- أصبح أول رئيس للجزائر بعد الاستقلال.	أ- أحمد بن بيلا	ج- كاترو.
٤- أسس مدينة الأحمدي التي نسبت إليه.	و- أحمد الجابر الصباح	د- الشيخ أحمد بن محمد الفاتح.
٥- نجح في ضم عُمان الى مسقط وأصبحت كلتاهما دولة واحدة.	ب- السلطان سعيد بن تيمور	هـ- بيتان.
٦- تم في عهده فتح البحرين عام١٧٨٣م.	د- سلمان بن أحمد الفاتح.	و- أحمد الجابر الصباح
		ي- ديغول.

Remove Watermark Wondershare PDFelement

٤ درجات كل نقطة درجة

ثانيًا: اقرأ المستند الذي أمامك ثم أجب عن الأسئلة التي تليه:

١/ عرف ميثاق العمل الوطني.

هو وثيقة وطنية نبعت من قلب هذا المجتمع وكتبت بأيدي أبنائه، يمثل المواطن البحريني وتطلعاته والمجتمع ومتطلباته وكيفية تطويره.

٢/ حدد العام الذي تولى فيه حضرة صاحب الجلالة الملك حمد بن عيسى آل خليفة ملك البلاد المعظم حفظه الله ورعاه مقاليد الحكم؟

تولى مقاليد الحكم في ١٩٩٩م.

٣/ ما أبرز المحطات التي تلت إقرار الميثاق ؟ (يكتفى بنقطة واحدة)

-من أبرز المحطات التي تلت إقرار الميثاق هي التعديلات الدستورية التي وضعت بنود ميثاق العمل الوطني موضع التنفيذ فكان ذلك إيذانًا بدخول البحرين مرحلة جديدة من الإصلاح والتطوير، فلم يكن للمبادئ التي وردت في الميثاق أن ترى النور إلا بإدخالها في النص التشريعي.

- تم إزالة أو تعديل كل القوانين التي تخالف مبادئ وتوجيهات الميثاق.

٤/ عبر عن مشاعرك الوطنية كطالب تجاه هذه المناسبة.

(تقبل أي إجابة مناسبة)

ثالثًا: على الخريطة التي أمامك اكتب ما تمثله هذه الأرقام تبعًا لموقعها على الخريطة حسب الترتيب وفق المعطيات بالجدول المرفق.

١٠ درجات كل نقطة درجتان

دول وصل إليها آل خليفة في هجرتهم إلى نجد		
١- الكويت	٢- البحرين	٣- قطر
مناطق ومدن وصل إليها آل خليفة في هجرتهم إلى نجد		
٤- الزبارة	٥-الهفوف	٦- الهدار

" انتهت الإجابة "

مملكة البحرين

وزارة التربية والتعليم

قسم الامتحانات الداخلية

[illegible]

الفصل الدراسي الثاني

المادة: المواد الاجتماعية | الزمن: ساعة ونصف

السؤال الأول:

أولاً: ضع دائرة حول الحرف الدال على الإجابة الصحيحة من بين البدائل الآتية:

1- [illegible]

أ- [illegible] ب- [illegible] ج- [illegible] د- [illegible]

2- [illegible]

أ- [illegible] ب- [illegible] ج- [illegible] د- [illegible]

3- [illegible]

أ- [illegible] ب- [illegible] ج- [illegible] د- [illegible]

4- [illegible]

أ- [illegible] ب- [illegible] ج- [illegible] د- [illegible]

5- [illegible]

أ- [illegible] ب- [illegible] ج- [illegible] د- [illegible]

6- [illegible]

أ- [illegible] ب- [illegible] ج- [illegible] د- [illegible]

7- [illegible]

أ- [illegible] ب- [illegible] ج- [illegible] د- [illegible]

Remove Watermark Wondershare PDFelement

السؤال الثاني: أجب عن الأسئلة الآتية:

1- ما الفرق بين الفرض الإحصائية الثلاثة التي اعتمدتها بلوزي.

.....

.....

2- علل: اطلاق الأزمة الاقتصادية العالمية 2025م.

.....

.....

3- تقع الأحباب والعمال المساعدة على بقاء مدينة الاستقلال الأوروبي في القرن 2001م. (الإجابة شرح).

.....

.....

4- يوضح الحباب فيها الموجة العالمية الأولى 2001-2014م. (الإجابة شرح).

.....

.....

5- بين العمال المساعدة على بقاء النهضة الأوروبية.

.....

.....

Almanahj.com/ps موقع المناهج البحرينية 2025 2024 Wondershare PDFelement

Remove Watermark Wondershare PDFelement

الاتحاد الأوروبي لكرة القدم	مقطعة (أ ع)	الاتحاد الأوروبي لكرة القدم * مقطعات

المجال الأول: أولاً: اختر من العمود (ب) أسماء الشخصيات التاريخية المناسبة للعبارات المبينة في العمود (أ) :

ثم اكتب الحرف الدال على الإجابة الصحيحة في الخانات المخصصة لك:

العمود (أ)	الإجابة	العمود (ب)
1- اشتهرت بوصلتها بالمناطق القبلية في جهته سنة (1884م).	.....	أ- الشيخ محمد بن خليفة آل خليفة.
2- نبي قلعة نبي في الجزائر.	.....	ب- الملك عبد العزيز.
3- أعلن الانقلاب ضد قلة المعيشة وأشهرها بعد الشعب المصري سنة (1952م).	.....	ج- الشيخ عيسى بن سلمان آل خليفة.
4- كيف عندما افتتاح مجمع الملك فهد سنة (1984م).	.....	د- جمال عبد الناصر.
5- سلق مكتبة قبة الصخرة في القدس الذي أعلن إعلان الانتداب على سوريا ولبنان.	.....	هـ- الشيخ عبد الله السالم الصباح.

المجال الثاني: اكتب ما هي نتيجة من النتائج الآتية ملاحظة بالمسميات من الأحداث التاريخية في العمود الثاني ليقابلها:

1- قام العمود العالمية الثانية.	أ- التصويت بالأغلبية على فتح العمود.
2- مجلس مكتوبة بالعمود على الحل مجالها.	ب- انتهاء الحرب العالمية الثانية (الاتحاد السوفيتي).
3- قام مجيبا المعاهدات سيرتها.	ج- أقيمت في العمود منطقة تاريخية.

الحدث التاريخي	النتائج
معركة الجزيرة (1945-1946م)	1- .....
تأسيس ديوان العمود (الاتحاد السوفيتي) (1945م)	1- ..... 2- .....
الاعتداء الثلاثي على مصر وبورسعيد (1956م)	1- .....
الانقلاب على الشيخ يوسف (1938م)	1- .....

Wondershare PDFelement

[illegible]

المعتقدات التي يعتقد بها المصريون في [illegible]

[illegible]

1- ما المعتقد الرئيسي في [illegible]؟

....

2- [illegible]

....

....

3- استخرج من النص [illegible]

- ....
- ....

4- [illegible]

- ....
- ....

Wondershare PDFelement
Remove Watermark

Remove Watermark Wondershare PDFelement

[illegible]

[illegible]

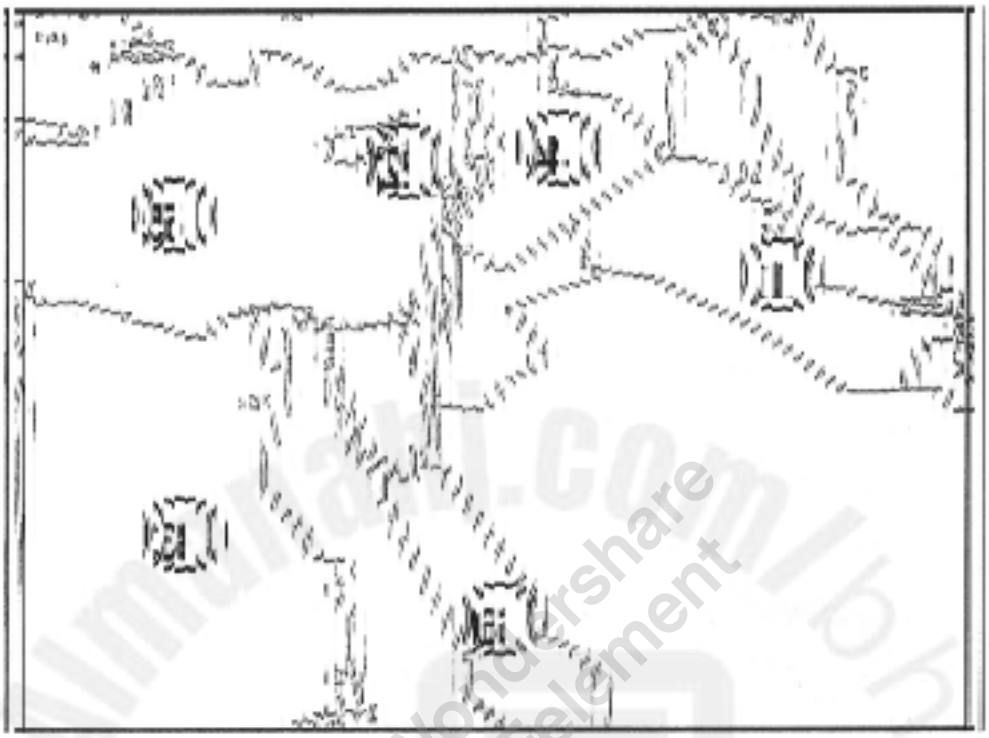

أ- اكتب ما تمثله الأرقام على الخريطة في الجدول الآتي حسب البيانات الواردة فيه:

الأرقام على الخريطة	الدولة العربية	الاستعمار الأوروبي
1	.....	.....
2	.....	.....
3	.....	.....
4	.....	.....

ب- أرقام (1) و (2) يشيران إلى مستعمرين مختلفين هما:

1- ..... 2- .....

[illegible]

[illegible]