المراجعة الشاملة للاختبار النهائي بدون حل

تم تحميل هذا الملف من موقع مناهج مملكة البحرين	
موقع المناهج ⇦ مناهج مملكة البحرين ⇦ الصف الثامن ⇦ رياضيات ⇦ الفصل الثاني ⇦ ملفات متنوعة ⇦ الملف	
تاريخ إضافة الملف على موقع المناهج: 10-05-2026 14:54:19	
المزيد من مادة رياضيات:	ملفات ا كتب للمعلم ا كتب للطالب ا اختبارات الكترونية ا اختبارات ا حلول ا عروض بوربوينت ا أوراق عمل منهج انجليزي ا ملخصات وتقارير ا مذكرات وبنوك ا الامتحان النهائي ا للمدرس

التواصل الاجتماعي بحسب الصف الثامن					
صفحة مناهج مملكة البحرين على فيسبوك					
المواد على تلغرام	التربية الاسلامية	اللغة العربية	اللغة الانجليزية	الرياضيات	

المزيد من الملفات بحسب الصف الثامن والمادة رياضيات في الفصل الثاني	
1	حل المراجعة الشاملة للاختبار النهائي
2	مراجعة الاختبار النهائي و الشامل
3	المذكرة الذهبية للاختبار الأول 2026-2025م مع نموذج الإجابة
4	المذكرة الذهبية للاختبار الأول مع نموذج الإجابة تميز الغد 2026-2025م
5	كراسة شاملة للمنهج معنا نتميز في الرياضيات 2025 و 2026م

مراجعة الاختبار الشامل لمادة الرياضيات

للصف الثاني الإعدادي للفصل الدراسي الثاني ٢٠٢٥-٢٠٢٦م

الاسم :	الصف : ٢ ع .....

(س١) استعملي **خاصية التوزيع** لإعادة كتابة التعبير التالي:

٦ (س + ٤)= .....

(س٢) أكملي الجدول التالي:

التعبير الجبري	**٤ب – ٧ + ٦ب + ١٠**
الحدود المتشابهة	
الثوابت	
المعاملات	

(س٣) **بسطي** العبارة التالية:

٥ س + ٤ – س – ٩= .....

(س٤) حلي **المعادلات** التالية:

٤ س +٧ = ٢٧	**٦ ص + ٢ = ص – ٨**

(س٥) حلي **المتباينات** التالية، ثم مثليها على **خط الاعداد**:

ك + ١٢ < ٢٠	**٩ ج ≤ ٨١**

almanahj.com/bh
موقع المناهج البحرينية

(س٦) حولي كل عبارة مما يلي الى **متباينة**:

يجب أن لاتتجاوز سرعة سيارتك ١٠٠ كم/ ساعة	
يجب أن يكون عمرك أكبر من ١٨ سنة حتى تقود السيارة	
تتسع الحافلة لـ ٢٤ راكب على الأكثر	

(س٧) من **المتتابعة الحسابية** الآتية، أوجدي ما يلي:

٣ ، ٨ ، ١٣ ، ١٨ ، ...

أساس المتتابعة: ..... الحدود التالية هي : .....، ..... ، .....

الحد الأول: ..... الحد النوني : .....

.....

الحد رقم (١٠) هو: .....

(س٨) إذا كانت **د(س)= ٤س + ٩** ، فإن **د(٢)** =.....

(س٩) أكملي جدول الدالة التالية، ثم اختاري التمثيل :

ص = - س - ١

س	ص

(أ)

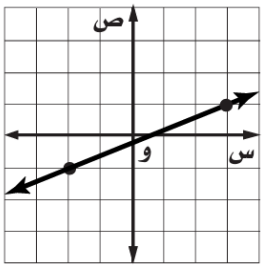

(ب)

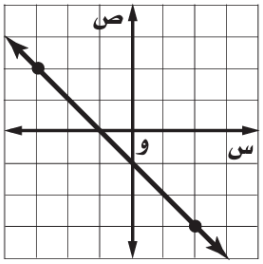

(ج)

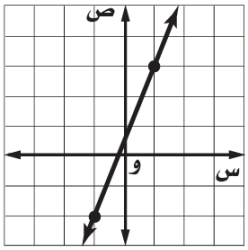

الشكل الذي **يمثل الدالة بيانياً** هو الشكل: .....

(س١٠) أوجد **الميل للمستقيم** المجاور

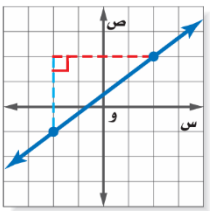

(س١١) اذكري **الميل والمقطع الصادي** لكل معادلة مستقيم فما يأتي:

ص = ٤س + ١	م =	ب=
ص + ٣س = −٧	م=	ب=

(س١٢) أوجد الميل المار بالنقطتين س (−٧ ، ٤)، ت (٥ ، ٢)

.....

.....

almanahj.com/bh
موقع المناهج البحرينية
2020 2025

(س١٣) حددي إذا كانت الدالة الممثلة بالجدول تمثل تغير طردياً أم لا، وإذا كانت كذلك فأذكري **ثابت التغير**.

الحجم س	٢	٤	٦	٨
الكتلة ص	١٠	٢٠	٣٠	٤٠

.....

(س١٤) اكتبي **عدد الحلول** لكل نظام معادلات فما يأتي :

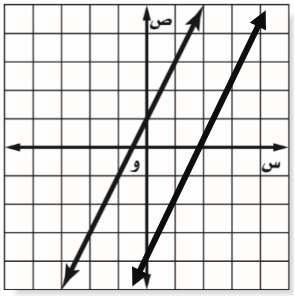

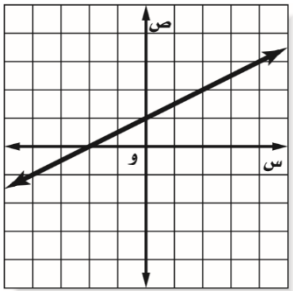

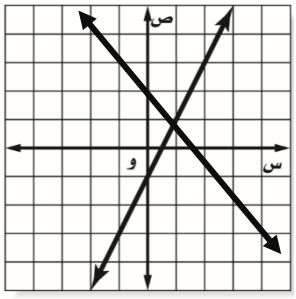

....

(س١٥) بيني هل **شكل الانتشار** في البيانات الآتية يمثل **علاقة موجبة أم سالبة أم لا توجد علاقة**.

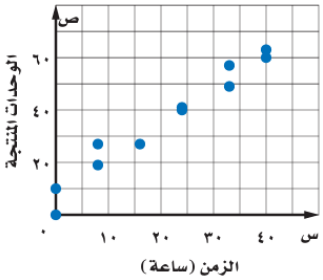

.....

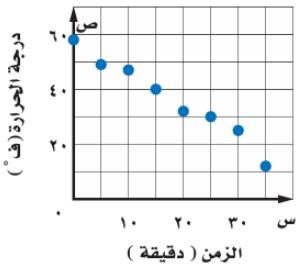

.....

(س١٦) بسطي كلا مما يلي باستعمال الأسس:

(٣س^٨) (٥س)	$\frac{٢٠م^{٧}}{٥م^{٥}}$	$(٢ ع^{٢} ن^{٥})^{٣}$

(س١٧) في التمثيل المجاور أجبي عن ما يلي:

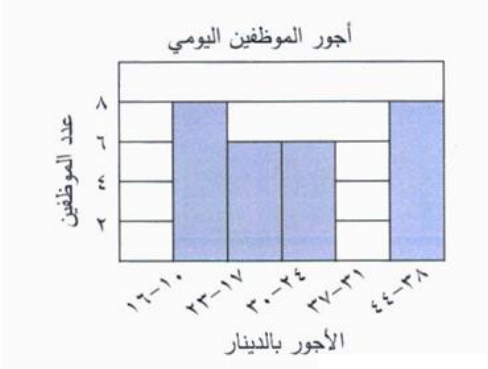

أ. كم عدد الموظفين الذين يقل راتبهم عن ٢٤ دينار؟

.....

ب. ما عدد الموظفين الذين يحصلون على أعلى أجر في اليوم؟

.....

(س١٨) النسبة المئوية التي يمثلها القطاع (ب) في الشكل المجاور تساوي _____

وقياس زاوية القطاع (أ) تساوي _____°

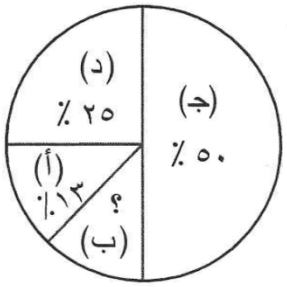

almanahj.com/bh
موقع المناهج البحرينية

(س١٩) من البيانات التالية لدرجات طلاب في مادة اللغة العربية ، أوجد كلا مما يلي:

٩٠، ٧٥، ٩٤، ٧٧، ٩٨، ٨٨، ٩٨

أ. المدى= .....
ب. الوسيط = ...
ت. الوسط الحسابي= .....
ث. المنوال= .....
ج. الربيع الأدنى= .....
ح. الربيع الأعلى= .....
خ. المدى الربيعي= .....

(س٢٠) استعمل التمثيل بالصندوق وطرفيه الآتي للإجابة عن الأسئلة أدناه:

تبرعات الطلبة بالدينار

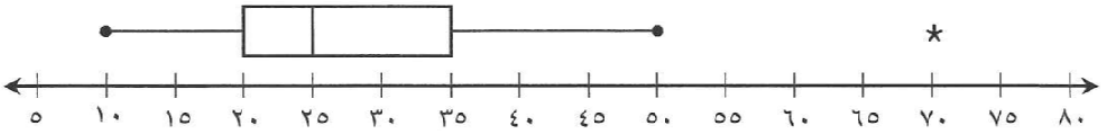

- ما أقل مبلغ تم التبرع به؟ .....
- الربيع الأدنى؟ .....
- الربيع الأعلى؟ .....
- ما المدى الربيعي للتبرعات؟ .....
- ما القيمة المتطرفة للتبرعات (إن وجدت) ؟.....

(س٢١) من التمثيل المجاور، اجيبي عما يلي:

أ. المنوال= .....
ب. المدى = ...
ت. ما اقل كمية للدهون في لفطائر اللحم؟ .....
ث. ما أعلى كمية للدهون في فطائر اللحم؟ .....

كمية الدهن بالجرام في فطائر اللحم

لحم	الساق
	٠
٥٩	١
٦	٢
٣٦	٣

(س٢٢) اختاري **طريقة التمثيل الأنسب** لكل مسألة فيما يلي:

توزيع دخل الأسرة على المتطلبات المنزلية.	
عدد مشتركي الهواتف النقالة للسنوات الخمس الأخيرة.	
وسيط نتائج اختبار مادة اللغة الإنجليزية لأحد الصفوف	

almanahj.com/bh
2025 2026
موقع المناهج البحرينية

(س٢٣) استعملي **مبدأ العد الأساسي** لإيجاد عدد النواتج الممكنة لكل مما يأتي:

أ. إلقاء مكعب أرقام مرتين.

.....

ب. اختيار أحد أيام الأسبوع ورمي قطعة نقدية.

.....

ت. حل أربعة أسئلة عشوائيا من نوع الصواب والخطأ في اختبار العلوم.

.....

(س٢٤) إذا تم تدوير مؤشر القرص الدوّار واختيار إحدى بطاقات الأرقام ،فما احتمال ظهور الحرف ص وعدد زوجي ؟

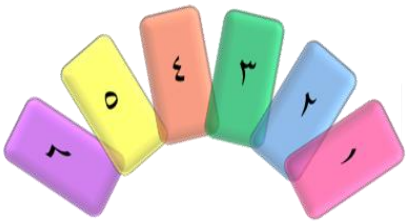

(س٢٥) كيس به ١٠ كرات حمراء، وَ ٣ كرات زرقاء، وَ ٧ كرات خضراء، سُحبت منه كرة عشوائيًا **دون إرجاع**، ثم سُحبت كرة أخرى. أوجد الاحتمالات الآتية:

- ل (سحب كرة خضراء ثم كرة زرقاء)
- ل (سحب كرتان حمراوان)

(س٢٦) يبين الجدول المجاور نتائج إحصائية عن الكتب المفضلة لدى ١٢٠ طالب، ما الاحتمال التجريبي لاختيار شخص عشوائيا يفضل الكتب الدينية في ابسط صورة؟

الكتب	عدد الطلاب
دينية	٤٨
علمية	٣٣
أدبية	٢٨
عامة	١١

(س٢٧) ما الاحتمال النظري لظهور العدد ٤ عند إلقاء مكعب أرقام؟

- انتهت الأسئلة تمنياتنا لكن بالتوفيق والنجاح 😊-

almanahj.com/bh
موقع المناهج البحرينية