إجابة مراجعة قبل الوقفة 2 أسئلة متنوعة في الأحياء 2024-2025م

تم تحميل هذا الملف من موقع مناهج مملكة البحرين

موقع المناهج ⇦ مناهج مملكة البحرين ⇦ الصف السابع ⇦ علوم ⇦ الفصل الثاني ⇦ ملفات متنوعة ⇦ الملف

تاريخ إضافة الملف على موقع المناهج: 12-05-2026 13:07:47

المزيد من مادة علوم:	ملفات ا كتب للمعلم ا كتب للطالب ا اختبارات الكترونية ا اختبارات ا حلول ا عروض بوربوينت ا أوراق عمل منهج انجليزي ا ملخصات وتقارير ا مذكرات وبنوك ا الامتحان النهائي ا للمدرس

التواصل الاجتماعي بحسب الصف السابع

صفحة مناهج مملكة البحرين على فيسبوك

المواد على تلغرام	التربية الاسلامية	اللغة العربية	اللغة الانجليزية	الرياضيات

المزيد من الملفات بحسب الصف السابع والمادة علوم في الفصل الثاني

1	نموذج إجابة أنشطة وتدريبات ويغطي الكهرباء الشحنات والمجال الكهربائي والموصلات والعوازل ولتيار الكهربائي والمقاومة ولبطاريات وتوصيلها وقانون أوم البرق والصواعق 2026م
2	ملخص الكهرباء والحيوانات والقوى المشكلة للأرض
3	إجابة أسئلة الدفتر المطور2024-2025
4	ملخص شامل عن صفائح الأرض
5	إجابات التجوية و التعرية

KINGDOM OF BAHRAIN Ministry of Education مملكة البحرين وزارة التربية والتعليم مدرسة البلاد القديم الابتدائية الإعدادية للبنين قســـم العلـــــوم اعداد:صبري محمد حمد السيد إبراهيم	مراجعة قبل الوقفة ٢ الصف الأول الإعدادي الفصل الدراسي الثاني عام (٢٠٢٤/٢٠٢٥م) مادة العلـــــــوم	الاسم	
		الصف	١ع/ رقم الطالب بالكشف
		تاريخ	

س١ **اختر الإجابة الصحيحة:-**

١- **أي مما يلي ليست من خصائص الجوفمعويات (اللاسعات)**

(أ) لها مجسات حول فمها؛ من أجل الإمساك بالفريسة.

(ب)تستطيع الحصول على غذائها من جميع الاتجاهات.

(ج) التكاثر الجنسي فيها يتم بعملية إخصاب داخلي.

(د) تحصل خلاياها على الأكسجين من الماء المحيط بها وتطرح فيه غاز ثاني أكسيد الكربون.

٢- **أي مما يلي صحيح فيما يتعلق بالضفدع المبين بالشكل المجاور؟**

(أ)من ذوات الدم البارد والقلب لديه يتكون من أربع حجرات.

(ب) من ذوات الدم الحار والقلب لديه يتكون من حجرتين .

(ج)من ذوات الدم الحار والقلب لديه يتكون من أربع حجرات.

(د)من ذوات الدم البارد والقلب لديه يتكون من ثلاث حجرات.

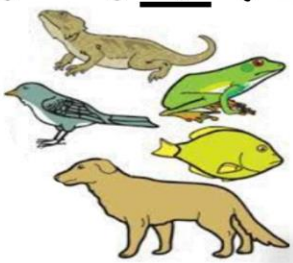

٣- **أي من مجموعات الحيوانات أدناه تبقى درجة حرارة أجسامها ثابتة ولا تتأثر بدرجة حرارة الوسط المحيط بها؟**

(أ)الأسماك .

(ب) البرمائيات.

(جـ)ذوات الدم البارد.

(د) ذوات الدم الحار.

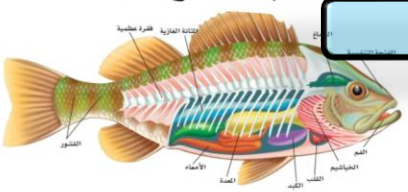

٤- **ما الذي يساعد الأسماك العظمية على التحكم في العمق الذي تسبح فيه؟**

(أ) المثانة الغازية.

(ب) القشور المغطاة بطبق مخاط.

(جـ) الشكل الانسيابي للسمكة

(د) الهيكل الغضروفي.

٥- **أيِّ الأسماك التالية تعدُّ مثالاً على الأسماك الغضروفية؟**

(أ) الشعري. (ب) القرش. (جـ) السلمون. (د) السمكة الذهبية.

٦- **ما نوع التماثل في حيوان الإسفنج الموضحة صورته بالشكل المجاور؟**

(أ) شعاعي. (ب) داخلي. (جـ) عديم التماثل (د) جانبي.

٧- **أي المخلوقات الآتية له جهاز دوري مغلق؟**

(أ) الأخطبوط. (ب) الحلزون. (جـ) الإسفنج (د) المحار.

موقع المناهج البحرينية 2025 2026

8- **أي المخلوقات الحية الآتية يتكون جسمه من جزءين رئيسين؟**

(أ) الحشرات. (ب) الرخويات. (جـ) الديدان. (د) العنكبيات.

9- **العائل الوسيط للديدان الشريطية هو؟**

(أ) الانسان. (ب) الكلب. (جـ) البعوض. (د) الابقار.

10- **العائل النهائي(الأساسي) للديدان القلبية هو؟**

(أ) الانسان. (ب) الكلب. (جـ) البعوض. (د) الابقار.

11- **أي الحيوانات الآتية لا ينتمي إلى المجموعة نفسها؟**

(أ)المحار. (ب)نجم البحر. (جـ) الحلزون. (د) الأخطبوط.

12- **عدد ازواج الارجل في الحشرات؟**

(أ)3. (ب)6. (جـ) 4. (د) 8.

13- **أيّ من مجموعات اللافقاريات الآتية يظهر فيها التماثل الشعاعي بوضوح؟**

(أ) الرخويات. (ب) المفصليات. (جـ) الديدان. (د) شوكيات الجلد.

14- **تتنفس السلحفاة البحرية عن طريق؟**

(أ) الخياشيم. (ب) الرئتين. (جـ) الجلد الرطب. (د) الفتحات التنفسية.

15- **تمتلك .....البيضة الأمنيونية؟**

(أ) الأسماك. (ب) البرمائيات. (جـ) الزواحف. (د) الطيور.

16- **أي المجموعات الآتية تنسلخ**

(أ)القشريات (ب)الديدان الحلقية (جـ) شوكيات الجلد (د)الديدان المفلطحة

17- **تتحرك دودة الأرض عن طريق**

(أ)قدم عضلية قوية (ب)مجموعتين من العضلات (جـ) الاشواك (د)الاقدام الانبوبية

18- **أي مماياتي لها هيكل داخلي صلب**

(أ)الجراد (ب)النمل (جـ) نجم البحر (د)العقرب

19- **ماذا تمثل أمعاء الإنسان بالنسبة للدودة الشريطية ؟**

(أ) العائل (ب) البرعم (جـ) الطفيل (د) الجهاز

20- **كيف تتغذى الإسفنجيات ؟**

(أ) تقوم بعملية البناء الضوئي .

(ب) تصفي الطعام من الماء الغني بالمخلوقات المجهرية .

(جـ) تلتهم الديدان المفلطحه .

(د) تلتهم الرخويات .

س2 **بما تفسر :-**

1- إصابة الانسان بالدودة الشريطية.

بسبب تناوله لحم غير مطهي جيداً وبه يرقات الدودة الشريطية

2- يستخدم السكالوب في قياس مدى صحة النظام البيئي.

لأنها حساسة لنوعية الماء

3- عدم حمل دودة الأرض بيدك جافة.

لأن إزالة المخاط الموجود على جلدها قد يؤدي إلى موتها خنقًا.

4- العقرب من العنكبيات وليس من الحشرات.

لأن العقرب يتكون جسمه من جزأين رأسصدر وبطن ولديه ٨ أرجل

5- حركة القشريات في الماء أسهل من حركتها على اليابسة.

لأن الماء يدفعها لأعلى عكس الجاذبية الأرضية فيسهل حركتها

س3 **اكتب المصطلح العلمي للعبارات التالية :-**

1- **الجوفمعويات** . حيوانات أجسامها مجوفة، تتكون من أنسجة متخصصة، مؤلفة من طبقتين من الخلايا ومن امثلتها الهيدرا وقنديل البحر والمرجان.

2- **البرمائيات** حيوانات تقضي جزء من حياتها في الماء وتقضي الجزء الاخر على اليابسة.ومن امثلتها الضفدعة والسلمندر والعلجوم.

3- **الغضروف** نسيج مرن وقاس يشبه العظام، ولكنه ليس صلبًا ولا هشًا.

4- **الرخويات** حيوانات لمعظمها أصداف، وقدم عضلية قوية ويغلف جسمها غشاء نسيجي رقيق يسمى العباءة.

5- **القشريات** . إحدى مجموعات المفصليات تضم أكبرها حجما، ومعظمها مصدرا رئيسا لغذاء الكثير من الحيوانات البحرية ومنها السرطان وجراد البحر.

almanahj.com/bh
موقع المناهج البحرينية
2025 2026

س4 **اذكر وظيفة (أو أهمية كلاً من):-**

	التركيب	الوظيفة
-1	الممصات والخطاطيف في الدودة الشريطية	تثبت الدودة في جدار الامعاء
-2	الزغب في الطيور	العزل الحراري (تدفئة الجسم)
-3	العباءة في الرخويات	تفرز المادة المكونة للأصداف
-4	المجسات في الجوفمعويات	تطلق خلايا لاسعة (الحويصلات الخيطية) للامساك بالفريسة
-5	الحراشيف في الزواحف	تقلل من فقد الماء وتحميها من الأذى

س5 **اكمل المخطط التالي :-**

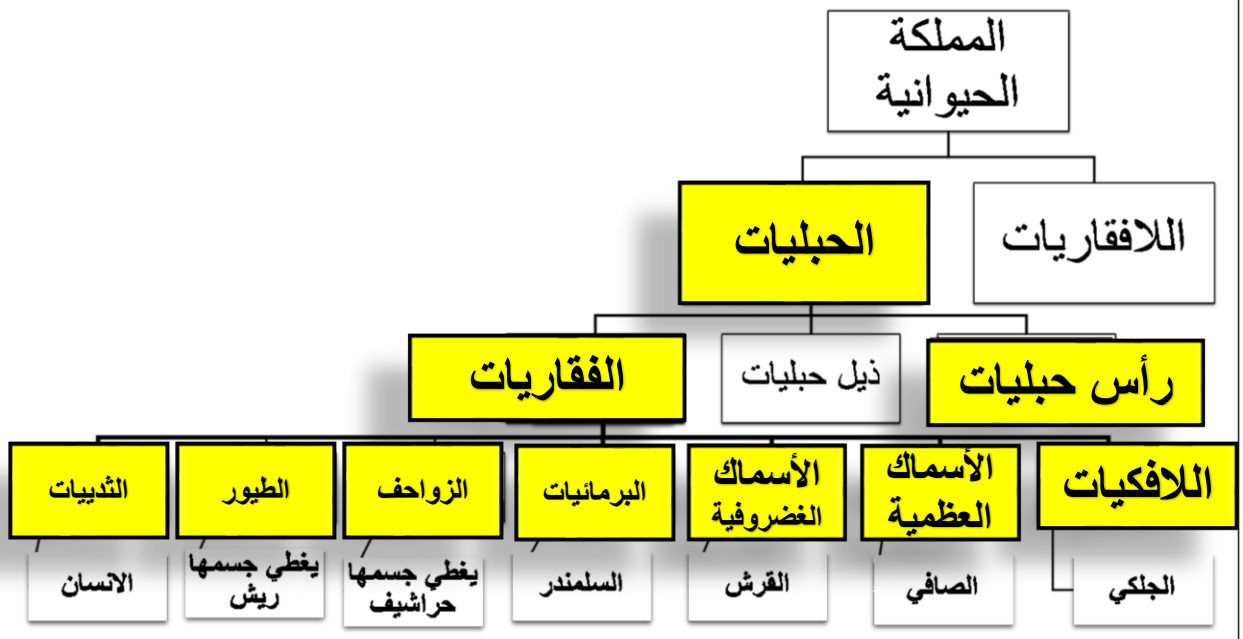

almanahj.com/bh 2026 2025 موقع المناهج البحرينية