الأسئلة المتوقعة للامتحان 2026م غير محلول

تم تحميل هذا الملف من موقع المناهج الإماراتية

موقع المناهج ⇦ المناهج الإماراتية ⇦ الصف التاسع العام ⇦ رياضيات ⇦ الفصل الثالث ⇦ الامتحان النهائي ⇦ الملف

تاريخ إضافة الملف على موقع المناهج: 14-06-2026 11:57:49

المزيد من مادة رياضيات: ملفات ا كتب للمعلم ا كتب للطالب ا اختبارات الكترونية ا اختبارات ا حلول ا عروض بوربوينت ا أوراق عمل منهج انجليزي ا ملخصات وتقارير ا مذكرات وبنوك ا الامتحان النهائي ا للمدرس

إعداد: Aghead

التواصل الاجتماعي بحسب الصف التاسع العام

صفحة المناهج الإماراتية على فيسبوك

المواد على تلغرام | التربية الاسلامية | اللغة العربية | اللغة الانجليزية | الرياضيات

المزيد من الملفات بحسب الصف التاسع العام والمادة رياضيات في الفصل الثالث

1	الأسئلة المتوقعة للامتحان 2026م غير محلول
2	هيكل امتحان مواصفات الاختبار 2026م
3	مراجعة هيكل Bridge بريدج
4	الامتحان التجريبي 2025-2026م
5	بريدج أسئلة الهيكل للامتحان 2026م

وزارة التربية والتعليم
MINISTRY OF EDUCATION

الأسئلة المتوقعة الرياضيات الصف التاسع
الفصل الثالث لعام 2025 - 2026

اِحجِزْ مَكانَكَ وَاستَعِدَّ لِلاْمتِحَانِ بِثِقَةٍ كَامِلَةٍ

احصل على الشرح الكامل للصف من خلال:

التواصل والحجز عبر الـ Whatsapp
اضغط على الرقم: 0566991363

للتواصل والحجز

للانتقال إلى المواقع
اضغط هنا

شرح الدروس

انضم للقناة

Mr. Aghead

MR. AGHEAD 0566991363

يمكنكم الحصول على

- شرح الهيكل كامل
- اختبارات
- ملازم محلولة
- جلسة امتحانية مع ملاحظات هامة
- نماذج امتحانية سابقة
- شرح وحل امتحان سابق
- شرح الاسئلة المتوقعة

بـ 99 درهم فقط

MR.AGHEAD 0566991363

احصل على الشرح الكامل للصف من خلال:
التواصل والحجز عبر الـ Whatsapp
اضغط على الرقم: 0566991363

لا تتردد في التواصل
معنا قم بمسح الـ QR

الأسئلة المتوقعة للصف التاسع

الأسئلة الموضوعية - MCQ

احصل على الشرح الكامل للصف من خلال:

التواصل والحجز عبر الـ Whatsapp

اضغط على الرقم: 0566991363

لا تترددي التواصل

معنا قم بمسح الـ QR

Mr. Aghead

السؤال 1: أي الصور الآتية تحتوي نقاط لا تقع على استقامة واحدة؟

A	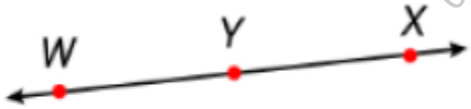 النُّقـاطُ W و Y و X
B	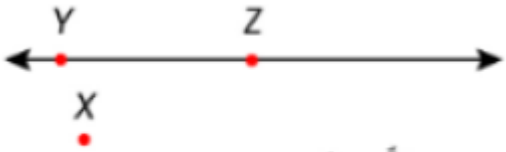 النُّقـاطُ X و Y و Z
C	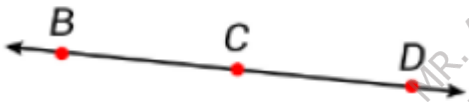 النُّقـاطُ B و C و D
D	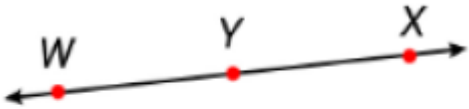 النُّقـاطُ W و Y و X

MR. AGHEAD 0566991363

السؤال الثاني: أي مما يلي يعد اسما للمستوى X المبين في الشكل؟

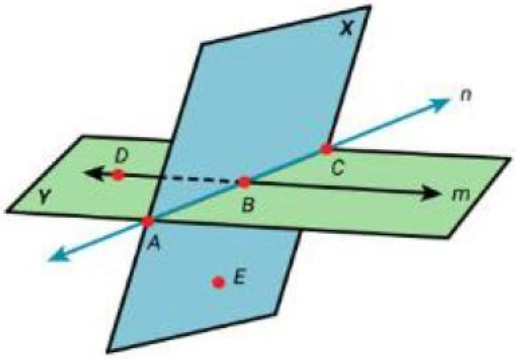

A	ABE
B	DBC
C	ABD
D	E

السؤال الثالث: ما التقاطع بين المستويين ADC و EBC في الشكل الآتي ؟

A	BC
B	ED
C	النقطة E
D	EC

السؤال الرابع: أي المصطلحات الآتية يصف النقاط W و X و Y و Z في هذا الشكل؟

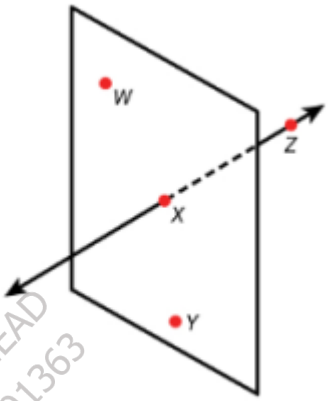

A	في مستوى واحد
B	على استقامة واحدة
C	في نفس المستوي
D	ليست في نفس المستوي

MR. AGHEAD 0566991363

السؤال الخامس: أي النقاط الآتية لا تقع على المستوي M ؟

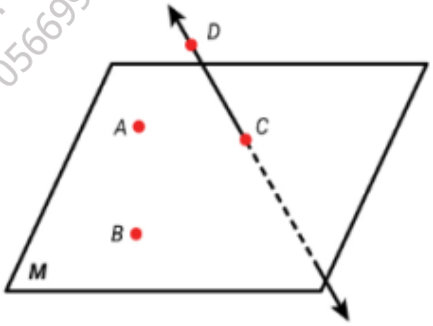

A	النقطة A
B	النقطة B
C	النقطة C
D	النقطة D

السؤال السادس: كم عدد المستويات التي تظهر في الشكل؟

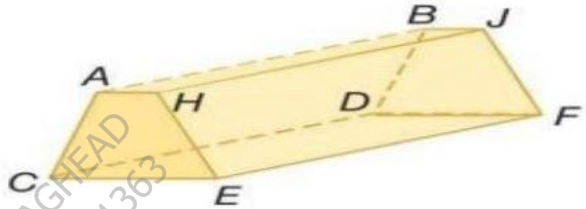

A	4
B	5
C	6
D	7

السؤال السابع: أوجد طول القطعة المستقيمة PQ ؟

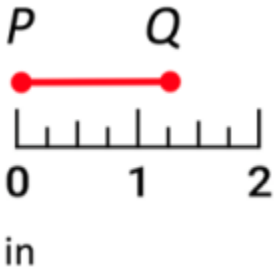

A	$\frac{1}{10}$ in
B	$1\frac{3}{4}$ in
C	$1\frac{1}{4}$ in
D	$1\frac{1}{2}$ in

MR. AGHEAD 0566991363

للتواصل اضغط الرقم: 0566991363
احصل على الشرح كاملاً بـ 99 درهم فقط

السؤال الثامن: تقع النقطة C بين النقطتين A و B على القطعة المستقيمةAB إذا علمت أن: AC = 12 , CB = 13 أوجد AB .

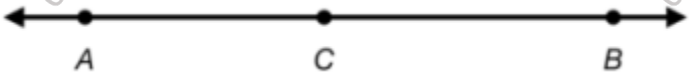

A	AB = 1
B	AB = 25
C	AB = 19
D	AB = 20

السؤال التاسع: النقاط الموضحة في الشكل تقع على استقامة واحدة. أي من النقاط تقع بين النقطتين E و X ؟

A	النقطة F
B	النقطة H
C	النقطة Z
D	النقطة G

السؤال العاشر: تم تجزئة القطعة المستقيمة AB إلى جزأين كما هو موضح في الشكل، أوجد طول القطعة المستقيمة.AB



A	5 cm
B	6 cm
C	3 cm
D	5.10 cm

السؤال الحادي عشر: تقع النقطة B بين النقطتين A و C على القطعة المستقيمة AC إذا علمت أن:

للتواصل اضغط الرقم:
0566991363

Mr. Aghead

AB = x
BC = x + 3
AC = 7 أوجد قيمة x :

A	5
B	2
C	4
D	6

السؤال الثاني عشر: النقطة H تنصف القطعة المستقيمة FG إذا علمت أن FG = 18 فما طول القطعة المستقيمة FH ؟

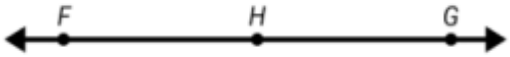

A	11
B	36
C	9
D	7

السؤال الثالث عشر: تم تجزئة القطعة المستقيمة AB إلى جزأين كما هو موضح في الشكل، أوجد طول القطعة المستقيمة AC

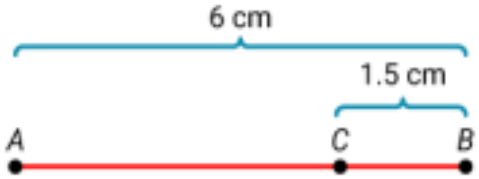

A	5 cm
B	7.5 cm
C	4 cm
D	4.5 cm

السؤال الرابع عشر: أي القطع المستقيمة الآتية متطابقة مع القطعة المستقيمة AH

A	HI
B	BD

احصل على الشرح كاملاً بـ 99 درهم فقط
للتواصل اضغ

C	CJ
D	EG

السؤال الخامس عشر: أوجد المسافة بين النقطتين (3 , 5-) و (5- , 4). قرب الناتج لأقرب جزء من عشرة

A	12.5
B	11.8
C	12.0
D	11.0

السؤال السادس عشر: تمثل النقطة M نقطة منتصف القطعة المستقيمة AB ، إحداثيات النقطة الطرفية المجهولة للقطعة المستقيمة A ، هما:

A	4, 3
B	1, 2
C	2, 0
D	1, 1

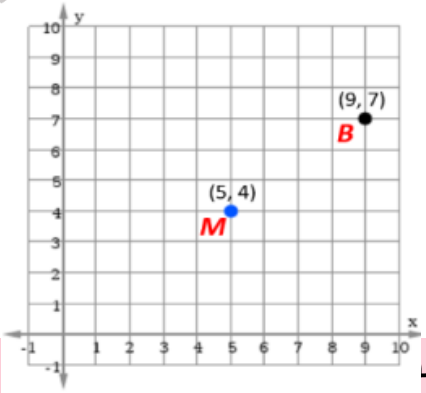

السؤال السابع عشر: استخدم خط الأعداد في إيجاد نقطة منتصف

A	-4
B	-2
C	-3
D	-2.5

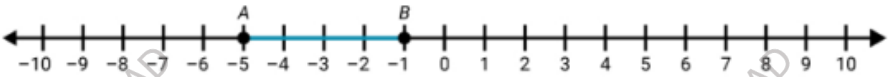

MR. AGHEAD 0566991363

السؤال الثامن عشر:

(1) $2x + 7y = 1$

(2) $x + 5y = 2$

لحل نظام المعادلات بطريقة الحذف لـ x في نظام المعادلات

A	**ضرب المعادلة الأولى في 2**
B	**ضرب المعادلة الأولى في -7**
C	**ضرب المعادلة الثانية في 7**
D	**ضرب المعادلة الثانية في -2**

السؤال التاسع عشر:

$3x - 7y = 4$

$x + 7y = 16$

حل النظام للحصول على x

A	-6
B	3
C	5
D	4

MR. AGHEAD 0566991363

السؤال العشرون:
(1) $x + 7y = 1$
(2) $3x + 5y = 2$
لحل نظام المعادلات بطريقة الحذف لـ x في نظام المعادلات

A	**ضرب المعادلة الثانية في 3**
B	**ضرب المعادلة الأولى في -7**
C	**ضرب المعادلة الأولى في -3**
D	**ضرب المعادلة الثانية في 7**

السؤال الواحد والعشرين: أي نظام يمثل المعلومات التالية :
عددان مجموعهما 41 والفرق بينهما 9.

A	$x - y = 41$ $x - y = 9$
B	$x + y = 41$ $x = 9 + y$
C	$x - y = 41$ $x + y = 9$
D	$x + y = 41$

احصل على الشرح كاملاً بـ 99 درهم فقط
للتواصل اضغط الرقم: 0566991363

	$x + y = 9$

السؤال الثاني والعشرين:

$2t + 5r = 6$

$9r + 2t = 22$

حل نظام المعادلات لإيجاد قيمة r

A	$r = -4$
B	$r = -2$
C	$r = 4$
D	$r = 2$

السؤال الثالث والعشرين: كم حلا لنظام المعادلات

$5x - y = 7$

$2y = 10x - 14$

A	اثنان
B	عدد لا نهائي
C	لا يوجد
D	واحد

السؤال الرابع والعشرين: كم حلا لنظام المعادلات:

$y = 2x$

$y + 3x = 20$

A	4, -8
B	8, 4
C	-4, 8
D	4, 8

السؤال الخامس والعشرين: حدد أفضل طريقة لحل نظام المعادلات:

$3x + 7y = 4$

$5x - 7y = -12$

A	الحذف باستخدام الضرب
B	الحذف باستخدام الطرح
C	الحذف باستخدام الجمع
D	التعويض

السؤال السادس والعشرين: جد المسافة بين (-4, -6) c و (5, -1) D

A	10.3
B	10
C	3.10
D	3

السؤال السابع والعشرين: ما هي الصيغة الرياضية الصحيحة لحساب المسافة بين النقطتين P(x1, y1) و Q(x2, y2)

A	$PQ = \sqrt{(x_2 - x_1)^2 + (y_2 - y_1)^2}$
B	$PQ = (x_2 - x_1)^2 + (y_2 - y_1)^2$

MR. AGHEAD 0566991363

للتواصل اضغط الرقم:
0566991363

Mr. Aghead

C	$PQ = \sqrt{(x_2 + x_1)^2 - (y_2 + y_1)^2}$
D	$PQ = (x_2 - x_1) + (y_2 - y_1)$

السؤال الثامن والعشرين: جد طول القطعة المستقيمة:

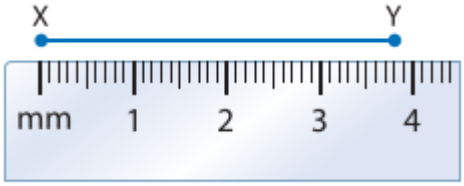

A	$\frac{23}{16}$ cm
B	$\frac{15}{16}$ cm
C	3.8mm
D	24mm

السؤال التاسع والعشرين: أي من العبارات التالية تصف "المستقيم" بشكل صحيح حسب النص:

A	**سطح مستوٍ يتكون من نقاط ممتدة في جميع الاتجاهات.**
B	**موقع محدد ليس له أبعاد.**
C	**يتكون من مجموعة من النقاط، وليس له سُمك أو عرض.**
D	**خط يمر بثلاث نقاط على الأقل دائماً.**

السؤال الثلاثون: اذكر المفهوم الهندسي الذي يمثله كل شيء من الأشياء التالية:

الشكل 1:



A	نقطة

MR. AGHEAD 0566991363

احصل على الشرح كاملاً بـ 99 درهم فقط

للتواصل اضغط الرقم: 0566991363

B	مستقيمات متقاطعة
C	مستوي، مستقيمات متقاطعة
D	مستويان متقاطعان في مستقيم

الشكل 2:

A	نقطة
B	مستقيمات متقاطعة
C	مستوي، مستقيمات متقاطعة
D	مستويان متقاطعان في مستقيم

الشكل 3:



A	نقطة
B	مستقيمات متقاطعة
C	مستوي، مستقيمات متقاطعة
D	مستويان متقاطعان في مستقيم

الشكل 4:

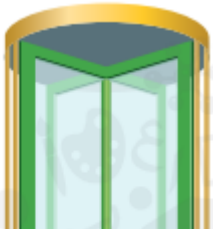

MR. AGHEAD 0566991363

A	نقطة
B	مستقيمات متقاطعة
C	مستوي، مستقيمات متقاطعة
D	مستويان متقاطعان في مستقيم

MR. AGHEAD 0566991363

احصل على الشرح كاملاً بـ 99 درهم فقط
للتواصل اضغط الرقم: 0566991363

MR. AGHEAD 0566991363

للحجز التواصل عبر الـ Whatsapp من خلال الضغط على الرقم:

0566991363

مع أطيب التمنيات بالنجاح والتوفيق ...

النهاية ...