النموذج الامتحاني لعلوم الصف الثامن

تم تحميل هذا الملف من موقع المناهج الإماراتية
موقع المناهج ⇦ المناهج الإماراتية ⇦ الصف الثامن ⇦ علوم ⇦ الفصل الثالث ⇦ ملفات متنوعة ⇦ الملف
تاريخ إضافة الملف على موقع المناهج: 15-06-2026 20:13:15

المزيد من مادة علوم:	ملفات ا كتب للمعلم ا كتب للطالب ا اختبارات الكترونية ا اختبارات ا حلول ا عروض بوربوينت ا أوراق عمل منهج انجليزي ا ملخصات وتقارير ا مذكرات وبنوك ا الامتحان النهائي ا للمدرس

التواصل الاجتماعي بحسب الصف الثامن					
صفحة المناهج الإماراتية على فيسبوك					
المواد على تلغرام	التربية الاسلامية	اللغة العربية	اللغة الانجليزية	الرياضيات	

المزيد من الملفات بحسب الصف الثامن والمادة علوم في الفصل الثالث	
1	مراجعة هيكل الامتحان كراسة تدريبية
2	Coverage Of Science
3	Speed, Velocity and Acceleration
4	مراجعة عامة للوحدة الثانية الموجات والصوت
5	هيكل الامتحان 2026م غير محلول

وزارة التربية والتعليم
MINISTRY OF EDUCATION

النموذج الامتحاني لعلوم الصف الثامن
الفصل الثالث 2025-2026

اِحجِزْ مَكانَكَ وَاستَعِدَّ للاْمتِحَانِ بِثِقَةٍ كَامِلَةٍ

احصل على الشرح الكامل للصف من خلال:

التواصل والحجز عبر الـ Whatsapp
اضغط على الرقم: 0566410429

للتواصل والحجز

للانتقال إلى المواقع
اضغط هنا

شرح الدروس

انضم للقناة

NOLOGIA

NOLOGIA 0566410429

يمكنكم الحصول على

- شرح الهيكل كامل
- اختبارات
- ملازم محلولة
- شرح الاسئلة المتوقعة
- نماذج امتحانية سابقة

بـ 99 درهم فقط

NOLOGIA 0566410429

احصل على الشرح الكامل للصف من خلال:

التواصل والحجز عبر الـ Whatsapp

اضغط على الرقم: 0566410429

لا تتردد في التواصل معنا قم بمسح الـ QR

النموذج الامتحاني لعلوم الصف الثامن

الأسئلة الموضوعية - MCQ

احصل على الشرح الكامل للصف من خلال:

التواصل والحجز عبر الـ Whatsapp

اضغط على الرقم: 0566410429

لا تترددي التواصل

معنا قم بمسح الـ QR

NOLOGIA

NOLOGIA

السؤال 1: أي مما يلي من الصفات الموروثة؟

A.تعلُّم القراءة
B.فقدان مخلب
C.المنقار المعقوف
D.تعلُّم حيلة جديدة

السؤال 2: يمتلك نوع غير سام من الفراشات نفس اللون والعلامات التي يمتلكها نوع سام. ويُعدّ هذا مثالاً على:

A.التمويه
B.التكيّف السلوكي
C.التكيّف الوظيفي
D.التقليد

السؤال 3: أي مما يلي من مصادر ظهور التنوع؟

A.وسائل التكيف
B.الطفرات
C.الطراز الظاهري
D.الصفات الوراثية

السؤال 4: ما التسلسل الذي يمثل الانتخاب الطبيعي؟

A. **انتخاب ← تكيف ← تنوع**
B. **انتخاب ← تنوع ← تكيف**
C. **تنوع ← تكيف ← انتخاب**
D. **تنوع ← انتخاب ← تكيف**

السؤال 5: أي مما يلي يمثل التكيف الوظيفي؟

A. أفعى تنفث السم في مفترس ما
B. سحلية تتظاهر بالموت
C. قرد يتأرجح بذيله
D. ذئب يصطاد ضمن قطيع من الذئاب

السؤال 6: قطان أسودان ينجبان مجموعة من القطط الصغيرة السوداء. يُعدّ هذا مثالاً على:

A. **التمويه**
B. **الكروموسومات**
C. **الوراثة**
D. **التقليد**

السؤال 7: تنتم:

A. العظم
B. المخ
C. القرن
D. أحد الأسنان

السؤال 8: ما الذي ينقل معلومات الصفات الوراثية من الآباء إلى النسل؟

A. الجينات
B. الطفرات
C. التنوعات
D. الانقسام المنصف

السؤال 9: أي مما يلي ينتج عن التفاعل بين الجينات والبيئة؟

A. عدد الكروموسومات
B. تسلسل DNA
C. الطراز الجيني
D. الطراز الظاهري

NOLOGIA 0566410429

السؤال 10: كم الطاقة الصادرة تقريبًا عن حدوث زلزال بقوة 7 درجات مقارنة بزلزال بقوة 5 درجات؟

A.1000
B.90
C.60
D.30

السؤال 11: ما نوع الحمم البركانية المندفعة من البراكين الدرعية؟

A.الأندزيتية
B.الجرانيتية
C.البازلتية
D.الريوليتية

السؤال 12: تحدث الزلازل عالية الطاقة:

A.على حدود الصفائح التقاربية.
B.بعيدًا عن حدود الصفائح المتباعدة.
C.بعيدًا عن حدود الصفائح.
D.على حدود الصفائح الانتقالية.

السؤال 13: يمكن للثورات البركانية الكبيرة والانفجارية، مثل ذلك المبين أدناه، تغيير المناخ لأن :

A.الجبال البركانية تحجب الإشعاع الشمسي.
B.الرماد البركاني يحافظ على الأرض من فقدان حرارتها.
C.الحمم المصهورة التي تخرج ساخنة.
D.الرماد والغازات التي يقذفها البركان في الغلاف الجوي يمكنها أن تعكس ضوء الشمس.

السؤال 14: ما نوع الصدع الموضح في الرسم الموضح؟



A.عادي
B.معكوس
C.ضحل
D.انزلاقي جانبي

السؤال 15: أين تنشأ الموجات الزلزالية؟

A.البؤرة
B.فوق الأرض
C.المركز السطحي
D.السجل الزلزالي

السؤال 16: على طول أي نوع من الحدود الصفائحية تحدث أعمق الزلازل؟

A. **الانتقالية**
B. **الخاملة**
C. **المتباعدة**
D. **المتقاربة**

السؤال 17: ما هي الظروف التي تساعد على تكوين الأحافير؟

A. **الأجزاء الصلبة والدفن البطيء**
B. **الأجزاء اللينة والدفن السريع**
C. **الأجزاء اللينة والدفن البطيء**
D. **الأجزاء الصلبة والدفن السريع**

السؤال 18: ما الفكرة التي توضح تاريخ كوكب الأرض عن طريق فحص الأوضاع الحالية للأرض؟

A. التأريخ بالعمر المطلق
B. الكارثية
C. مبدأ الوتيرة الواحدة
D. التأريخ بالعمر النسبي

NOLOGIA 0566410429

السؤال 19: ما الذي يبحث عنه علماء الجيولوجيا لكي يقوموا بالمضاهاة بين الصخور في مواقع مختلفة؟

A. أنواع متشابهة من الصخور وأحافير مرشدة
B. أنواع مختلفة من الصخور وأحافير مرشدة
C. أنواع كثيرة من الصخور وأحافير كثيرة
D. أنواع متشابهة من الصخور وعدم وجود أحافير

السؤال 20: ما عمر النصف في الرسم أدناه؟

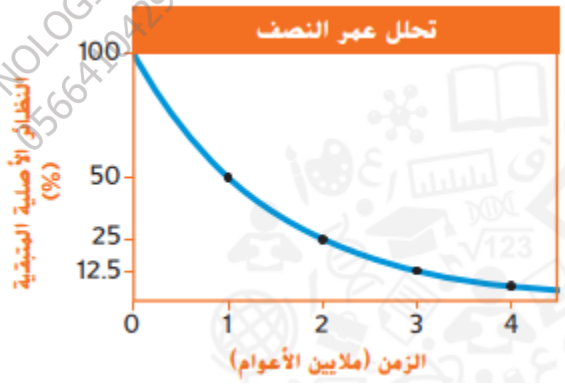

A. 4 ملايين عام
B. 3 ملايين عام
C. مليونا عام
D. مليون عام

السؤال 21: ما الذي يقيسه العلماء عند تحديد العمر المطلق لصخرة ما؟

A. نسبة النظائر الأصلية والتابعة
B. مقدار الإشعاع
C. عدد ذرات اليورانيوم
D. نسبة النيوترونات والإلكترونات

السؤال 22: أي مما يلي يمكن أن يسهم في حدوث انقراض جماعي؟

A.زلزال
B.صيف حار
C.ثورة بركانية
D.إعصار

السؤال 23: في الرسم أدناه، ما ترتيب الطبقات الصخرية من الأقدم إلى الأحدث؟

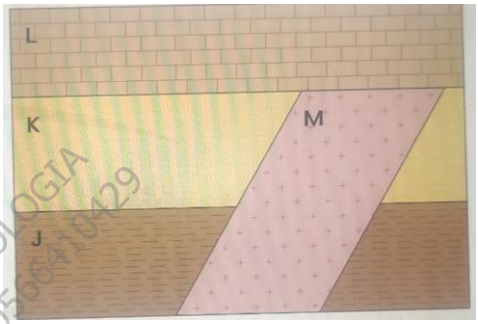

A.J, K, L, M
B.J, K, M, L
C.L, K, J, M
D.M, J, K, L

السؤال 24: يعرض الشكل التالي جزر هاواي، التي تكونت من نقطة ساخنة. أي الجزر هي الأقدم؟؟



A.ماوي
B.هاواي
C.كاواي
D.أواهو

السؤال 25: تحتوي "الخلايا الجنسية" (الحيوانات المنوية والبويضات) في الإنسان على:

A. 23 زوجاً من الكروموسومات.
B. 23 كروموسوماً مفرداً.
C. 46 كروموسوماً منفرداً.
D. جين واحد فقط على امتداد الكروموسوم.

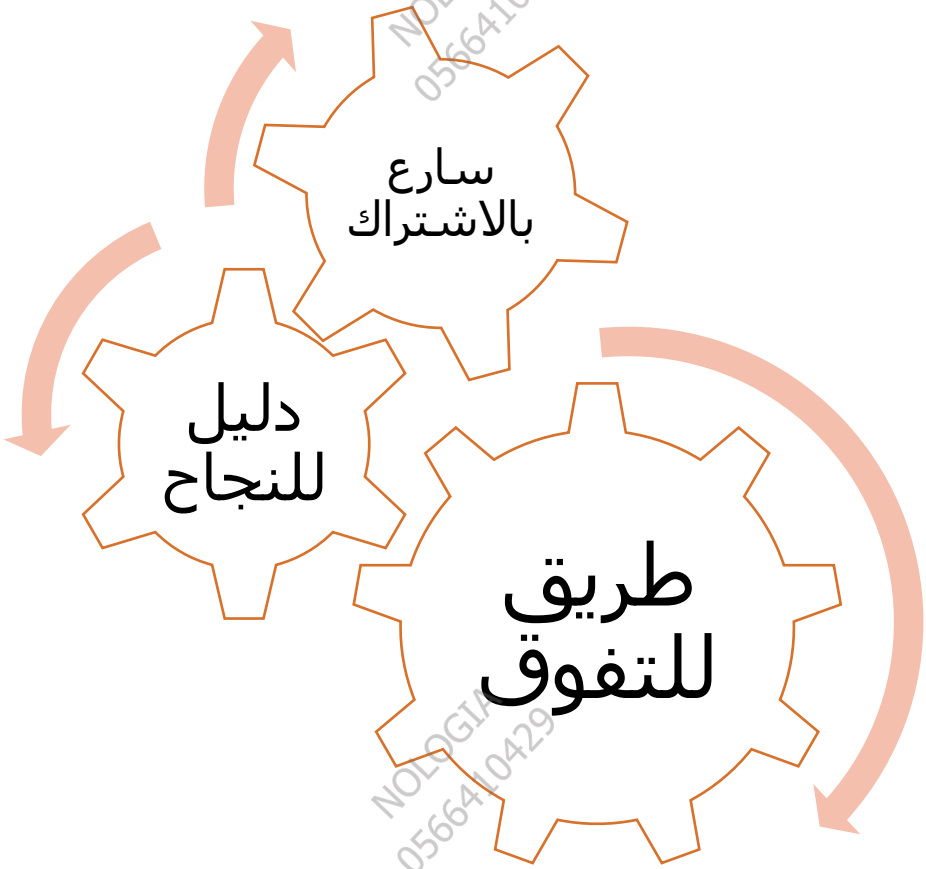

للحجز التواصل عبر الـ Whatsapp من خلال الضغط على الرقم:

0566410429

مع أطيب التمنيات بالنجاح والتوفيق ...

النهاية ...