النموذج الامتحاني

almanahj.com/ae
2026 2025
موقع المناهج الإماراتية

تم تحميل هذا الملف من موقع المناهج الإماراتية

موقع المناهج ⇦ المناهج الإماراتية ⇦ الصف السادس ⇦ علوم ⇦ الفصل الثالث ⇦ ملفات متنوعة ⇦ الملف

تاريخ إضافة الملف على موقع المناهج: 15-06-2026 20:05:49

المزيد من مادة علوم:	ملفات ا كتب للمعلم ا كتب للطالب ا اختبارات الكترونية ا اختبارات ا حلول ا عروض بوربوينت ا أوراق عمل منهج انجليزي ا ملخصات وتقارير ا مذكرات وبنوك ا الامتحان النهائي ا للمدرس

التواصل الاجتماعي بحسب الصف السادس

صفحة المناهج الإماراتية على فيسبوك					
المواد على تلغرام	التربية الاسلامية	اللغة العربية	اللغة الانجليزية	الرياضيات	

المزيد من الملفات بحسب الصف السادس والمادة علوم في الفصل الثالث

1	إجابة نموذج امتحان
2	مراجعة هيكل الامتحان كراسة تدريبية
3	Coverage Of Science
4	مراجعة عامة للدروس الخمسة الأولى
5	مراجعة استعداداً لاختبار العلوم النهائي

وزارة التربية والتعليم
MINISTRY OF EDUCATION

النموذج الامتحاني لعلوم الصف السادس

الفصل الثالث 2026-2025

اِحجِزْ مَكانَكَ وَاستَعِدَّ للاْمتِحَانِ بِثِقَةٍ كَامِلَةٍ

احصل على الشرح الكامل للصف من خلال:

التواصل والحجز عبر الـ Whatsapp
اضغط على الرقم: 0566410429

للتواصل والحجز

شرح الدروس

انضم للقناة

للانتقال إلى المواقع
اضغط هنا

NOLOGIA

NOLOGIA

NOLOGIA 0566410429

يمكنكم الحصول على

- شرح الهيكل كامل
- اختبارات
- ملازم محلولة
- بـ 99 درهم فقط
- شرح الاسئلة المتوقعة
- نماذج امتحانية سابقة

NOLOGIA **0566410429**

احصل على الشرح الكامل للصف من خلال:

التواصل والحجز عبر الـ Whatsapp

اضغط على الرقم: 0566410429

لا تتردد في التواصل معنا قم بمسح الـ QR

النموذج الامتحاني لعلوم الصف السادس

الأسئلة الموضوعية - MCQ

احصل على الشرح الكامل للصف من خلال:

التواصل والحجز عبر الـ Whatsapp

اضغط على الرقم: 0566410429

لا تترددي التواصل

معنا قم بمسح الـ QR

NOLOGIA

السؤال 1: أي العبارات الآتية تدعم نظرية الخلية؟

A.بعض الكائنات الحية تتكون من خلايا.
B.الخلايا تنشأ تلقائياً من الهواء.
C.الخلايا الجديدة تتكون من خلايا موجودة مسبقاً.
D.جميع الخلايا لها الحجم نفسه.

السؤال 2: أي جزء من الخلية يشير السهم التالي ؟

A.البلاستيدات الخضراء .
B.الجسم الفتيلي (الميتوكندريا).
C.غشاء الخلية.
D.جدار الخلية.

السؤال 3: في عملية الأسموزية ينتقل الماء من منطقة؟

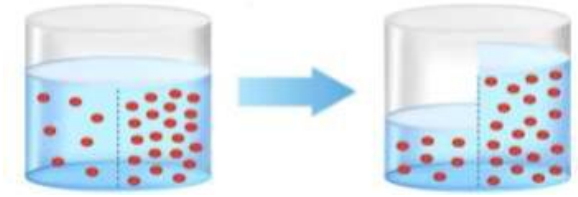

A. ذات التركيز المنخفض للماء إلى منطقة ذات التركيز المرتفع للماء .
B. ذات التركيز المرتفع للماء إلى منطقة ذات التركيز المنخفض للماء.
C. ذات التركيز المرتفع للأملاح إلى منطقة ذات التركيز المنخفض
D.للأملاح فقط.

السؤال 4: أي من العبارات التالية صحيحة فيما يتعلق بالتخمر؟

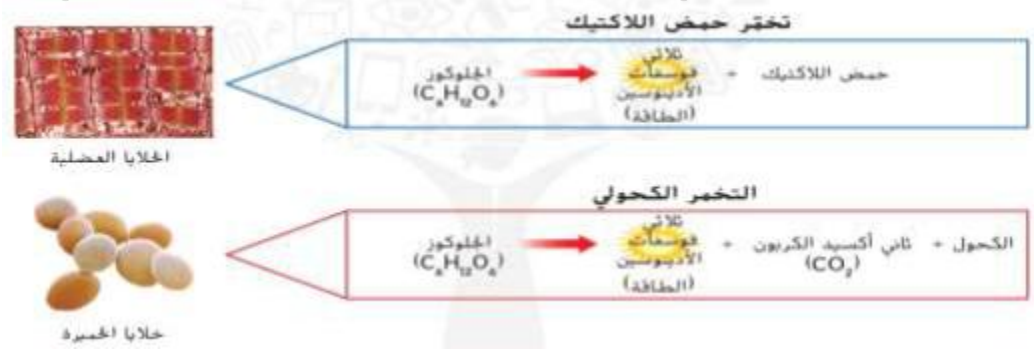

A. لا ينتج عنه طاقة .
B. يحدث في الأجسام الفتيلية (الميتوكندريا).
C. لا يحتاج إلى طاقة .
D. ينتج كميات كبيرة من الأدينوسين ثلاثي الفوسفات.

السؤال 5: أي من فصول السنة مبين في الشكل أدناه؟

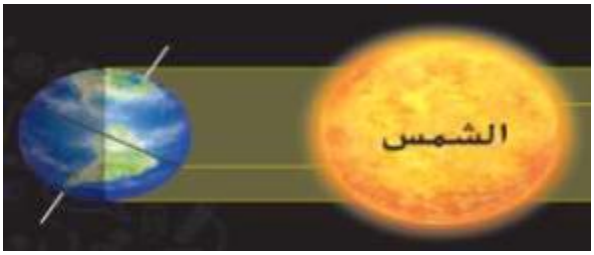

A. الشتاء في نصف الكرة الأرضية الشمالي، والصيف في نصف الكرة الأرضية الجنوبي.
B. الصيف في نصف الكرة الأرضية الشمالي، والشتاء في نصف الكرة الأرضية الجنوبي.
C. الربيع في نصف الكرة الأرضية الشمالي، والخريف في نصف الكرة الأرضية الجنوبي.
D. الخريف في نصف الكرة الأرضية الشمالي والربيع في نصف الكرة الأرضية الجنوبي.

السؤال 6: يبين الشكل المجاور نموذجاً للمد المرتفع الذي يتميز بتيارات مد تكون أعلى من المعتاد وتيارات جزر تكون أدنى من المعتاد. الأرقام التي تشير إلى مواقع القمر التي تسبب تيارات المد المرتفع؟

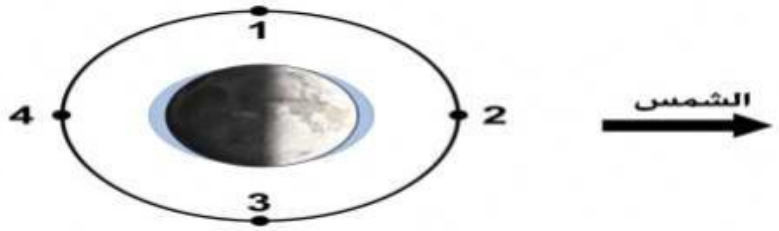

A.	1 و 2
B.	1 و 3
C.	2 و 4
D.	3 و 4

السؤال 7: متى يرى كسوف الشمس بالعين المجردة؟

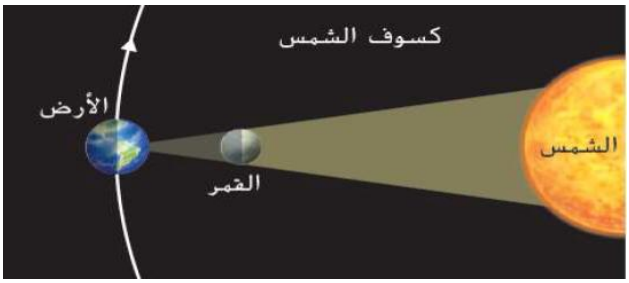

A.	عندما يكون القمر بدراً فقط .
B.	عندما يكون القمر محاقاً فقط .
C.	عندما يكون القمر في طول التضاؤل فقط .
D.	عندما يكون القمر في طول التزايد فقط.

NOLOGIA 0566410429

السؤال 8: أي سهم يوضح حركة الأرض في حالة عدم وجود جاذبية بينها وبين الشمس؟

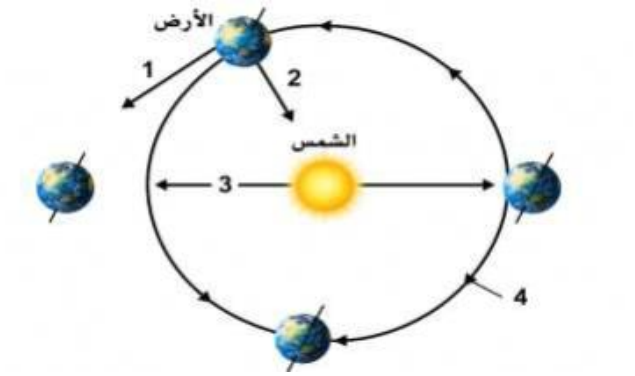

1.A
2.B
3.C
4.D

السؤال 9: ما أوجه المقارنة بين الشمس والنجوم الأخرى الموجودة في الكون؟

A.هي أكثر بعداً من غالبية النجوم الأخرى .
B.هي أكثر سخونة من غالية النجوم الأخرى .
C.هي أضخم من غالبية النجوم الأخرى .
D.هي أقرب للأرض من غالبية النجوم الأخرى.

السؤال 10: أي تسلسل يوضح انتقال القمر من طورمتزايد إلى طور متضائل؟

A.
B.
C.
D. 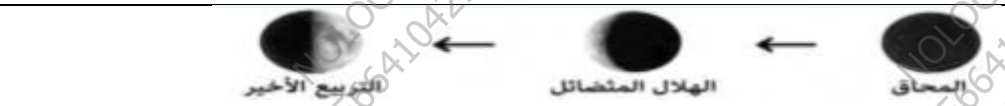

السؤال 11: ما مورد الطاقة البديل المستخدم لإنتاج الكهرباء في هذا الشكل؟

A.الطاقة الشمسية
B.طاقة المد والجزر
C.الطاقة الحرارية الأرضية
D.الطاقة الكهرومائية

السؤال 12: يوجد سدان لتوليد الكهرباء. السد الأول يمر به 1000 م³ من الماء في الدقيقة، والسد الثاني يمر به 500 م³ في الدقيقة. إذا كانت بقية العوامل متشابهة، فأي السدين يتوقع أن ينتج كهرباء أكثر؟

A.السد الأول لأنه يستقبل كمية مياه أكبر .
B.السد الثاني لأنه يستقبل كمية مياه أقل.
C.كلاهما ينتج المقدار نفسه .
D.لا يمكن إنتاج الكهرباء من السدود.

السؤال 13: ما الحدث الطبيعي الذي قد يؤدي إلى تلوث الهواء؟

A.حرق أنواع الوقود الأحفوري .
B.تلويث جدول مياه بنفايات .
C.الجريان السطحي للمياه المحملة بالملوثات من المزارع .
D.الثوران البركاني.

السؤال 14: ما نوع التلوث الهوائي المشار إليه بالحرف A في هذا الشكل؟

A.الأمطار الحمضية .
B.الجريان السطحي المحمل بالأسمدة .
C.النفايات النووية .
D.الضباب الدخاني الكيميائي الضوئي.

السؤال 15: في أي من الجزيئات الضخمة تخزن المعلومات الوراثية ؟

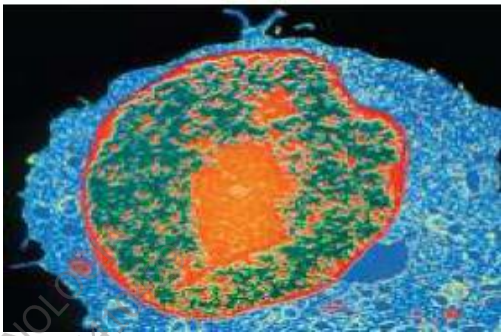

A. DNA.
B. الجلوكوز.
C. الليبيدات.
D. النشا.

السؤال 16: أي من الخلايا المبينة أدناه يمكنه المرور عبر الأوعية الدموية الصغيرة؟

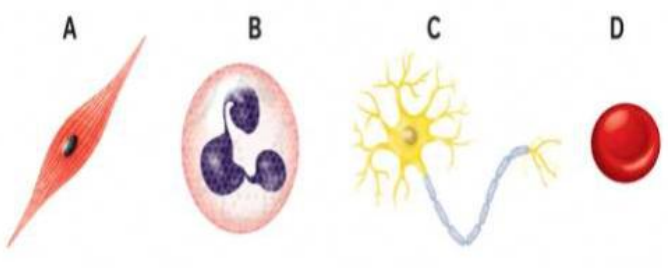

.A
.B
.C
.D

السؤال 17: يختلف الانتشار عن النقل النشط في الخلية لأنه؟

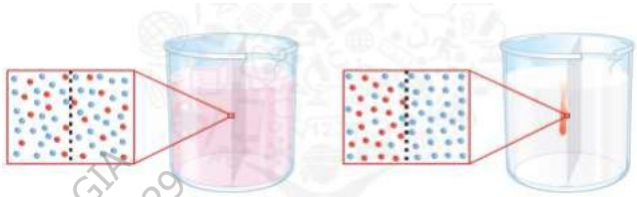

A. يتسبب في إخراج الجزئيات الكبيرة من الخلية.
B. يحمي غشاء الخلية من الضرر .
C. ينقل المواد الغذائية إلى داخل الخلية .
D. لا يحتاج إلى أي طاقة من الخلية.

السؤال 18: إذا مُنع وصول الأكسجين (O_2) إلى الميتوكوندريا كما في الشكل، فما النتيجة المتوقعة؟

A. زيادة إنتاج الطاقة ATP.
B. زيادة إنتاج الجلوكوز.
C. انخفاض إنتاج الطاقة ATP.
D. زيادة إنتاج ثاني أكسيد الكربون CO_2.

السؤال 19: أي من الخيارات صحيح عن الفصول؟

A.تتساوى ساعات الليل وساعات النهار خلال الاعتدال .
B.يشع ضوء الشمس فترة أطول على النصف الشمالي للأرض خلال الشتاء .
C.تتساوى ساعات النهار في الصيف والشتاء عند الأقطاب .
D.تمر الأماكن القريبة من القطبين بنهار طويل في الشتاء وليل طويل في الصيف.

السؤال 20: أي الآتي صحيح حسب الصورة؟

A.يكون كل من الشمس والقمر والأرض متعامدين مع بعضهم البعض.
B.تقع الشمس والأرض والقمر على خط مستقيم تماما .
C.يغطي القمر جزءا من الشمس .
D.يغطي القمر الشمس تماما.

السؤال 21: ما الذي يحدث عند تمركز الأرض والقمر والشمس في المواقع المبينة؟



A.خسوف القمر
B.المد والجزر
C.المحاق
D.كسوف الشمس

السؤال 22: أي نوع من الأجسام التالية يمثل كوكب بلوتو مثالاً عليه؟

A.كويكب
B.مذنب
C.كوكب قزم
D.نيزك

السؤال 23: أين يقع النظام الشمسي؟

A.في مركز مجرة درب التبانة .
B.داخل هالة مجرة درب التبانة .
C.بالقرب من الذراع الحلزوني لمجرة درب التبانة .
D.خارج مجرة درب التبانة.

السؤال 24: أي العبارات التالية تفسر بصورة أفضل العلاقة بين نوع المادة العضوية ونوع الوقود الأحفوري؟



A.جميع المواد العضوية تنتج الفحم فقط.
B.جميع المواد العضوية تنتج النفط فقط.
C.نوع المادة العضوية يساعد في تحديد نوع الوقود الأحفوري المتكون.
D.نوع المادة العضوية لا يؤثر في التكوين.

السؤال 25: أرادت دولة زيادة اعتمادها على الطاقة المتجددة مع تقليل التأثير في الطيور المهاجرة. أي مصدر يكون أكثر ملائمة؟

A.طاقة الرياح فقط .
B.الطاقة الشمسية فقط .
C.الفحم.
D.النفط.

NOLOGIA 0566410429

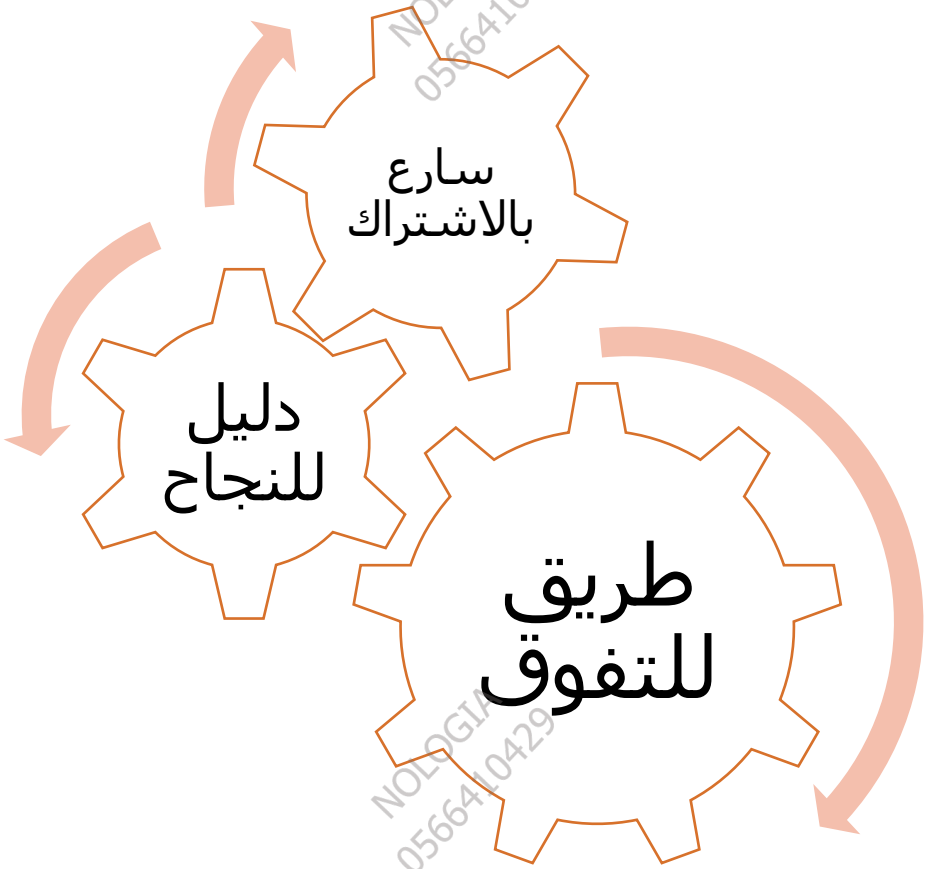

للحجز التواصل عبر الـ Whatsapp من خلال الضغط على الرقم:

0566410429

مع أطيب التمنيات بالنجاح والتوفيق ...

النهاية ...