اختبار الوحدة الأولى

تم تحميل هذا الملف من موقع المناهج الإماراتية
موقع المناهج ⇦ المناهج الإماراتية ⇦ الصف الخامس ⇦ رياضيات ⇦ الفصل الأول ⇦ ملفات متنوعة ⇦ الملف
تاريخ إضافة الملف على موقع المناهج: 30-09-2026 17:04:09

المزيد من مادة رياضيات:	ملفات ا كتب للمعلم ا كتب للطالب ا اختبارات الكترونية ا اختبارات ا حلول ا عروض بوربوينت ا أوراق عمل منهج انجليزي ا ملخصات وتقارير ا مذكرات وبنوك ا الامتحان النهائي ا للمدرس

التواصل الاجتماعي بحسب الصف الخامس					
صفحة المناهج الإماراتية على فيسبوك					
المواد على تلغرام	التربية الاسلامية	اللغة العربية	اللغة الانجليزية	الرياضيات	

المزيد من الملفات بحسب الصف الخامس والمادة رياضيات في الفصل الأول	
1	حل اختبار تجريبي هام وفق الهيكل الوزاري الجديد منهج ريفيل
2	اختبار تجريبي هام وفق الهيكل الوزاري الجديد منهج ريفيل
3	حل أربعة نماذج لاختبار نهاية الفصل وفق الهيكل الوزاري منهج ريفيل
4	أربعة نماذج لاختبار نهاية الفصل وفق الهيكل الوزاري منهج ريفيل
5	عرض بوربوينت حل مراجعة وفق الهيكل الوزاري الجديد منهج ريفيل المسار المتقدم

اختبار الوحدة الأولى للصف الخامس

درجتي

الاسم: _____ الخامس: _____

السؤال الأول

1. القيمة المكانية للعدد الذي تحته خط 3,451,012

a. الآلاف	b. عشرات الآلاف	c. مئات الآلاف	d. الملايين

2. ثلاثة و اربعون مليون و خمسمئة و عشرون الفا و ستمئة و واحد

a. 34,520,601	b. 43,520,601	c. 4,352,601	d. 4,352,061

3. 456,890 4,560,890

a. <	b. >	c. =	d. غير ذلك

4. الكسر $\frac{48}{100}$ في الصورة العشرية و النسبة المئوية:

a. %48 ، 0.48	b. %48 ، 0.048	c. %48 ، 4.8	d. %4.8 ، 0.48

5. اي مما يلي يمثل 0.5

a


b


c
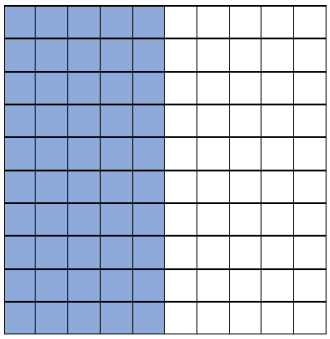

d
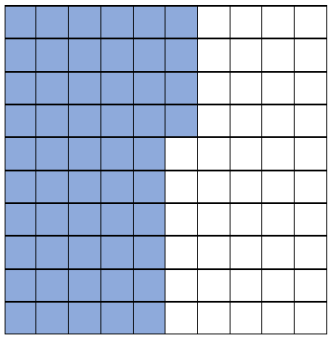

6. $100 \times 5 + 1 \times 3 + 2 \times \frac{1}{10} + 5 \times \frac{1}{100} + 7 \times \frac{1}{1000}$

a. 53.207	b. 503.207	c. 503.257	d. 53.257

7. سبعة و عشرون و اربعة عشر جزء من الف			
e. 27.14	f. 27.014	g. 27.104	h. 7.20

8. الرقم في منزلة الجزء من ألف 3,145.809			
i. 8	j. 0	k. 9	l. 3

9. أي مما يلي صحيح ..... > 34.45			
m. 34.0045	n. 34.55	o. 34.045	p. 34.44

10. اصغر عدد في الاعداد 12 ، 12.01 ، 10.19 ، 9.756 ، 11			
q. 11	r. 12	s. 10.19	t. 9.756

السؤال الثاني

حل المسائل

23. مئتان وخمسون ملّيلترًا يساوي $\frac{250}{1,000}$ لتر. اكتب هذا الكسر على هيئة عدد عشري.

24. ينتقل عبيد من سبرينغفيلد التي يوجد بها 482,653 شخصًا إلى غرينفيل التي يوجد بها 362,987 شخصًا.
هل ينتقل إلى مدينة يوجد بها عدد أكبر أم أصغر من السكان؟ اشرح.

25. يبلغ طول المحيط الهادي مئة وستة وستين مليون ومائتين وواحد وأربعين ألفًا وسبعمئة وأربعة وخمسين كيلومترًا مربعًا. كم عدد الكيلو مترات المربعة في المحيط الهادي بالصيغة القياسية؟

almanahj.com/ae
2026 2025
موقع المناهج الإماراتية